أكاديمية بازيد
BAZAID ACADEMY

اختبار القدرات العامة – القسم الكمّي

كتاب الأقسام

(الأسئلة الأكثر تكرارًا)

بنفس الترتيب والتصنيف
في اختبار القدرات الحقيقي
في قياس 100%

كمّي
أسئلة متنوعة
١١ سؤالًا لكل قسم

ذاكر بذكاء ليس بجهد

BAZAID ACADEMY 2026

★ كل ما تحتاجه في رابط واحد – ادعم رحلتك نحو ٩٠+ في القدرات

اضغط هنا للوصول إلى منصات أكاديمية بازيد

قناة القدرات | قروب مناقشة القدرات | موقع أكاديمية بازيد | خدمة العملاء

www.bazaidacademy.net

- كتاب أقسام الكمي -

SECTION01

القسم الأول

مسائل حسابية . هندسة . جبر . احصاء

II سؤال

مع مفتاح الإجابات

ذاكر بذكاء ليس بجهد

BAZAID ACADEMY 2026

القسم الأول

١ في الشكل التالي ، س بالسنتمتر تساوي :

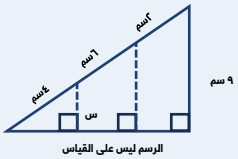

أ ٦ ب ٥
ج ٤ د ٣

٢ قارن بين :
القيمة الأولى : (٠,١)^٢٢ القيمة الثانية : (٠,١)^٣٣

أ القيمة الأولى أكبر ب القيمة الثانية أكبر
ج القيمتان متساويتان د المعطيات غير كافية

٣ ما قيمة س ؟



أ ٣٠ ب ٤٥
ج ٦٠ د ٩٠

٤ متتابعة حسابية فيها س= ، ١٣ وكل حد يزيد عن السابق بـ ٣ ما مقدار مجموع س و الحدود الثلاثة السابقة له ؟

أ ٣٢ ب ٣٣
ج ٣٤ د ٣٥

٥ اذا كان الشكل مستطيل ومساحته ، ٤٨ أوجد احداثيات النقطة (ب)

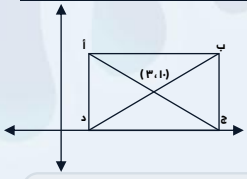

أ ٢ ب ٤
ج ٦ د ١٠

٦ إذا كان لدينا ثلاثة مربعات، و كان المثلث متطابق الأضلاع أوجد قيمة الزاوية س

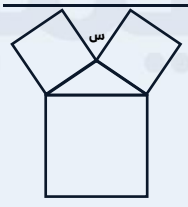

أ ٨ ب ١٢
ج ١٦ د ٢٤

٧ قارن بين :
القيمة الأولى :قياس الزاوية ج القيمة الثانية :القيمة الثانية : ١١

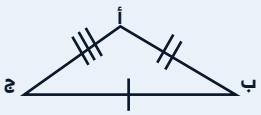



أ القيمة الأولى أكبر ب القيمة الثانية أكبر
ج القيمتان متساويتان د المعطيات غير كافية

٨ في الشكل التالي دائرة مركزها أ ، المثلث أ ب جـ متطابق الأضلاع طول ضلعه ٦سم ، النقطتان م ، ن تنصفان ضلعي المثلث، طول القوس م ن بالسنتمتر يساوي

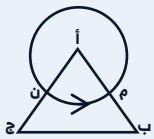

أ ط ب ٣ط
ج ٦ط د ٩ط

٩ م يبلغ متوسط الأرباح في السنوات الثلاث الأولى بملايين الريالات؟

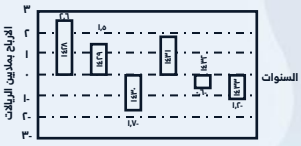

أ -٠,٤ ب -٠,٨
ج ٠,٨ د ٢,٤

١٠ اذا كانت : ٣س -٤ = ٢ ، $\frac{س}{ص}$ = ٤
القيمة الأولى : س القيمة الثانية : ص^٢

أ القيمة الأولى أكبر ب القيمة الثانية أكبر
ج القيمتان متساويتان د المعطيات غير كافية

١١ المثلث أ ب جـ مثلث قائم الزاوية في أ ، فقارن بين :
القيمة الأولى : أ ب + ب ج القيمة الثانية : أ ب + أ ج

أ القيمة الأولى أكبر ب القيمة الثانية أكبر
ج القيمتان متساويتان د المعطيات غير كافية

الجزء القادم
نلقاكم في القسم الثاني
ذاكر بذكاء ليس بجهد - أكاديمية بازيد

مفاتيح الاجوبة

١.د	٢.أ	٣.ب	٤.ج	٥.ج	٦.ب	٧.أ	٨.أ	٩.ج	١٠.أ	١١.أ

- كتاب أقسام الكمي -

SECTION02

القسم الثاني

مسائل حسابية . هندسة . جبر . احصاء

II سؤال

مع مفتاح الإجابات

ذاكر بذكاء ليس بجهد

BAZAID ACADEMY 2026

القسم الثاني

١ ما ترتيب المغرب العربي من حيث عدد السكان؟

المنطقة	عدد السكان (بالمليون)	المساحة (ألف كم²)	المياه المتوفرة (م³/فرد/سنة)	كمية الأمطار (مم سنويا)	المياه المتوفرة (لتر/فرد/سنة)
المشرق العربي	٢٥٦,٧	٢٨٠٠	٣٠٠	١٢٠٠	١٢٠٠٠٠
المغرب العربي	٧١,٣	٥٢٠٠	١٥٠	٩٠٠	٩٠٠٠٠
الشرق الأوسط	٢٥٠	٢٣٤٠	٢٥٠	١٥٠٠	١٥٠٠٠٠
الخليج العربي	٦٩,٦	٢٢٣٨	١٠٠	٣٠٠	٣٠٠٠٠
بقية العالم	٣١٨	١٤٨٠٠٠	٨٠٠	٧٠٠٠	٧٠٠٠٠

أ) الاول　ب) الثاني
ج) الثالث　د) الرابع

٢ ما المنطقة التي تمتلك أعلى نسبة مياه متوفرة لكل فرد؟

الدول	عدد السكان	المياه المتوفرة
المشرق العربي	٢٥٦,٧	٦٣
المغرب العربي	٧١,٣	٢٥٢
الشرق الأوسط	٦٢,٤	٣٢٤
الخليج العربي	٦٩,٨	٢٢٨

أ) المشرق العربي　ب) المغرب العربي
ج) الشرق الأوسط　د) الخليج العربي

٣ قارن بين :
لقيمة الأولى : الزاوية الداخلية للسداسي المنتظم
القيمة الثانية : ١٢٠

أ) القيمة الأولى أكبر　ب) القيمة الثانية أكبر
ج) القيمتان متساويتان　د) المعطيات غير كافية

٤ قارن بين :
لقيمة الأولى : $\frac{١}{٥}$　القيمة الثانية : $\frac{١}{٢٥}$

أ) القيمة الأولى أكبر　ب) القيمة الثانية أكبر
ج) القيمتان متساويتان　د) المعطيات غير كافية

٥ ما نسبة مساحة المثلث أ هـ ج إلى مساحة الشكل :

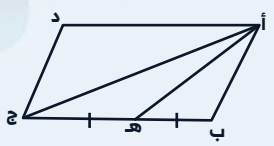

أ) $\frac{١}{٢}$　ب) $\frac{١}{٣}$
ج) $\frac{١}{٤}$　د) $\frac{١}{٨}$

٦ إذا كانت الزاويتان ٦س ، ٤س - ٢٠ متكاملتان، أوجد قيمة س

أ) ١٢　ب) ١٦
ج) ١٨　د) ٢٠

٧ رسوم مدرسة زادت ٢٠ % وكان سعرها قبل الزيادة ١٠٠٠٠ ، ويوجد تخفيض للأخوة ، ٥ % فكم الرسوم للأخوين ؟

أ) ٢٤٠٠٠　ب) ٢١٤٠٠
ج) ٢٢٨٠٠　د) ١١٤٠٠

٨ فستان اذا اضفنا اليه ٥٠٠ ريال اصبح يساوي ٥ امثال قيمه الفستان مطروح منه ٩٠٠ ريال فكم قيمة الفستان ؟

أ) ٣٠٠　ب) ٣٥٠
ج) ٤٠٠　د) ٤٥٠

٩ $\frac{٦٦٦}{٣٣٣} \left(\frac{٤٤٤}{٥٥٥} \div \frac{٤٤٤}{٥٥٥} \right)$

أ) ٢　ب) ٢-
ج) ٦٦٦　د) ٣٣٣

١٠ اي مما يلي ليس عدد أولي ؟

أ) ٧٧　ب) ٨٩
ج) ٣٧　د) ٥٣

١١ ١٥ قلم كل قلم سعره ريالين إذا خصم ١٠ % من سعر الأقلام ، كم سيكون السعر النهائي للأقلام

أ) ٤١　ب) ٣٨
ج) ٢٧　د) ٣٥

الجزء القادم
نلقاكم في القسم الثالث
ذاكر بذكاء ليس بجهد - أكاديمية بازيد

مفاتيح الاجوبة

١. د	٢. ج	٣. ج	٤. أ	٥. ج	٦. د	٧. ج	٨. ب	٩. أ	١٠. أ	١١. ج

- كتاب أقسام الكمي -

SECTION03

القسم الثالث

مسائل حسابية . هندسة . جبر . احصاء

II سؤال

مع مفتاح الإجابات

ذاكر بذكاء ليس بجهد

BAZAID ACADEMY 2026

القسم الثالث

١ بعد سبع سنوات من الان يصبح عُمر أم و٣ من ابنائها ٩٢ عام ،كم يصبح عمرهم بعد ٤ سنوات من الان؟

أ ٨٨ ب ٨٧
ج ٨٦ د ٨٠

٢ الرسم البياني التالي يبين رواتب مواطنين في أقسام مختلفة ، إذا زادت رواتب الموظفين في القسم ب بنسبة ٤٠ % فكم تكون زيادة الراتب بالالاف؟



أ ٨ ب ١٢
ج ٢٤ د ٢٨

٣ ما أكبر فرق بين عدد الطلاب في الهوايات المختلفة ؟



أ ٣٠ ب ٤٠
ج ٥٠ د ٦٠

٤ قارن من حيث المساحة:
القيمة الأولى :ا
القيمة الثانية : ٢



أ القيمة الأولى أكبر ب القيمة الثانية أكبر
ج القيمتان متساويتان د المعطيات غير كافية

٥ أذا كان المثلثان متشابهان أوجد طول $\overline{ب ج}$

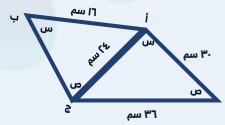

أ ١٥ ب ١٦
ج ٢٠ د ٣٠

٦ ثلاثة اشجار عند الزوايا $\hat{ا}, \hat{٢}, \hat{٣}$ ما أكبر زاوية ؟

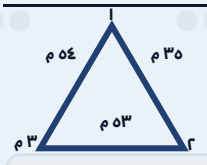

أ $\hat{ا}$ ب $\hat{٢}$
ج $\hat{٣}$ د جميع الزوايا متطابقة

٧ إذا كانت ٤ > س ، فقارن بين :

القيمة الأولى : $\frac{٤}{س+١}$ القيمة الثانية : $\frac{س-١}{٥}$

أ القيمة الأولى أكبر ب القيمة الثانية أكبر
ج القيمتان متساويتان د المعطيات غير كافية

٨ إذا كانت ، س + $\frac{٥}{٢} = \frac{٤}{٥} + \frac{٧}{١٠}$

أ $\frac{١}{٣}$ ب $-\frac{٣}{٢}$
ج -١ د ٢

٩ أوجد القيمة التالية : $\frac{٣٩+٢٩}{٤٣}$

أ ٨ ب ١٠
ج ١٢ د ١٤

١٠ أوجد قيمة : $\sqrt{٠.٠٠١٦}$

أ ٠.٢ ب ٠.٤
ج ٠.٠٢ د ٠.٠٤

١١ س ، ٢ ، ا ، ٣ ، المتوسط الحسابي لهذه الاعداد يساوي المنوال فأوجد المنوال

أ صفر ب ١
ج ٢ د ٣

الجزء القادم
نلقاكم في القسم الرابع
ذاكر بذكاء ليس بجهد - أكاديمية بازيد

مفاتيح الاجوبة

١.د	٢.أ	٣.ج	٤.د	٥.ج	٦.ب	٧.د	٨.ج	٩.ب	١٠.ب	١١.ج

- كتاب أقسام الكمي -

SECTION04

القسم الرابع

مسائل حسابية . هندسة . جبر . احصاء

11 سؤال

مع مفتاح الإجابات

ذاكر بذكاء ليس بجهد

BAZAID ACADEMY 2026

القسم الرابع

١ $\left(\frac{أ}{ب}\right)^{٢} \times \left(\frac{ب}{أ}\right)^{٣} \times \left(\frac{أ}{ب}\right)^{٤} \times \left(\frac{ب}{أ}\right)^{٥}$

أ) $\left(\frac{أ}{ب}\right)^{٣}$ ب) $\left(\frac{ب}{أ}\right)^{٢}$

ج) $\left(\frac{أ}{ب}\right)^{٢}$ د) $\left(\frac{ب}{أ}\right)^{٣}$

٢ أقل عدد تقبل مجموع زوايا الخماسي و السداسي و الثلاثي القسمة عليه؟

أ) ٣٠ ب) ٦٠

ج) ٥٠ د) ٤٠

٣ إذا زادت س بنسبة ٢٠% ونقصت ص بنسبة ٢٠% فأصبحت س ، ص متساويتان ، أوجد نسبة س الى ص؟

أ) ٢:١ ب) ٣:١

ج) ٣:٢ د) ٤:١

٤ عند رمي قطعة نقدية ٤مرات، ما احتمال أن تظهر الكتابة في الأربع مرات معاً؟

أ) $\frac{١}{١٦}$ ب) $\frac{١}{١٢}$

ج) $\frac{١}{٨}$ د) $\frac{٣}{٤}$

٥ في الشكل التالي احسب محيط المستطيل



أ) ٢ ب) ٤

ج) ٦ د) ١٠

٦ وزعت ٦٤طابعة و ٤٨ حاسبة على عدد من الغرف بحيث يكون عدد الطابعات والحاسبات متساوي في كل غرفة ،ما أكبر عدد من الطابعات و الحاسبات في كل غرفة؟

أ) ٨ ب) ١٢

ج) ١٦ د) ٢٤

٧ ربع دائرة نصف قطر دائرتها ، ٨ أوجد محيط الشكل المجاور.

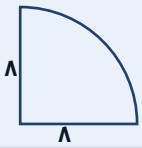

أ) ١٦ط + ١٦ ب) ٤ط + ١٦

ج) ٨ط + ١٦ د) ٦ط + ١٦

٨ إذا كانت الزاويتان ٦س ، ٤س - ٢٠متكاملتان، أوجد قيمة س

أ) ١٢ ب) ١٦

ج) ١٨ د) ٢٠

٩ إذا كانت نسبة الموظفين الغير سعوديين في الشركة (أ) ٣٠ % ، وعددالموظفين الشركة (ب) نصف عدد موظفين ، ونسبة الموظفين الغير سعوديين في الشركة (ب) ٤٠% أوجد نسبة الموظفين الغير سعوديين في الشركتين؟

أ) ٢٠ % ب) ٢٥ %

ج) ٣٣ % د) ٣٥ %

١٠ في الشكل المجاور : أوجد قيمة هـ

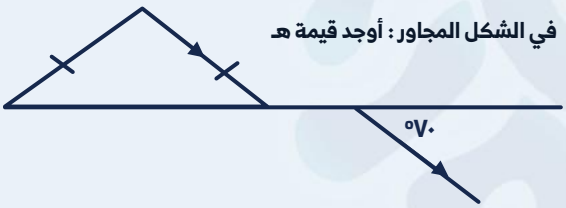

أ) ٧٠ ب) ١١٠

ج) ٤٠ د) ٦٠

١١ طابعة تطبع كتاب من صفحة ١ وطبعت ٢٥٨ رقم في ترقيم صفحات الكتاب ، كم عدد صفحات الكتاب ؟

أ) ١٢١ ب) ١٢٣

ج) ١٢٢ د) ١٢٤

الجزء القادم

نلقاكم في القسم الخامس

ذاكر بذكاء ليس بجهد - أكاديمية بازيد

مفاتيح الاجوبة

١.ب	٢.أ	٣.ج	٤.أ	٥.ج	٦.ج	٧.ب	٨.د	٩.ج	١٠.ج	١١.ب

- كتاب أقسام الكمي -

SECTION05

القسم الخامس

مسائل حسابية . هندسة . جبر . احصاء

11 سؤال

مع مفتاح الإجابات

ذاكر بذكاء ليس بجهد

BAZAID ACADEMY 2026

القسم الخامس

١ ١٠ صناديق يوجد بها أقلام حبر و رصاص ، ٤ منهم حبر و ٥ رصاص و٢حبر ورصاص ، كم عدد الصناديق الفارغة ؟

أ ٢ ب ٣
ج ٤ د ٥

٢ اذا تضاعف النفايات المعدنية على حساب الورقية ، كم تصبح نسبة النفايات الورقية ؟

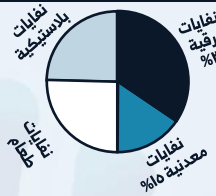

أ ٣٠ % ب ٢٥ %
ج ٢٠ % د ١٥ %

٣ كم عدد يمكن تكوينه من الأرقام (١،٢،٣،٥) بدون تكرار ؟

أ ٢٤ ب ٣٢
ج ٥٤ د ٦٤

٤ إذاكانت س^{٣} =٣٤٣ أوجد قيمة س

أ ٦ ب ٧
ج ٨ د ٩

٥ إذا كان ٢^{ن} + ٢^{ن} + ٢^{ن} + ٢^{ن} = ٢^{٨} ماقيمة (ن)؟

أ ٢ ب ٤
ج ٦ د ٨

٦ سيارة تقطع مسافة ٧٢كلم في ٣٢ دقيقة فكم سرعتها بال كلم / س

أ ١١٠ ب ١٣٥
ج ١٦٠ د ٢٢٥

٧ إذاكان طول ضلع المربع = ٢٠سم
احسب مساحة الجزء المظلل بالأسود



أ ١٥٧ ب ٣١٤
ج ٦٢٨ د ٤٠٠

٨ إذا كان سعر لتر الوقود ٥ريال فما اكثر حافلة موفرة للوقود؟

الحافلة	المسافة	اجرة السائق	التكلفة
الأولى	١٠٠٠	٦٠٠	١١٠٠
الثانية	١٨٠٠	٤٠٠	١١٥٠
الثالثة	١٥٠٠	٥٠٠	١٢٥٠
الرابعة	١٢٠٠	٥٠٠	١٥٠٠

أ الأولى ب الثانية
ج الثالثة د الرابعة

٩ إذا كان ٢^{١٥} يقبل القسمه على س ، فإي القيم الآتية يمكن أن تكون قيمة س؟

أ ٣٢ ب ٣٠
ج ٢٠ د ١٢

١٠ دفع احمد ٤٥ % من تكلفة بناء مسجد وفهد دفع ٢٥ % وتبقى ٣٦٠٠٠٠كم تكلفة المسجد كاملة

أ ١٢٠٠٠٠ ب ٣٦٠٠٠٠
ج ٢٤٠٠٠٠ د ١٠٠٠٠٠

١١ اذا كان س - ص = ل ، س + ص = م أوجد قيمة س - ص

أ ل م ب ل + م
ج $\frac{ل}{م}$ د $\frac{م}{ل}$

الجزء القادم
نلقاكم في القسم السادس
ذاكر بذكاء ليس بجهد- أكاديمية بازيد

مفاتيح الاجوبة

١.ب	٢.ج	٣.د	٤.ب	٥.ج	٦.ب	٧.ج	٨.ب	٩.أ	١٠.أ	١١.ج

- كتاب أقسام الكمي -

SECTION06

القسم السادس

مسائل حسابية . هندسة . جبر . احصاء

11 سؤال

مع مفتاح الإجابات

ذاكر بذكاء ليس بجهد

BAZAID ACADEMY 2026

القسم السادس

١ ١٠ مضروبة في نفسها ٢٠مره =

أ) ١٠ × ٢٠ ب) ٢٠^١٠
ج) ١٠ + ٢٠ د) ١٠^٢٠

٢ اذا كان ٨ اشخاص يجلسون على ٣ طاولات كما هو مبين بالشكل، كم شخص يمكنهم الجلوس على ٣اطاولة؟

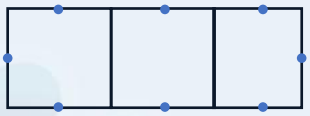

أ) ٣٠ ب) ٣٩
ج) ٢٨ د) ٢٥

٣ القيمة الأولى : عدد الدقائق من ٩:١٢مساء الى ٩:٠٢مساء اليوم التالي.
القيمة الثانية: ١٤٩٠دقيقة

أ) القيمة الأولى أكبر ب) القيمة الثانية أكبر
ج) القيمتان متساويتان د) المعلومات غير كافية

٤ مجموع الحوادث في عام ١٤٣٠هـ بلغت ١٨٠٠٠٠،
أوجد الحوادث بسبب السرعة ؟



أ) ٦٣٠٠٠ ب) ٦٠٠٠٠
ج) ٦٥٠٠٠ د) ٦٨٠٠٠٠

٥ إذا كان مع محمد ١٩٥ ريال من فئة ٥ ، ١٠ ، ٥٠ وعدد الأوراق من كل فئة متساوي ، فكم عدد الاوراق من كل فئة؟

أ) ١ ب) ٢
ج) ٣ د) ٤

٦ في الشكل التالي ، دائرة مركزها م ، ونصف قطرها ٤ سم ، كم سنتيمترا مربعا مساحة الجزء المظلل ؟



أ) ١٢ ط ب) ١٠ ط
ج) ٦ ط د) ٤ ط

٧ اذا كان المسافة من س إلى ص = ١٢ والمسافات بينهما متساوية
قارن بين :
القيمة الأولى : ٣ القيمة الثانية : س ل



أ) القيمة الأولى أكبر ب) القيمة الثانية أكبر
ج) القيمتان متساويتان د) المعلومات غير كافية

٨ قارن بين :
القيمة الأولى : مساحة المظلل
القيمة الثانية : ٨ سم^٢

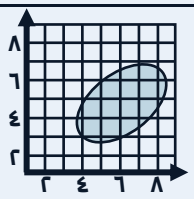

أ) القيمة الأولى أكبر ب) القيمة الثانية أكبر
ج) القيمتان متساويتان د) المعلومات غير كافية

٩ يقوم ٦ عمال في ٦ أيام بإنجاز ٦مجسمات ، ففي كم يوم يقوم ١٢ عامل من إنجاز ٢٤مجسم ؟

أ) ٦ ب) ١٢
ج) ٢٤ د) ٤٨

١٠ في الشكل المجاور ، أوجد قيمة س :

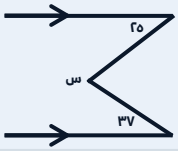

أ) ٦٢ ب) ٢٩٨
ج) ٢٦٢ د) ٢٦٨

١١ في الشكل المجاور ، أوجد محيط المربع ؟

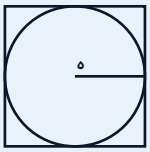

أ) ٢٠ ب) ٣٠
ج) ٤٠ د) ١٠٠

الجزء القادم
نلقاكم في القسم السابع
ذاكر بذكاء ليس بجهد - أكاديمية بازيد

مفاتيح الاجوبة

١.ب	٢.ج	٣.ب	٤.أ	٥.ج	٦.د	٧.ب	٨.أ	٩.ب	١٠.ب	١١.ج

- كتاب أقسام الكمي -

SECTION07

القسم السابع

مسائل حسابية . هندسة . جبر . احصاء

11 سؤال

مع مفتاح الإجابات

ذاكر بذكاء ليس بجهد

BAZAID ACADEMY 2026

القسم السابع

١ يستخدم أحمد العد القفزي بمقدار ٥أعداد، ويستخدم ناصر العد القفزي بمقدار ٣أعداد، فإذا كانت بدايتهما من الصفر ونهايتهما قبل العدد ، ١٠٠ فكم عدد الأعداد المشتركة بينهما؟

أ ٤ ب ٥
ج ٦ د ٧

٢ مساحة الشكل = ...

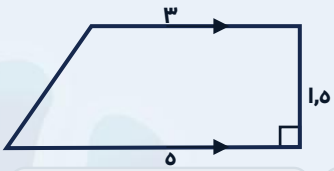

أ ٦ ب ٦,٥
ج ٤ د ٤,٥

٣ إذاكانت النقطتين أ ج تحصران ربع قوس الدائرة والنقطة ب تقع في مركز الدائرة، قارن بين :
القيمة الأولى : الزاوية أ ب ج
القيمة الثانية: ٩٠°



أ القيمة الأولى أكبر ب القيمة الثانية أكبر
ج القيمتان متساويتان د المعلومات غير كافية

٤ ما متوسط أول ثلاث سنوات ؟

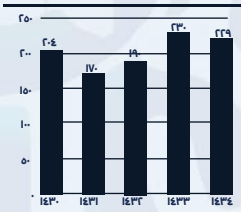

أ ١٨٠ ب ١٨٥
ج ١٨٨ د ٢٠٠

٥ إذا كان طول ضلع المربع ١٠ وزاد إثنان، كم نسبة الزيادة في المساحة ؟

أ ١٢ % ب ٢٠ %
ج ٣٦ % د ٤٤ %

٦ إذا أعطى حمزة ٣ريال لإبراهيم فأصبحت النسبة بينهم لنسبة ٢ : ١ و إذا أعطى إبراهيم لحمزة ريالين أصبحت النسبة بينهما ١ : ٣ كم المبلغ مع حمزة ؟

أ ١٧ ب ٣٣
ج ٤٣ د ٤٥

٧ الشكل التالي يبين أطوال واللون المفضل لطلاب فصل، كم عدد الطلاب الذين يفضلون اللون الأصفر ؟

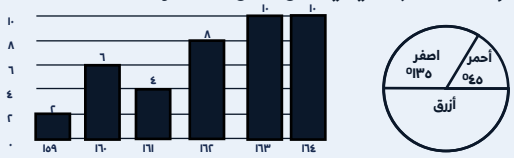

أ ١٠ ب ١٥
ج ٢٠ د ٢٥

٨ إذا كان أ = $\frac{١}{ب}$ ، ب = $\frac{١}{ج}$ ، ج = $\frac{١}{د}$ ، د = $\frac{٦٤}{٤٩}$ كم ناتج (أ+ج)د؟

أ ٨ ب ٦
ج ٤ د ٢

٩ قارن بين
القيمة الأولى: $\left(\frac{٤}{٥}\right)^{١٠}$ القيمة الثانية: $\left(\frac{٤}{٥}\right)^{٥} \times \left(\frac{٤}{٥}\right)^{٢}$

أ القيمة الأولى أكبر ب القيمة الثانية أكبر
ج القيمتان متساويتان د المعلومات غير كافية

١٠ في العملية التالية : ١٢ ÷ ٦ ٥ أوجد باقي القسمة

أ ٢ ب ٤
ج ٦ د ٨

١١ اوجد قيمة :

$$\frac{\frac{١}{٣}}{\frac{١}{٣}+١} + \frac{١}{٣}$$

أ $\frac{٣}{٤}$ ب $\frac{٧}{١٢}$
ج ٥ د ١٢

الجزء القادم
نلقاكم في القسم الثامن
ذاكر بذكاء ليس بجهد - أكاديمية بازيد

مفاتيح الاجوبة

١.ب	٢.أ	٣.ج	٤.ج	٥.د	٦.ج	٧.ب	٨.د	٩.ب	١٠.ب	١١.ب

- كتاب أقسام الكمي -

SECTION08

القسم الثامن

مسائل حسابية . هندسة . جبر . احصاء

11 سؤال

مع مفتاح الإجابات

ذاكر بذكاء ليس بجهد

BAZAID ACADEMY 2026

القسم الثامن

١ طالب أعار أصدقاءه ٦كتب وقام باستعارة ٤ كتب من مكتبة الحي فأصبح معه ٢٨كتاب ، كم كان عدد الكتب معه؟

أ) ٢٤ ب) ٣٠
ج) ٣٢ د) ٣٦

٢ اذا كان المثلث متطابق الاضلاع و محيط المثلث = ٢٤ أوجد مساحة الشكل



أ) ٨ √(٣) ٣ + ط) ب) ٢ √(٤) ٢ + ط٣)
ج) ١٦ √(٣) ٣ + ٢ط) د) ٢ √(٨) ٦ + ٢ط)

٣ في الشكل المجاور ، مربع أقتطع أحد أركانه، كم متراً مربعاً مساحة الجزء المتبقي؟



أ) ٦٤ ب) ٥٨
ج) ٤٤ د) ٤٠

٤ إذا تم تقسيم الشكل المجاور إلى قطع متساوية ، ما نسبة مساحة المظلل إلى الشكل؟



أ) ٢٥ % ب) ٤٠ %
ج) ٥٠ % د) ٦٠ %

٥ في الشكل المجاور: ٧مربعات ، مساحة المربع الواحد ١٦ سم ، أوجد محيط الشكل

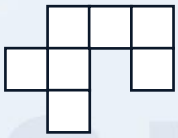

أ) ١٦ ب) ٣٢
ج) ٦٤ د) ١١٢

٦ في الشكل المجاور :إسطوانة مملوءة بعصير
قارن بين :
القيمة الأولى : كمية العصير القيمة الثانية : ٧٥٠



أ) القيمة الأولى أكبر ب) القيمة الثانية أكبر
ج) القيمتان متساويتان د) المعلومات غير كافية

٧ اذا كانت نسبة عدد الكرات الحمراء لغير الحمراء تمثل فكم $\frac{١}{٤}$ النسبة المئوية للكرات الحمراء؟

أ) ٢٥ % ب) ٣٠ %
ج) ٥٠ % د) ٧٥ %

٨ ما مجموع ارقام العدد ٩٩٩ ٢

أ) ٢٧ ب) ٣٦
ج) ٤٥ د) ٥٤

٩ ما الأكثر ثباتًا طوال العام ؟

الفصول الاربعة	الاكسسوارات	الطابعات	الجوالات	الكمبيوترات
فصل الربيع	١٥	٢٠	١٥	١٠
فصل الصيف	١٥	٢٢	٣٥	٢٥
فصل الشتاء	١٤	٢٤	٤٥	٢٥
فصل الخريف	١٥	٢٥	٦٠	٥٥

أ) الإكسسوارات ب) الطابعات
ج) الجوالات د) الكمبيوترات

١٠ الشكل التالي مستطيل داخل دائرة، ما المعطي الذي لا يفيد في حساب مساحة الدائرة ؟

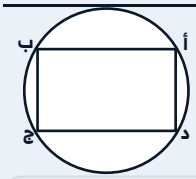

أ) أ ب = ٨سم، أ د = ٦سم ب) محيط الدائرة = ١٠ط
ج) مساحة المستطيل = ٤٨سم د) مجموع قطري المستطيل = ٢٠سم

١١ إذا كانت نسبة عدد الأطفال إلى عدد الرجال إلى عدد النساء هي ١ : ٣ : ٥ على التوالي،بعد أن تم إضافة ٢٠ طفلا جديداً إلى القرية، أصبحت نسبة عدد الأطفال إلى عدد الرجال ١ : ٢ ، فكم عددهم الكلي ؟

أ) ٣٨٠ ب) ٣٦٠
ج) ٢٨٠ د) ٢٤٠

الجزء القادم
نلقاكم في القسم التاسع
ذاكر بذكاء ليس بجهد - أكاديمية بازيد

مفاتيح الاجوبة

١.ب	٢.أ	٣.ب	٤.ج	٥.ج	٦.أ	٧.أ	٨.أ	٩.أ	١٠.ج	١١.أ

- كتاب أقسام الكمي -

SECTION09

القسم التاسع

مسائل حسابية . هندسة . جبر . احصاء

11 سؤال

مع مفتاح الإجابات

ذاكر بذكاء ليس بجهد

BAZAID ACADEMY 2026

القسم التاسع

١ الشكل التالي يمثل مصروفات سلطان شهريا إذا كان اجمالي مصروفاته ٥٠٠٠ريال شهريا ، نسبة ما صرفه في السفر ٦٥ % مما صرف في الترفيه، أوجد المبلغ الذي صرفه سلطان في السفر

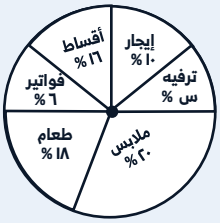

أ) ١٦٥٠ ب) ٦٥٠
ج) ٣٢٥ د) ٢٥٠

٢ مثلث قائم طول وتره = ٢٠ ، وطول أحد الأضلاع القائمة فيه ١٠√٣ فما قياس الزاوية الصغرى س ؟

أ) س = ٦٠ ب) س = ٣٠
ج) س > ٣٠ د) ٦٠ > س > ٣٠

٣ إذا كان : س = ٦ + ٢√٣ ، ص = ٦ - ٢√٣ ، أوجد قيمة س ص

أ) ١٥ ب) ١٦
ج) ١٨ د) ٢٥

٤ إذا كان م = ٣١/٥٠ ، ن = ٥٩/١٠٠ ، ل = ٢٩٩/٥٠٠ ، فأي من الآتي ترتيبهم تصاعدياً ؟

أ) ن ، ل ، م ب) ن ، م ، ل
ج) م ، ن ، ل د) م ، ل ، ن

٥ إذا كان $\frac{ا}{٣^{٢-ن}} > \frac{ا}{٢٧}$ ، قارن بين:

القيمة الأولى: ن القيمة الثانية: ا

أ) القيمة الأولى أكبر ب) القيمة الثانية أكبر
ج) القيمتان متساويتان د) المعلومات غير كافية

٦ إذاكانت نسبة الشاحنات إلى السيارات = $\frac{ا}{٣}$ ، قارن بين :

القيمة الأولى : سبة السيارات إلى الشاحنات

القيمة الثانية : $\frac{ا}{٣}$

أ) القيمة الأولى أكبر ب) القيمة الثانية أكبر
ج) القيمتان متساويتان د) المعلومات غير كافية

٧ احسب قيمة: (٢٥٠٠٢)٢ - (٢٤٩٩٨)٢

أ) ١٠٠٠٠٠ ب) ١٥٠٠٠٠
ج) ٢٠٠٠٠٠ د) ٤٠٠٠٠٠

٨ إذا كان سعر السهم يوم الأحد ١٠٠ريال ويوم الثلاثاء زاد ٢٠ % ، ويوم الأربعاء زاد عن يوم الثلاثاء ١٠ % ،ما سعر السهم يوم الأربعاء ؟

أ) ١١٦ ب) ١٢٨
ج) ١٣٢ د) ١٤٨

٩ كم عدد الأعداد الفردية المكونة من رقمين، بحيث يكون الرقم في خانة العشرات أكبر من الرقم ٣؟

أ) ٢٥ ب) ٢٨
ج) ٣٠ د) ٣٥

١٠ إذا كان طول و ج = ثلاث أضعاف طول د و ومساحة المثلث أ د و = ٧
أوجد مساحة المستطيل

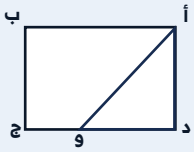

أ) ٢٦ ب) ٣٢
ج) ٥٦ د) ٤٨

١١ الشكل التالي يمثل مصروفات سلطان شهريا إذا كان اجمالي مصروفاته ٥٠٠٠ريال شهريا ، ما المبلغ الذي دفعه في الطعام ؟



أ) ٨٠٠ ب) ٩٠٠
ج) ١٠٠٠ د) ١١٠٠

الجزء القادم
نلقاكم في القسم العاشر
ذاكر بذكاء ليس بجهد - أكاديمية بازيد

مفاتيح الاجوبة

١. ب	٢. ب	٣. ج	٤. أ	٥. ب	٦. أ	٧. ج	٨. ج	٩. ج	١٠. ج	١١. د

- كتاب أقسام الكمي -

SECTION10

القسم العاشر

مسائل حسابية . هندسة . جبر . احصاء

11 سؤال

مع مفتاح الإجابات

ذاكر بذكاء ليس بجهد

BAZAID ACADEMY 2026

القسم العاشر

١ الشكل المجاور مستطيل قارن بين :
القيمة الأولى : نسبة المظلل إلى الشكل القيمة الثانية : $\frac{١}{٣}$



أ القيمة الأولى أكبر
ب القيمة الثانية أكبر
ج القيمتان متساويتان
د المعلومات غير كافية

٢ إذا كان ص تتناسب عكسياً مع س ، ص=٤ عندما س=٦
أوجد قيمة ص عندما س=١٢

أ ٢
ب ٤
ج ٦
د ٨

٣ مستطيلين متلاصقين ببعضهما متطابقين
طول ضلعيهما ٤ ، ٢ ، كم محيط الشكل؟



أ ٨
ب ١٢
ج ٢٠
د ٢٤

٤ اذا كانت ٤ = ١٠٢٤ ، أوجد قيمة س

أ ٣
ب ٤
ج ٥
د ٧

٥ اسطوانة مملؤة إلى ثلثها أضفنا ١٠ لتر أصبحت مملوه إلى النصف فكم سعتها ؟

أ ٣٠
ب ٤٥
ج ٥٥
د ٦٠

٦ سلعة زاد سعرها ٥٠ % خُفض ، ٢٥ % فما نسبة السعر الجديد بالنسبة للسعر الأصلي؟

أ ١٢٥ %
ب ١١٢,٥ %
ج ٨٧,٥ %
د ٧٥ %

٧ مع سعد ٤٥ريالاً، مكونة من ورقة من فئة ٥ريالات، و ورقتين من فئة ١٠ريالات، و ورقة من فئة ٢٠ريال، إذا اشترى كتاباً ودفع ثمنه دون أن يسترجع أي مبلغ من البائع فما الاحتمالات الممكنة لسعر الكتاب ؟

أ ٦
ب ٩
ج ١١
د ١٣

٨ مانسبة الأسلحة الغير تالفة؟

العدد الكلي للأسلحة	١٢٠ رشاش
الأسلحة التالفة جزئياً	٣٥ رشاش
الأسلحة التالفة كلياً	٤٥ رشاش

أ ٣٠ %
ب ٣٣ %
ج ٤٠ %
د ٦٧ %

٩ قارن بين :
القيمة الاولى : شخص دفع مقدم ١٠٠٠ ثم ٣٠٠ ريال شهرياً
القيمة الثانية : شخص دفع ١٦٠٠ مقدم ثم ٢٠٠ ريال شهرياً

أ القيمة الأولى أكبر
ب القيمة الثانية أكبر
ج القيمتان متساويتان
د المعلومات غير كافية

١٠ سيارتان انطلقوا في نفس الوقت ، الاولى انطلقت من المدينة أ الى المدينة ب بسرعة ١٢٠كلم/س ، و الثانية أنطلقت من المدينة ب الى المدنية أ بسرعة ٩٠كلم/س ، بعد كم دقيقة تلتقي السيارتان علما أن المسافة بين المدينتين ٤٢٠كلم؟

أ ٦٠
ب ٩٠
ج ١٠٥
د ١٢٠

١١ استثمر محمد في الأسهم مبلغ ٤٠٠٠٠ريال، فخسر النصف، ثم خسر نصف ما تبقى، ثم خسر نصف ماتبقى، ما المبلغ الذي بقي معه ؟

أ ٢٥٠٠
ب ٥٠٠٠
ج ١٠٠٠٠
د ١٥٠٠٠

الجزء القادم
نلقاكم في القسم الحادي عشر
ذاكر بذكاء ليس بجهد - أكاديمية بازيد

مفاتيح الاجوبة

١.ج	٢.أ	٣.ج	٤.ج	٥.د	٦.ب	٧.ب	٨.ب	٩.د	١٠.د	١١.ب

- كتاب أقسام الكمي -

SECTION11

القسم الحادي عشر

مسائل حسابية . هندسة . جبر . احصاء

11 سؤال

مع مفتاح الإجابات

ذاكر بذكاء ليس بجهد

BAZAID ACADEMY 2026

القسم الحادي عشر

١ قارن بين :
القيمة الأولى : مساحة المربع
القيمة الثانية : مساحة المستطيل

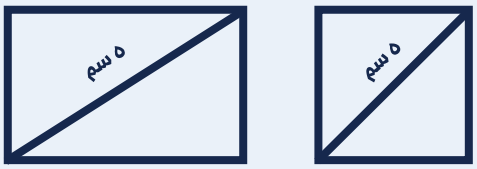

أ القيمة الأولى أكبر
ب القيمة الثانية أكبر
ج القيمتان متساويتان
د المعلومات غير كافية

٢ قارن بين :
القيمة الأولى : $٨^{٦}$
القيمة الثانية : $٦^{٨}$

أ القيمة الأولى أكبر
ب القيمة الثانية أكبر
ج القيمتان متساويتان
د المعلومات غير كافية

٣ تبعد الأحساء عن الرياض مسافة ٣٦٠ كلم ، يقطعها أحمد في ٢٤٠ دقيقة ، كم يقطع في الساعة الواحده ؟

أ ٩٠
ب ٨٠
ج ٧٠
د ٦٠

٤ ماقيمة س ؟



أ ٣٠
ب ٤٥
ج ٦٠
د ٩٠

٥ إذا كان $٢^{ن} + ٢^{ن} + ٢^{ن} + ٢^{ن} = ٢^{٨}$

أ ٢
ب ٤
ج ٦
د ٨

٦ قارن بين :
القيمة الأولى : $٩٩^{\frac{١}{٢}} + ٩٩^{\frac{١}{٢}}$
القيمة الثانية : ٣٣

أ القيمة الأولى أكبر
ب القيمة الثانية أكبر
ج القيمتان متساويتان
د المعلومات غير كافية

٧ إذا كان ٢٠ ل = ١٦ ، ١٠ م = ٢٠ ، ٤ ن = ١٠
فما قيمة ل × م × ن ؟

أ ٢
ب ٨
ج ١٠
د ٢٠

٨ دائرة بداخلها مستطيل أطوال اضلاعه ، ٣ ، ٤ أوجد محيط الدائرة

أ ٣ ط
ب ٤ ط
ج ٥ ط
د ٦ ط

٩ قارن بين :
القيمة الاولى : $٨^{١٠}$
القيمة الثانية : $(٤٣)^{٥}$

أ القيمة الأولى أكبر
ب القيمة الثانية أكبر
ج القيمتان متساويتان
د المعلومات غير كافية

١٠ الأربع هللات كم تساوي بالريال ؟

أ ٤
ب ٠,٤
ج ٠,٠٤
د ٠,٠٠٤

١١ اوجد قيمة :
$$\frac{٠,٠١ \times ٠,٠١ \times ٠,٠٢ \times ٠,٠٢}{٠,٠٢ \times ٠,٠٢ \times ٠,٠٤ \times ٠,٠٤}$$

أ $\frac{١}{٢}$
ب $\frac{١}{٤}$
ج $\frac{١}{٦}$
د $\frac{١}{٥}$

الجزء القادم
نلقاكم في القسم الثاني عشر
ذاكر بذكاء ليس بجهد - أكاديمية بازيد

مفاتيح الاجوبة

١. أ	٢. أ	٣. أ	٤. ب	٥. ج	٦. ب	٧. أ	٨. ج	٩. ب	١٠. ج	١١. ب

- كتاب أقسام الكمي -

SECTION12

القسم الثاني عشر

مسائل حسابية . هندسة . جبر . احصاء

II سؤال

مع مفتاح الإجابات

ذاكر بذكاء ليس بجهد

BAZAID ACADEMY 2026

القسم الثاني عشر

١ ما نسبة زيادة ميزانية المعهد من عام ١٤٢٨ إلى عام ١٤٢٩؟

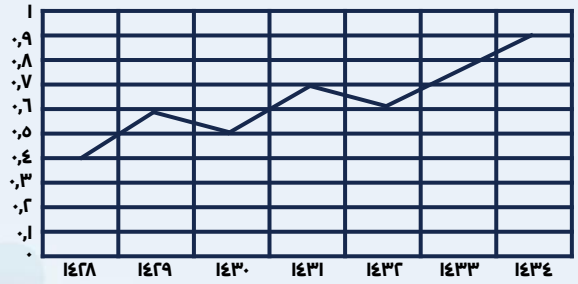

أ ٧٥ %　ب ٥٠ %
ج ٣٣ %　د ٢٠ %

٢ إذاكان مجموع ثلاث أعداد فردية متتالية يساوي ٥٧، أوجد مجموع الأول و الثاني

أ ٣١　ب ٣٦
ج ٣٨　د ٣٥

٣ إذا كانت نسبة عدد الأطفال إلى عدد الرجال إلى عدد النساء هي ١:٣:٥ على التوالي،بعد أن تم إضافة ٢٠ طفلاً جديداً إلى القرية، أصبحت نسبة عدد الأطفال إلى عدد الرجال ١:٢ ، فكم عددهم الكلي ؟

أ ٣٨٠　ب ٣٦٠
ج ٢٨٠　د ٢٤٠

٤ شخص لديه عاملين ونسبة الأجر لكل منهما ٥ : ٦ والفرق بينهم بالأجر،فكم دفع الشخص لهما ؟

أ ١١٠٠　ب ٣١٠٠
ج ٢٠٠٠　د ٢٢٠٠

٥ إذا كان عُمر محمد أكبر من عُمر وليد ، وعُمر وليد أصغر من عُمر علي
قارن بين :
القيمة الأولى : عُمر محمد　القيمة الثانية : وعُمر علي

أ القيمة الأولى أكبر　ب القيمة الثانية أكبر
ج القيمتان متساويتان　د المعلومات غير كافية

٦ $\frac{س^{٥}}{٣٦} = \frac{٤}{\frac{١}{٢} \times ٩}$

أ ٢　ب ٤
ج ٦　د ٨

٧ اذا كانت : ٥ × ٥ × ٥ × ٥س = ١٠ × ١٠ × ص
قارن بين :
القيمة الاولى : س　القيمة الثانية : ص

أ القيمة الأولى أكبر　ب القيمة الثانية أكبر
ج القيمتان متساويتان　د المعلومات غير كافية

٨ اذا كان الصفر أكبر عدد فإن باقي الاعداد ؟

أ موجبة　ب سالبة
ج سالبة وموجبة　د نصفها سالبة

٩ $\frac{٩^{١٢} \times ٣^{٤}}{٣^{٢}}$

أ $٣^{٢٢}$　ب $٣^{٢٤}$
ج $٣^{٢٦}$　د $٣^{٢٨}$

١٠ في الرسم البياني التالي، أوجد متوسط درجات الطلاب في الربع الثاني

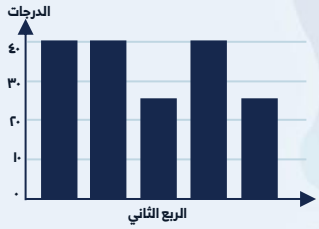

أ ٤　ب ٠,٤
ج ٠,٠٤　د ٠,٠٠٤

١١ من الشكل المجاور ، أوجد عدد غير المدخنين لعام ١٤٤٥ هـ

العام	المدخنين	غير المدخنين	المقلعين	النسبة المئوية للمقلعين إلى غير المدمنين
١٤٤٣ هـ	٨٦٤	٣٢١	٦٥	٢٨ %
١٤٤٤ هـ	٧٧٥	٣٣٢	٨٩	٢٦ %
١٤٤٥ هـ	٦٧٧	س	٢٨٠	٦٩ %
١٤٤٦ هـ	٥٥٤	٤٣٠	٢٢٠	٥١ %

أ ٢٠٢　ب ٣٠٣
ج ٤٠٤　د ٥٠٥

الجزء القادم
نلقاكم في القسم الثالث عشر
ذاكر بذكاء ليس بجهد - أكاديمية بازيد

مفاتيح الاجوبة

١. ب	٢. ب	٣. أ	٤. أ	٥. د	٦. أ	٧. د	٨. ب	٩. ج	١٠. ج	١١. ج

- كتاب أقسام الكمي -

SECTION13

القسم الثالث عشر

مسائل حسابية . هندسة . جبر . احصاء

11 سؤال

مع مفتاح الإجابات

ذاكر بذكاء ليس بجهد

BAZAID ACADEMY 2026

القسم الثالث عشر

١ قال أب "عمري قبل ١٠سنوات يساوي اربع امثال عُمر ابني الآن ، وعُمر ابني بعد سنتين ١٢سنة " فما عمر الأب الآن؟

أ) ٣٠ ب) ٤٠
ج) ٥٠ د) ٦٠

٢ ذا كانت الساعة ٨:٢٥ صباحاً، ثم أصبحت ٨:٤٥ صباحاً، ما الكسر الذي يمثل الوقت المنقضى من ساعة واحدة؟

أ) $\frac{١}{٤}$ ب) $\frac{١}{٣}$
ج) $\frac{١}{٢}$ د) $\frac{٣}{٤}$

٣ عدد مكون من رقمين ، آحاده مضروب في ١٠ أمثاله زائد مربع عشراته يساوي عشراته مضروب في ١٠ امثاله زائد مربع آحاده

أ) ١١ ب) ١٢
ج) ١٣ د) ١٤

٤ قارن بين :
القيمة الأولى : $٨^{١٠}$ القيمة الثانية : $(٤٣)^{٥}$

أ) القيمة الأولى أكبر ب) القيمة الثانية أكبر
ج) القيمتان متساويتان د) المعلومات غير كافية

٥ ما مجموع ارقام العدد ٢٩٩٩؟

أ) ٢٧ ب) ٣٦
ج) ٤٥ د) ٥٤

٦ ٦ اعمدة وكل عامود به عدد من الصناديق أقل من الذي قبله بصندوق واحد فإذا كان العامود الرابع به ٥ صناديق كم مجموع الصناديق ؟

أ) ٢٤ ب) ٣٠
ج) ٣٣ د) ٤٢

٧ كم كلمة يمكن أن نكون من حروف اسم (خالد)

أ) ٤ ب) ٨
ج) ٢٤ د) ٣٢

٨ اوجد قيمة : $\frac{١}{٥^{٣}} + \frac{١}{٥^{٣}} + \frac{١}{٥^{٣}}$

أ) $\frac{١}{٣^{٣}}$ ب) $\frac{١}{٤^{٣}}$
ج) $\frac{١}{٦^{٣}}$ د) $\frac{١}{٩^{٣}}$

٩ قارن بين :
القيمة الأولى : $٨^{٦}$ القيمة الثانية : $٦^{٨}$

أ) القيمة الأولى أكبر ب) القيمة الثانية أكبر
ج) القيمتان متساويتان د) المعلومات غير كافية

١٠ في الشكل المجاور، نسبة الجزء المظلل إلى الشكل كاملا



أ) $\frac{١}{٦}$ ب) $\frac{١}{٣}$
ج) $\frac{١}{٤}$ د) $\frac{١}{٢}$

١١ $\left(\frac{أ}{ب}\right)^{٢} \times \left(\frac{ب}{أ}\right)^{٣} \times \left(\frac{أ}{ب}\right)^{٤} \times \left(\frac{ب}{أ}\right)^{٥}$

أ) $\left(\frac{أ}{ب}\right)^{٣}$ ب) $\left(\frac{ب}{أ}\right)^{٢}$
ج) $\left(\frac{أ}{ب}\right)^{٢}$ د) $\left(\frac{ب}{أ}\right)^{٣}$

الجزء القادم

نلقاكم في القسم الرابع عشر

ذاكر بذكاء ليس بجهد - أكاديمية بازيد

مفاتيح الاجوبة

١.ج	٢.ب	٣.أ	٤.ب	٥.أ	٦.ج	٧.ج	٨.ب	٩.أ	١٠.ج	١١.ب

- كتاب أقسام الكمي -

SECTION14

القسم الرابع عشر

مسائل حسابية . هندسة . جبر . احصاء

11 سؤال

مع مفتاح الإجابات

ذاكر بذكاء ليس بجهد

BAZAID ACADEMY 2026

القسم الرابع عشر

١ في الشكل المجاور: ٧مربعات ، مساحة المربع الواحد ١٦ سم ، أوجد محيط الشكل

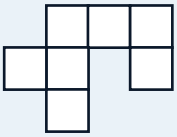

أ) ١٦ ب) ٣٢
ج) ٦٤ د) ١١٢

٢ عند رمي قطعة نقدية ٤مرات، ما احتمال أن تظهر الكتابة في الأربع مرات معاً؟

أ) $\frac{١}{١٦}$ ب) $\frac{١}{٨}$
ج) $\frac{١}{١٢}$ د) $\frac{١}{٤}$

٣ قارن بين :
القيمة الأولى : قياس الزاوة ج
القيمة الثانية : ااا

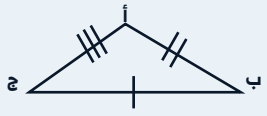

أ) القيمة الأولى أكبر ب) القيمة الثانية أكبر
ج) القيمتان متساويتان د) المعلومات غير كافية

٤ إذا كان مع محمد ١٩٥ ريال من فئة ٥ ، ١٠ ، ٥٠ وعدد الأوراق من كل فئة متساوي ، فكم عدد الاوراق من كل فئة؟

أ) ١ ب) ٢
ج) ٣ د) ٤

٥ قارن بين :
القيمة الأولى : ٠,٨
القيمة الثانية : $\left(\frac{أ}{ب}\right)$

أ) القيمة الأولى أكبر ب) القيمة الثانية أكبر
ج) القيمتان متساويتان د) المعلومات غير كافية

٦ إذا كان محمد يأخذ على كل ساعة ٦٠ ويأخذ علاوه على كل ساعة ، ٢٥% وعثمان يأخذ على كل ساعة ٥٠ ويأخذ علاوه على كل ساعة ٥٠%
القيمة الأولى : ما يأخذه محمد على ٤ساعات
القيمة الثانية : ما يأخذه عثمان على ٦ساعات

أ) القيمة الأولى أكبر ب) القيمة الثانية أكبر
ج) القيمتان متساويتان د) المعلومات غير كافية

٧ قارن بين :
القيمة الاولى : شخص دفع مقدم ١٠٠٠ ثم ٣٠٠ ريال شهريا
القيمة الثانية : شخص دفع ١٦٠٠ مقدم ثم ٢٠٠ ريال شهريا

أ) القيمة الأولى أكبر ب) القيمة الثانية أكبر
ج) القيمتان متساويتان د) المعلومات غير كافية

٨ اذا كان محيط المثلث = ٢٨
قارن بين :
القيمة الأولى : ا + $\frac{س}{٢}$
القيمة الثانية : $\frac{\sqrt{س+١}}{٢}$

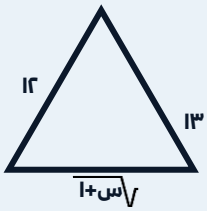

أ) القيمة الأولى أكبر ب) القيمة الثانية أكبر
ج) القيمتان متساويتان د) المعلومات غير كافية

٩ طالب أعار أصدقاءه ٦كتب وقام باستعارة ٤ كتب من مكتبة الحي فأصبح معه ٢٨كتاب ، كم كان عدد الكتب معه؟

أ) ٢٤ ب) ٣٠
ج) ٣٢ د) ٣٦

١٠ تبعد الأحساء عن الرياض مسافة ٣٦٠ كلم ، يقطعها أحمد في ٢٤٠ دقيقة ، كم يقطع في الساعة الواحده ؟

أ) ٩٠ ب) ٨٠
ج) ٧٠ د) ٦٠

١١ أوجد قيمة : $\frac{٥^{٧}+٥^{٨}}{٥^{٧}}$

أ) ١٠ ب) ١٢
ج) ٢٦ د) ٦

الجزء القادم
نلقاكم في القسم الخامس عشر
ذاكر بذكاء ليس بجهد - أكاديمية بازيد

مفاتيح الاجوبة

١. ج	٢. أ	٣. أ	٤. ج	٥. أ	٦. ب	٧. د	٨. أ	٩. ب	١٠. أ	١١. د

- كتاب أقسام الكمي -

SECTION15

القسم الخامس عشر

مسائل حسابية . هندسة . جبر . احصاء

II سؤال

مع مفتاح الإجابات

ذاكر بذكاء ليس بجهد

BAZAID ACADEMY 2026

القسم الخامس عشر

١ الشكل المجاور مربع أوجد قيمة س

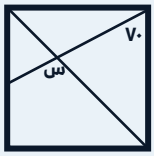

أ) ٧٠ ب) ٦٥
ج) ١١٥ د) ١٢٠

٢ في الشكل المجاور : أوجد قيمة هـ

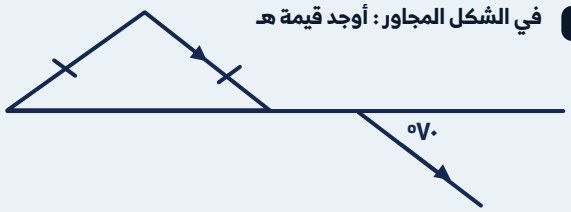

أ) ٧٠ ب) ١١٠
ج) ٤٠ د) ٦٠

٣ (٩٩٩)٢ - ١ = ...

أ) ٩٩٩٢ ب) ٩٩٨٢
ج) ٩٩٨٠٠٠ د) ٩٩٩٠٠

٤ إذا كانت نسبة الموظفين الغير سعوديين في الشركة (أ) ، ٣٠ % وعددالموظفين الشركة (ب) نصف عدد موظفين الشركة (أ) ، ونسبة الموظفين الغير سعوديين في الشركة (ب) ، ٤٠ % أوجد نسبة الموظفين الغير سعوديين في الشركتين؟

أ) ٢٠ % ب) ٢٥ %
ج) ٣٣ % د) ٣٥ %

٥ إذا كان س - ص = ل ، س + ص = م أوجد قيمة س - ص

أ) ل م ب) ل + م
ج) $\frac{\text{ل}}{\text{م}}$ د) $\frac{\text{م}}{\text{ل}}$

٦ قارن بين :
القيمة الأولى : (٠,١)٢٢ القيمة الثانية : (٠,١)٣٣

أ) القيمة الأولى أكبر ب) القيمة الثانية أكبر
ج) القيمتان متساويتان د) المعلومات غير كافية

٧ ٣ أصدقاء في مطعم دفعو مبلغ ٤٠٠ ريال ، الأول دفع الربع والثاني دفع الخمس ،كم دفع الثالث ؟

أ) ٢٠٠ ب) ٢١٠
ج) ٢٢٠ د) ٢٤٠

٨ طابعة تطبع كتاب من صفحة اوطبعت ٢٥٨ رقم في ترقيم صفحات الكتاب ، كم عدد صفحات الكتاب ؟

أ) ١٢١ ب) ١٢٢
ج) ١٢٣ د) ١٢٤

٩ ما الأكثر ثباتًا طوال العام ؟

الفصول الاربعة	الاكسسوارات	الطابعات	الجوالات	الكمبيوترات
فصل الربيع	١٥	٢٠	١٥	١٠
فصل الصيف	١٥	٢٢	٣٥	٢٥
فصل الشتاء	١٤	٢٤	٤٥	٢٥
فصل الخريف	١٥	٢٥	٦٠	٥٥

أ) الإكسسوارات ب) الطابعات
ج) الجوالات د) الكمبيوترات

١٠ كم عدد الطلاب الحاصلين على ثمانية درجات ؟



أ) ٧ ب) ١٢
ج) ٨ د) ١٠

١١ الشكل المجاور مستطيل قارن بين :
القيمة الأولى : نسبة المظلل إلى الشكل
القيمة الثانية : $\frac{١}{٣}$



أ) القيمة الأولى أكبر ب) القيمة الثانية أكبر
ج) القيمتان متساويتان د) المعلومات غير كافية

الجزء القادم
نلقاكم في القسم السادس عشر
ذاكر بذكاء ليس بجهد - أكاديمية بازيد

مفاتيح الاجوبة

١. ج	٢. ج	٣. ج	٤. ج	٥. ج	٦. أ	٧. ج	٨. ب	٩. أ	١٠. ب	١١. ج

- كتاب أقسام الكمي -

SECTION16

القسم السادس عشر

مسائل حسابية . هندسة . جبر . احصاء

11 سؤال

مع مفتاح الإجابات

ذاكر بذكاء ليس بجهد

BAZAID ACADEMY 2026

القسم السادس عشر

١ في الشكل التالي أوجد قياس الزاوية ص

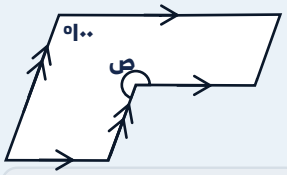

أ) ٨٠°
ب) ١٠٠°
ج) ١٨٠°
د) ٢٦٠°

٢ إذا كان أ + ج = ٥ ، أ + ب = ٨ ، ب + ج = ٣ أوجد قيمة ج

أ) ٠
ب) ١
ج) ٣
د) ٣

٣ يسير قطار بسرعة ٢كيلومتر كل دقيقة و ٢٠ ثانية، فكم يقطع من الكيلومترات في ٤ساعات؟

أ) ١٢٠
ب) ٢٤٠
ج) ٣٦٠
د) ٤٠٠

٤ $\left(\frac{أ}{ب}\right)^{٢} \times \left(\frac{ب}{أ}\right)^{٣} \times \left(\frac{أ}{ب}\right)^{٤} \times \left(\frac{ب}{أ}\right)^{٥}$

أ) $\left(\frac{أ}{ب}\right)^{٣}$
ب) $\left(\frac{ب}{أ}\right)^{٢}$
ج) $\left(\frac{أ}{ب}\right)^{٢}$
د) $\left(\frac{ب}{أ}\right)^{٣}$

٥ قارن بين :
القيمة الأولى : $\frac{١}{١ - \frac{١}{٣}}$ القيمة الثانية : $\frac{١}{٢}$

أ) القيمة الأولى أكبر
ب) القيمة الثانية أكبر
ج) القيمتان متساويتان
د) المعلومات غير كافية

٦ إذا كان $٢^{٢٠١٣} = ٢^{٢٠١٢} \times$ س ، أوجد قيمة س

أ) ٢٠
ب) ٢١
ج) ٢٢
د) ٢٤

٧ طريق طوله ٨كلم ، كم طوله بالأمتار تقريباً؟

أ) ٨٨٨٠
ب) ٧٨٥٠
ج) ٩٠٠
د) ٧٢٠٠

٨ قارن بين :
القيمة الأولى : حجم ٦٠مكعب طول حرف الواحد $\frac{١}{٢}$ سم
القيمة الثانية : حجم مكعب طول حرفه ٢سم

أ) القيمة الأولى أكبر
ب) القيمة الثانية أكبر
ج) القيمتان متساويتان
د) المعلومات غير كافية

٩ أوجد قيمة $\frac{١}{٣} \times ٣^{٢٧}$

أ) $٣^{٢٧}$
ب) $٣^{٢٦}$
ج) $٣^{٢٥}$
د) $٣^{٢٤}$

١٠ ذا تساوى محيط مربع ومستطيل، قارن بين:
القيمة الأولى : مساحة المستطيل
القيمة الثانية : مساحة المربع

أ) القيمة الأولى أكبر
ب) القيمة الثانية أكبر
ج) القيمتان متساويتان
د) المعلومات غير كافية

١١ إذا كان طول أحمد ١٢٠ سم وهو أقصر من أخيه محمد بـ ٢٠سم وأقصر من أخته سعاد بـ ٥سم، فما مجموع أطوال الأخوة الثلاثة ؟

أ) ٢٥٠
ب) ٣٥٨
ج) ٢٧٠
د) ٣٨٥

الجزء القادم
نلقاكم في القسم السابع عشر
ذاكر بذكاء ليس بجهد - أكاديمية بازيد

مفاتيح الاجوبة

١. د	٢. أ	٣. ج	٤. ب	٥. ب	٦. ب	٧. ب	٨. ب	٩. ب	١٠. ب	١١. د

- كتاب أقسام الكمي -

SECTION17

القسم السابع عشر

مسائل حسابية . هندسة . جبر . احصاء

II سؤال

مع مفتاح الإجابات

ذاكر بذكاء ليس بجهد

BAZAID ACADEMY 2026

القسم السابع عشر

١ ٣ أصدقاء في مطعم دفعو مبلغ ٤٠٠ريال ، الأول دفع الربع والثاني دفع الخمس ،كم دفع الثالث ؟

أ) ٢٠٠ ب) ٢١٠
ج) ٢٢٠ د) ٢٤٠

٢ طابعة تطبع كتاب من صفحة اوطبعت ٢٥٨رقم في ترقيم صفحات الكتاب ، كم عدد صفحات الكتاب ؟

أ) ١٢١ ب) ١٢٢
ج) ١٢٣ د) ١٢٤

٣ كم عدد الطلاب الحاصلين على ثمانية درجات ؟



أ) ٧ ب) ١٢
ج) ٨ د) ١٠

٤ الشكل المجاور مربع أوجد قيمة س

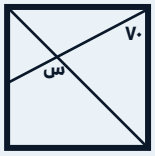

أ) ٧٠ ب) ٦٥
ج) ١١٥ د) ١٢٠

٥ (٩٩٩) - ١ = ...

أ) ٩٩٩ ٢ ب) ٩٩٨ ٢
ج) القيمتان ٩٩٨٠٠٠ د) ٩٩٩٠٠

٦ في الشكل المجاور : أوجد قيمة هـ

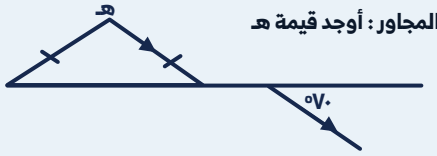

أ) ٧٠ ب) ١١٠
ج) ٤٠ د) ٦٠

٧ إذا كان س - ص = ل ، س + ص = م أوجد قيمة س - ص

أ) ل م ب) ل + م
ج) $\frac{\text{ل}}{\text{م}}$ د) $\frac{\text{م}}{\text{ل}}$

٨ قارن بين :
القيمة الأولى : (٠,١) ٢٢ القيمة الثانية : (١,٠) ٣٣

أ) القيمة الأولى أكبر ب) القيمة الثانية أكبر
ج) القيمتان متساويتان د) المعلومات غير كافية

٩ الشكل المجاور مستطيل قارن بين :
القيمة الأولى : نسبة المظلل إلى الشكل
القيمة الثانية : $\frac{\text{١}}{\text{٣}}$



أ) القيمة الأولى أكبر ب) القيمة الثانية أكبر
ج) القيمتان متساويتان د) المعلومات غير كافية

١٠ ما الأكثر ثباتًا طوال العام ؟

الفصول الاربعة	الاكسسوارات	الطابعات	الجوالات	الكمبيوترات
فصل الربيع	١٥	٢٠	١٥	١٠
فصل الصيف	١٥	٢٢	٣٥	٢٥
فصل الشتاء	١٤	٢٤	٤٥	٢٥
فصل الخريف	١٥	٢٥	٦٠	٥٥

أ) الإكسسوارات ب) الطابعات
ج) الجوالات د) الكمبيوترات

١١ إذا كانت نسبة الموظفين الغير سعوديين في الشركة (أ) ، ٣٠ % وعددالموظفين الشركة (ب) نصف عدد موظفين الشركة (أ) ، ونسبة الموظفين الغير سعوديين في الشركة (ب) ٤٠ % أوجد نسبة الموظفين الغير سعوديين في الشركتين؟

أ) ٢٠ % ب) ٢٥ %
ج) $\frac{\text{١}}{\text{٣}}$ ٣٣% د) ٣٥ %

الجزء القادم
نلقاكم في القسم الثامن عشر
ذاكر بذكاء ليس بجهد - أكاديمية بازيد

مفاتيح الاجوبة

١. ج	٢. ب	٣. ب	٤. ج	٥. ج	٦. ج	٧. ج	٨. أ	٩. ج	١٠. أ	١١. ج

- كتاب أقسام الكمي -

SECTION18

القسم الثامن عشر

مسائل حسابية . هندسة . جبر . احصاء

11 سؤال

مع مفتاح الإجابات

ذاكر بذكاء ليس بجهد

BAZAID ACADEMY 2026

القسم الثامن عشر

١ أوجد الحد التالي : ٣ ، ٥ ، ٩ ، .....

أ) ١٦ ب) ١٧
ج) ١٨ د) ١٩

٢ قارن بين :
القيمة الأولى : ١٠٠ % من ٩٠ القيمة الثانية : ١٨٠

أ) القيمة الأولى أكبر ب) القيمة الثانية أكبر
ج) القيمتان متساويتان د) المعطيات غير كافية

٣ أوجد قيمة : $\sqrt{\frac{١}{٤} \times \frac{١٦}{٨١}}$

أ) $\frac{١}{٣}$ ب) ٣
ج) $\frac{١}{٤}$ د) ٩

٤ ن الشكل المجاور ما نسبة مساحة الدائرة الصغرى الى نسبة مساحة الدائرة الكبرى

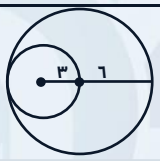

أ) ٤ : ٦ ب) ١ : ٤
ج) ٣ : ٨ د) ٢ : ٣

٥ موقف سيارات يتسع ٤٣٢ سيارة مقسمة إلى ستة أجزاء كل جزء مكون من ٧٢ موقف ومرتبة حسب اللون (أحمر-أبيض-أخضر-أصفر-أسود-أزرق) على الترتيب ، ما لون السيارة في الموقف رقم ٣٦٠؟

أ) أبيض ب) أسود
ج) أزرق د) أصفر

٦ (ص ، ٥) ، (٥ ، ٩) ، (٣ ، س) ، (٩ ، ٥) نقطة منتصف بينهم
قارن بين :
القيمة الأولى : ص القيمة الثانية : س

أ) القيمة الأولى أكبر ب) القيمة الثانية أكبر
ج) القيمتان متساويتان د) المعطيات غير كافية

٧ في الشكل التالي ، دائرة مركزها م ، ونصف قطرها ٤ سم ، كم سنتيمترا مربعا مساحة الجزء المظلل ؟



الرسم ليس على القياس

أ) ١٢ ط ب) ١٠ ط
ج) ٦ ط د) ٤ ط

٨ ما نسبة زيادة ميزانية المعهد من عام ١٤٢٨ إلى عام ١٤٢٩؟

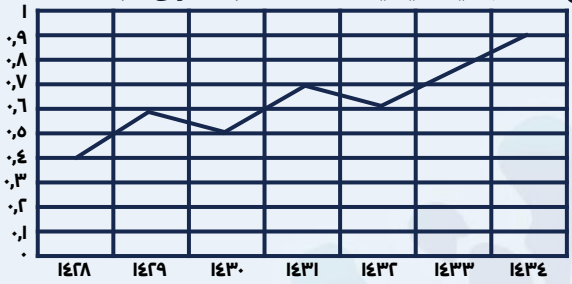

أ) ٧٥ % ب) ٥٠ %
ج) ٣٣ % د) ٢٠ %

٩ في الشكل التالي ، س بالسنتمتر تساوي :

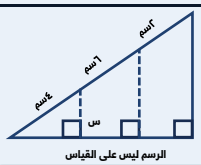

الرسم ليس على القياس

أ) ٦ ب) ٥
ج) ٤ د) ٣

١٠ قيمة ١٠ قطع فضية وقطعة واحدة ذهبية تساوي قيمة ٣ قطع ذهبية قارن بين :- القيمة الأولى : قيمة قطعة واحدة ذهبية
القيمة الثانية : قيمة ٥قطع فضية

أ) القيمة الأولى أكبر ب) القيمة الثانية أكبر
ج) القيمتان متساويتان د) المعطيات غير كافية

١١ في الشكل التالي، ما أقل محصول ؟



أ) قمح ب) مانجو
ج) عنب د) فراولة

الجزء القادم
نلقاكم في القسم التاسع عشر
ذاكر بذكاء ليس بجهد - أكاديمية بازيد

مفاتيح الاجوبة

١.ب	٢.ب	٣.أ	٤.ب	٥.ب	٦.ب	٧.د	٨.ب	٩.د	١٠.ج	١١.ج

- كتاب أقسام الكمي -

SECTION19

القسم التاسع عشر

مسائل حسابية . هندسة . جبر . احصاء

II سؤال

مع مفتاح الإجابات

ذاكر بذكاء ليس بجهد

BAZAID ACADEMY 2026

القسم التاسع عشر

١ كم مثلث في الشكل ؟



أ ٨ ب ١٠
ج ١٢ د ١٦

٢ إذا كان ٢^ن + ٢^ن + ٢^ن + ٢^ن = ٢^٨ ماقيمة (ن)؟

أ ٢ ب ٤
ج ٦ د ٨

٣ إذاكان طول ضلع المربع = ٢٠سم
احسب مساحة الجزء المظلل بالأسود



أ ١٥٧ ب ٣١٤
ج ٦٢٨ د ٤٠٠

٤ (٥√٢)^٢ - (٤٩√٢)^٢

أ ٢٠٠ ب ٤٠٠
ج ٦٠٠ د ٨٠٠

٥ إذا كان سعر لتر الوقود ٥ ريال
فما اكثر حافلة موفرة للوقود؟

المنطقة	المسافة	اجرة السائق	التكلفة
الأولى	١٠٠٠	٦٠٠	١١٠٠
الثانية	١٨٠٠	٤٠٠	١١٥٠
الثالثة	١٥٠٠	٥٠٠	١٢٥٠
الرابعة	١٢٠٠	٥٠٠	١٥٠٠

أ أبيض ب أسود
ج أزرق د أصفر

٦ ما الجامعة التي تقلصت ميزانيتها في العام الأخير ؟

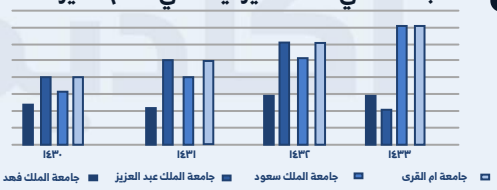

أ جامعة الملك فهد ب جامعة الملك عبد العزيز
ج جامعة الملك سعود د جامعة ام القرى

٧ دفع احمد ٤٥ % من تكلفة بناء مسجد وفهد دفع ٢٥% وتبقى ٣٦٠٠٠٠كم تكلفة المسجد كاملة

أ ١٢٠٠٠٠ ب ٣٦٠٠٠٠
ج ٢٤٠٠٠٠ د ١٠٠٠٠٠

٨ ذا كان ٢ ^١٥ يقبل القسمه على س ، فإي القيم الأتية يمكن أن تكون قيمة س؟

أ ٣٢ ب ٣٠
ج ٢٠ د ١٢

٩ من الشكل المجاور، قارن بين :
القيمة الأولى : ٤٠
القيمة الثانية : ص



أ القيمة الأولى أكبر ب القيمة الثانية أكبر
ج القيمتان متساويتان د المعطيات غير كافية

١٠ أوجد قيمة : $\frac{٥١٠ - ٤١٠}{٩}$

أ ٤١٠ ب ٥١٠
ج ٩ د ٦١٠

١١ اذا كان ٠ < ص < س
قارن بين :
القيمة الأولى : (س)^٢٠١٦ القيمة الثانية : (ص)^٢٠١٥

أ القيمة الأولى أكبر ب القيمة الثانية أكبر
ج القيمتان متساويتان د المعطيات غير كافية

الجزء القادم
نلقاكم في القسم العشرين
ذاكر بذكاء ليس بجهد - أكاديمية بازيد

مفاتيح الاجوبة

١.د	٢.ج	٣.ج	٤.ب	٥.ب	٦.ب	٧.أ	٨.أ	٩.ج	١٠.أ	١١.أ

- كتاب أقسام الكمي -

SECTION20

القسم العشرين

مسائل حسابية . هندسة . جبر . احصاء

11 سؤال

مع مفتاح الإجابات

ذاكر بذكاء ليس بجهد

BAZAID ACADEMY 2026

القسم العشرين

١ اذا كان س عدد زوجي ، فاي التالي عدد فردي ؟

أ) ٣ (س + ١)
ب) ٢ (س +٢)
ج) ٣ (س -٤)
د) ٢ (س -٥)

٢ بناء على الشكل المجاور ، قارن بين :
القيمة الأولى : ٧ س - ٣
القيمة الثانية : ٥ س + ١٧

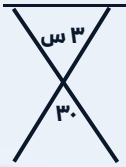

أ) القيمة الأولى أكبر
ب) القيمة الثانية أكبر
ج) القيمتان متساويتان
د) المعطيات غير كافية

٣ في الشكل المجاور: مستطيل محيطه = ٣٠ ،ومساحته = ٢٤ وجميع الدوائر متطابقة أوجد طول قطر الدائرة

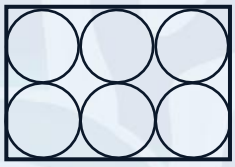

أ) ١٠
ب) ٢
ج) ١٢
د) ٤

٤ ٨ ٢ - ١٦ ÷ (٢ ×٤)=

أ) ٨
ب) ٣٢
ج) ٦٢
د) ٩٦

٥ في الشكل التالي ، س بالسنتمتر تساوي :



أ) ٦
ب) ٥
ج) ٤
د) ٣

٦ قيمة ١٠ قطع فضية وقطعة واحدة ذهبية تساوي قيمة ٣ قطع ذهبية قارن بين :-
القيمة الأولى : قيمة قطعة واحدة ذهبية
القيمة الثانية : قيمة ٥قطع فضية

أ) القيمة الأولى أكبر
ب) القيمة الثانية أكبر
ج) القيمتان متساويتان
د) المعطيات غير كافية

٧ ذا ولد نواف بعد مولد محمد بـ ٤سنوات و عمر نواف $\frac{٧}{٨}$ عمر احمد ، فما عمر نواف ؟

أ) ٣٠
ب) ٢٤
ج) ٢٨
د) ٢٢

٨ في الشكل المجاور ، أوجد طول الضلع أ هـ

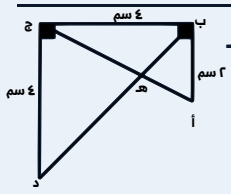

أ) $\frac{٥\sqrt{٢}}{٤}$
ب) $\frac{٥\sqrt{٢}}{٣}$
ج) $٥\sqrt{٥}$
د) $\frac{٥\sqrt{٥}}{٣}$

٩ إذاكان متوسط مشاهدة شخص للتلفاز عام ٢٠١١ هو ١٤٧٠دقيقه وعام ٢٠١٢ زادت بنسبه ٧ % كم أصبح متوسط مشاهدته تقريبا؟

أ) ١٥٧٣
ب) ١٥٧٠
ج) ١٥٥٥
د) ١٥٦٧

١٠ في الشكل المجاور مستطيل احد بعديه فردي اوجد محيطه

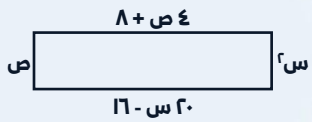

أ) ٥٦
ب) ٨٨
ج) ١٠٦
د) ١١٦

١١ إذا تم جمع أموال من ٢شخص،بقيمة ٥ريال، فكم المبلغ الكلي ؟

أ) ٨٠٠
ب) ١٦٠٠
ج) ٢٠٠٠
د) ٢٨٠٠

الجزء القادم
نلقاكم في القسم العشرين
ذاكر بذكاء ليس بجهد - أكاديمية بازيد

مفاتيح الاجوبة

١. أ	٢. ج	٣. ب	٤. ج	٥. د	٦. ج	٧. ج	٨. ب	٩. أ	١٠. ج	١١. أ

- كتاب أقسام الكمي -

SECTION22

القسم الثاني و العشرين

مسائل حسابية . هندسة . جبر . احصاء

II سؤال

مع مفتاح الإجابات

ذاكر بذكاء ليس بجهد

BAZAID ACADEMY 2026

القسم الثاني و العشرين

١ إذا كان $٢^{٤م} = \frac{٤}{٢^{٢ن} \times (٢^{٢})^{ن}}$ ، أوجد ناتج م + ن

أ) $\frac{١}{٢}$ ب) $\frac{١}{٤}$
ج) ٢ د) ٤

٢ إذا كانت نسبة عدد الأطفال إلى عدد الرجال إلى عدد النساء هي ١ : ٣ : ٥ اعلى التوالي،بعد أن تم إضافة ٢٠ طفلاً جديداً إلى القرية، أصبحت نسبة عدد الأطفال إلى عدد الرجال ، ١ : ٢ فكم عددهم الكلي ؟

أ) ٣٨٠ ب) ٣٦٠
ج) ٢٨٠ د) ٢٤٠

٣ العدد ٢١٣ ارتفع ليصبح ٢٢٣، كم مقدار الزيادة الحاصلة بالنسبة المئوية قريباً ؟

أ) ٥ % ب) ٨ %
ج) ١٠ % د) ١٢ %

٤ اذا كان $\frac{٤٣}{٣} = \frac{٥}{٦}$ ٣ أ ، قارن بين :

القيمة الأولى : أ القيمة الثانية : ٦

أ) القيمة الأولى أكبر ب) القيمة الثانية أكبر
ج) القيمتان متساويتان د) المعلومات غير كافية

٥ إذا كان ب = (س - ص)^{٢} - ٢ س ص ، ٢ = (س + ص^{٢}) + ٢ س ص
أوجد ب + ٢

أ) ٢ (س^{٢} + ص^{٢}) ب) س^{٢} + ص^{٢}
ج) ٢ (س^{٢} - ص^{٢}) د) س^{٢} - ص^{٢}

٦ مستطيل بعديه ١٢٠ سم و ٦٠ سم يراد تغطيته بورق مربع الشكل طول ضلعه ٢٠ سم كم عدد الاوراق

أ) ١٢ ب) ١٦
ج) ١٨ د) ١٤

٧ اذا باع شخص ٦ بطاريات بـ ٣٠٠ريال ، فـ بكم سيبيع ١٠ بطاريات ؟

أ) ٦٠٠ ب) ١٠٠
ج) ٥٠٠ د) ٥٥٠

٨ برميل مملوء الى النصف وزنه ، ٢٥٠ والى ثلاث ارباع وزنه ، ٣٠٠ كم وزن البرميل وهو فارغ؟

أ) ١٥٠ ب) ٣٠٠
ج) ٢٥٠ د) ٢٠٠

٩ قال أب "عمري قبل ١٠ سنوات يساوي اربع امثال عُمر ابني الآن ، وعُمر ابني بعد سنتين ١٢ سنة" فما عمر الأب الآن؟

أ) ٣٠ ب) ٤٠
ج) ٥٠ د) ٦٠

١٠ ما اقل طول بالسنتمترات

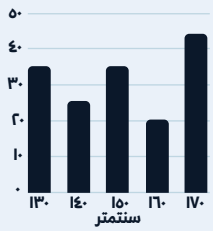

أ) ١٧٠ ب) ١٦٠
ج) ١٥٠ د) ١٣٠

١١ في الشكل المجاور ، أوجد قيمة س :

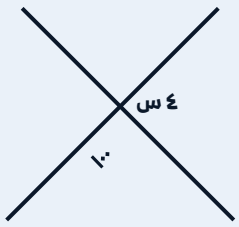

أ) ٢٠ ب) ٤٠
ج) ٦٠ د) ٨٠

الجزء القادم

نلقاكم في القسم الثالث والعشرين

ذاكر بذكاء ليس بجهد - أكاديمية بازيد

مفاتيح الاجوبة

١. أ	٢. أ	٣. أ	٤. ب	٥. أ	٦. ج	٧. ج	٨. أ	٩. ج	١٠. د	١١. أ

- كتاب أقسام الكمي -

SECTION21

القسم الحادي و العشرين

مسائل حسابية . هندسة . جبر . احصاء

11 سؤال

مع مفتاح الإجابات

ذاكر بذكاء ليس بجهد

BAZAID ACADEMY 2026

القسم الحادي و العشرين

١ في الشكل المجاور، كم قيمة س؟

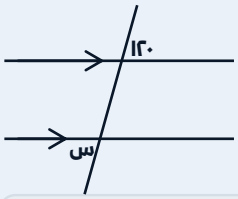

أ) ٤٥ ب) ٥٠
ج) ٦٠ د) ٨٠

٢ ما نسبة مساحة المثلث أ هـ ج إلى مساحة الشكل :

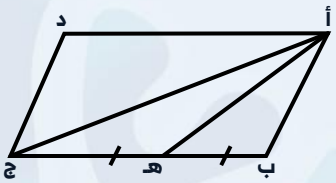

أ) $\frac{١}{٢}$ ب) $\frac{١}{٣}$
ج) $\frac{١}{٤}$ د) $\frac{١}{٨}$

٣ إذا ولد نواف بعد مولد محمد بـ ٤ سنوات و عمر نواف $\frac{٧}{٨}$ عمر احمد ، فما عمر نواف ؟

أ) ٣٠ ب) ٢٤
ج) ٢٨ د) ٢٢

٤ أسطوانة مساحة قاعدتها ١٥م ، و إرتفاعها ١٥م ، كم نحتاج من الماء لملئ ثلث الأسطوانة ؟

أ) ٦٠ ب) ٧٥
ج) ١٢٠ د) ١٥٠

٥ في الشكل التالي ، دائرة مركزها م ، ونصف قطرها ٤سم ، كم سنتيمتراً مربعاً مساحة الجزء المظلل ؟



أ) ١٢ ط ب) ١٠ ط
ج) ٦ ط د) ٤ ط

٦ إذا كان س^{٢} - ص^{٢} = ل ، س + ص = م أوجد قيمة س - ص

أ) ل م ب) ل + م
ج) $\frac{\text{ل}}{\text{م}}$ د) $\frac{\text{م}}{\text{ل}}$

٧ اذا كانت الزاوية س ص ع = ٦٠ نصفتها القطعة المستقيمة ص م والزاوية م ص ع تنصفها القطعة ص ن ، فكم قياس الزاوية س ص ن ؟

أ) ٤٥ ب) ٥٠
ج) ٥٥ د) ٦٠

٨ اذا كانت : ٢ س = ٣ فإن ٨ س

أ) ٩ ب) ١٦
ج) ٢٧ د) ٨١

٩ أوجد محيط الشكل :

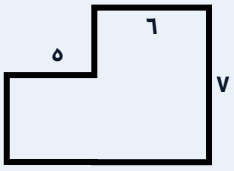

أ) ٣٢ ب) ٢٩
ج) ٣٦ د) ٣٨

١٠ ما اقل طول بالسنتمترات

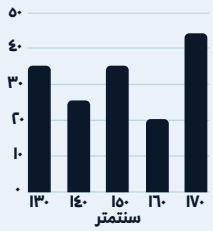

أ) ١٧٠ ب) ١٦٠
ج) ١٥٠ د) ١٣٠

١١ قارن بين :
القيمة الأولى : مساحة المربع
القيمة الثانية : مساحة المستطيل

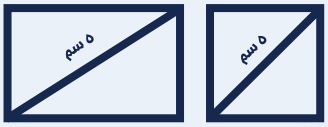

أ) القيمة الأولى أكبر ب) القيمة الثانية أكبر
ج) القيمتان متساويتان د) المعلومات غير كافية

الجزء القادم

نلقاكم في القسم الثاني والعشرين

ذاكر بذكاء ليس بجهد - أكاديمية بازيد

مفاتيح الاجوبة

١. ج	٢. ج	٣. ج	٤. ب	٥. د	٦. ج	٧. أ	٨. ج	٩. ج	١٠. د	١١. أ

- كتاب أقسام الكمي -

SECTION23

القسم الثالث والعشرين

مسائل حسابية . هندسة . جبر . احصاء

11 سؤال

مع مفتاح الإجابات

ذاكر بذكاء ليس بجهد

BAZAID ACADEMY 2026

القسم الثالث والعشرين

١ من الشكل المجاور، قارن بين :
القيمة الأولى : ٤٠
القيمة الثانية : ص

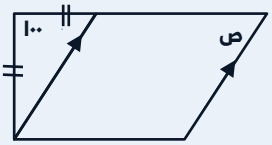

أ القيمة الأولى أكبر
ب القيمة الثانية أكبر
ج القيمتان متساويتان
د المعلومات غير كافية

٢ $(\sqrt{٥١} \times \sqrt{٢})^{٢} - (\sqrt{٤٩} \times \sqrt{٢})^{٢} =$ .....

أ ٢٠٠
ب ٤٠٠
ج ٦٠٠
د ٨٠٠

٣ إذا كان $٢^{١٥}$ يقبل القسمه على س ، فإي القيم الأتية يمكن أن تكون قيمة س؟

أ ٣٢
ب ٣٠
ج ٢٠
د ١٢

٤ إذاكان طول ضلع المربع = ٢٠سم
احسب مساحة الجزء المظلل بالأسود



أ ١٥٧
ب ٣١٤
ج ٦٢٨
د ٤٠٠

٥ إذا كان $٢^{ن} + ٢^{ن} + ٢^{ن} + ٢^{ن} = ٢^{٨}$ ماقيمة (ن)؟

أ ٢
ب ٤
ج ٦
د ٨

٦ كم مثلث في الشكل ؟



أ ٨
ب ١٠
ج ١٢
د ٦

٧ دفع احمد ٤٥٪ من تكلفة بناء مسجد وفهد دفع ٢٥ ٪ وتبقى ٣٦٠٠٠٠كم تكلفة المسجد كاملة

أ ١٢٠٠٠٠
ب ٣٦٠٠٠٠
ج ٢٤٠٠٠٠
د ١٠٠٠٠٠

٨ إذا كان سعر لتر الوقود ٥ ريال
فما اكثر حافلة موفرة للوقود؟

المنطقة	المسافة	اجرة السائق	التكلفة
الأولى	١٠٠٠	٦٠٠	١١٠٠
الثانية	١٨٠٠	٤٠٠	١١٥٠
الثالثة	١٥٠٠	٥٠٠	١٢٥٠
الرابعة	١٢٠٠	٥٠٠	١٥٠٠

أ الأولى
ب الثانية
ج الثالثة
د الرابعة

٩ إذا كان ٠ < ص < س
قارن بين :
القيمة الأولى : (س) ٢٠١٦ القيمة الثانية : (ص) ٢٠١٥

أ القيمة الأولى أكبر
ب القيمة الثانية أكبر
ج القيمتان متساويتان
د المعلومات غير كافية

١٠ ما هي الجامعة التي نقص تقييمها آخر سنة ؟

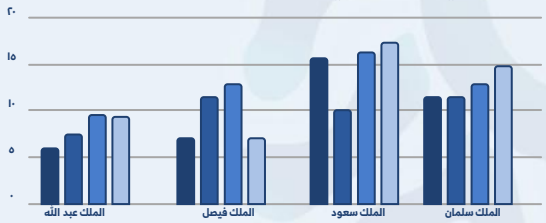

أ الملك سعود
ب الملك فيصل
ج الملك سلمان
د الملك عبد الله

١١ أوجد الحمد الناقص : ١، ٦، ..... ، ١٦، ٢١

أ ٨
ب ١١
ج ١٥
د ١٦

الجزء القادم
نلقاكم في القسم الرابع والعشرين
ذاكر بذكاء ليس بجهد - أكاديمية بازيد

مفاتيح الاجوبة

١.ج	٢.ب	٣.أ	٤.ج	٥.ج	٦.د	٧.أ	٨.ب	٩.أ	١٠.ب	١١.ب

- كتاب أقسام الكمي -

SECTION24

القسم الرابع والعشرين

مسائل حسابية . هندسة . جبر . احصاء

11 سؤال

مع مفتاح الإجابات

ذاكر بذكاء ليس بجهد

BAZAID ACADEMY 2026

القسم الرابع والعشرين

١ يمثل الشكل التالي درجات فصلين في صف ثالث متوسط ، اوجد عدد طلاب صف (أ/٣)؟

الأوراق / أ	الساق	الأوراق / ب
١٢٣٤٥٦	٠	٤٣٢١
١٢٣٥٥٦	١	٥٤٣٢١
١٣٤٥٦	٢	٥٤٣٢
...	٣	٤٣٢١٠

أ) ١٥ ب) ١٢
ج) ١٠ د) ٩

٢ أوجد نسبة الزيادة بين عامي ١٤٣٠ الى عام ١٤٣٣ ؟

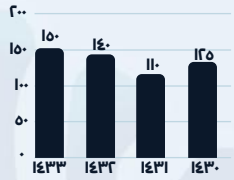

أ) ٢٠ % ب) ٢٥ %
ج) ١٠ % د) ١٥ %

٣ اذا كان أ = $\frac{ا}{ب}$ ، ب = $\frac{ا}{ج}$ ، ج = $\frac{ا}{د}$ ، د = $\frac{٦٤}{٤٩}$ ، كم ناتج (أ + ج) د ؟

أ) ٨ ب) ٦
ج) ٤ د) ٢

٤ أوجد قيمة : $\frac{١٤٣٧ - ٢٠١٥}{١٤٣٧ + ٢٠١٥}$ - $\frac{٢٠١٥ - ١٤٣٧}{٢٠١٥ + ١٤٣٧}$

أ) ٠ ب) ٢
ج) -١ د) -٢٢٩٢

٥ قارن بين:
القيمة الأولى: مساحة المثلث المظلل
القيمة الثانية : مجموع مساحتي المثلثين الغير مظللين

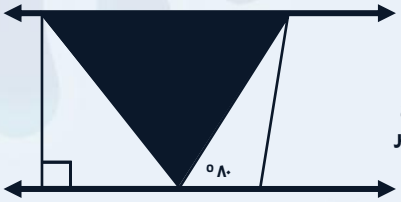

أ) القيمة الأولى أكبر ب) القيمة الثانية أكبر
ج) القيمتان متساويتان د) المعلومات غير كافية

٦ في حي ثلاث فئات من الأشخاص ، يخططون دائماً يخططون أحياناً لا يخططون ، إذا كان عدد الأشخاص الذين يخططون أحياناً ٤٠٠٠ وهي تمثل ٢٠ % من الأشخاص ، ونسبة الذين يخططون ٤٠ % ، فكم عدد الأشخاص الذين يخططون دائماً ؟

أ) ٦٠٠٠ ب) ٧٥٠٠
ج) ٨٠٠٠ د) ١٢٠٠٠

٧ إذا كان لدينا ثلاثة مربعات، و كان المثلث متطابق الأضلاع أوجد قيمة الزاوية س

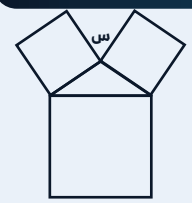

أ) ١٤٠ ب) ١٢٠
ج) ١٥٠ د) ١٨٠

٨ اذا كان ٨ اشخاص يجلسون على ٣ طاولات كما هو مبين بالشكل، كم شخص يمكنهم الجلوس على ١٣ طاولة؟

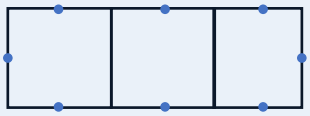

أ) ٣٠ ب) ٣٩
ج) ٢٨ د) ٢٥

٩ ما اكثر حرف يوجد فيه اخطاء

صحيح / خطأ	B	M	N	W	R	A
B		٣	١	٧	٧	٥
M	٢		٢	١	٠	٦
N	٠	٢		١٠	١	٢
W	١	٥	٤		٣	٠
R	٢	٠	٦	٢		٣
A	٣	٤	٠	٦	٢	

أ) B ب) N
ج) W د) R

١٠ اي مما يلي ليس عدد أولي ؟

أ) ٧٧ ب) ٨٩
ج) ٣٧ د) ٥٣

١١ كم عدد المئات في العدد ٩٩٨٦٠؟

أ) ٩٩٨٠٠ ب) ٩٩٨
ج) ٩٩٩٠٠ د) ٩٩٩

الجزء القادم
نلقاكم في القسم الخامس والعشرين
ذاكر بذكاء ليس بجهد - أكاديمية بازيد

مفاتيح الاجوبة

١. ج	٢. أ	٣. د	٤. أ	٥. أ	٦. ج	٧. ب	٨. ج	٩. ج	١٠. أ	١١. ب

- كتاب أقسام الكمي -

SECTION25

القسم الخامس والعشرين

مسائل حسابية . هندسة . جبر . احصاء

11 سؤال

مع مفتاح الإجابات

ذاكر بذكاء ليس بجهد

BAZAID ACADEMY 2026

القسم الخامس والعشرين

١ أوجد قيمة : $\frac{\frac{١}{٣}}{١+\frac{١}{٣}} + \frac{١}{٣} =$

أ) $\frac{٣}{٤}$ ب) $\frac{٧}{١٢}$

ج) ٥ د) ١٢

٢ إذا كان أ ب = ، ٤ أ ج = ٣
أوجد د هـ ؟

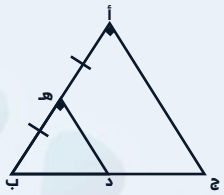

أ) ١,٥ ب) ٢

ج) ٢.٥ د) ٣

٣ سيارتان انطلقوا في نفس الوقت ، الاولى انطلقت من المدينة أ الى المدينة ب بسرعة ١٢٠كلم/س ، و الثانية أنطلقت من المدينة ب الى المدنية أ بسرعة ٩٠كلم/س ، بعد كم دقيقة تلتقي السيارتان علما أن المسافة بين المدينتين ٤٢٠كلم؟

أ) ٦٠ ب) ٩٠

ج) ١٠٥ د) ١٢٠

٤ في الشكل المجاور مستطيل احد بعديه فردي اوجد محيطه

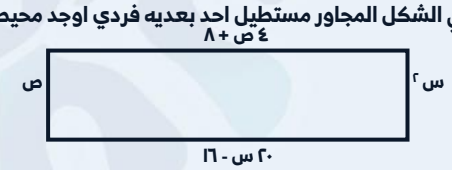

أ) ٥٦ ب) ٨٨

ج) ١٠٦ د) ١١٦

٥ قارن بين:
القيمة الأولى: ٢ (م + ب + ج)
القيمة الثانية : ٣٦٠

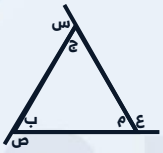

أ) القيمة الأولى أكبر ب) القيمة الثانية أكبر

ج) القيمتان متساويتان د) المعلومات غير كافية

٦ طالب أعار أصدقاءه ٦ كتب وقام باستعارة ٤ كتب من مكتبة الحي فأصبح معه ٢٨ كتاب ، كم كان عدد الكتب معه؟

أ) ٢٤ ب) ٣٠

ج) ٣٢ د) ٣٦

٧ في الشكل المجاور، أوجد طول قطر الدائرة

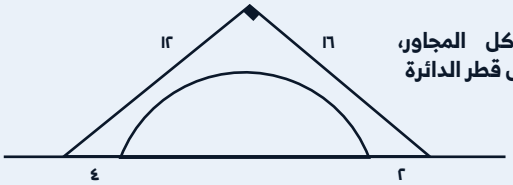

أ) ٥ ب) ١٢

ج) ١٤ د) ١٦

٨ في الشكل المجاور ، اذا كان المستطيل بداخله ٤ مستطيلات تشابه المستطيل الكبير فأوجد قيمة س

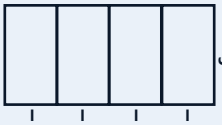

أ) ٣٠ ب) ٣٩

ج) ٢٨ د) ٢٥

٩ مدرسة بها ٢٤٠ طالب ، سدس الطلاب يدرسون الرياضيات ، و ٢٠ طالب يدرس الفيزياء ، و ٨طلاب يدرسون الكيمياء ، كم عدد الطلاب الذين لا يدرسون الثلاث مواد ؟

أ) ١٥٢ ب) ١٦٠

ج) ١٧٢ د) ١٨٠

١٠ كم عدد الأسلحة الغير تالفة ؟

العدد الكلي للأسلحة	١٥٠
الأسلحة التالفة جزئياً	٣٥
الأسلحة التالفة كلياً	٤٥

أ) ٥٠ ب) ٦٠

ج) ٧٠ د) ٨٠

١١ الشكل المقابل مربع طول ضلعه ٤ سم ، أوجد مساحة المظلل



أ) ٤ (ط + ٢) ب) ٢ (٨ - ط)

ج) ٣ (٦ + ٤ط) د) ٥ (٢ - ط)

الجزء القادم

نلقاكم في القسم السادس والعشرين

ذاكر بذكاء ليس بجهد - أكاديمية بازيد

مفاتيح الاجوبة

١.ب	٢.أ	٣.د	٤.ج	٥.ج	٦.ب	٧.ج	٨.أ	٩.ج	١٠.ج	١١.ب

- كتاب أقسام الكمي -

SECTION26

القسم السادس و العشرين

مسائل حسابية . هندسة . جبر . احصاء

11 سؤال

مع مفتاح الإجابات

ذاكر بذكاء ليس بجهد

BAZAID ACADEMY 2026

القسم السادس و العشرين

١ اي مما يلي ليس عدد أولي ؟

أ) ٧٧ ب) ٧٧ ج) ٣٧ د) ٥٣

٢ ١٥ قلم كل قلم سعره ريالين إذا خصم ١٠٪ من سعر الأقلام، كم سيكون السعر النهائي الأقلام ؟

أ) ٤١ ب) ٣٨ ج) ٢٧ د) ٣٥

٣ $\frac{٦٦٦}{٣٣٣} \left(\frac{٤٤٤}{٥٥٥} \div \frac{٤٤٤}{٥٥٥} \right)$

أ) ٢ ب) ٢- ج) ٦٦٦ د) ٣٣٣

٤ قارن بين :
القيمة الأولى : $(\frac{٤}{٥})^{١٠}$ القيمة الثانية : $(\frac{٤}{٥})^{٥} \times (\frac{٤}{٥})^{٢}$

أ) القيمة الأولى أكبر ب) القيمة الثانية أكبر
ج) القيمتان متساويتان د) المعلومات غير كافية

٥ قارن بين :القيمة الأولى : الزاوية الداخلية للسداسي المنتظم. القيمة الثانية : ١٢٠

أ) القيمة الأولى أكبر ب) القيمة الثانية أكبر
ج) القيمتان متساويتان د) المعطيات غير كافية

٦ إذا كانت الزاويتان ٦س ، ٤س - ٢٠ متكاملتان، أوجد قيمة س

أ) ١٢ ب) ١٦ ج) ١٨ د) ٢٠

٧ رسوم مدرسة زادت ٢٠٪ وكان سعرها قبل الزيادة ١٠٠٠٠ ، ويوجد تخفيض للأخوة ٥٪ ، فكم الرسوم للأخوين ؟

أ) ٢٤٠٠٠ ب) ٢١٤٠٠ ج) ٢٢٨٠٠ د) ١١٤٠٠

٨ ما المنطقة التي تمتلك أعلى نسبة مياه متوفرة لكل فرد؟

الدول	عدد السكان	المياه المتوفرة
المشرق العربي	٢٥٦,٧	٢٦٣
المغرب العربي	٧١,٣	٢٥٢
الشرق الأوسط	٦٢,٤	٣٢٤
الخليج العربي	٦٩,٨	٢٢٨

أ) المشرق العربي ب) المغرب العربي
ج) الشرق الأوسط د) الخليج العربي

٩ ما نسبة مساحة المثلث أ هـ ج إلى مساحة الشكل:

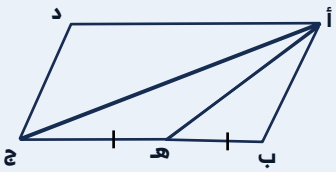

أ) $\frac{١}{٢}$ ب) $\frac{١}{٣}$ ج) $\frac{١}{٤}$ د) $\frac{١}{٨}$

١٠ فستان اذا اضفنا اليه ٥٠٠ ريال اصبح يساوي ٥ امثال قيمه الفستان مطروح منه ٩٠٠ ريال فكم قيمة الفستان ؟

أ) ٣٠٠ ب) ٣٥٠ ج) ٤٠٠ د) ٤٥٠

١١ ما ترتيب المغرب العربي من حيث عدد السكان؟

المنطقة	عدد السكان (بالمليون)	المساحة (ألف كم٢)	المياه المتوفرة (م٣/فرد/سنة)	كمية الأمطار (مم سنويا)	المياه المتوفرة (لتر/فرد/سنة)
المشرق العربي	٢٥٦,٧	٢٨٠٠	٣٠٠	١٢٠٠	١٢٠٠٠٠٠
المغرب العربي	٧١,٣	٥٢٠٠	١٥٠	٩٠٠	٩٠٠٠٠٠
الشرق الأوسط	٢٥٠	٢٣٤٠	٢٥٠	١٥٠٠	١٥٠٠٠٠٠
الخليج العربي	٦٩,٦	٢٢٣٨	١٠٠	٣٠٠	٣٠٠٠٠٠
بقية العالم	٣١٨	١٤٨٠٠٠	٨٠٠	٧٠٠	٧٠٠٠٠٠٠

أ) الأول ب) الثاني
ج) الثالث د) الرابع

الجزء القادم

نلقاكم في القسم السابع والعشرين

ذاكر بذكاء ليس بجهد - أكاديمية بازيد

مفاتيح الاجوبة

١. أ	٢. ج	٣. أ	٤. ب	٥. ج	٦. د	٧. ج	٨. ج	٩. ج	١٠. ب	١١. د

- كتاب أقسام الكمي -

SECTION27

القسم السابع و العشرين

مسائل حسابية . هندسة . جبر . احصاء

11 سؤال

مع مفتاح الإجابات

ذاكر بذكاء ليس بجهد

BAZAID ACADEMY 2026

القسم السابع و العشرين

١ عائلة بها ٣أبناء يعيشون بعيدين عن منزل العائلة ، الأول يزور العائلة كل ٣ أيام ، و الثاني يزور العائلة كل ٥ أيام ، و الثالث يزور العائلة كل ٦ أيام ، فكم مرة سيتلاقون من بداية العام خلال ٦٠ يوم ؟

أ) ١ ب) ٢
ج) ٣ د) ٤

٢ أوجد قيمة الضلع المجهول :

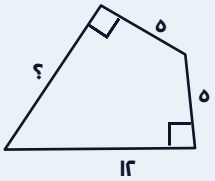

أ) ٤١ ب) ٣٨
ج) ٢٧ د) ٣٥

٣ ماهو الوسيط لعدد الأطفال ؟

عدد الأطفال في ٢٠ أسرة

١	٢	٢	٣	٤
٢	٤	١	٥	٣
٥	٣	٣	٥	٢
٣	٤	٣	١	٦

أ) ٣ ب) ٥
ج) ٦ د) ٨

٤ أوجد قيمة : $\frac{١٤٣٧^{٢} - ٢٠١٥^{٢}}{١٤٣٧ + ٢٠١٥} - \frac{١٤٣٧^{٢} - ٢٠١٥^{٢}}{١٤٣٧ + ٢٠١٥}$

أ) ٠ ب) ٢
ج) -١ د) -٢٢٩٢

٥ أوجد قيمة : $\frac{٥^{٧} - ٥^{٨}}{٥^{٧}}$

أ) ١٠ ب) ١٢
ج) ٢٦ د) ٦

٦ سيارتان تتحركان في نفس الوقت من المدينة) أ) (الى المدينة) ب) (وصلت،السيارة الأولى بعد ساعتين ونصف ، ووصلت السيارة الثانية بعد ساعتين
قارن بين:
القيمة الأولى : سرعة السيارة ٢
القيمة الثانية : سرعة السيارة ١



أ) القيمة الأولى أكبر ب) القيمة الثانية أكبر
ج) القيمتان متساويتان د) المعطيات غير كافية

٧ الشكل المجاور منتظم فأوجد قيمة الزاوية س ، علماً بأن زاوية الخماسي المنتظم = ١٠٨

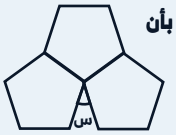

أ) ٣٠ ب) ٣٢
ج) ٣٥ د) ٣٦

٨ قيمة ١٠ قطع فضية وقطعة واحدة ذهبية تساوي قيمة ٣ قطع ذهبية ، قارن بين :

القيمة الأولى	القيمة الثانية
قيمة قطعة واحدة ذهبية	قيمة ٥ قطع فضية

أ) القيمة الأولى أكبر ب) القيمة الثانية أكبر
ج) القيمتان متساويتان د) المعطيات غير كافية

٩ باع تاجر سلعة ب ٢٤٠٠ ريال بربح ٢٠٪ ، كم يكون سعرها إذا باعها بربح ٥٠٪ ؟

أ) ٢٠٠٠ ب) ٢١٠٠
ج) ٢٢٠٠ د) ٢٣٠٠

١٠ إذا كان قياس القوس يساوي قياس الزاوية المقابلة
قارن بين :
القيمة الأولى : نسبة قياس القوس أ ج إلى قياس القوس ج هـ
القيمة الثانية : ٥



أ) القيمة الأولى أكبر ب) القيمة الثانية أكبر
ج) القيمتان متساويتان د) المعطيات غير كافية

١١ إذا علمت أن قطر الدائرة يساوي ٤ ، قارن بين :
القيمة الأولى : مساحة الجزء المظلل
القيمة الثانية : ٣ط



أ) القيمة الأولى أكبر ب) القيمة الثانية أكبر
ج) القيمتان متساويتان د) المعطيات غير كافية

الجزء القادم

نلقاكم في القسم الثمانية والعشرين

ذاكر بذكاء ليس بجهد - أكاديمية بازيد

مفاتيح الاجوبة

١. ب	٢. ج	٣. أ	٤. أ	٥. د	٦. ب	٧. د	٨. ج	٩. ب	١٠. ج	١١. د

- كتاب أقسام الكمي -

SECTION28

القسم الثمانية و العشرين

مسائل حسابية . هندسة . جبر . احصاء

11 سؤال

مع مفتاح الإجابات

ذاكر بذكاء ليس بجهد

BAZAID ACADEMY 2026

القسم الثمانية و العشرين

١ اذا كانت $٤^{س} = ١٠٢٤$ ، أوجد قيمة س

أ) ٣ ب) ٤
ج) ٥ د) ٧

٢ شركة لديها عرضين الأول دفعة أولى ١٠٠٠وشهرياً ، ٣٠٠و
العرض الثاني ١٦٠٠دفعة أولى و ٢٠٠شهرياً ، قارن بين :
القيمة الأولى : العرض الأول
القيمة الثانية : العرض الثاني

أ) القيمة الأولى أكبر ب) القيمة الثانية أكبر
ج) القيمتان متساويتان د) المعطيات غير كافية

٣ أوجد قيمة : $\frac{\frac{١}{٣}}{١+\frac{١}{٣}} + \frac{١}{٣} =$

أ) $\frac{٣}{٤}$ ب) $\frac{٧}{١٢}$
ج) ٥ د) ١٢

٤ مانسبة الأسلحة الغير تالفة؟

لعدد الكلي للأسلحة	١٢٠ رشاش
الأسلحة التالفة جزئياً	٣٥ رشاش
الأسلحة التالفة كليا	٤٥ رشاش

أ) ٣٠٪ ب) ٣٣٪
ج) ٤٠٪ د) ٦٧٪

٥ إذا كان ص تتناسب عكسياً مع س ، ص=٤
عندما س= ٦ أوجد قيمة ص عندما س=١٢

أ) ٢ ب) ٤
ج) ٦ د) ٨

٦ سلعة زاد سعرها ، ٥٠٪ ثم خُفض ، ٢٥٪ فما نسبة السعر الجديد بالنسبة للسعر الأصلي؟

أ) ١٢٥٪ ب) ١١٢,٥٪
ج) ٨٧,٥٪ د) ٧٥٪

٧ سيارتان انطلقوا في نفس الوقت ، الاولى انطلقت من المدينة أ الى المدينة ب بسرعة ١٢٠كلم/س ، و الثانية أنطلقت من المدينة ب الى المدنية أ بسرعة ٩٠كلم/س ، بعد كم دقيقة تلتقي السيارتان علما أن المسافة بين المدينتين ٤٢٠كلم؟

أ) ٦٠ ب) ٩٠
ج) ١٠٥ د) ١٢٠

٨ وعاء تم ملئ $\frac{١}{٢}$ وعند إضافة ١٠ لتر أصبح مملوء إلى $\frac{٢}{٣}$ فكم حجم العبوة باللترات؟

أ) ٣٠ ب) ٤٠
ج) ٦٠ د) ٧٠

٩ استثمر محمد في الأسهم مبلغ ٤٠٠٠٠ريال، فخسر النصف، ثم خسر نصف ما تبقى، ثم خسر نصف ماتبقى، ما المبلغ الذي بقي معه ؟

أ) ٢٥٠٠ ب) ٥٠٠٠
ج) ١٠٠٠٠ د) ١٥٠٠٠

١٠ مستطيلين متلاصقين ببعضهما متطابقين طول ضلعيهما ٢ ، ٤ ، كم محيط الشكل؟

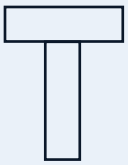

أ) ٨ ب) ١٢
ج) ٢٠ د) ٢٤

١١ من الشكل المجاور ، أوجد عدد غير المدخنين لعام ١٤٤٥ هـ

العام	المدخنين	غير المدخنين	المقلعين	النسبة المئوية للمقلعين إلى غير المدخنين
١٤٤٣ هـ	٨٦٤	٢٣١	٦٥	٢٨٪
١٤٤٤ هـ	٧٧٥	٣٣٢	٨٩	٢٦٪
١٤٤٥ هـ	٤٦٧٧	س	٢٨٠	٦٩٪
١٤٤٦ هـ	٥٥٤	٤٣٠	٢٢٠	٥١٪

أ) ٢٠٢ ب) ٣٠٣
ج) ٤٠٤ د) ٥٠٥

الجزء القادم

نلقاكم في القسم التاسع والعشرين

ذاكر بذكاء ليس بجهد - أكاديمية بازيد

مفاتيح الاجوبة

١.ج	٢.د	٣.ب	٤.ب	٥.أ	٦.ب	٧.د	٨.ج	٩.ب	١٠.ج	١١.ج

- كتاب أقسام الكمي -

SECTION29

القسم التاسع و العشرين

مسائل حسابية . هندسة . جبر . احصاء

11 سؤال

مع مفتاح الإجابات

ذاكر بذكاء ليس بجهد

BAZAID ACADEMY 2026

القسم التاسع و العشرين

١ اي مما يلي ليس عدد أولي ؟

أ) ٧٧ ب) ٧٧
ج) ٣٧ د) ٥٣

٢ ١٥ قلم كل قلم سعره ريالين إذا خصم ١٠٪ من سعر الأقلام، كم سيكون السعر النهائي الأقلام ؟

أ) ٤١ ب) ٣٨
ج) ٢٧ د) ٣٥

٣ فستان اذا اضفنا اليه ٥٠٠ريال اصبح يساوي ١٥امثال قيمه الفستان مطروح منه ٩٠٠ريال فكم قيمة الفستان ؟

أ) ٣٠٠ ب) ٣٥٠
ج) ٤٠٠ د) ٤٥٠

٤ رسوم مدرسة زادت ٢٠% وكان سعرها قبل الزيادة ١٠٠٠٠ ، ويوجد تخفيض للأخوة ، ٥% فكم الرسوم للأخوين ؟

أ) ٢٤٠٠٠ ب) ٢١٤٠٠
ج) ٢٢٨٠٠ د) ١١٤٠٠

٥ إذا كانت الزاويتان ٦س ، ٤س - ٢٠ متكاملتان، أوجد قيمة س

أ) ١٢ ب) ١٦
ج) ١٨ د) ٢٠

٩ ما نسبة مساحة المثلث أ هـ ج إلى مساحة الشكل:

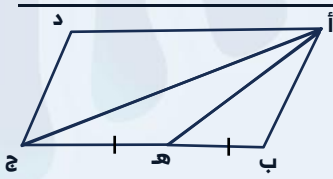

أ) $\frac{١}{٢}$ ب) $\frac{١}{٣}$
ج) $\frac{١}{٤}$ د) $\frac{١}{٨}$

٧ قارن بين :
القيمة الأولى : الزاوية الداخلية للسداسي المنتظم
القيمة الثانية : ١٢٠

أ) القيمة الأولى أكبر ب) القيمة الثانية أكبر
ج) القيمتان متساويتان د) المعطيات غير كافية

٨ ما المنطقة التي تمتلك أعلى نسبة مياه متوفرة لكل فرد؟

الدول	عدد السكان	المياه المتوفرة
المشرق العربي	٢٥٦,٧	٢٦٣
المغرب العربي	٧١,٣	٢٥٢
الشرق الأوسط	٦٢,٤	٣٢٤
الخليج العربي	٦٩,٨	٢٢٨

أ) المشرق العربي ب) المغرب العربي
ج) الشرق الأوسط د) الخليج العربي

٩ ما ترتيب المغرب العربي من حيث عدد السكان؟

المنطقة	عدد السكان (بالمليون)	المساحة (ألف كم²)	المياه المتوفرة (م³/فرد/سنة)	كمية الأمطار (مم سنويا)	المياه المتوفرة (لتر/فرد/سنة)
المشرق العربي	٢٥٦,٧	٢٨٠٠	٣٠٠	١٢٠٠	١٢٠٠٠٠
المغرب العربي	٧١,٣	٥٢٠٠	١٥٠	٩٠٠	٩٠٠٠٠
الشرق الأوسط	٢٥٠	٣٤٥٠	٢٥٠	١٥٠٠	١٥٠٠٠٠
الخليج العربي	٦٩,٦	٢٢٣٨	١٠٠	٣٠٠	٣٠٠٠٠
بقية العالم	٣١٨	١٤٨٠٠٠	٨٠	٧٠٠	٧٠٠٠٠٠

أ) الأول ب) الثاني
ج) الثالث د) الرابع

١٠ قارن بين :
القيمة الأولى : $(\frac{٤}{٥})^{١٠}$ القيمة الثانية : $(\frac{٤}{٥})^{٥} \times (\frac{٤}{٥})^{٢}$

أ) القيمة الأولى أكبر ب) القيمة الثانية أكبر
ج) القيمتان متساويتان د) المعلومات غير كافية

٣ $\frac{٦٦٦}{٣٣٣} (\frac{٤٤٤}{٥٥٥} \div \frac{٤٤٤}{٥٥٥})$

أ) ٢ ب) ٢٠
ج) ٦٦٦ د) ٣٣٣

الجزء القادم
نلقاكم في القسم الثلاثين
ذاكر بذكاء ليس بجهد - أكاديمية بازيد

مفاتيح الاجوبة

١.أ	٢.ج	٣.أ	٤.ب	٥.ج	٦.د	٧.ج	٨.ج	٩.ج	١٠.ب	١١.د

- كتاب أقسام الكمي -

SECTION30

القسم الثلاثين

مسائل حسابية . هندسة . جبر . احصاء

11 سؤال

مع مفتاح الإجابات

ذاكر بذكاء ليس بجهد

BAZAID ACADEMY 2026

القسم الثلاثين

١ لدى سلمى اخت اكبر منها بـ ٨سنوات و اخت اصغر منها بـ سنتين وحاصل ضرب اعمار اخواتها = ٥٦
فكم عمر سلمى ؟

أ ٨ ب ٩
ج ٦ د ٤

٢ كم عدد يمكن تكوينه من الأرقام) (١،٢،٣،٥) بدون تكرار ؟

أ ٢٤ ب ٣٢
ج ٥٤ د ٦٤

٣ موقف سيارات يتسع ٤٣٢سيارة مقسمة إلى ستة أجزاء كل جزء مكون من ٧٢موقف ومرتبة حسب اللون (أحمر-أبيض-أخضر-أصفر-أسود-أزرق)
على الترتيب ، ما لون السيارة في الموقف رقم ٣٦٠؟

أ أبيض ب أسود
ج أزرق د أصفر

٤ اذا كانت النقطه (٨ ، ٥) في منتصف المسافة بين النقطتين (س ، ٦) ، (٨ ، ص) قارن بين :
القيمة الأولى : س القيمة الثانية : ص

أ القيمة الأولى أكبر ب القيمة الثانية أكبر
ج القيمتان متساويتان د المعلومات غير كافية

٥ في الشكل التالي، ما أقل محصول ؟



أ قمح ب مانجو
ج عنب د فراولة

٦ في الشكل المجاور ، أوجد قياس الزاوية س

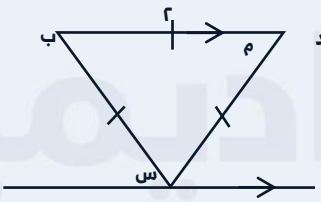

أ ١٢ ب ١٦
ج ١٨ د ٢٠

٧ الشكل المجاور يمثل جنسيات موظفين شركة عدد الموظفين ٤٢٠ ، إذا أرادت الشركة زيادة الموظفين السعوديين إلى ٥٠٪ عن طريق استبدال بعض موظفي الشركة من جنسيات الأخرى ، فكم سعودياً توظف؟



أ ٧٠ ب ٧٥
ج ٨٠ د ٨٥

٨ أوجد قيمة س

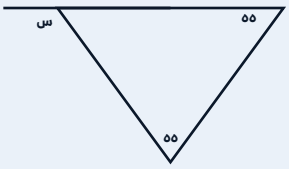

أ ١٠٠ ب ١١٠
ج ١٢٠ د ٥٠

٩ إذا كان ٢٠ل = ١٦ ، ١٠م=٢٠ ، ٤ن =١٠ ،
فما قيمة ل x م x ن

أ ٢ ب ٨
ج ١٠ د ٢٠

١٠ إذا كان $\frac{٤٣}{٣} = ٣\frac{٥}{٦}$ أ ، قارن بين :

القيمة الأولى : أ القيمة الثانية : ٦

أ القيمة الأولى أكبر ب القيمة الثانية أكبر
ج القيمتان متساويتان د المعطيات غير كافية

١١ محمود يقرأ كتاب خلال ٦ أيام وكل يوم يقرأ مثلي اليوم السابق له ، فكم عدد صفحات الكتاب ، إذا قرأ في اليوم الأول ٥ صفحات

أ ٣٠٠ ب ٣٠٥
ج ٣١٥ د ٣٢٠

الجزء القادم
نلقاكم في القسم الواحد والثلاثين
ذاكر بذكاء ليس بجهد - أكاديمية بازيد

مفاتيح الاجوبة

١. ج	٢. د	٣. ب	٤. أ	٥. ج	٦. ج	٧. أ	٨. ب	٩. أ	١٠. ب	١١. ج

- كتاب أقسام الكمي -

SECTION31

القسم الحادي والثلاثين

مسائل حسابية . هندسة . جبر . احصاء

11 سؤال

مع مفتاح الإجابات

ذاكر بذكاء ليس بجهد

BAZAID ACADEMY 2026

القسم الحادي والثلاثين

١ في الشكل المجاور : أوجد قيمة هـ

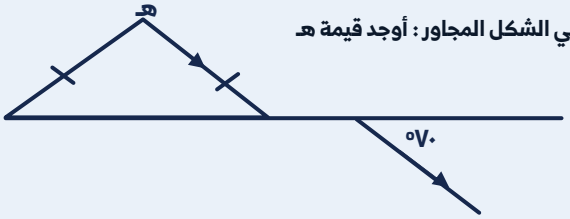

أ ٧٠ ب ١١٠
ج ٤٠ د ٦٠

٢ $\frac{٠،٣٣٣ \times ٣،٠٩}{٣،٩٤ \times ٠،٧٥}$ = ...

أ $\frac{١}{٤}$ ب $\frac{١}{٣}$
ج $\frac{١}{٥}$ د $\frac{١}{٢}$

٣ إذا كان لدينا ثلاثة مربعات، و كان المثلث متطابق الأضلاع أوجد قيمة الزاوية س



أ ١٤٠ ب ١٢٠
ج ١٥٠ د ١٨٠

٤ شخص اشترى حاسوب بـ ٨٠٠ريال وجوال كان يزيد عنه بـ ٢٠٠ريال ، كم أجمالي ما دفعه الشخص؟

أ ٢٠٠ ب ١٨٠٠
ج ٢٢٠٠ د ٣٤٠٠

٥ قارن بين :
القيمة الأولى : محيط دائرة نصف قطرها ٢ سم
القيمة الثانية : محيط مستطيل عرضه ٢سم ، وطوله ٢

أ القيمة الأولى أكبر ب القيمة الثانية أكبر
ج القيمتان متساويتان د المعطيات غير كافية

٦ إذا كان ص تتناسب عكسياً مع س ، ص=٤ عندما س= ٦ أوجد قيمة ص عندما س=١٢

أ ١٢ ب ١٦
ج ١٨ د ٢٠

٧ قارن بين :
القيمة الأولى : ١٥٠٠ جرام القيمة الثانية : ١.٥ كيلو جرام

أ القيمة الأولى أكبر ب القيمة الثانية أكبر
ج القيمتان متساويتان د المعطيات غير كافية

٨ ما عدد المئات في العدد : ٧٩٦٣٥؟

أ ٧٩٦ ب ٩٦
ج ٦٣ د ٦

٩ اذا كان ٨ اشخاص يجلسون على ٣ طاولات كما هو مبين بالشكل، كم شخص يمكنهم الجلوس على ١٣ طاولة؟

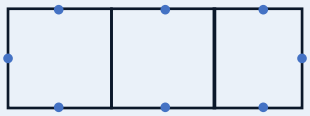

أ ٣٠ ب ٣٩
ج ٢٨ د ٢٥

١٠ اذا كان هناك صندوق يحمل ٩ بيضات ومع خالد ١٢٠ بيضة فكم صندوق يحتاج لحملها كلها؟

أ ٢١ ب ١٤
ج ١٩ د ١١

١١ قارن بين :
القيمة الأولى : ٣٥ ٪ من١٢٠
القيمة الثانية : ١٢٠ ٪ من٣٥

أ القيمة الأولى أكبر ب القيمة الثانية أكبر
ج القيمتان متساويتان د المعطيات غير كافية

الجزء القادم
نلقاكم في القسم الثاني والثلاثين
ذاكر بذكاء ليس بجهد - أكاديمية بازيد

مفاتيح الاجوبة

١.ج	٢.ب	٣.ب	٤.ب	٥.أ	٦.أ	٧.ج	٨.أ	٩.ج	١٠.ب	١١.ج

- كتاب أقسام الكمي -

SECTION32

القسم الثاني و الثلاثين

مسائل حسابية . هندسة . جبر . احصاء

11 سؤال

مع مفتاح الإجابات

ذاكر بذكاء ليس بجهد

BAZAID ACADEMY 2026

القسم الاثنان و الثلاثين

١ قارن بين :
القيمة الأولى : مساحة المربع
القيمة الثانية : مساحة المستطيل



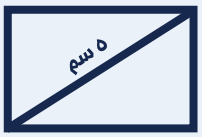

أ القيمة الأولى أكبر
ب القيمة الثانية أكبر
ج لقيمتان متساويتان
د المعطيات غير كافية

٢ في الشكل التالي ، س بالسنتمتر تساوي :

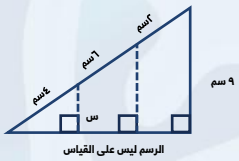

أ ٦
ب ٥
ج ٤
د ٣

٣ عمر هند بعد ٩سنوات = مثلي عمر هند قبل ٣سنوات ، فكم عمر هند الآن ؟

أ ١٥
ب ١٢
ج ٩
د ٣

٤ إذا تم تقسيم الشكل المجاور إلى قطع متساوية ، ما نسبة مساحة المظلل إلى الشكل؟



أ ٢٥٪
ب ٤٠٪
ج ٥٠٪
د ٦٠٪

٥

أ ٩
ب ١٦
ج ٢٧
د ٨١

٦ إذا كان ٧٠٪ من س = ٢١٠ ما قيمة س

أ ٤٩٠
ب ٣٣٠
ج ٣٠٠
د ٢٨٥

٧ ما العدد الذي ثلثه يساوي $\frac{١٦}{٣}$

أ $\frac{١٦}{٣}$
ب $\frac{٤}{٣}$
ج $\frac{٣}{١٦}$
د ١٦

٨ قارن بين :
القيمة الأولى : ٩ - ٠,٠٤٤
القيمة الثانية : ٩ - ٠,٠٠٤

أ القيمة الأولى أكبر
ب القيمة الثانية أكبر
ج لقيمتان متساويتان
د المعطيات غير كافية

٩ تبعد الأحساء عن الرياض مسافة ٣٦٠كلم ، يقطعها أحمد في ٢٤٠ دقيقة ، كم يقطع في الساعة الواحده ؟

أ ٩٠
ب ٨٠
ج ٧٠
د ٦٠

١٠ قارن بين :
القيمة الأولى : ٦
القيمة الثانية : عدد القطع المستقيمة بالشكل



أ القيمة الأولى أكبر
ب القيمة الثانية أكبر
ج لقيمتان متساويتان
د المعطيات غير كافية

١١ اكمل النمط التالي : .....

أ ١٢
ب ١٧
ج ١٩
د ٢٠

الجزء القادم
نلقاكم في القسم الثلاثة و الثلاثين
ذاكر بذكاء ليس بجهد - أكاديمية بازيد

مفاتيح الاجوبة

١.أ	٢.د	٣.أ	٤.ج	٥.ج	٦.ج	٧.د	٨.ب	٩.أ	١٠.ب	١١.ب

- كتاب أقسام الكمي -

SECTION33

القسم الثالث و الثلاثين

مسائل حسابية . هندسة . جبر . احصاء

11 سؤال

مع مفتاح الإجابات

ذاكر بذكاء ليس بجهد

BAZAID ACADEMY 2026

القسم الثالث و الثلاثين

١ اذا كان هناك ١٥اورقه من فئة الريال و ٥ ريال وكان عدد الاوراق من فئة ٥ ريال = مثلي عدد الاوراق من فئة الريال فكم المبلغ الكلي؟

أ ٨٠ ب ٦٠
ج ٧٠ د ٥٥

٢ أوجد عدد سكان اليمن في الشكل المجاور

الدولة	المساحة	السكان	الكثافة
اليمن	٥١٠٠٠٠	؟	١٤

أ ٧٨٤٠٠٠٠ ب ٧٨٤٠٠٠
ج ٤٠٠٠٠ د ٤٠٠٠

٣ اذا كانت ٧٠٪ من س= ٢١٠ ، ما قيمة س ؟

أ ٢٤٠ ب ٣٠٠
ج ٤٤٠ د ٣٦٠

٤ مكعب طول حرفه ٢سم وضع فيه مكعب طول حرفه ١ سم ، ما الحجم المتبقي من المكعب الأول ؟

أ ١ ب ٥
ج ٦ د ٧

٥ اب عمره ٧١ عام وابنه ٣٥ عام ، بعد كم عام يصبح الأب مثلي عمر الابن ؟

أ ١ ب ٢
ج ٣ د ٤

٦ شركة بها ١٠ موظفين مرتب كل منهم ٢٠٠٠ ريال ومرتب ثلاثة كم موضفين آخرين ٤٠٠٠ ريال ، والمدير مرتبه ١٠٠٠٠ ريال ، متوسط رواتب الموظفين؟

أ ٢٠٠٠ ب ٢٥٠٠
ج ٣٠٠٠ د ٣٥٠٠

٧ اذا كان ٦ < س < ٤ ، ص = ٨
فقارن بين :
القيمة الأولى : ٠.٧٥ القيمة الثانية : $\frac{س}{ص}$

أ القيمة الأولى أكبر ب القيمة الثانية أكبر
ج لقيمتان متساويتان د المعطيات غير كافية

٨ ما العدد الذي بين ٠,٠٠٦ و ٠,٠٨؟

أ ٠,٧٠ ب ٠,٠٨١
ج ٠,٦٥ د ٠,٧٥

٩ أوجد قيمة س



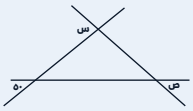

أ ١٣٠ ب ٢٣٠
ج ٢٥٠ د ٢٧٠

١٠ في الشكل المجاور :
إسطوانة مملوءة بعصير
قارن بين :
القيمة الأولى : كمية العصير
القيمة الثانية : ٧٥٠

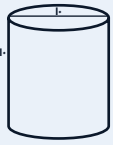

أ القيمة الأولى أكبر ب القيمة الثانية أكبر
ج لقيمتان متساويتان د المعطيات غير كافية

١١ في الشكل التالي أوجد قياس الزاوية س

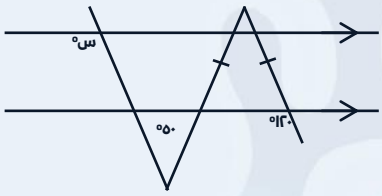

أ ٣٠° ب ٦٠°
ج ٧٠° د ٨٠°

الجزء القادم
نلقاكم في القسم الرابع و الثلاثين
ذاكر بذكاء ليس بجهد - أكاديمية بازيد

مفاتيح الاجوبة

١. د	٢. أ	٣. ب	٤. د	٥. أ	٦. ج	٧. أ	٨. د	٩. ب	١٠. أ	١١. ج

- كتاب أقسام الكمي -

SECTION34

القسم الرابع و الثلاثين

مسائل حسابية . هندسة . جبر . احصاء

11 سؤال

مع مفتاح الإجابات

ذاكر بذكاء ليس بجهد

BAZAID ACADEMY 2026

القسم الرابع و الثلاثين

١ ما عدد المربعات ؟

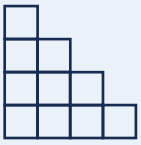

أ ١٠ ب ١١
ج ١٢ د ١٣

٢ في الشكل المجاور أوجد قيمة :
١٨٠ - س - ص



أ $\frac{ع}{٢}$ ب $\frac{ع}{٣}$
ج ٣ ع د ع

٣ اذا كان $\sqrt{٢٠}$ أ = $\frac{\sqrt{١٨٠ \times ٢}}{أ}$ فإن أ = ...

أ $\sqrt{٥}$ ب $\sqrt{٣٠٠}$
ج $\sqrt{٤٤٠}$ د $\sqrt{٣٦٠}$

٤ إذا تحرك رياضي على محيط سداسي منتظم طول ضلعه (١٠) متر من النقطة (س) في اتجاه عقارب الساعة ، فقطع مسافة (١٤٠) متر ، فعند أي نقطة سيقف؟

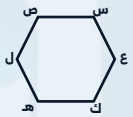

أ ع ب ل
ج هـ د ك

٥ في الشكل المجاور: مستطيل محيطه = ٣٠ ، ومساحته = ٢٤ وجميع الدوائر متطابقة أوجد طول قطر الدائرة



أ ١٠ ب ٢
ج ١٢ د ٤

٦ في الشكل المقابل :
ما قيمة س

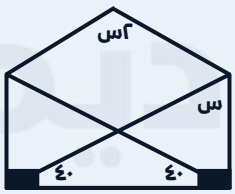

أ ٥٠ ب ٩٠
ج ٣٠ د ٦٠

٧ يمثل الرسم البياني عدد الطلاب المشاركين في أنشطة رياضية مختلفة، أي هذه الأنشطة عدد مشتركيها يساوي مجموع عدد المشتركين في الجري وكرة السلة ؟

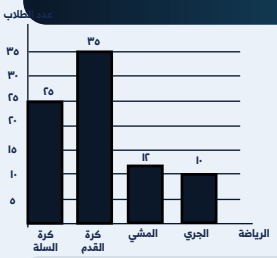

أ الجري ب كرة القدم
ج المشي د كرة السلة

٨ الشكل المجاور مربع أوجد قيمة س

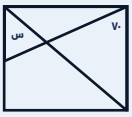

أ ٧٠ ب ٦٥
ج ١١٥ د ١٢٠

٩ ما الطالب الأعلى معدل دراسي ؟

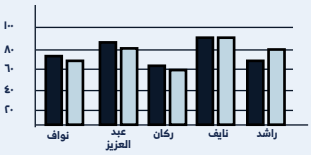

أ نواف ب عبد العزيز
ج ركان د نايف

١٠ اذا كان $\sqrt{س + ٣٢}$ = ٩ ، أوجد قيمة س

أ ٤٨ ب ٤٩
ج ٥٠ د ٥١

١١ أي المدن في زيادة مطردة ؟

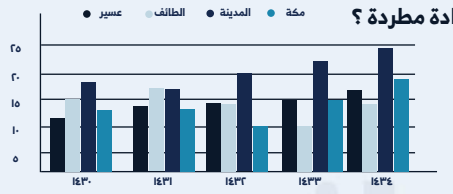

أ مكة ب المدينة
ج الطائف د عسير

الجزء القادم
نلقاكم في القسم الخامس و الثلاثين
ذاكر بذكاء ليس بجهد - أكاديمية بازيد

مفاتيح الاجوبة

١.د	٢.أ	٣.ج	٤.د	٥.ب	٦.أ	٧.ب	٨.ج	٩.د	١٠.ب	١١.د

- كتاب أقسام الكمي -

SECTION35

القسم الخامس و الثلاثين

مسائل حسابية . هندسة . جبر . احصاء

11 سؤال

مع مفتاح الإجابات

ذاكر بذكاء ليس بجهد

BAZAID ACADEMY 2026

القسم الخامس و الثلاثين

١ الشكل التالي يمثل الكمية المضافة باللتر كل ساعة، ما المدة التي كان مقدار الزيادة فيها صفر ؟

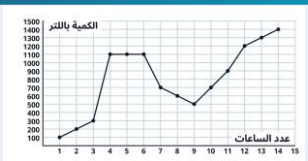

أ ١-٣ ب ٤-٦
ج ٧-٩ د ١٠-١٢

٢ الشكل التالي يمثل مصروفات سلطان شهريا إذا كان اجمالي مصروفاته ٥٠٠٠ ريال شهريا ، نسبة ما صرفه في السفر ٦٥٪ مما صرف في الترفيه، أوجد المبلغ الذي صرفه سلطان في السفر



أ ١٦٥٠ ب ٦٥٠
ج ٣٢٥ د ٢٥٠

٣ ما عدد القوارب التي أبحرت ٤٠٠ دقيقة على الأقل ؟

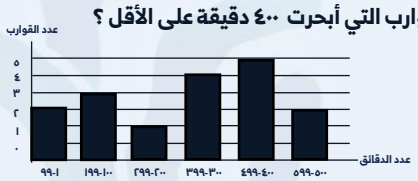

أ ٥ ب ٧
ج ٩ د ١٥

٤ في الشكل المجاور م مركز الدائرة، أوجد مساحة هذه الدائرة بالسنتيمتر المربع.



أ ٤ط ب ١٦ ط
ج ٨ط د ١٢ ط

٥ ما المنطقة التي تمتلك أعلى نسبة مياه متوفرة لكل فرد؟

الدول	عدد السكان	المياه المتوفرة
المشرق العربي	٢٥١,٧	٢٦٣
المغرب العربي	٧١,٣	٢٥٢
الشرق الأوسط	٦٢,٤	٣٢٤
الخليج العربي	٦٩,٨	٢٢٨

أ المشرق العربي ب المغرب العربي
ج الشرق الأوسط د الخليج العربي

٦ مجموعة أعداد مداها ١٠واصغر عدد فيها ٤، ما هو أكبر عدد في المجموعة ؟

أ ٧ ب ٦
ج ١٦ د ١٤

٧ متجر يوجد فيه ٥ علب أقلام وكل علبه فيها ١٢ قلم علبة فكم قلم وهناك ٥ أقلام أخرى ، إذا قام ببيع ١٧ قلم فكم علبة تبقت ؟

أ ٣ ب ٣,٥
ج ٤ د ٤,٥

٨ ربع دائرة نصف قطر دائرتها ٨، أوجد محيط الشكل المجاور.

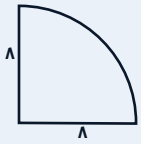

أ ١٦ ط + ١٦ ب ٤ط + ١٦
ج ٨ط + ١٦ د ٦ط + ١٦

٩ ٢٥ ÷ ٥ + ٢٠ (١٠ - ٥) =

أ ٧٥ ب ١٠٠
ج ٢٥ د ١٠٥

١٠ قارن بين :
القيمة الأولى : (٨-٣)-٤ القيمة الثانية : (٣٨)٤

أ القيمة الأولى أكبر ب القيمة الثانية أكبر
ج القيمتان متساويتان د المعطيات غير كافية

١١ أوجد متوسط عام ١٤٢٧

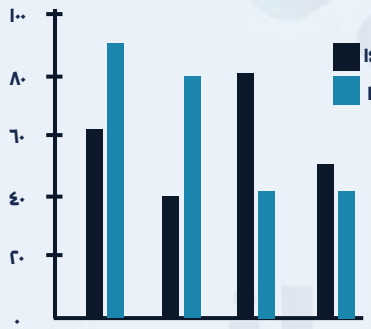

أ ٥٥ ب ٦٠
ج ٦٢,٥ د ٦٦

الجزء القادم
نلقاكم في القسم السادس و الثلاثين
ذاكر بذكاء ليس بجهد - أكاديمية بازيد

مفاتيح الاجوبة

١.ب ٢.ب ٣.ب ٤.ب ٥.ج ٦.د ٧.ج ٨.ب ٩.ب ١٠.ج ١١.ج

- كتاب أقسام الكمي -

SECTION36

القسم السادس و الثلاثين

مسائل حسابية . هندسة . جبر . احصاء

11 سؤال

مع مفتاح الإجابات

ذاكر بذكاء ليس بجهد

BAZAID ACADEMY 2026

القسم السادس و الثلاثين

١ إذا كان ٠.٧% من عدد يساوي ٢١ ما هذا العدد ؟

أ ٣ | ب ٣٠
ج ٣٠٠ | د ٣٠٠٠

٢ عدد الطلاب الحاصلين على مقبول يساوي عدد الطلاب الحاصلين على .....



أ ممتاز | ب جيد
ج جيد جدا | د راسب

٣ ما السنة التي تقل بـ ٩ ملايين عن سنة ١٤٣٠هـ؟

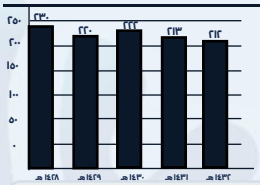

أ ١٤٢٩ هـ | ب ١٤٣١ هـ
ج ١٤٣٢ هـ | د ١٤٢٨ هـ

٤ في الشكل المجاور :
أوجد طول أ د

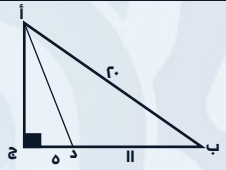

أ ١٣ | ب ٢٠
ج ١٩ | د ١٦

٥ المثلث متطابق الأضلاع قارن بين :
القيمة الاولى : محيط المثلث
القيمة الثانية : ٣٣ سم

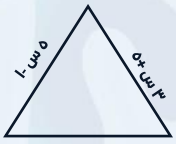

أ القيمة الأولى أكبر | ب القيمة الثانية أكبر
ج القيمتان متساويتان | د المعطيات غير كافية

٦ قطعة ارض مستطيلة الشكل طولها ١٥٠ م ، وعرضها ١٠٠ م ، و واحد كيلو جرام من بذور القمح تغطي ١٥ م من الأرض وسعر الكيلو جرام من البذور ٥ ريال ، كم التكلفة لتغطية الأرض كاملة؟

أ ٢٥٠٠ | ب ٥٠٠٠
ج ٧٥٠٠ | د ١٠٠٠٠

٧ إذا كانت س ص = ١٠ فقارن بين :

القيمة الأولى:	القيمة الثانية:
س	٠.٠١

أ القيمة الأولى أكبر | ب القيمة الثانية أكبر
ج القيمتان متساويتان | د المعطيات غير كافية

٨ تبعد الأحساء عن الرياض مسافة ٣٦٠ كلم ، يقطعها أحمد في ٢٤٠ دقيقة ، كم يقطع في الساعة الواحده ؟

أ ٩٠ | ب ٨٠
ج ٧٠ | د ٦٠

٩ رحلة فيها ٤٥٠ طالب ، وكل ١٥ طالب معهم ٢ معلم ،فكم عدد المعلمين ؟

أ ١٠ | ب ٣٠
ج ٤٥ | د ٦٠

١٠ سبعة أعداد فردية متتالية متوسطها يساوي ١٧ ، ما متوسط اول ثلاثة أعداد ؟

أ ١١ | ب ١٢
ج ١٣ | د ١٤

١١ مدرسة بها ٣ صفوف ، يراد اختيار طالب واحد من الطلاب الثلاثة الأوائل بكل صف لتشكيل فريق للطلاب المتفوقين ، بكم طريقة يمكن تكوين الفريق ؟

أ ٩ | ب ٢٧
ج ٥٤ | د ٨١

الجزء القادم
نلقاكم في القسم السابع والثلاثين
ذاكر بذكاء ليس بجهد - أكاديمية بازيد

مفاتيح الاجوبة

١. أ	٢. ج	٣. أ	٤. ب	٥. ج	٦. د	٧. ج	٨. ج	٩. ج	١٠. ب	١١. د

- كتاب أقسام الكمي -

SECTION37

القسم السابع و الثلاثين

مسائل حسابية . هندسة . جبر . احصاء

11 سؤال

مع مفتاح الإجابات

ذاكر بذكاء ليس بجهد

BAZAID ACADEMY 2026

القسم السابع و الثلاثين

١ ذا كان أ ب = ٤ ، أ ج = ٣
أوجد د هـ ؟

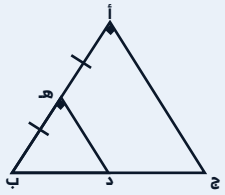

أ ١,٥ ب ٢
ج ٢,٥ د ٤

٢ سيارتان تسيران بعكس الاتجاه من نفس النقطه ، الاولى بسرعه س كم/س والثانيه بسرعة ص كم/س ، ما العلاقه التي تمثل المسافه بينهما بعد ساعه؟

أ ص x س ب $\frac{ص}{س}$
ج ص - س د ص + س

٣ أوجد قيمة : $\frac{\frac{١}{٣}}{\frac{١}{٣}+١} + \frac{١}{٣} =$

أ $\frac{٣}{٤}$ ب $\frac{٧}{١٢}$
ج ٥ د ١٢

٤ قارن بين :
القيمة الأولى : س
القيمة الثانية : ص



أ القيمة الأولى أكبر ب القيمة الثانية أكبر
ج القيمتان متساويتان د المعطيات غير كافية

٥ أوجد طول نصف القطر اذا كانت أ ب قطر الدائرة :

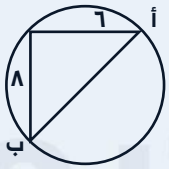

أ ١٠ ب ٥
ج ٨ د ٦

٦ قارن بين :
القيمة الأولى : = ٦٠٢
القيمة الثانية : ٢٣ × ٦٠ + ٣٧ × ٦٠

أ القيمة الأولى أكبر ب القيمة الثانية أكبر
ج القيمتان متساويتان د المعطيات غير كافية

٧ خمسة اعداد متتالية ، مجموع اول عددين ٢٧ ، فما هو العدد الرابع ؟

أ ١٦ ب ١٣
ج ١٢ د ١٥

٨ اي الشركات اكثر ربحا ؟

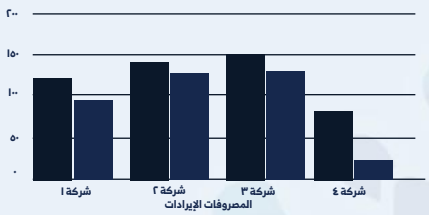

أ شركة ١ ب شركة ٢
ج شركة ٣ د شركة ٤

٩ في الشكل المجاور ، إذا كان معدل انسياب السيارات يوم الخميس = ٤ ، ما معدل انسياب السيارات يوم الاثنين؟

اليوم	عدد السيارات
السبت	١٥٠
الاحد	١٩٠
الاثنين	٤٠٠
الثلاثاء	٢٥٠
الاربعاء	٣٣٠
الخميس	٣٠٠
الجمعة	٥٠٠

أ ٢ ب ٢,٥
ج ٢,٧ د ٣

١٠ أوجد قيمة : $\frac{٧٥ + ٨٥}{٧٥}$

أ ١٠ ب ١٢
ج ٢٦ د ٦

١١ طالب أعار أصدقاءه ٦ كتب وقام باستعارة ٤ كتب من مكتبة الحي فأصبح معه ٢٨ كتاب ، كم كان عدد الكتب معه؟

أ ٢٤ ب ٣٠
ج ٣٢ د ٣٦

الجزء القادم
نلقاكم في القسم الثامن و الثلاثين
ذاكر بذكاء ليس بجهد - أكاديمية بازيد

مفاتيح الاجوبة

١.أ	٢.د	٣.ب	٤.د	٥.ب	٦.ج	٧.أ	٨.ب	٩.د	١٠.د	١١.ب

- كتاب أقسام الكمي -

SECTION38

القسم الثامن و الثلاثين

مسائل حسابية . هندسة . جبر . احصاء

11 سؤال

مع مفتاح الإجابات

ذاكر بذكاء ليس بجهد

BAZAID ACADEMY 2026

القسم الثامن و الثلاثين

١ ما السنة التي تقل بـ ٩ ملايين عن سنة ١٤٣٠هـ؟

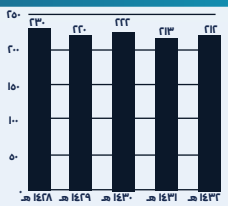

أ) ١٤٢٩ هـ
ب) ١٤٣١ هـ
ج) ١٤٣٢ هـ
د) ١٤٢٨ هـ

٢ الشكل المجاور يمثل جنسيات موظفين شركة عدد الموظفين بها ٤٢٠ ،إذا أرادت الشركة زيادة الموظفين السعوديين إلى ٥٠٪ عن طريق استبدال بعض موظفي الشركة من جنسيات الأخرى ، فكم سعودياً توظف؟



أ) ٧٠
ب) ٧٥
ج) ٨٠
د) ٨٥

٣ قيمة ١٠ قطع فضية وقطعة واحدة ذهبية تساوي ٣ قطع ذهبية ، قارن بين :

القيمة الأولى: قيمة قطعة واحدة ذهبية	القيمة الثانية: قيمة ٥ قطع فضية

أ) القيمة الأولى أكبر
ب) القيمة الثانية أكبر
ج) القيمتان متساويتان
د) المعطيات غير كافية

٤ ١ + ٢ + ٣ + ٤ + ٥ + ٦ + ٦ + ٥ + ٤ + ٣ + ٢ + ١

أ) ٧ x ٩
ب) ٧ x ٥
ج) ٧ x ٦
د) ٧ x ٤

٥ في الشكل التالي ، س بالسنتمتر تساوي :



الرسم ليس على القياس

أ) ٦
ب) ٥
ج) ٤
د) ٣

٦ اذا كانت ٢^س = ٣ ، فأن ٢^٣س = ...

أ) ٣
ب) ٦
ج) ٩
د) ٢٧

٧ في الشكل التالي ، دائرة مركزها م ، ونصف قطرها ٤سم ، كم سنتيمتراً مربعاً مساحة الجزء المظلل ؟



الرسم ليس على القياس

أ) ١٢ ط
ب) ١٠ ط
ج) ٦ ط
د) ٤ ط

٨ ما نسبة زيادة ميزانية المعهد من عام ١٤٢٨ إلى عام ١٤٢٩ ؟

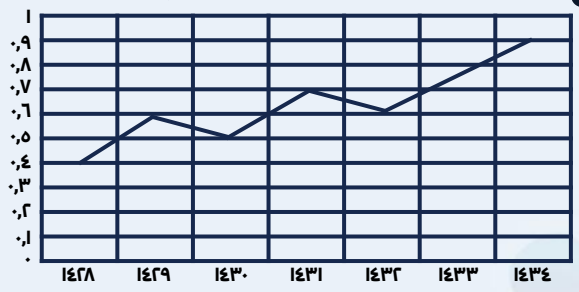

أ) ٧٥٪
ب) ٥٠٪
ج) ٣٣٪
د) ٢٠٪

٩ قارن بين :
القيمة الأولى : س
القيمة الثانية : ص

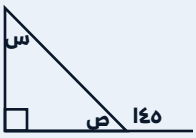

أ) القيمة الأولى أكبر
ب) القيمة الثانية أكبر
ج) القيمتان متساويتان
د) المعطيات غير كافية

١٠ أوجد قيمة : ١٦٠ x ٦٢,٥٪

أ) ١١٠
ب) ١٠٠
ج) ٩٠
د) ٨٠

١١ إذا كان عمر محمد أكبر من عمر وليد ، وعمر وليد أصغر من عمر علي قارن بين :
القيمة الأولى : عمر محمد
القيمة الثانية : عمر علي

أ) القيمة الأولى أكبر
ب) القيمة الثانية أكبر
ج) القيمتان متساويتان
د) المعطيات غير كافية

الجزء القادم
نلقاكم في القسم التاسع و الثلاثين
ذاكر بذكاء ليس بجهد - أكاديمية بازيد

مفاتيح الاجوبة

١. ب	٢. أ	٣. ج	٤. ج	٥. د	٦. ج	٧. د	٨. ب	٩. أ	١٠. ب	١١. د

- كتاب أقسام الكمي -

SECTION39

القسم التاسع و الثلاثين

مسائل حسابية . هندسة . جبر . احصاء

11 سؤال

مع مفتاح الإجابات

ذاكر بذكاء ليس بجهد

BAZAID ACADEMY 2026

القسم التاسع و الثلاثين

١ ما السنة التي تقل بـ ٩ ملايين عن سنة ١٤٣٠هـ؟

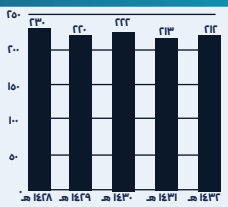

أ) ١٤٢٩ هـ
ب) ١٤٣١ هـ
ج) ١٤٣٢ هـ
د) ١٤٢٨ هـ

٢ ما العام الذي كان فيه اقل فرق بين حجاج الداخل و الخارج ؟

العام	حجاج الداخل	حجاج الخارج
١٤٣٠	٨٠٠٠٠٠	١٢٠٠٠٠٠
١٤٣١	٧٠٠٠٠٠	١١٠٠٠٠٠
١٤٣٢	٦٠٠٠٠٠	١٠٠٠٠٠٠
١٤٣٣	٧٠٠٠٠٠	١٣٠٠٠٠٠
١٤٣٤	٩٠٠٠٠٠	١٣٠٠٠٠٠

أ) ١٤٣٠
ب) ١٤٣١
ج) ١٤٣٢
د) ١٤٣٣

٣ إذا كانت ن > ٠ ، ماهي أكبر قيمة ل ن؟

أ) ن^{٢}
ب) ن^{٣}
ج) ن
د) ن٢

٤ قارن بين :
-القيمة الاولى : مساحه المثلث التي بداخل المربع
-القيمة الثانية : مساحة المثلث التي بداخل المستطيل

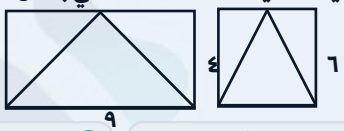

أ) القيمة الأولى أكبر
ب) القيمة الثانية أكبر
ج) القيمتان متساويتان
د) المعلومات غير كافية

٥ اذا كان الشكل مستطيل ومساحته ٤٨ ، أوجد احداثيات النقطة (ب)

أ) (٤ ، ١٢)
ب) (٤ ، ١٤)
ج) (٦ ، ١٢)
د) (٦ ، ١٤)

٦ أوجد س+ص

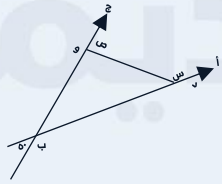

أ) ٢٢٠
ب) ٢٣٠
ج) ١٨٠
د) ٢٧٠

٧ $\frac{٤٣ \times ١٢٩}{٢٣}$ = ...

أ) ٢٢٣
ب) ٢٤٣
ج) ٢٦٣
د) ٢٨٣

٨ أوجد الحد التالي في المتتابعة $\frac{٧}{١٢}$ ، $\frac{٣}{٥}$ ، ١ ، $\frac{٧}{٥}$ ، .....

أ) $١\frac{٤}{٥}$
ب) $١\frac{٣}{٥}$
ج) $١\frac{٢}{٥}$
د) $١\frac{١}{٥}$

٩ سأل يوسف صديقه إبراهيم ،كم نصيبك في اسهم شركتنا؟
فأجاب إبراهيم : "نصيبي يقبل القسمه على ١٣،١١،٩ بدون باقي" ، مانصيب يوسف اذا كان مجموع اسهم الشركة ٢٠٠٠؟

أ) ١٢٨٧
ب) ٧١٣
ج) ١٥٢١
د) ١٤٥٧

١٠ شخص يدرب لمدة ٦ساعات فيأخذ ٦٠٠ريال وجوال ، فإذا تدرب لمدة ٤ساعات يأخذ ٤٠٠اريال وجوال من نفس النوع ، ما سعر الجوال ؟

أ) ١٠٠٠
ب) ٩٠٠
ج) ٨٠٠
د) ٥٠٠

١١ إذا كانت م < ن < صفر
قارن بين :
القيمة الاولى: م + ن
القيمة الثانيه : م ن

أ) القيمة الأولى أكبر
ب) القيمة الثانية أكبر
ج) القيمتان متساويتان
د) المعلومات غير كافية

الجزء القادم
نلقاكم في القسم الأربعون
ذاكر بذكاء ليس بجهد - أكاديمية بازيد

مفاتيح الاجوبة

١.ب	٢.د	٣.أ	٤.ج	٥.د	٦.ب	٧.ج	٨.أ	٩.ب	١٠.ب	١١.د

- كتاب أقسام الكمي -

SECTION40

القسم الأربعون

مسائل حسابية . هندسة . جبر . احصاء

11 سؤال

مع مفتاح الإجابات

ذاكر بذكاء ليس بجهد

BAZAID ACADEMY 2026

القسم الأربعون

١ اذا كانت ، ك = ٢ ج = ٤ د = ٨ ن ، أوجد قيمة $\frac{ك\ ن}{د\ ج}$

أ) ١
ب) ٢
ج) $\frac{١}{٢}$
د) $\frac{١}{٤}$

٢ كم تمثل نسبة أعداد الإبل في السودان بالنسبة للصومال ؟

الدولة	نسبة الإبل
الصومال	٧
السعودية	٢,٤٥
موريتانيا	١,٥
السودان	٣,٥
الإمارات	٠,٥

أ) ٥٠%
ب) ٢٥%
ج) ٢٠%
د) ٣٠%

٣ إذا كانت السودان تمثل ٥٠٪ من اجمالي مجموع الدول، أوجد نسبة السعودية

الدولة	نسبة الإبل
السودان	٣,٥
الصومال	٧
العراق	١,٥
السعودية	٢,٤٥
المغرب	٠,٥

أ) ٣١%
ب) ٣٢%
ج) ٣٤%
د) ٣٥%

٤ قارن بين :
القيمة الأولى : $٠,٢ \times \sqrt{٧٥}$ القيمة الثانية : $\sqrt{٣}$

أ) القيمة الأولى أكبر
ب) القيمة الثانية أكبر
ج) القيمتان متساويتان
د) المعلومات غير كافية

٥ إذا كان $\frac{س}{٠,٥} = \frac{\sqrt{٠,٣}}{٦}$ فأوجد قيمة س؟

أ) $\frac{١}{١٠٠}$
ب) $\frac{١}{١٠٠٠}$
ج) $\frac{١}{١٠}$
د) $\frac{٧}{١٠}$

٦ ثمانية أشخاص يجتمعون كل ٣ أشهر في منزل واحد منهم بالتناوب، وبدأوا الاجتماع في منزل محمد فبعد كم سنة سوف يجتمعون في منزل محمد؟

أ) ٥
ب) ٧
ج) ٦
د) ٢

٧ اكمل النمط ١٥ ، ١٤ ، ..... ، ٩ ، ٥

أ) ٩
ب) ١٠
ج) ١٤
د) ١٥

٨ في الشكل المجاور ، أوجد نسبة مساحة المظلل الى الشكل كامل :

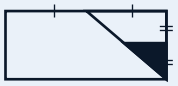

أ) $\frac{١}{٢}$
ب) $\frac{١}{٤}$
ج) $\frac{١}{٨}$
د) $\frac{١}{١٦}$

٩ أوجد قيمة ص :



أ) ٣٠
ب) ٣٥
ج) ٤٠
د) ٤٥

١٠ عدد = ثلاثة أضعاف جذره التربيعي، فما هو العدد ؟

أ) ٤
ب) ٦
ج) ٩
د) ١٦

١١ قارن بين :

القيمة الأولى : ثلاث أرباع ($\frac{١}{٣}$ ١)

القيمة الثانية : ثلثي ($\frac{١}{٢}$ ١)

أ) القيمة الأولى أكبر
ب) القيمة الثانية أكبر
ج) ج : القيمتان متساويتان
د) المعطيات غير كافية

الجزء القادم
نلقاكم في القسم الواحد والاربعون
ذاكر بذكاء ليس بجهد - أكاديمية بازيد

مفاتيح الاجوبة

١. أ	٢. أ	٣. د	٤. ج	٥. أ	٦. د	٧. ب	٨. د	٩. أ	١٠. ج	١١. ب

- كتاب أقسام الكمي -

SECTION41

القسم الواحد والأربعون

مسائل حسابية . هندسة . جبر . احصاء

11 سؤال

مع مفتاح الإجابات

ذاكر بذكاء ليس بجهد

BAZAID ACADEMY 2026

القسم الواحد والأربعون

١ سفينة تستطيع وضع ٢٠ صندوق كبير او ٢٤ صندوق صغير ، إذا تم وضع ١٥ صندوق كبير فكم نستطيع وضع صندوق صغير؟

أ ٤ ب ٦
ج ٨ د ١٠

٢ قارن بين :
القيمة الأولي : محيط المربع
والقيمة الثانية : مساحة المثلث



أ القيمة الأولى أكبر ب القيمة الثانية أكبر
ج القيمتان متساويتان د المعطيات غير كافية

٣ تبلغ الطاقة الاستيعابية لرافعة احد الموانئ ٢٠ حاوية من الحجم الكبير أو ٢٤ حاوية من الحجم المتوسط، إذا وضع عامل ١٥ حاوية من الحجم الكبير في هذه الرافعة فما اكبر عدد من حاويات الحجم المتوسط يستطيع ان يضعه فيها ؟

أ ٦ ب ٨
ج ١٢ د ١٦

٤ شخص يدرب لمدة ٦ ساعات فيأخذ ٦٠٠ ريال وجوال ، فإذا تدرب لمدة ٤ ساعات يأخذ ١٠٠ ريال وجوال من نفس النوع ، ما سعر الجوال ؟

أ ١٠٠٠ ب ٩٠٠
ج ٨٠٠ د ٥٠٠

٥ هـ ع توازي ب ج ،
أوجد مساحة المظلل
أ ب ج د مربع

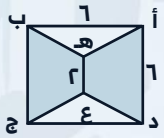

أ ١٨ ب ٢٤
ج ٣٦ د ٢٨

٦ سار محمد ٣٠ دقيقة بسرعة ٦٠ كم / س ، ٦٠ دقيقة بسرعة ٨٠كم /س ، احسب المسافة الكلية التي قطعها ؟

أ ١٠٠ ب ١١٠
ج ١١٥ د ١٢٠

٧ كم عام منذ يوم ١ محرم سنة عشرة قبل الهجرة إلى ١ محرم عام ٢٠ بعد الهجرة ؟

أ ٣٠ ب ٢٩
ج ٢٨ د ٣١

٨ رجل لديه ٨٨ ألف ريال ، لديه ٤ بنات و ٩ أولاد وزوجة ، والزوجة لها الثمن ، والولد مثليي البنت ، فكم نصيب البنت الواحدة؟

أ ٣٥٠٠ ب ٣٨٠٠
ج ٤٤٠٠ د ٤٢٠٠

٩ أوجد قيمة : $\frac{\sqrt{٣}\ \sqrt{٢٧} + \sqrt{٦}\ \sqrt{٣}}{\sqrt{٣}\ \sqrt{٣}}$

أ ١ ب ٥
ج ١٠ د ١٥

١٠ أوجد قيمة س في الشكل المجاور :

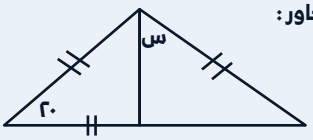

أ ٤٠ ب ٦٠
ج ٧٠ د ٩٠

١١ اذا كانت س = $\sqrt{٥}$ - ٣
القيمة الأولى : القيمة الثانية : س

أ القيمة الأولى أكبر ب القيمة الثانية أكبر
ج ج : القيمتان متساويتان د المعطيات غير كافية

الجزء القادم
نلقاكم في القسم الاثنان والاربعون
ذاكر بذكاء ليس بجهد - أكاديمية بازيد

مفاتيح الاجوبة

١.ب	٢.أ	٣.أ	٤.ب	٥.ب	٦.ب	٧.ب	٨.أ	٩.ب	١٠.ب	١١.أ

- كتاب أقسام الكمي -

SECTION42

القسم الاثنان والأربعون

مسائل حسابية . هندسة . جبر . احصاء

11 سؤال

مع مفتاح الإجابات

ذاكر بذكاء ليس بجهد

BAZAID ACADEMY 2026

القسم الاثنان والأربعون

١ إذا كان ص = $\frac{١}{٢}$ س ، ع = $\frac{١}{٢}$ ص ، س + ص + ع = ٧
أوجد قيمة ع

أ ١ ب ٣
ج ٥ د ٧

٢ في الشكل التالي، قارن بين :
القيمة الأولى : ٢ص
القيمة الثانية : ١٠٠



أ القيمة الأولى أكبر ب القيمة الثانية أكبر
ج القيمتان متساويتان د المعطيات غير كافية

٣ تسمح حديقة بدخول ٩٠ من الرجال والنساء والأطفال، فاذا كان سعر تذكرة الاطفال يساوي ٢٠٠ ريال وكان إجمالي مبيعات تذاكر الأطفال يساوي ٦٠٠٠ ريال وكان عدد الرجال نصف عدد النساء، فما عدد الرجال

أ ١٠ ب ٢٠
ج ٣٠ د ٤٠

٤ ما العدد الذي سدسه يساوي $\frac{٢٥}{٣}$ ؟

أ ٣٠ ب ٤٠
ج ٥٠ د ٦٠

٥ أوجد قيمة : $\sqrt[٣]{٣} + ٢\sqrt[٣]{٣} + ٣\sqrt[٣]{٣}$

أ $\sqrt[٣]{٣}$ ب ٣
ج $\sqrt[٣]{١٠٨}$ د ٢٧

٦ أوجد قيمة المقدار $(٢^{-١} + ٠.٥ + \frac{١}{٢} - ٠.٧٥)^{٢}$

أ -٠,٢٥ ب ٠,٢٥
ج -١,٧٥ د ٠,٥٦٢٥

٧ ٥ عمال يصنعون ١٠٠ مجسم في ٥ أيام، فكم عامل يستطيع صنع ٣٣٦ مجسم في أسبوع ؟

أ ١٢ ب ١٣
ج ١٤ د ١٥

٨ أوجد قيمة س + ص

٣ص	٢س
٣ص	٢س

أ ٧٢ ب ٧٥
ج ٨٢ د ٨٥

٩ في الشكل التالي إذا كانت المربعات متطابقة ومساحة كل مربع ١ سم^{٢} ، احسب مساحة الشكل المظلل



أ ١١ ب ١٢
ج ١٣ د ١٤

١٠ إذا كان ٣(س +٧) = ٢١ + ص ، قارن بين :
القيمة الأولى : ٣س والقيمة الثانية : ص

أ القيمة الأولى أكبر ب القيمة الثانية أكبر
ج القيمتان متساويتان د المعطيات غير كافية

١١ يمثل الرسم البياني عدد زوار حديقة خلال عدة أيام، أوجد نسبة عدد الزائرات الإناث خلال الأسبوع إلى مجموع الزوار يوم الخميس

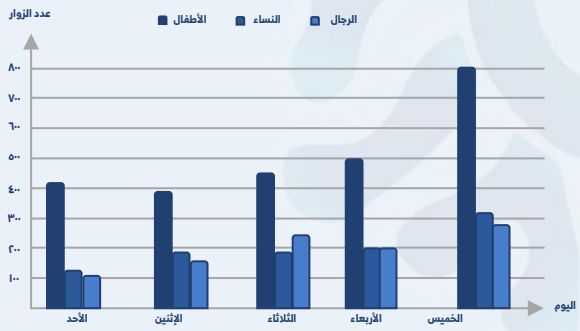

أ $\frac{٢}{٧}$ ب $\frac{٤}{٩}$
ج $\frac{٣}{٥}$ د $\frac{٥}{٧}$

الجزء القادم
نلقاكم في القسم الثالث والاربعون
ذاكر بذكاء ليس بجهد - أكاديمية بازيد

مفاتيح الاجوبة

١. أ	٢. ب	٣. ب	٤. ج	٥. ج	٦. د	٧. أ	٨. ب	٩. أ	١٠. ج	١١. د

- كتاب أقسام الكمي -

SECTION43

القسم الثالث والأربعون

مسائل حسابية . هندسة . جبر . احصاء

11 سؤال

مع مفتاح الإجابات

ذاكر بذكاء ليس بجهد

BAZAID ACADEMY 2026

القسم الثالث والأربعون

١ إذا كانت س ص = ١٠ فقارن بين :

القيمة الأولى :	القيمة الثانية :
س	٠,٠٠١

أ القيمة الأولي أكبر
ب القيمة الثانية أكبر
ج القيمتان متساويتان
د المعطيات غير كافية

٢ سبعة أعداد فردية متتالية متوسطها يساوي ١٧ ، ما متوسط اول ثلاثة أعداد ؟

أ ١١
ب ١٢
ج ١٣
د ١٤

٣ رحلة فيها ٤٥٠طالب ، وكل ١٥طالب معهم ١معلم ، فكم عدد المعلمين ؟

أ ١٠
ب ٣٠
ج ٤٥
د ٦٠

٤ قطعة ارض مستطيلة الشكل طولها ١٥٠م ، وعرضها ١٠٠م ، و واحد كيلو جرام من بذور القمح تغطي ١٥ م من الارض ، وسعر الكيلو جرام من البذور ٥ ريال ، كم التكلفة لتغطية الأرض كاملة؟

أ ٢٥٠٠
ب ٥٠٠٠
ج ٧٥٠٠
د ١٠٠٠٠

٥ المثلث متطابق الاضلاع
قارن بين :



القيمة الأولى :	القيمة الثانية :
محيط المثلث	٤٢ سم

أ القيمة الأولي أكبر
ب القيمة الثانية أكبر
ج القيمتان متساويتان
د المعطيات غير كافية

٦ ما السنة التي تقل بـ ٩ملايين عن سنة ١٤٣٠هـ؟

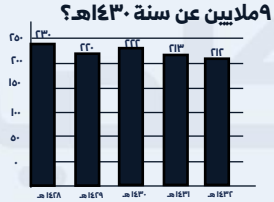

أ ١٤٢٩ هـ
ب ١٤٣١ هـ
ج ١٤٣٢ هـ
د ١٤٢٨ هـ

٧ إذا كان ٠,٧٪من عدد يساوي ٢١ماهذا العدد ؟

أ ٣
ب ٣٠٠
ج ٣٠٠٠
د ٣٠٠٠٠

٨ عدد الطلاب الحاصلين على مقبول يساوي عدد الطلاب الحاصلين على .....



أ ممتاز
ب جيد
ج جيد جدا
د راسب

٩ في الشكل المجاور :
أوجد طول أ د

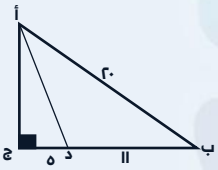

أ ١١
ب ١٢
ج ١٣
د ١٤

١٠ مدرسة بها ٣صفوف ، يراد اختيار طالب واحد من الطلاب الثلاثة الأوائل بكل صف لتشكيل فريق للطلاب المتفوقين ، بكم طريقة يمكن تكوين الفريق ؟

أ ٩
ب ٢٧
ج ٥٤
د ٨١

١١ تبعد الأحساء عن الرياض مسافة ٣٦٠ كلم ، يقطعها أحمد في ٢٤٠ دقيقة ، كم يقطع في الساعة الواحده ؟

أ ٩٠
ب ٨٠
ج ٧٠
د ٦٠

الجزء القادم
نلقاكم في القسم الرابع والاربعون
ذاكر بذكاء ليس بجهد - أكاديمية بازيد

مفاتيح الاجوبة

١.د	٢.ج	٣.د	٤.ب	٥.ج	٦.ب	٧.ج	٨.أ	٩.أ	١٠.ب	١١.أ

- كتاب أقسام الكمي -

SECTION44

القسم الأربعة و الأربعون

مسائل حسابية . هندسة . جبر . احصاء

11 سؤال

مع مفتاح الإجابات

ذاكر بذكاء ليس بجهد

BAZAID ACADEMY 2026

القسم الأربعة و الأربعون

١ أوجد الحد السابع : ١ ، ١ ، ٢ ، ٣ ، ٥ ، ٨ ، .....

أ) ٨ ب) ٩

ج) ١٣ د) ١١

٢ الشكل المقابل مربع طول ضلعه ٤سم ، أوجد مساحة المظلل



أ) ٤ (ط + ٢) ب) ٢ (٨ - ط)

ج) ٣ (٦ + ٤ ط) د) ٥ (٢ - ط)

٣ $(\frac{أ}{ب})^{٢} \times (\frac{ب}{أ})^{٣} \times (\frac{أ}{ب})^{٤} \times (\frac{ب}{أ})^{٥}$

أ) $(\frac{أ}{ب})^{٣}$ ب) $(\frac{ب}{أ})^{٢}$

ج) $(\frac{أ}{ب})^{٢}$ د) $(\frac{ب}{أ})^{٣}$

٤ قارن بين :
القيمة الأولى : $٨^{١٠}$ القيمة الثانية : $(٤٣)^{٥}$

أ) القيمة الأولى أكبر ب) القيمة الثانية أكبر

ج) القيمتان متساويتان د) المعطيات غير كافية

٥ قارن بين :

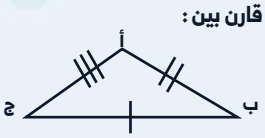



القيمة الأولى : قياس الزاوية ج القيمة الثانية : ١١١

أ) القيمة الأولى أكبر ب) القيمة الثانية أكبر

ج) القيمتان متساويتان د) المعطيات غير كافية

٦ الأربع هللات كم تساوي بالريال ؟

أ) ٤ ب) ٠,٤

ج) ٠,٠٤ د) ٠,٠٠٤

٧ قارن بين :
القيمة الأولى : (٢٦-١٦) x (٦-١٦) x (٧-١٦)
القيمة الثانية : $\frac{٣٦}{٠,٠٤}$

أ) القيمة الأولى أكبر ب) القيمة الثانية أكبر

ج) القيمتان متساويتان د) المعطيات غير كافية

٨ في الشكل المجاور: ٧ مربعات ، مساحة المربع الواحد ١٦ سم ، أوجد محيط الشكل

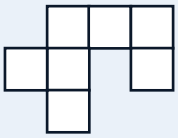

أ) ١٦ ب) ٣٢

ج) ٦٤ د) ١١٢

٩ مكعب يحتوي على ٣أوجه باللون الأزرق ، ووجهين باللون الأحمر ، وجه باللون الأصفر، أوجد نسبة الأوجه الحمراء

أ) $\frac{١}{٦}$ ب) $\frac{٣}{٥}$

ج) $\frac{١}{٣}$ د) $\frac{٢}{٣}$

١٠ إذا كانت النقطة الاولى (٢ ، ب) تقع في الربع الرابع ، و النقطة الثانية (أ ، ٢) تقع في الربع الثاني ، إذًا النقطة (أ ، ب) تقع في أي ربع ؟

أ) الاول ب) الثاني

ج) الثالث د) الرابع

١١ عدد مكون من رقمين، آحاده مضروب في ١٠ أمثاله زائد مربع عشراته يساوي عشراته مضروب في ١٠ أمثاله زائد مربع آحاده

أ) ١١ ب) ١٢

ج) ١٣ د) ١٤

الجزء القادم

نلقاكم في القسم الخامس والأربعون

ذاكر بذكاء ليس بجهد - أكاديمية بازيد

مفاتيح الاجوبة

١. ج	٢. ب	٣. ب	٤. ب	٥. أ	٦. ج	٧. ج	٨. ج	٩. ج	١٠. ج	١١. أ

- كتاب أقسام الكمي -

SECTION45

القسم خمسة و أربعون

مسائل حسابية . هندسة . جبر . احصاء

11 سؤال

مع مفتاح الإجابات

ذاكر بذكاء ليس بجهد

BAZAID ACADEMY 2026

القسم خمسة و أربعون

١ في عام ١٤٣٧هـ عُمر خالد سنة واحدة و عُمر محمد أربع سنوات، في أي عام يكون عُمر خالد ثلاثة أرباع عُمر محمد؟

أ) ١٤٤٤ هـ
ب) ١٤٤٥ هـ
ج) ١٤٤٦ هـ
د) ١٤٤٧ هـ

٢ عجلة طول نصف قطرها ٥٠ سم تدور ٦ دورات، ما المسافة التي قطعتها بالمتر ؟

أ) ٩٤,٢
ب) ٩,٤٢
ج) ٩٤٢
د) ١٨,٨٤

٣ أرض مربعة الشكل يحيط بها سياج طوله ٤٨م، كم متراً مربعاً مساحة الأرض؟

أ) ٤٨
ب) ٩٦
ج) ١٢٠
د) ١٤٤

٤ على خط الأعداد التالي، أ ب = ٩سم ، ب جـ = ٣سم إذا كان
أ د ثلاثة أمثال جـ د ، فإن جـ د يساوي :

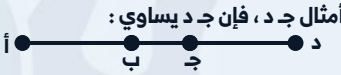

أ) ١٢
ب) ٨
ج) ٦
د) ٤

٥ إذا كان وسيط الأعداد التالية : ص ، ٤ ، ٥ ، ٢ ، ١١ ، ١٦ ، هو ٦ ، فإن ص يمكن أن تكون :

أ) ٢
ب) ٣
ج) ٥
د) ٧

٦ يوم الثلاثاء حدث نزول بالأسهم بنسبة ٣٠٪ وخفض سعر السهم ٠,٣ ريال ، فقارن بين :
القيمة الأولى : ٣٠ ريال
القيمة الثانية : سعر السهم قبل الخصم

أ) القيمة الأولى أكبر
ب) القيمة الثانية أكبر
ج) القيمتان متساويتان
د) المعطيات غيه كافية

٧ ما العدد الذي يجب وضعه في النمط التالي؟
١٣ ، ١٤ ، ١٢ ، ١٣ ، ١١ ، ١٢ ، .....؟

أ) ١٠
ب) ١٢
ج) ١٣
د) ١٤

٨ ق (ج أ ب) = ق (ب د هـ) = ٦٠°
قارن بين :
القيمة الأولى : ج ب
القيمة الثانية : ب د

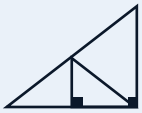

أ) ١٤٣٢ هـ
ب) ١٤٣١ هـ
ج) ١٤٣٠ هـ
د) ١٤٢٩ هـ

٩ ما العام الذي زادت فيه نسبة المتفوقين من الطلاب التعليم العام على نسبة المتفوقين من طلاب تحفيظ القران الكريم في العينات المختارة؟

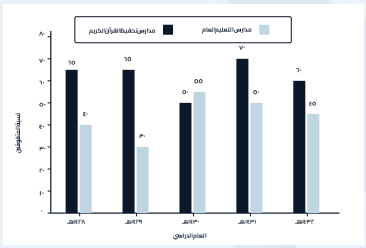

أ) القيمة الأولى أكبر
ب) القيمة الثانية أكبر
ج) القيمتان متساويتان
د) المعطيات غيه كافية

١٠ $\frac{٢}{١ - \sqrt{٣}}$ = ...

أ) $١ + \sqrt{٣}$
ب) $١ - \sqrt{٣}$
ج) $-٢ - \sqrt{٣}$
د) $٢ + \sqrt{٣}$

١١ إذا كان س ع + س ص = ١٠٠ ، فما قيمة $\frac{س}{٥}$ (٣ص + ٣ع) + ١٠؟

أ) ٦٠ + ٢س
ب) ٦٢
ج) ١٣٠ + ٢س
د) ٧٠

الجزء القادم
نلقاكم في القسم ستة و أربعون
ذاكر بذكاء ليس بجهد - أكاديمية بازيد

مفاتيح الاجوبة

١. ب	٢. د	٣. د	٤. ج	٥. د	٦. أ	٧. أ	٨. أ	٩. ج	١٠. أ	١١. د

- كتاب أقسام الكمي -

SECTION46

القسم ستة وأربعون

مسائل حسابية . هندسة . جبر . احصاء

11 سؤال

مع مفتاح الإجابات

ذاكر بذكاء ليس بجهد

BAZAID ACADEMY 2026

القسم ستة وأربعون

١ إذا كان العدد ٢٧٠ يقسم على عدد فردي فيكون الناتج عدد أولي س ،فما قيمة س ؟

أ ٢ | ب ٩
ج ٣ | د ١٣٥

٢ مربع طول ضلعه ٦سم حُسم الى مستطيلين متطابقين فإذا وضعا بجانب بعضهما كونا مستطيل، ما محيط هذا

أ ٢٠ | ب ٢٥
ج ٣٠ | د ٣٦

٣ إذا كان ن عدد طبيعي ، أوجد متوسط :
ن ، ن + ٢ ، ن+ ١٠

أ ٣ن + ٤ | ب ٣ن + ١٢
ج ن + ٥ | د ن +٤

٤ إذا كان محيط مربع = ١٢ ، قارن بين :
القيمة الأولى : مساحة المربع
القيمة الثانية : مساحة مستطيل محيطه = محيط المربع وطوله يساوي ضعف عرضه

أ القيمة الأولى أكبر | ب القيمة الثانية أكبر
ج القيمتان متساويتان | د المعطيات غير كافية

٥ أرض مربعة الشكل يحيط بها سياج طوله ٤٨م ، كم متراً

أ ٤٨ | ب ٩٦
ج ١٢٠ | د ١٤٤

٦ في الشكل التالي، إذا كانت مساحة شبه المنحرف تمثل ثلث مساحة المربع أوجد طول هـ ج

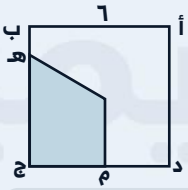

أ ٣ | ب ٤
ج ٥ | د ٦

٧ إذا كان لدينا متتابعة هندسية مكونة من ٥ حدود وتبدأ برقم ٢ ، قارن بين :
القيمة الأولى : مجموع حدود المتتابعة
القيمة الثانية : ٢٠

أ القيمة الأولى أكبر | ب القيمة الثانية أكبر
ج القيمتان متساويتان | د المعطيات غير كافية

٨ شخص معدله في منتصف عامه الدراسي ٤,٧٢ من ٥ ويريد أن يكون معدله بنهاية العام ٤,٨٠ من ٥ ، كم يجب أن يكون معدله في الفصل الدراسي الثاني ليحقق هدفه؟

أ ٤,٧٣ | ب ٤,٨
ج ٤,٨٧ | د ٤,٨٨

٩ ٩ $\sqrt{٣}$ ، ٢ب = ٣ $\sqrt{س}$ ، أوجد قيمة س :

أ ٣٤٣ | ب ٨١
ج ١٠٨ | د ٢٧٠

١٠ في أي عام كان اقل عائد بسوق الاستثمار السعودي ؟

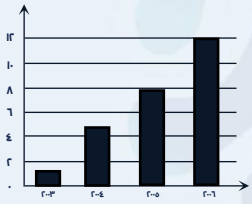

أ ٢٠٠٣ | ب ٢٠٠٤
ج ٢٠٠٥ | د ٢٠٠٦

١١ عند رمي مكعب الأرقام، ما احتمال ظهور عدد فردي؟

أ $\frac{١}{٢}$ | ب $\frac{١}{٣}$
ج $\frac{٢}{٣}$ | د $\frac{١}{٦}$

الجزء القادم
نلقاكم في القسم سبعة وأربعون
ذاكر بذكاء ليس بجهد - أكاديمية بازيد

مفاتيح الاجوبة

١. أ	٢. ج	٣. د	٤. أ	٥. د	٦. ج	٧. د	٨. ج	٩. ج	١٠. أ	١١. أ

- كتاب أقسام الكمي -

SECTION47

القسم سبعة وأربعون

مسائل حسابية . هندسة . جبر . احصاء

11 سؤال

مع مفتاح الإجابات

ذاكر بذكاء ليس بجهد

BAZAID ACADEMY 2026

القسم سبعة وأربعون

١ قارن بين :

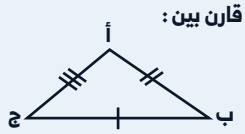

القيمة الأولى : قياس الزاوية ج

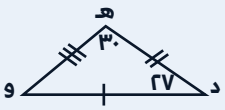

القيمة الثانية : ١١١

أ القيمة الأولى أكبر
ب القيمة الثانية أكبر
ج القيمتان متساويتان
د المعطيات غير كافية

٢ في أي شهر تساوى أ مع ب ؟

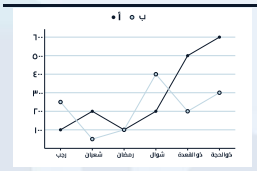

أ رجب
ب شعبان
ج رمضان
د ذو الحجة

٣ في أي شهر كان أ ضعف ب ؟

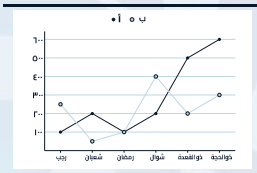

أ رجب
ب شعبان
ج رمضان
د ذو الحجة

٤ $\frac{س^{٧}}{٣٠٧} = ٥٧$ أوجد قيمة س؟

أ ١
ب ٢
ج ٣
د ٤

٥ متتابعة حسابية فيها س= ١٣ وكل حد يزيد عن السابق بـ ٣ ما مقدار مجموع س و الحدود الثلاثة السابقة له ؟

أ ٣٢
ب ٣٣
ج ٣٤
د ٣٥

٦ قارن بين :
القيمة الأولى : مساحة المظلل
القيمة الثانية : ٨ سم٢

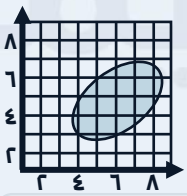

أ القيمة الأولى أكبر
ب القيمة الثانية أكبر
ج القيمتان متساويتان
د المعطيات غير كافية

٧ لشكل المجاور مستطيل
قارن بين :
القيمة الأولى : نسبة المظلل إلى الشكل $\frac{١}{٣}$ القيمة الثانية :



أ القيمة الأولى أكبر
ب القيمة الثانية أكبر
ج القيمتان متساويتان
د المعطيات غير كافية

٨ في الشكل التالي، إذا كانت مساحة الدائرة الكبيرة ٣٦ط
قارن بين :
القيمة الأولى : محيط الدوائر الصغيرة
القيمة الثانية : ٣٠ط

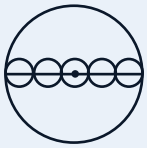

أ القيمة الأولى أكبر
ب القيمة الثانية أكبر
ج القيمتان متساويتان
د المعطيات غير كافية

٩ أي مما يلي يمثل الحد السادس للنمط :



أ 
ب 
ج 
د 

١٠ في الشكل المجاور أ ب ج د مربع مساحته ١٠٠ سم ، يعلوه مثلث أهـ د مساحته ١٠ سم ، أوجد طول الخط الأحمر ؟

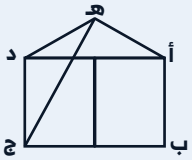

أ ١٣
ب ١٤
ج ١١
د ١٢

١١ ماقيمة س ؟

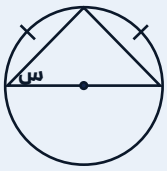

أ ٣٠
ب ٤٥
ج ٦٠
د ٩٠

الجزء القادم
نلقاكم في القسم ثمانية وأربعون
ذاكر بذكاء ليس بجهد - أكاديمية بازيد

مفاتيح الاجوبة

١. أ	٢. ج	٣. د	٤. ب	٥. ج	٦. أ	٧. ج	٨. ب	٩. ج	١٠. أ	١١. ب

- كتاب أقسام الكمي -

SECTION48

القسم ثمانية وأربعون

مسائل حسابية . هندسة . جبر . احصاء

11 سؤال

مع مفتاح الإجابات

ذاكر بذكاء ليس بجهد

BAZAID ACADEMY 2026

القسم ثمانية وأربعون

١ مع أحمد ٢٤ ورقة من فئة ١٠ ريال ، و ٥ ريال ، فاذا كان المبلغ من فئة ١٠ ريال ٤ أمثال المبلغ من فئة ٥ ريال ، كم المبلغ الذي معه ؟

أ ١٨٠ ب ٢٠٠

ج ٢٢٠ د ١٦٠

٢ ما هو الشهر الذي به أعلى استهلاك للحم والأرز والدجاج ؟

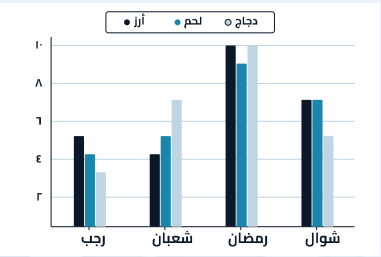

أ رجب ب شعبان

ج رمضان د ذو الحجة

٣ اي مما يلي ليس عدد أولي ؟

أ ٧٧ ب ٨٩

ج ٣٧ د ٥٣

٤ كم كلمة يمكن أن نكون من حروف اسم (خالد)

أ ٤ ب ٨

ج ٢٤ د ٣٢

٥ في الشكل المجاور، نسبة الجزء المظلل إلى الشكل كاملا



أ $\frac{١}{٦}$ ب $\frac{١}{٣}$

ج $\frac{١}{٤}$ د $\frac{١}{٢}$

٦ إذا كانت الساعة ٨:٢٥ صباحاً، ثم أصبحت ٨:٤٥ صباحاً، ما الكسر الذي يمثل الوقت المنقضي من ساعة

أ $\frac{١}{٤}$ ب $\frac{١}{٣}$

ج $\frac{١}{٢}$ د $\frac{٣}{٤}$

٧ في الشكل التالي، ما قيمة س؟

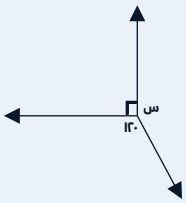

أ ٣٦٠ ب ٢١٠

ج ١٨٠ د ١٥٠

٨ نصف عدد الطلاب المشاركين في كرة السلة وكرة اليد يساوي

أ نصف عدد المشاركين في كرة القدم ب عدد المشاركين في كرة اليد

ج عدد المشاركين في كرة الطائرة د عدد المشاركين في كرة السلة

٩ قارن بين :
القيمة الأولى : ٠,٨ القيمة الثانية : ($\frac{٧٩}{١٠٠}$)

أ القيمة الأولى أكبر ب القيمة الثانية أكبر

ج القيمتان متساويتان د المعطيات غير كافية

١٠ إذا كان محمد يأخذ على كل ساعة ٦٠ ويأخذ علاوه على كل ساعة ٢٥٪ وعثمان يأخذ على كل ساعة ٥٠ ويأخذ علاوه على كل ساعة ٥٠ ٪
القيمة الأولى : ما يأخذه محمد على ٤ ساعات
القيمة الثانية : ما يأخذه عثمان على ٦ ساعات

أ القيمة الأولى أكبر ب القيمة الثانية أكبر

ج القيمتان متساويتان د المعطيات غير كافية

١١ عند رمي قطعة نقدية ٤ مرات، ما احتمال أن تظهر الكتابة في الأربع مرات معاً؟

أ $\frac{١}{١٦}$ ب $\frac{١}{١٢}$

ج $\frac{١}{٨}$ د $\frac{٣}{٤}$

الجزء القادم

نلقاكم في القسم تسعة وأربعون

ذاكر بذكاء ليس بجهد - أكاديمية بازيد

مفاتيح الاجوبة

١.ب	٢.ج	٣.أ	٤.ج	٥.ج	٦.ب	٧.د	٨.ج	٩.أ	١٠.ب	١١.أ

- كتاب أقسام الكمي -

SECTION49

القسم تسعة وأربعون

مسائل حسابية . هندسة . جبر . احصاء

11 سؤال

مع مفتاح الإجابات

ذاكر بذكاء ليس بجهد

BAZAID ACADEMY 2026

القسم تسعة وأربعون

١ سيارتان تتحركان في نفس الوقت من المدينة (أ) الى المدينة (ب) وصلت، السيارة الأولى بعد ساعتين ونصف ، ووصلت السيارة الثانية بعد ساعتين
قارن بين:
القيمة الأولى : سرعة السيارة ٢ القيمة الثانية : سرعة السيارة ١

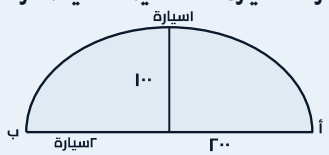

أ القيمة الأولى أكبر
ب القيمة الثانية أكبر
ج القيمتان متساويتان
د المعطيات غير كافية

٢ إذا كانت الأعداد المكتوبة داخل المربع تمثل مساحات وكان أ ب قطر المربع ،
أوجد قيمة س

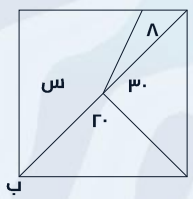

أ ٤٢
ب ٤٥
ج ٤٨
د ٥٠

٣ المثلثات و المربعات متطابقة
قارن بين :
القيمة الأولى : مساحة الشكل ١
القيمة الثانية : مساحة الشكل ٢

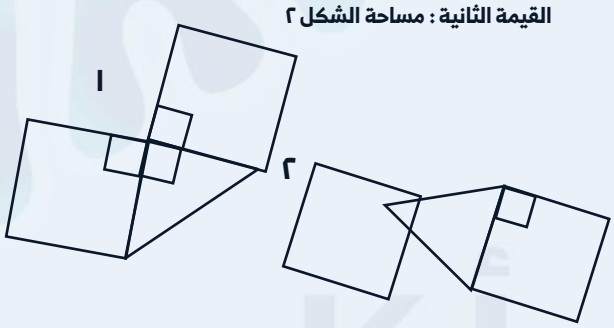

أ القيمة الأولى أكبر
ب القيمة الثانية أكبر
ج القيمتان متساويتان
د المعطيات غير كافية

٤ أوجد القيمة : ٠,٠٠١ + ٠,١١٠ + ١,٠١٠ + ١١,١٠٠

أ ١٢,٢٢١٠
ب ١٢,٢٢٣٠
ج ١١,٢٢١٠
د ١٣,٢٢١٠

٥ أوجد قيمة س في الشكل المجاور :

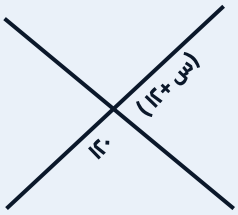

أ ٦٠
ب ٧٥
ج ٨٠
د ٤٨

٦ ما اكثر حرف يوجد فيه اخطاء

خطأ / صحيح	B	M	N	W	R	A
B		٣	١	٧	٧	٥
M	٢		٢	١	٠	٦
N	٠	٢		١٠	١	٢
W	١	٥	٤		٣	٠
R	٢	٠	٦	٢		٣
A	٣	٤	٠	٦	٢	

أ B
ب N
ج W
د R

٧ من المخطط البياني التالي، كم نسبة عمر هدى إلى عمر حسام؟

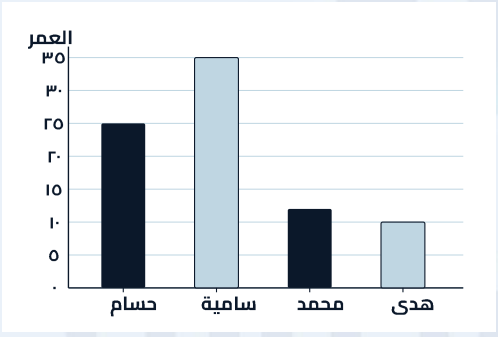

أ ٠,١
ب ٠,٢
ج ٠,٣
د ٠,٤

٨ أي مما يلي يكافئ: ٧أ - ٤أ + م - ٣م ؟

أ ١١ أ - ٤م
ب ٣ أ + ٢م
ج ٣ أ - ٢م
د ٢ أ - ٣م

القسم تسعة وأربعون

٩ قارن بين :

القيمة الاولى : ٢ (س+ص+ع) القيمة الثانية : أ+ب +ج

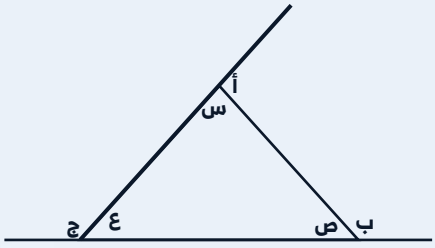

أ القيمة الأولى أكبر	ب القيمة الثانية أكبر
ج القيمتان متساويتان	د المعطيات غير كافية

١٠ في الشكل المجاور ، أوجد مساحة المثلث أ ج ب

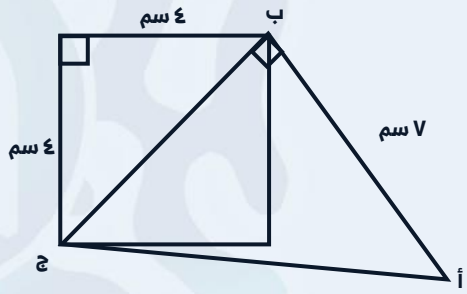

أ $٤\sqrt{٣}$	ب $١٨\sqrt{٣}$
ج $١٤\sqrt{٣}$	د ٩

١١ أوجد الحد التالي : ..... ، ١٥ ، ٩ ، ٧ ، ٣

أ ١٩	ب ٢١
ج ٢٣	د ٢٥

الجزء القادم

نلقاكم في القسم الخمسون

ذاكر بذكاء ليس بجهد - أكاديمية بازيد

مفاتيح الاجوبة

١. ب	٢. أ	٣. أ	٤. أ	٥. د	٦. ج	٧. د	٨. ج	٩. ج	١٠. ج	١١. ج

- كتاب أقسام الكمي -

SECTION50

القسم الخمسون

مسائل حسابية . هندسة . جبر . احصاء

11 سؤال

مع مفتاح الإجابات

ذاكر بذكاء ليس بجهد

BAZAID ACADEMY 2026

القسم الخمسون

١ محمد باع ٦٠ قلم سعر القلم $\frac{١}{٢}$ ريال و أحمد باع ١٠٠ قلم سعر القلم $\frac{١}{٤}$ ريال
قارن بين :
القيمة الأولى : مبيعات محمد القيمة الثانية : مبيعات أحمد

أ القيمة الأولى أكبر
ب القيمة الثانية أكبر
ج القيمتان متساويتان
د المعلومات غير كافية

٢ إذا كان س + ص = ٢٠ ، أوجد قيمة ٣ (س + ص)^{٢} - ٦س × ص

أ ١٠٠
ب ٢٠
ج ٦٠
د ٨٠

٣ إذا كانت : س ⊗ ص = $\frac{٥س ص + ص}{٥س ص}$ قارن بين :
القيمة الأولى : ١ ⊗ ٢ القيمة الثانية : ٢ ⊗

أ القيمة الأولى أكبر
ب القيمة الثانية أكبر
ج القيمتان متساويتان
د المعلومات غير كافية

٤ في مجلس النواب كان عدد المؤيدين ٥٠٠ شخص ويزيد عن عدد المعارضين بـ ٢٥٠ شخص، ما نسبة المؤيدين تقريباً ؟

أ %٤٠
ب %٥٠
ج %٦٠
د %٧٠

٥ الشكل التالي يمثل الكمية المضافة باللتر كل ساعة، في كم ساعة تم اضافة ٣٠٠ لتر ؟



أ ١
ب ٢
ج ٣
د ٤

٦ إذا كانت النقطة الاولى (٢،ب) تقع في الربع الرابع ، والنقطة الثانية (أ ، ٢) تقع في الربع الثاني ، إذاً النقطة (أ ، ب) تقع في أي ربع؟

أ الاول
ب الثاني
ج الثالث
د الرابع

٧ اذا كانت الزاوية س ص ع = ٦٠ نصفتها القطعة المستقيمة ص م و الزاوية م ص ع تنصفها القطعة ص ن ، فكم قياس الزاوية س ص ن؟

أ ٤٥
ب ٥٠
ج ٥٥
د ٦٠

٨ صف واحد به ١٠ أصدقاء وترتيب خالد الخامس من اليمين وصديقة ترتيبه الثامن من اليسار فكم عدد الأشخاص بينهما؟

أ ١
ب ٢
ج ٣
د ٤

٩ إذا أردت أن تشتري ٢٨قلم ما أقل سعر شراء ممكن ؟

عدد الأقلام	١	٣	٥
السعر	٢	٥	٨

أ ٤٥
ب ٤٦
ج ٤٧
د ٤٨

١٠ الشكل التالي يمثل خماسي مجموع زواياه الداخلية = ٥٤٠°
أوجد مجموع الزوايا (أ ، ب ، ج ، ح ، د)

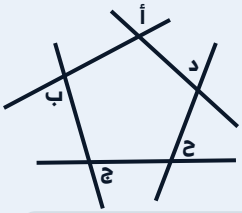

أ ١٨٠°
ب ٢٧٠°
ج ٣٦٠°
د ٥٤٠°

١١ قارن بين :
القيمة الأولى : $\frac{٢}{٧} \div \frac{٦}{٤} \times \frac{٥}{٣}$
القيمة الثانية : $\frac{٢}{٧} \times \frac{٤}{٦} \div \frac{٣}{٥}$

أ القيمة الأولى أكبر
ب القيمة الثانية أكبر
ج القيمتان متساويتان
د المعلومات غير كافية

الجزء القادم
نلقاكم في القسم الواحد والخمسون
ذاكر بذكاء ليس بجهد - أكاديمية بازيد

مفاتيح الاجوبة

١.أ	٢.ج	٣.أ	٤.د	٥.ب	٦.ج	٧.أ	٨.أ	٩.أ	١٠.ج	١١.ج

أكاديمية بازيد
BAZAID ACADEMY

اختبار القدرات العامة – القسم الكمّي

كتاب الأقسام

(الأسئلة الأكثر تكرارًا)

بنفس الترتيب والتصنيف
في اختبار القدرات الحقيقي
في قياس 100%

كمّي
أسئلة متنوعة
١١ سؤالًا لكل قسم

ذاكر بذكاء ليس بجهد

BAZAID ACADEMY 2026

★ كل ما تحتاجه في رابط واحد – ادعم رحلتك نحو ٩٠+ في القدرات

اضغط هنا للوصول إلى منصات أكاديمية بازيد

قناة القدرات | قروب مناقشة القدرات | موقع أكاديمية بازيد | خدمة العملاء

www.bazaidacademy.net

- كتاب أقسام الكمي -

SECTION50

القسم الخمسون

مسائل حسابية . هندسة . جبر . احصاء

11 سؤال

مع مفتاح الإجابات

ذاكر بذكاء ليس بجهد

BAZAID ACADEMY 2026

القسم الخمسون

١ محمد باع ٦٠ قلم سعر القلم $\frac{١}{٢}$ ريال و أحمد باع ١٠٠ قلم سعر القلم $\frac{١}{٤}$ ريال
قارن بين :
القيمة الأولى : مبيعات محمد القيمة الثانية : مبيعات أحمد

أ القيمة الأولى أكبر
ب القيمة الثانية أكبر
ج القيمتان متساويتان
د المعلومات غير كافية

٢ إذا كان س + ص = ٢٠ ، أوجد قيمة ٣ (س + ص)^{٢} - ٦س × ص

أ ١٠٠
ب ٢٠
ج ٦٠
د ٨٠

٣ إذا كانت : س ⊗ ص = $\frac{٥س ص + ص}{٥س ص}$ قارن بين :
القيمة الأولى : ١ ⊗ ٢ القيمة الثانية : ٢ ⊗

أ القيمة الأولى أكبر
ب القيمة الثانية أكبر
ج القيمتان متساويتان
د المعلومات غير كافية

٤ في مجلس النواب كان عدد المؤيدين ٥٠٠ شخص ويزيد عن عدد المعارضين بـ ٢٥٠ شخص، ما نسبة المؤيدين تقريباً ؟

أ %٤٠
ب %٥٠
ج %٦٠
د %٧٠

٥ الشكل التالي يمثل الكمية المضافة باللتر كل ساعة، في كم ساعة تم اضافة ٣٠٠ لتر ؟



أ ١
ب ٢
ج ٣
د ٤

٦ إذا كانت النقطة الاولى (٢،ب) تقع في الربع الرابع ، والنقطة الثانية (أ ، ٢) تقع في الربع الثاني ، إذاً النقطة (أ ، ب) تقع في أي ربع؟

أ الاول
ب الثاني
ج الثالث
د الرابع

٧ اذا كانت الزاوية س ص ع = ٦٠ نصفتها القطعة المستقيمة ص م و الزاوية م ص ع تنصفها القطعة ص ن ، فكم قياس الزاوية س ص ن؟

أ ٤٥
ب ٥٠
ج ٥٥
د ٦٠

٨ صف واحد به ١٠ أصدقاء وترتيب خالد الخامس من اليمين وصديقة ترتيبه الثامن من اليسار فكم عدد الأشخاص بينهما؟

أ ١
ب ٢
ج ٣
د ٤

٩ إذا أردت أن تشتري ٢٨قلم ما أقل سعر شراء ممكن ؟

عدد الأقلام	١	٣	٥
السعر	٢	٥	٨

أ ٤٥
ب ٤٦
ج ٤٧
د ٤٨

١٠ الشكل التالي يمثل خماسي مجموع زواياه الداخلية = ٥٤٠°
أوجد مجموع الزوايا (أ ، ب ، ج ، ح ، د)

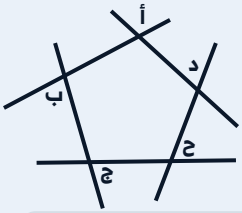

أ ١٨٠°
ب ٢٧٠°
ج ٣٦٠°
د ٥٤٠°

١١ قارن بين :
القيمة الأولى : $\frac{٢}{٧} \div \frac{٦}{٤} \times \frac{٥}{٣}$
القيمة الثانية : $\frac{٢}{٧} \times \frac{٤}{٦} \div \frac{٣}{٥}$

أ القيمة الأولى أكبر
ب القيمة الثانية أكبر
ج القيمتان متساويتان
د المعلومات غير كافية

الجزء القادم
نلقاكم في القسم الواحد والخمسون
ذاكر بذكاء ليس بجهد - أكاديمية بازيد

مفاتيح الاجوبة

١.أ	٢.ج	٣.أ	٤.د	٥.ب	٦.ج	٧.أ	٨.أ	٩.أ	١٠.ج	١١.ج

- كتاب أقسام الكمي -

SECTION51

القسم الواحد والخمسون

مسائل حسابية . هندسة . جبر . احصاء

11 سؤال

مع مفتاح الإجابات

ذاكر بذكاء ليس بجهد

BAZAID ACADEMY 2026

القسم الواحد والخمسون

١ عددان مجموعهما ٩ ، إذا كان العدد الاول ص ، فإن العدد الآخر هو؟

أ) ٩ - ص
ب) ص - ٩
ج) ٩ + ص
د) ص x ٩

٢ أوجد الحد التالي ٢ ، ٣ ، ٥ ، ٨ ، ١٢ ، ...؟

أ) ٢٠
ب) ٢٣
ج) ٣٠
د) ١٧

٣ إذا عمل ست عمال لمدة ٦ ساعات فكم يحتاج تسع عمال لإنهاء العمل نفسه ؟

أ) ٢
ب) ٤
ج) ٦
د) ٨

٤ ما الفرق بين أصغر عدد فردي مكون من ٣ أرقام وأكبر عدد زوجي مكون من رقمين؟

أ) ٦
ب) ٩
ج) ٢٠
د) ٣

٥ احمد وخالد مجموع كتبهم ٨٥٠ و خالد يزيد عن احمد بمقدار ١٥٠ كم عدد الكتب التي مع احمد ؟

أ) ١٠٠
ب) ٢٥٠
ج) ٣٥٠
د) ٤٠٠

٦ نسبة النساء الى الرجال في ملجأ ٥ : ٢ وكان عدد النساء ٣٠ ، وكانت نسبة الرجال الى الأطفال ٣ : ٧ في نفس الملجأ
فقارن بين :
القيمة الأولى : عدد الأطفال
القيمة الثانية : ٢٤ طفل

أ) القيمة الأولى أكبر
ب) القيمة الثانية أكبر
ج) القيمتان متساويتان
د) المعطيات غير كافية

٧ إذا كان الشكل المجاور مؤلف من ٣ مربعات ، مساحة المربع الاول = ٤سم ، مساحة المربع الثاني = ٥سم ، فكم تساوي مساحة المربع الثالث؟

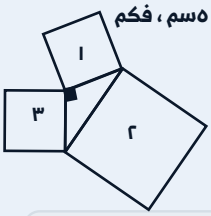

أ) ٣
ب) ١
ج) ٤
د) ٢

٨ متجر يوجد فيه ٥ علب أقلام وكل علبه فيها ١٢ قلم وهناك ٥ أقلام أخرى ، إذا قام ببيع ١٧ قلم فكم علبة تبقت؟

أ) ٣
ب) ٣,٥
ج) ٤
د) ٤,٥

٩ مدرسة بها ٢٤٠ طالب ، سدس الطلاب يدرسون الرياضيات ، و٣٠ طالب يدرس الفيزياء ، و ٨ طلاب يدرسون الكيمياء ، كم عدد الطلاب الذين لا يدرسون الثلاث مواد ؟

أ) ١٥٢
ب) ١٦٠
ج) ١٧٢
د) ١٨٠

١٠ الشكل المقابل مربع طول ضلعه ٤ سم ، أوجد مساحة المظلل



أ) ٤ (ط + ٢)
ب) ٢ (٨ - ط)
ج) ٣ (٦ + ٤ ط)
د) ٥ (٢ - ط)

١١ قارن بين:
القيمة الأولى : ٢ (س + ص + ع)
القيمة الثانية : أ + ب + ج

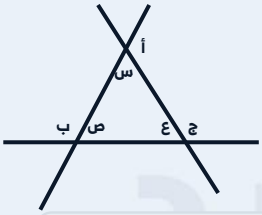

أ) القيمة الأولى أكبر
ب) القيمة الثانية أكبر
ج) القيمتان متساويتان
د) المعطيات غير كافية

الجزء القادم
نلقاكم في القسم اثنان وخمسون
ذاكر بذكاء ليس بجهد - أكاديمية بازيد

مفاتيح الاجوبة

١. أ	٢. د	٣. ب	٤. د	٥. ج	٦. أ	٧. ب	٨. ج	٩. ج	١٠. ب	١١. ج

- كتاب أقسام الكمي -

SECTION52

القسم اثنان وخمسون

مسائل حسابية . هندسة . جبر . احصاء

11 سؤال

مع مفتاح الإجابات

ذاكر بذكاء ليس بجهد

BAZAID ACADEMY 2026

القسم اثنان وخمسون

١ إذا كانت س^{٣} = ٣٤٣ ، أوجد قيمة س

أ) ٣ ب) ٥ ج) ٦ د) ٧

٢ إذا كان أ - ب = ٥ ، ب - ج = ٣ ، ج + د = ١
أوجد قيمة أ + د

أ) ٢ ب) ٤ ج) ٦ د) ٩

٣ اختبار رياضيات ٢٥% لم يجتازوا و ١٢% لم يحضروا الاختبار والباقي نجحوا فكم نسبة الذين اجتازوا؟

أ) ٣٧% ب) ٦٣% ج) ٧٥% د) ٨٨%

٤ أوجد قيمة س في الشكل المجاور :

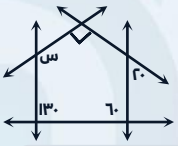

أ) ٦٠ ب) ٩٠ ج) ١٠٠ د) ١٢٠

٥ خزان يحوي ثمنه من الماء إذا أضفنا له ٦٣ لتراً إمتلأ كله، فكم سعة هذا الخزان ؟

أ) ٧٢ لتر ب) ٨٢ لتر ج) ٨٣ لتر د) ٦٥ لتر

٦ ما المنوال للقيم : ١ ، ١ ، ١ ، ٤ ، ١ ، ٥ ، ٥ ، ٣ ، ٣ ، ٥ ؟

أ) ١ ب) ٣ ج) ٤ د) ٥

٧ في الشكل المجاور أ ب ج د مربع مساحته ١٠٠ سم ، يعلوه مثلث أهـ د مساحته ١٠ سم ، أوجد طول الخط الأحمر ؟

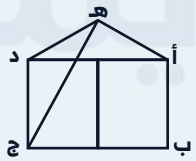

أ) ٣ ب) ١ ج) ٤ د) ٢

٨ قارن بين :
القيمة الأولى : $\frac{١١}{١١١}$ القيمة الثانية : ١,٠

أ) القيمة الأولى أكبر ب) القيمة الثانية أكبر
ج) القيمتان متساويتان د) المعطيات غير كافية

٩ قارن بين:
القيمة الأولى : $\frac{١}{٢}$ س
القيمة الثانية : ص



أ) القيمة الأولى أكبر ب) القيمة الثانية أكبر
ج) القيمتان متساويتان د) المعطيات غير كافية

١٠ إذا كان هناك ٣ مجالات و ٤ متقدمين ، وكل إجابة سؤال صحيحة بنقطتين ، وكل خطأ بنقطة واحدة ، فمن أفضل المتقدمين في مجال الحاسب؟

	لغة انقليزية	حاسب	فرنساوي
الأول	٣	٤	٢
الثاني	٢	٤	٤
الثالث	٥	٤	٣
الرابع	٣	٥	٦

أ) الأول ب) الثاني ج) الثالث د) الرابع

١١ أوجد نسبة الزيادة بين عامي ١٤٣٠ الى عام ١٤٣٣؟

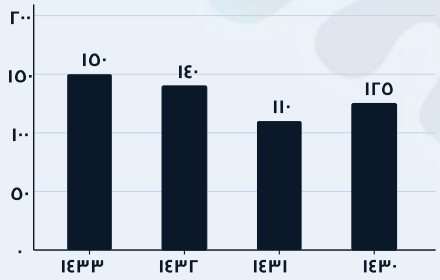

أ) ٢٠% ب) ٢٥% ج) ١٠% د) ١٥%

الجزء القادم
نلقاكم في القسم ثلاثة وخمسون
ذاكر بذكاء ليس بجهد - أكاديمية بازيد

مفاتيح الاجوبة

١. د	٢. د	٣. ب	٤. ج	٥. أ	٦. أ	٧. أ	٨. ب	٩. ج	١٠. د	١١. أ

- كتاب أقسام الكمي -

SECTION53

القسم ثلاثة وخمسون

مسائل حسابية . هندسة . جبر . احصاء

11 سؤال

مع مفتاح الإجابات

ذاكر بذكاء ليس بجهد

BAZAID ACADEMY 2026

القسم ثلاثة وخمسون

١ قارن بين :

القيمة الأولى	القيمة الثانية
٤٥	٤ × ٤ × ٤ × ٤ × ٤

أ القيمة الأولي أكبر
ب القيمة الثانية أكبر
ج القيمتان متساويتان
د المعطيات غير كافية

٢ الشكل المجاور مستطيل



قارن بين :
القيمة الأولى : نسبة المظلل إلى الشكل
القيمة الثانية : $\frac{١}{٣}$

أ القيمة الأولي أكبر
ب القيمة الثانية أكبر
ج القيمتان متساويتان
د المعطيات غير كافية

٣ في المعادلة التالية : $\frac{\sqrt{١٤٤}}{٢س}$ = ٣ ، أوجد قيمة س

أ ١
ب ٤
ج ٢
د ٣

٤ (٩٩٩)^{٢} - ١ = ...

أ ٩٩٩^{٢}
ب ٩٩٨^{٢}
ج ٩٩٨٠٠٠
د ٩٩٩٠٠

٥ قارن بين :
القيمة الأولى : ١٥٠٠ جرام
القيمة الثانية : ١,٥ كيلو جرام

أ القيمة الأولى أكبر
ب القيمة الثانية أكبر
ج القيمتان متساويتان
د المعطيات غير كافية

٦ في الشكل المجاور : أوجد قيمة هـ

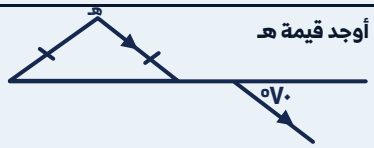

أ ٧٠
ب ١١٠
ج ٤٠
د ٦٠

٧ إذا كان أ ب = ٤ ، أ ج = ٣
أوجد د هـ؟

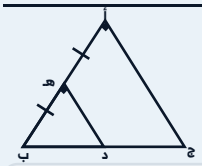

أ ١,٥
ب ٢
ج ٢,٥
د ٣

٨ شخص اشترى حاسوب بـ ٨٠٠ ريال وجوال كان يزيد عنه بـ ٢٠٠ ريال ، كم أجمالي ما دفعه الشخص؟

أ ٢٠٠
ب ١٨٠٠
ج ٢٢٠٠
د ٣٤٠٠

٩ قارن بين:
القيمة الأولى : ١ × ٢ × ٣ × ٤ × ٥ × ٦ × ٧
القيمة الثانية : ٧ × ٨ × ٩ × ١٠

أ القيمة الأولى أكبر
ب القيمة الثانية أكبر
ج القيمتان متساويتان
د المعطيات غير كافية

١٠ ما قيمة ا^{٢}س + ا٤ص + ا٥ع + ا٦ك

أ ١
ب ٤
ج ٤٨٠ س ص ع ك
د ٤٨٠

١١ في الشكل المجاور ، أوجد قياس الزاوية ب

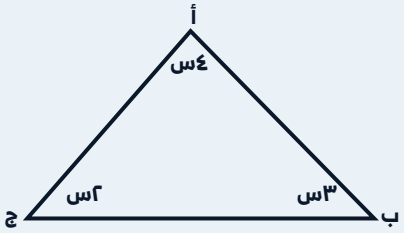

أ ٢٠
ب ٤٥
ج ٦٠
د ٨٠

الجزء القادم
نلقاكم في القسم أربعة وخمسون
ذاكر بذكاء ليس بجهد - أكاديمية بازيد

مفاتيح الاجوبة

١. د	٢. د	٣. ب	٤. ج	٥. أ	٦. أ	٧. أ	٨. ب	٩. ج	١٠. د	١١. أ

- كتاب أقسام الكمي -

SECTION54

القسم أربعة وخمسون

مسائل حسابية . هندسة . جبر . احصاء

11 سؤال

مع مفتاح الإجابات

ذاكر بذكاء ليس بجهد

BAZAID ACADEMY 2026

القسم أربعة وخمسون

١ اوجد قيمة : $\frac{٧٥ + ٨٥}{٧٥}$

أ ١٠ ب ١٢

ج ٢٦ د ٦

٢ ما هو الوسيط لعدد الأطفال ؟

عدد الأطفال في ٢٠ أسرة

١	٢	٢	٣	٤
٢	٤	١	٥	٣
٥	٣	٣	٥	٢
٣	٤	٣	١	٦

أ ٣ ب ٥

ج ٦ د ٨

٣ أوجد قيمة : ١٦٠ x ٦٢,٥%

أ ١١٠ ب ١٠٠

ج ٩٠ د ٨٠

٤ ما السنة التي تقل بـ ٩ملايين عن سنة ١٤٣٠هـ؟

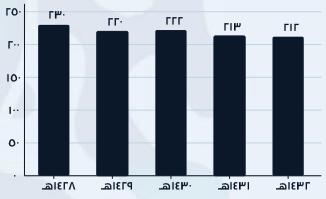

أ ١٤٢٩ هـ ب ١٤٣١ هـ

ج ١٤٣٢ هـ د ١٤٢٨ هـ

٥ في الشكل المجاور ، أوجد مساحة المربع ؟



أ ١٦ ب ٣٦

ج ٦٤ د ١٠٠

٦ كم عدد الأسلحة الغير تالفة ؟

العدد الكلي للأسلحة	١٥٠
الأسلحة التالفة جزئياً	٣٥
الأسلحة التالفة كلياً	٤٥

أ ٥٠ ب ٦٠

ج ٧٠ د ٨٠

٧ إذا تم تقسيم الشكل المجاور إلى قطع متساوية ، ما نسبة مساحة المظلل إلى الشكل؟



أ ٢٥% ب ٤٠%

ج ٥٠% د ٦٠%

٨ إذا كان المسافة من س إلى ص = ١٢ والمسافات بينهما متساوية

قارن بين :

القيمة الأولى : ٣ القيمة الثانية : س ل



أ القيمة الأولى أكبر ب القيمة الثانية أكبر

ج القيمتان متساويتان د المعطيات غير كافية

٩ ما عدد المئات في العدد : ٧٩٦٣٥؟

أ ٧٩٦ ب ٩٦

ج ٦٣ د ٦

١٠ ما العدد الذي ثلثه يساوي $\frac{١٠}{١٥}$ ؟

أ ١ ب ٢

ج ٣ د ٤

١١ في الشكل المجاور ، أوجد قياس الزاوية ب

الأوراق / أ	الساق	الأوراق / ب
٨٩٩	٣	٩٩٩
١٣٣٤٥٧٩	٤	٦٦٤٢٢٢
٠٠١١٢٣	٥	٥٢١١١
٠٠	٦	٣٠
٣/٨ = ٣٨		٩/٣ = ٣٩

أ ١٥ ب ١٢

ج ١٠ د ٩

الجزء القادم

نلقاكم في القسم خمسة وخمسون

ذاكر بذكاء ليس بجهد - أكاديمية بازيد

مفاتيح الاجوبة

١.د	٢.أ	٣.ب	٤.ب	٥.ج	٦.ج	٧.ج	٨.ب	٩.أ	١٠.ب	١١.أ

- كتاب أقسام الكمي -

SECTION55

القسم خمسة وخمسون

مسائل حسابية . هندسة . جبر . احصاء

11 سؤال

مع مفتاح الإجابات

ذاكر بذكاء ليس بجهد

BAZAID ACADEMY 2026

القسم خمسة وخمسون

١ قارن بين :
القيمة الأولى: مجموع قياسات زوايا مثلث قائم الزاوية
القيمة الثانية: مجموع قياسات زوايا مثلث منفرج الزاوية

أ القيمة الأولى أكبر
ب القيمة الثانية أكبر
ج القيمتان متساويتان
د المعطيات غير كافية

٢ أوجد قيمة الضلع المجهول :

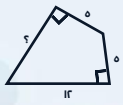

أ ١٠
ب ١١
ج ١٢
د ١٣

٣ مكعب يحتوي على ٣ أوجه باللون الأزرق ، ووجهين باللون الأحمر ، وجه باللون الأصفر، أوجد نسبة الأوجه الحمراء

أ $\frac{١}{٦}$
ب $\frac{٣}{٥}$
ج $\frac{١}{٣}$
د $\frac{٢}{٣}$

٤ قارن بين :
القيمة الأولى : $٢٠,٢٥ - ٣٠,٢٥$
القيمة الثانية : $٣٠,٢٥ - ٣٠,٢٥$

أ القيمة الأولى أكبر
ب القيمة الثانية أكبر
ج القيمتان متساويتان
د المعطيات غير كافية

٥ كم مثلث في الشكل ؟



أ ٨
ب ١٠
ج ١٢
د ١٦

٦ كم عدد الأسلحة الغير تالفة ؟

القيمة الأولى	القيمة الثانية
٤٥	٤×٤×٤×٤×٤

أ القيمة الأولى أكبر
ب القيمة الثانية أكبر
ج القيمتان متساويتان
د المعطيات غير كافية

٧ قارن بين :
القيمة الأولى : $٩ - ٠,٠٠٤٤$
القيمة الثانية : $٩ - ٠,٠٠٤$

أ القيمة الأولى أكبر
ب القيمة الثانية أكبر
ج القيمتان متساويتان
د المعطيات غير كافية

٨ في الشكل التالي احسب مساحة الشكل المظلل

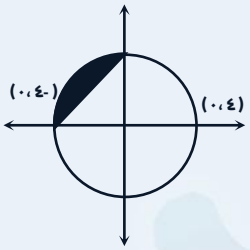

أ $٤ط - ٨$
ب $٤ط - ١٦$
ج $٨ط - ٨$
د $١٦ط - ٨$

٩ قارن بين :
القيمة الاولى : مساحه المثلث التي بداخل المربع
القيمة الثانية : مساحة المثلث التي بداخل المستطيل

أ القيمة الأولى أكبر
ب القيمة الثانية أكبر
ج القيمتان متساويتان
د المعطيات غير كافية

١٠ ما عدد الطلاب الحاصلين على أقل من ٧درجات ؟

الدرجة	٥	٦	٧	٨	٩
ما عدد الطلاب	٣	٤	٣	٥	٦

أ ٣
ب ٥
ج ٦
د ٧

١١ اكمل النمط التالي : ٢ ، ٣ ، ٥ ، ٨ ، ١٢ ، .....

أ ١٢
ب ١٧
ج ١٩
د ٢٠

الجزء القادم
نلقاكم في القسم ستة وخمسون
ذاكر بذكاء ليس بجهد - أكاديمية بازيد

مفاتيح الاجوبة

١.ج	٢.ج	٣.ج	٤.أ	٥.د	٦.ب	٧.ب	٨.أ	٩.ج	١٠.د	١١.ب

- كتاب أقسام الكمي -

SECTION56

القسم ستة وخمسون

مسائل حسابية . هندسة . جبر . احصاء

11 سؤال

مع مفتاح الإجابات

ذاكر بذكاء ليس بجهد

BAZAID ACADEMY 2026

القسم ستة وخمسون

١ إذا انهى شخص في ١٥ يوم $\frac{٥}{٧}$ من عمله فكم يحتاج لإنهاء باقي عمله ؟

أ) ١٨ ب) ٦
ج) ١٥ د) ٢١

٢ إذاكان متوسط مشاهدة شخص للتلفاز عام ٢٠١١ هو ١٤٧٠ دقيقه وعام ٢٠١٢ زادت بنسبه ٧% كم أصبح متوسط مشاهدته تقريباً؟

أ) ١٥٧٣ ب) ١٥٧٠
ج) ١٥٥٥ د) ١٥٦٧ %

٣ اشترى تاجر سلعة بـ ٩٠ ريال ويبيعها بربح ٥٠٪ وأي مشتري يدفع نقدًا له خصم ٣٠٪ من سعر البيع ، ما نسبة ربح التاجر إذا باع السلعة نقدًا ؟

أ) ١٦% ب) ٥%
ج) ١١ د) ٢٠%

٤ ما اقل طول بالسنتمترات



أ) ١٧٠ ب) ١٦٠
ج) ١٥٠ د) ١٣٠

٥ من الشكل المجاور، أوجد قياس الزاوية س

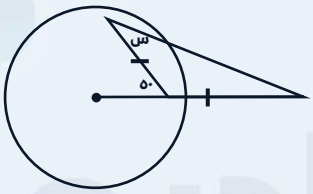

أ) ٢٠ ب) ٢٥
ج) ٣٠ د) ٣٥

٦ ما العدد الذي ثلثه يساوي $\frac{١٠}{١٥}$

أ) ١ ب) ٢
ج) ٣ د) ٤

٧ قارن بين:
القيمة الأولى: مساحة المثلث المظلل
القيمة الثانية : مجموع مساحتي المثلثين الغير مظللين

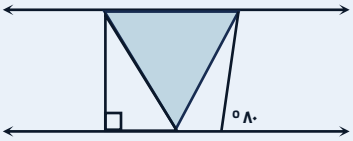

أ) القيمة الأولى أكبر ب) القيمة الثانية أكبر
ج) القيمتان متساويتان د) المعطيات غير كافية

٨ قارن بين :
القيمة الأولى : $\frac{١١}{١١١}$ القيمة الثانية : ١ ، ٠

أ) القيمة الأولى أكبر ب) القيمة الثانية أكبر
ج) القيمتان متساويتان د) المعطيات غير كافية

٩ مستطيل طوله ٨سم وعرضه ٤سم ، بكم طريقة يمكن تقسيمه إلى مربعات أطوال أضلاعها اعداد صحيحة؟

أ) ١ ب) ٢
ج) ٣ د) ٤

١٠ اذا كانت س < صفر ، قارن بين :
القيمة الأولى : س^{٢} القيمة الثانية : -س^{٣}

أ) القيمة الأولى أكبر ب) القيمة الثانية أكبر
ج) القيمتان متساويتان د) المعطيات غير كافية

١١ في الرسم البياني التالي، أوجد متوسط درجات الطلاب في الربع الثاني

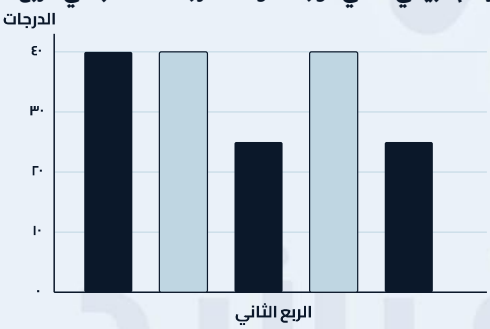

أ) ٢٥ ب) ٣٤
ج) ٤٠ د) ٤٣

الجزء القادم
نلقاكم في القسم سبعة والخمسون
ذاكر بذكاء ليس بجهد - أكاديمية بازيد

مفاتيح الاجوبة

١.ب	٢.أ	٣.ب	٤.د	٥.ب	٦.ب	٧.أ	٨.ب	٩.ج	١٠.د	١١.ج

- كتاب أقسام الكمي -

SECTION57

القسم سبعة وخمسون

مسائل حسابية . هندسة . جبر . احصاء

11 سؤال

مع مفتاح الإجابات

ذاكر بذكاء ليس بجهد

BAZAID ACADEMY 2026

القسم سبعة وخمسون

١ إذا كان س عدد فردياً، و ص عدداً زوجياً، و ع عدداً أولياً، فإن: (٣س + ٤ص) × ٦ع يجب أن يكون عدداً

أ فردياً　ب زوجياً
ج أولياً　د غير ذلك

٢ كم عدد الأسلحة الغير تالفة ؟

العدد الكلي للأسلحة	١٥٠
الأسلحة التالفة جزئياً	٣٥
الأسلحة التالفة كلياً	٤٥

أ ٥٠　ب ٦٠
ج ٧٠　د ٨٠

٣ إذا كان $\frac{١٣}{٣}$ن + $\frac{٨}{٣}$ن = ٤٩ ، اوجد قيمة ن

أ ٦　ب ٧
ج ٨　د ٩

٤ قارن بين :
القيمة الأولى : $\frac{٣}{٥}$　القيمة الثانية : $\frac{٣}{٥}$ / $[\frac{٣}{٥}]^{٢}$

أ القيمة الأولى أكبر　ب القيمة الثانية أكبر
ج القيمتان متساويتان　د المعطيات غير كافية

٥ لدينا ١٨٠طالب وتم توزيعهم بشكل متساوي أوجد عدد الطلاب في الزاوية الواحدة



أ ٣٠　ب ٢٨
ج ٢٠　د ٢٥

٦ محيط المعين = ٣٢ ، محيط المستطيل = ٤٢ ، وطول المستطيل = ١٥ سم
القيمة الأولى : طول ضلع المعين
القيمة الثانية : عرض المستطيل

أ القيمة الأولى أكبر　ب القيمة الثانية أكبر
ج القيمتان متساويتان　د المعطيات غير كافية

٧ أوجد محيط الشكل :

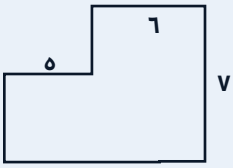

أ ٣٢　ب ٢٩
ج ٣٦　د ٣٨

٨ اذا كانت مساحة متوازي الاضلاع = ٧٢سم٢
أوجد مساحة المستطيل المظلل :

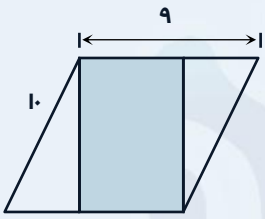

أ ١٢　ب ١٦
ج ٢٤　د ٤٨

٩ اوجد قيمة (٢١٣)٢ - (٢١٢)٢

أ ٤٥٠　ب ٤٢٥
ج ٤١٥　د ٤٢٥٢

١٠ أوجد وسيط الأعداد ١٣٥٠ ، ١٤٠٠ ، ١٤٥٠ ، ١٥٠٠ ، ١٥٥٠ ، ١٦٠٠ ، ١٦٥٠

أ ١٤٠٠　ب ١٤٥٠
ج ١٥٠٠　د ١٥٥٠

١١ إذا كان ٥٠٪ من س يساوي ١٠٪ من ص
مانسبة س إلى ص؟

أ $\frac{١}{٥}$　ب $\frac{٥}{١}$
ج $\frac{١}{٢}$　د $\frac{٢}{٥}$

الجزء القادم
نلقاكم في القسم ثمانية وخمسون
ذاكر بذكاء ليس بجهد - أكاديمية بازيد

مفاتيح الاجوبة

١. ب	٢. ج	٣. ب	٤. ب	٥. أ	٦. أ	٧. ج	٨. ج	٩. ب	١٠. ج	١١. أ

- كتاب أقسام الكمي -

SECTION58

القسم ثمانية وخمسون

مسائل حسابية . هندسة . جبر . احصاء

11 سؤال

مع مفتاح الإجابات

ذاكر بذكاء ليس بجهد

BAZAID ACADEMY 2026

القسم ثمانية وخمسون

١ أوجد مثلي س + ص

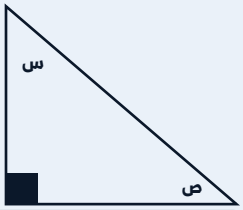

أ) ٨٠ ب) ١٢٠
ج) ١٦٠ د) ١٨٠

٢ يصنع العامل الواحد ١٥ قميصاً يومياً فإذا تم إنتاج ١٠٥٠ قميصاً خلال أسبوع، فكم عدد العمال ؟

أ) ١٠ ب) ١٢
ج) ١٥ د) ١٥

٣ إذا كانت ٥س = ١٠٠ ، فقارن بين :
القيمة الأولى : ٤ القيمة الثانية : ٢٥٪ من س

أ) القيمة الأولى أكبر ب) القيمة الثانية أكبر
ج) القيمتان متساويتان د) المعطيات غير كافية

٤ مطعم أرباحه في يوم الأثنين ٦٠ ريال وهي تمثل ٢٥٪ من أرباح اليوم الذي قبله، فكم مجموع أرباح المطعم في يوم الأثنين و اليوم الذي قبله بالريالات؟

أ) ٢٢٠ ب) ٢٤٠
ج) ٣٠٠ د) ٣٦٠

٥ إذا كان وزن اللحم والأرز والبصل يساوي ٢١كجم ووزن اللحم يساوي وي ض وزن البصل، ووزن الأرز يساوي وي ض وزن اللحم، ما وزن البصل

أ) ٢ ب) ٣
ج) ٤ د) ٥

٦ مربع طول ضلعه ٦سم ومستطيل طول ضلع فيه ٣ سم ومساحة المستطيل ٣٦سم٢ ، قارن بين :
القيمة الأولى : محيط مربع
القيمة الثانية : محيط المستطيل

أ) القيمة الأولى أكبر ب) القيمة الثانية أكبر
ج) القيمتان متساويتان د) المعطيات غير كافية

٧ في أي شهر تساوى أ مع ب ؟



أ) رجب ب) شعبان
ج) رمضان د) ذو الحجة

٨ في أي شهر كان أ ضعف ب ؟



أ) رجب ب) شعبان
ج) رمضان د) ذو الحجة

٩ أوجد الحد الثامن في المتتابعة ٢ ، ٥ ، ٨ ، ١١ ، .....

أ) ١٤ ب) ١٧
ج) ٢١ د) ٢٣

١٠ انطلق أحمد من المدينة بسرعة ١٠٠كم في الساعة ولحقه سعد بعد ساعة بسرعة ١٢٠كم في الساعة، متى يلتقي أحمد وسعد؟

أ) ٦ ساعات ب) ٨ ساعات
ج) ١٢ ساعة د) ٤ ساعات

١١ في الشكل المجاور أوجد مساحة ثلاث أرباع الدائرة.



أ) ١٦ ط ب) ١٦
ج) ١٢ ط د) ١٢

الجزء القادم

نلقاكم في القسم تسعة وخمسون

ذاكر بذكاء ليس بجهد - أكاديمية بازيد

مفاتيح الاجوبة

١. د	٢. أ	٣. ب	٤. ج	٥. ب	٦. ب	٧. ج	٨. د	٩. د	١٠. أ	١١. ج

- كتاب أقسام الكمي -

SECTION59

القسم تسعة وخمسون

مسائل حسابية . هندسة . جبر . احصاء

11 سؤال

مع مفتاح الإجابات

ذاكر بذكاء ليس بجهد

BAZAID ACADEMY 2026

القسم تسعة وخمسون

١ ١٠ صناديق يوجد بها أقلام حبر و رصاص ، ٤ منهم حبر و ٥ رصاص و ٢ حبر ورصاص ، كم عدد الصناديق الفارغة ؟

أ ٢ ب ٣
ج ٤ د ٥

٢ كم عدد المستطيلات في الشكل ؟



أ ١٠ ب ١١
ج ١٢ د ١٣

٣ اذا اشترى احمد جوال وخصم له ١٠% وكان السعر بعد الخصم ٦٤٨ ، كم سعره قبل الخصم

أ ٧٠٠ ب ٧٥٠
ج ٨٢٠ د ٧٢٠

٤ منتج بقيمة ٣٠٠ ريال ، إذا تم بيعه بخصم ١٢% فكم قيمة الخصم بريالات؟

أ ١٦ ب ٢٨
ج ٣٢ د ٣٦

٥ أ ب جـ د متوازي اضلاع ، المثلث أ ب ج متطابق الزوايا ، فأوجد محيط أ جـ ب د

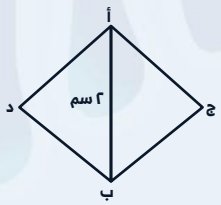

أ $3\sqrt{3}$ ب ٨
ج ١٢ د $9\sqrt{3}$

٦ نقاط في المستوى الأحداثي م ، ن ، ج ، ل ، ف ، تمثل قرى إذا كانت ل تقع شرق م وغرب ن ، و ج تقع جنوب شرق ن ، و م تقع جنوب شرق ف ، فأي حرف يقع في أقصى الغرب؟

أ ف ب ج
ج ن د ل

٧ ما عدد الأشهر التي تجاوز الدخل فيها ٧٥٠ ريال ؟

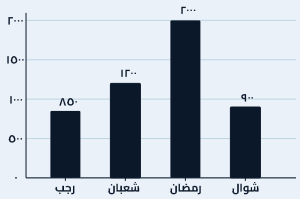

أ ١ ب ٢
ج ٣ د ٤

٨ إذا كان : $\frac{س^{٢}}{١٦} = \frac{٥^{٢}}{٢^{س+١}}$ ، أوجد قيمة س :

أ ٨ ب ٤
ج ١٦ د ٣٢

٩ الرسم البياني التالي يبين أعداد الأطفال في الروضة في خمس سنوات، ما هو أكبر عدد من الأطفال في الروضة على مدار الخمس سنوات ؟

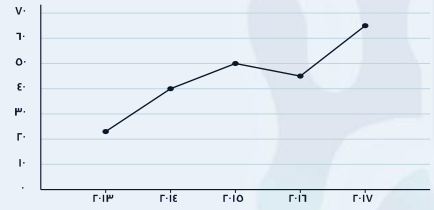

أ ٥٥ ب ٦٥
ج ٧٠ د ٧٥

١٠ قارن بين :
القيمة الأولى : $\frac{\sqrt{١٦}}{\sqrt{٥١}}$ القيمة الثانية : ٤

أ القيمة الأولى أكبر ب القيمة الثانية أكبر
ج القيمتان متساويتان د المعطيات غير كافية

١١ قارن بين :
القيمة الأولى : $(-٨١,٢٣)^{١٨}$ القيمة الثانية : $(-٨٣,٠٥٢)^{١٧}$

أ القيمة الأولى أكبر ب القيمة الثانية أكبر
ج القيمتان متساويتان د المعطيات غير كافية

الجزء القادم
نلقاكم في القسم الستون
ذاكر بذكاء ليس بجهد - أكاديمية بازيد

مفاتيح الاجوبة

١.ب	٢.أ	٣.د	٤.د	٥.ب	٦.أ	٧.أ	٨.ب	٩.ب	١٠.ب	١١.أ

- كتاب أقسام الكمي -

SECTION60

القسم الستون

مسائل حسابية . هندسة . جبر . احصاء

II سؤال

مع مفتاح الإجابات

ذاكر بذكاء ليس بجهد

BAZAID ACADEMY 2026

القسم الستون

١ في الشكل المجاور ، إذا كان معدل انسياب السيارات يوم الخميس = ٤ ، ما معدل انسياب السيارات يوم الاثنين؟

اليوم	عدد السيارات
السبت	١٥٠
الاحد	١٩٠
الاثنين	٤٠٠
الثلاثاء	٢٥٠
الاربعاء	٢٣٠
الخميس	٣٠٠
الجمعة	٥٠٠

أ) ٢ ب) ٢,٥ ج) ٢,٧ د) ٣

٢ أوجد طول نصف القطر اذا كانت أ ب قطر الدائرة :

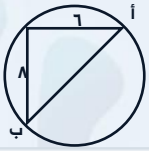

أ) ١٠ ب) ٥ ج) ٨ د) ٦

٣ أوجد قيمة : $\frac{٧٥ + ٨٥}{٧٥}$

أ) ١٠ ب) ١٢ ج) ٢٦ د) ٦

٤ اعطى طالب صديقه ٦ كتب و استعار من مكتبة الحي ٤ كتب فأصبح في مكتبته ٢٨ كتاب ، كم كان عدد الكتب التي يمتلكها ؟

أ) ٣٠ ب) ٣٤ ج) ٣٦ د) ٣٨

٥ سيارتان تسيران بعكس الاتجاه من نفس النقطه ، الاولى بسرعه س كم/س والثانيه بسرعة ص كم/س ، ما العلاقه التي تمثل المسافه بينهما بعد ساعه؟

أ) ص x س ب) $\frac{ص}{س}$ ج) ص - س د) ص + س

٦ اي الشركات اكثر ربحاً؟

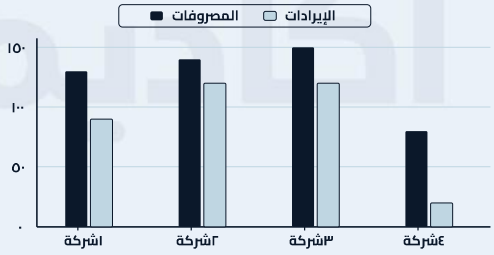

أ) شركة ١ ب) شركة ٢ ج) شركة ٣ د) شركة ٤

٧ قارن بين :
القيمة الأولى : ٦٠ ٦٠
القيمة الثانية : ٢٣ x ٦٠ + ٣٧ x ٦٠

أ) القيمة الأولى أكبر ب) القيمة الثانية أكبر ج) القيمتان متساويتان د) المعطيات غير كافية

٨ خمسة اعداد متتالية ، مجموع اول عددين ٢ ،فما هو العدد الرابع ؟

أ) ١٦ ب) ١٣ ج) ١٢ د) ١٥

٩ قارن بين :
القيمة الاولى : س
القيمة الثانية : ص

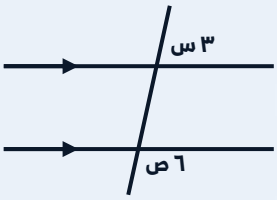

أ) القيمة الأولى أكبر ب) القيمة الثانية أكبر ج) القيمتان متساويتان د) المعطيات غير كافية

١٠ إذا كان أ ب = ٤ ، أ ج = ٣ أوجد د هـ ؟

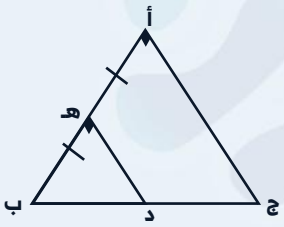

أ) ١,٥ ب) ٢ ج) ٢,٥ د) ٣

١١ أوجد قيمة : $\frac{\frac{١}{٣}}{\frac{١}{٢}+١} + \frac{١}{٣} =$

أ) $\frac{٣}{٤}$ ب) $\frac{٧}{١٢}$ ج) ٥ د) ١٢

الجزء القادم
نلقاكم في القسم الواحد والستون
ذاكر بذكاء ليس بجهد - أكاديمية بازيد

مفاتيح الاجوبة

١. د	٢. ب	٣. د	٤. أ	٥. د	٦. ب	٧. ج	٨. أ	٩. د	١٠. أ	١١. ب

- كتاب أقسام الكمي -

SECTION61

القسم واحد وستون

مسائل حسابية . هندسة . جبر . احصاء

11 سؤال

مع مفتاح الإجابات

ذاكر بذكاء ليس بجهد

BAZAID ACADEMY 2026

القسم واحد وستون

١ $٨^{٢} - ١٦ \div (٤ \times ٢) =$

أ ٨ ب ٣٢ ج ٦٢ د ٩٦

٢ نادي به ٥٠ مشترك ، ٣٠ منهم مشتركين في كرة القدم و ٢٦ مشتركين في السباحة و ٦ غير مشتركين في كرة القدم ولا السباحة ،كم عدد المشتركين في كرة القدم والسباحة؟

أ ٠ ب ٦ ج ١٢ د ٤

٣ ٩٢ ورقة نقدية من فئة ١٠٠ ، ٢٠٠ ، ٥٠٠ قسمت بنسبة على ١١ : ٩ : ٣ ، كم مبلغ فئة ال ٥٠٠ ريال؟

أ ١٨٠٠ ب ٣٠٠٠ ج ٦٠٠٠ د ٩٠٠٠

٤ في الشكل التالي دائرة مركزها أ ، المثلث أ ب جـ متطابق الأضلاع طول ضلعه ٦سم ، النقطتان م ، ن تنصفان ضلعي المثلث، طول القوس م ن بالسنتمتر يساوي



أ ط ب ٣ط ج ٦ط د ٩ط

٥ كم يبلغ متوسط الأرباح في السنوات الثلاث الأولى بملايين الريالات؟

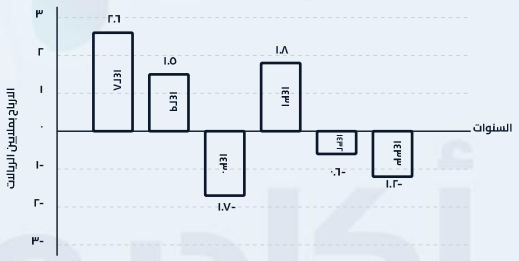

أ ٣٠ ب ٢٨ ج ٢٠ د ٢٥

٦ شخص يكتب على الكمبيوتر الاعداد من ٥ الى ٢٠٠ كم مرة يضغط على ازرار الكمبيوتر ؟

أ ٤٨٠ ب ٤٨٨ ج ٤٩٠ د ٤٩٢

٧ المثلث أ ب جـ مثلث قائم الزاوية في أ ، فقارن بين :
القيمة الأولى : أ ب + ب جـ
القيمة الثانية : أ ب + أ جـ

أ القيمة الأولى أكبر ب القيمة الثانية أكبر
ج القيمتان متساويتان د المعطيات غير كافية

٨ في الشكل التالي، إذا كانت جميع المثلثات متساوية أوجد مساحة شبه المنحرف

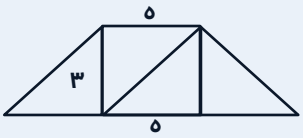

أ ١٥ ب ٣٠ ج ٤٥ د ٧٥

٩ الرسم البياني يمثل أعداد التصويت في انتخابات مجلسالنواب ، ما متوسط عدد المصوتين لأقرب ألف؟

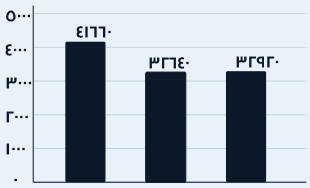

أ ٤٥٠ ب ٤٢٥ ج ٤١٥ د ٤٢٥٢

١٠ إذا كان ، ٣س - ، $\frac{س}{ص}$ = ٤ ، قارن بين :

القيمة الأولى : س القيمة الثانية : ص٢

أ القيمة الأولى أكبر ب القيمة الثانية أكبر
ج القيمتان متساويتان د المعطيات غير كافية

١١ يعمل خالد الساعة مقابل ٢٠ ريال وعمل في اليوم الاول ساعتين وفي اليوم الثاني ساعتين وفي اليوم الثالث ١٥ دقيقة وفي اليوم الرابع ٢٧ دقيقة وفي اليوم الخامس من الساعة ٨:٠٠ إلى ١٨ : ٨ فكم ريال ياخذ خلال الخمسة أيام ؟

أ ٨٠ ب ١٠٠ ج ١٢٠ د ١٥٠

الجزء القادم
نلقاكم في القسم اثنان وستون
ذاكر بذكاء ليس بجهد - أكاديمية بازيد

مفاتيح الاجوبة

١.ج	٢.ج	٣.ج	٤.أ	٥.ج	٦.ب	٧.أ	٨.ب	٩.ج	١٠.أ	١١.ب

- كتاب أقسام الكمي -

SECTION62

القسم اثنان وستون

مسائل حسابية . هندسة . جبر . احصاء

II سؤال

مع مفتاح الإجابات

ذاكر بذكاء ليس بجهد

BAZAID ACADEMY 2026

القسم اثنان وستون

١ إذا كان ضعفي مجموع ثلاث أعداد متتالية = ١٨، ما العدد الأصغر بينهم ؟

أ ١ ب ٢
ج ٣ د ٤

٢ اشترت سارة ١٠ قطع حلوى بسعر ريالين للقطعة الواحدة، ثم حصلت على خصم ٥٪ على السعر الاجمالي، فكم دفعت ؟

أ ١٧ ب ١٨
ج ١٩ د ٢٠

٣ شخص يدفع ريالين لكل ساعة او جزء منها في موقف السيارات، اذا وقف من ٨ : ٠٥ وتحرك الساعة ١١:٤٥ فكم ريال سيدفع؟

أ ٧ ب ٥
ج ٩ د ٨

٤ ما ناتج ضرب مكعبي عددين متتاليين ؟

أ ٢ ب صفر
ج ١ د ٤

٥ قارن بين :
القيمة الأولى : $(٣ + ٤)^{٢}$
القيمة الثانية : $(٣ + ٤)^{٢} - (٢ - ٤)^{٣}$

أ القيمة الأولى أكبر ب القيمة الثانية أكبر
ج القيمتان متساويتان د المعطيات غير كافية

٦ قارن بين :
القيمة الأولى : محيط خماسي منتظم طول ضلعه اسم .
القيمة الثانية : محيط دائرة طول نصف قطرها اسم .

أ القيمة الأولى أكبر ب القيمة الثانية أكبر
ج القيمتان متساويتان د المعطيات غير كافية

٧ مستطيل محيطه ١٨ طوله ٥ فكم عرضه ؟

أ ٤ ب ٥
ج ٦ د ٨

٨ أوجد مساحة المضلل :

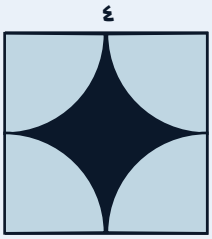

أ ١٦ - ٩ط ب ١٦ - ٤ط
ج ٣٦ - ٩ط د ١٨ - ٣ط

٩ ما نسبة الذين يخططون دائما إلى الذين يخططون لأسبوع؟



أ ١ : ٤ ب ١ : ٢
ج ٥ : ٨ د ٨ : ٥

١٠ ما العام الذي قل عدد الخريجين عن أجمالي الاحتياج في المهن بـ ٣%

العام	المهن الزراعية	المهن الصناعية	المهن الهندسية	إجمالي الأحتياج في هذه المهن	أعداد المتخرجين
٢٠١٠	٦٧٨	٢٨٢٥	٣١٥٧	٦٦٦٠	٦٦٦
٢٠١١	٥٠٠	٣٠٠٠	٣٥٠٠	٧٠٠٠	٣٥٠
٢٠١٢	١٠٠٠	٥٠٠٠	٤٠٠٠	١٠٠٠٠	٥٠٠
٢٠١٣	٩٠٠	٣١٠٠	٤٥٠٠	٨٥٠٠	١٧٠
٢٠١٤	١٠٤٣	٣٢٧٩	٨١٧٨	٩٥٠٠	١٩٠

أ ٢٠١١ ب ٢٠١٢
ج ٢٠١٣ د ٢٠١٤

١١ إذا كانت : $٣س^{٢} - ٢٣ - ٤س = س - ٢٩ + ٣س^{٢}$ ، أوجد قيمة س

أ ٦ ب ٥
ج ٤ د ٣

الجزء القادم
نلقاكم في القسم ثلاثة وستون
ذاكر بذكاء ليس بجهد - أكاديمية بازيد

مفاتيح الاجوبة

١. ب	٢. ج	٣. د	٤. ب	٥. ب	٦. ب	٧. أ	٨. ب	٩. ج	١٠. ج	١١. د

- كتاب أقسام الكمي -

SECTION63

القسم ثلاثة وستون

مسائل حسابية . هندسة . جبر . احصاء

11 سؤال

مع مفتاح الإجابات

ذاكر بذكاء ليس بجهد

BAZAID ACADEMY 2026

القسم ثلاثة وستون

١ يوضح الرسم البياني عدد العلب البلاستيكية التي ينتجها أحد المصانع، إذا كان ١٠٪ من إنتاج المصنع علباً تالفة، فكم عدد العلب السليمة في نهاية الشهر الثالث؟

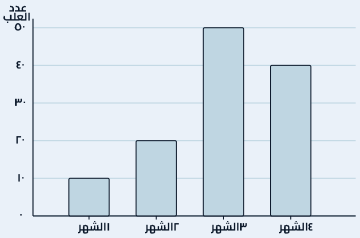

أ) ٢٠ ب) ٥٦ ج) ٧٢ د) ٧٠

٢ يمثل الرسم البياني عدد السكان في عدة مناطق مختلفة،أي منطقة سجلت أكبر نسبة زيادة في عدد السكان بين عامي ١٤١٠هـ و ١٤٢٠هـ والفترة التي قبلها ؟

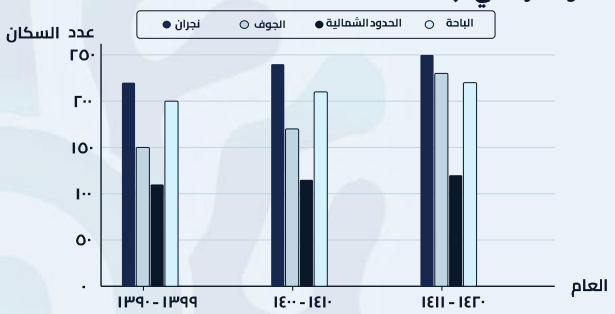

أ) نجران ب) الجوف ج) الحدود الشمالية د) الباحة

٣ أوجد قيمة : $٤٩^{\frac{١}{٢}} + ٤٩^{\frac{١}{٢}} + ٤٩^{\frac{١}{٢}}$

أ) ٥٩ ب) ١٢٩ ج) ١٢٣ د) ٩٣

٤ إذا كان $٣\sqrt{س} - \sqrt{\frac{٩}{٤}} = ٠$، أوجد قيمة س

أ) $\frac{١}{٤}$ ب) $\frac{١}{٣}$ ج) $\frac{٣}{٤}$ د) ١

٥ دائرة نصف قطرها س ومحيطها أكبر عددياً من مساحتها، فأي العبارات التالية صحيحة ؟

أ) ط > ٠ > س ب) ٠ > س > ١
ج) ٠ > س > ٢ د) س > ٢ > ٠

٦ ٨س = ٧ ، ٧ص = ٨ ، أوجد قيمة س ص

أ) ١ ب) ٣ ج) ٦ د) ٧

٧ توفى اب وعليه دين ولديه ثلاث اولاد فسدد الأول النصف والثاني ٣٠٪ والثالث ٤٠٠٠ريال وهو ما تبقى من الدين ، فكم قيمه الدين كاملا ؟

أ) ١٣٥٠٠ ب) ١٦٠٠٠ ج) ٢٠٠٠٠ د) ٤٠٠٠٠

٨ أوجد قيمة : $\frac{٣ + \sqrt{٤٥}}{١ + \sqrt{٥}}$

أ) ٣ ب) ٤ ج) $٦\sqrt{٥}$ د) ٥

٩ في الشكل التالي، قارن بين :
القيمة الأولى : ١٤٠°
القيمة الثانية : س

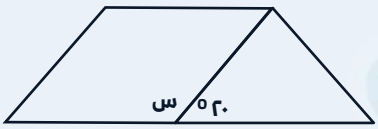

أ) القيمة الأولى أكبر ب) القيمة الثانية أكبر
ج) القيمتان متساويتان د) المعطيات غير كافية

١٠ في الشكل التالي، أوجد قياس س

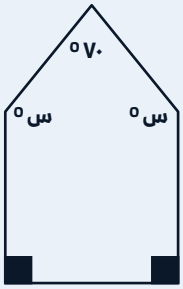

أ) ٥٥ ب) ٩٠ ج) ١٣٥ د) ١٤٥

١١ إذا كان : س > صفر ، ص < صفر ، قارن بين :
القيمة الأولى : $(٠,٣)^{س}$
القيمة الثانية : $(٠,٣)^{ص}$

أ) القيمة الأولى أكبر ب) القيمة الثانية أكبر
ج) القيمتان متساويتان د) المعطيات غير كافية

الجزء القادم
نلقاكم في القسم أربعة وستون
ذاكر بذكاء ليس بجهد - أكاديمية بازيد

مفاتيح الاجوبة

١.ج	٢.ب	٣.د	٤.أ	٥.ج	٦.أ	٧.ج	٨.أ	٩.ب	١٠.د	١١.ب

- كتاب أقسام الكمي -

SECTION64

القسم أربعة وستون

مسائل حسابية . هندسة . جبر . احصاء

11 سؤال

مع مفتاح الإجابات

ذاكر بذكاء ليس بجهد

BAZAID ACADEMY 2026

القسم أربعة وستون

١ ما النقطة التي تحقق $\frac{س}{ص} < ١$ ؟

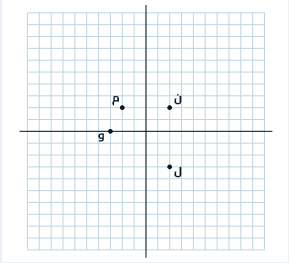

أ ل
ب و
ج م
د ن

٢ إذا كانت النقطتين أ ج تحصران ربع قوس الدائرة والنقطة ب تقع في مركز الدائرة، قارن بين :
القيمة الأولى : الزاوية أ ب ج
القيمة الثانية : ٩٠°

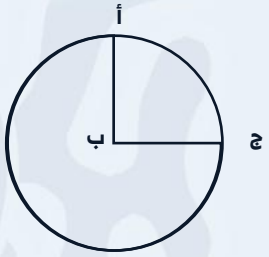

أ القيمة الأولى أكبر
ب القيمة الثانية أكبر
ج القيمتان متساويتان
د المعطيات غير كافية

٣ أوجد متوسط عام ١٤٢٧

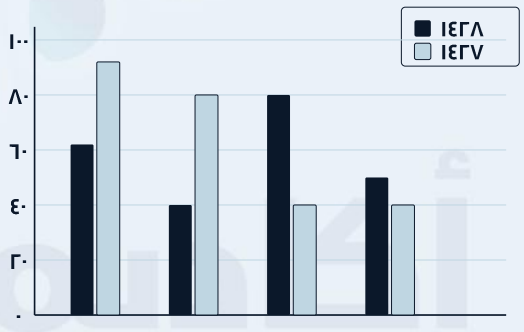

أ ٥٥
ب ٦٠
ج ٦٢,٥
د ٦٦

٤ أوجد مساحة الشكل :

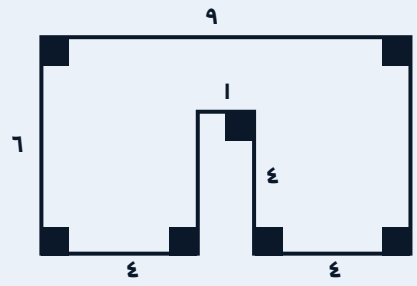

أ ٤٨
ب ٥٥
ج ٥٢
د ٥٠

٥ أوجد نسبة الجزء المظلل من الشكل التالي



أ $\frac{٧}{٢٤}$
ب $\frac{٩}{١٥}$
ج $\frac{٧}{١٨}$
د $\frac{٦}{١٩}$

٦ في الشكل التالي أحسب أ ب + ج د

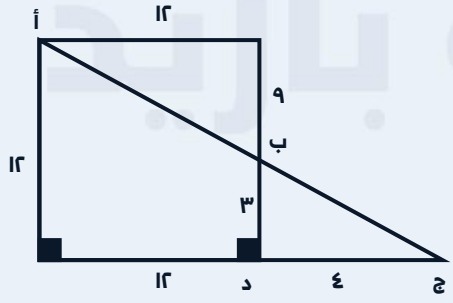

أ ١٩
ب ١٥
ج ١٢
د ١٠

القسم أربعة وستون

٧ إذا كانت المسافة بين مركزي دائرتين متداخلتين ١٠ ، فكم أقصى مسافة بينهم ؟

أ ٣٥ ب ٣٠

ج ٢٥ د ٢٠

٨ فقارن بين :

القيمة الأولى : $(\frac{١}{\sqrt{٣}})^{٢}$ القيمة الثانية : $(\frac{١}{\sqrt{٢}})^{٤}$

أ القيمة الأولى أكبر ب القيمة الثانية أكبر

ج القيمتان متساويتان د المعطيات غير كافية

٩ ما نسبة مساحة الجزء المظلل ؟



أ ٣٠% ب ٤٠%

ج ٥٠% د ٦٠%

١٠ إذا ولد نواف بعد مولد محمد بـ ٤سنوات و عمر نواف $\frac{٧}{٨}$ عمر احمد ، فما عمر نواف؟

أ ٣٠ ب ٢٤

ج ٢٨ د ٢٢

١١ الأشكال المجاورة تمثل مكونات الجسم البشري ، إذا كان وزن الشص ٥٠ كيلوجرام ،فكم كمية الماء في جسمه؟

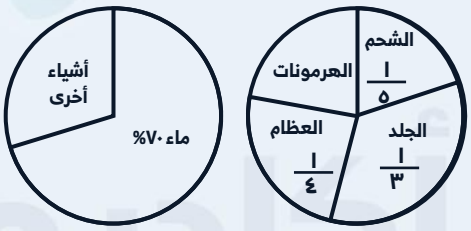

أ ٣٥ ب ٤٠

ج ٤٥ د ٥٠

الجزء القادم

نلقاكم في القسم خمسة وستون

ذاكر بذكاء ليس بجهد - أكاديمية بازيد

مفاتيح الاجوبة

١. د	٢. ج	٣. ج	٤. د	٥. أ	٦. أ	٧. ب	٨. أ	٩. ج	١٠. ج	١١. أ

- كتاب أقسام الكمي -

SECTION64

القسم أربعة وستون

مسائل حسابية . هندسة . جبر . احصاء

11 سؤال

مع مفتاح الإجابات

ذاكر بذكاء ليس بجهد

BAZAID ACADEMY 2026

القسم خمسة وستون

١ إذا كانت : $\frac{١٢}{ن^{٢}}$ = س ، ما أكبر قيمة صحيحة موجبة ل س

أ) ٢ ب) ٤ ج) ٦ د) ١٢

٢ شخص يوزع ٣ هدايا لكل مجموعة ، وكل مجموعه بها ٧ أشخاص، وعدد الاشخاص في كل المجموعات ٦٣ ، فكم عدد الهدايا؟

أ) ٢١ ب) ٢٤ ج) ٢٧ د) ٣٢

٣ يبين الجدول التالي متوسط حرق شخص للسعرات الحرارية ، كم كيلو متر يمشي الشخص تقريبا عند حرق ٣٤٠ سعرة حرارية؟

كيلو متر	سعر حرارية
٤٥	١٦٠
٥٥	١٩٠
٦٥	٢٢٥
١٠٠	٣٥٠
------	------
------	------

أ) ٦٠ ب) ٧٠ ج) ٨٥ د) ١١٠

٤ الجدول المجاور يمثل عدد السكان بالملايين لدول مختلفة مع نسبة البطالة لكل دولة، أوجد نسبة بطالة كينيا إلى اليابان

المدينة	عدد السكان	نسبة البطالة
السودان	٥٠,٤٧	%٢٠,٨
كينيا	٥٢,٤	%٦٠
الجزائر	٤٥,٦	%١١,٨
اليابان	١٢٣,١	%٦

أ) ١٠ : ١ ب) ١ : ٦ ج) ١ : ١٠ د) ١ : ٦

٥ أوجد قيمة س في الشكل المجاور :

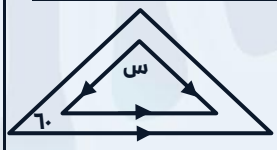

أ) ٤٠ ب) ٥٠ ج) ٦٠ د) ٧٠

٦ في الشكل المجاور، كم قيمة س؟

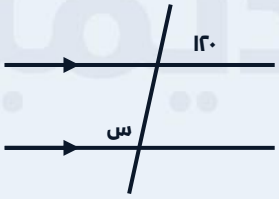

أ) ٤٥ ب) ٥٠ ج) ٦٠ د) ٨٠

٧ رحلة مدرسية لـ ١٥ طالبة ومعلمتين، إذا كانت تكلفة كل طالبة ٣ ريال وكل معلمة ٥ ريال، فكم تكلفة الرحلة؟

أ) ٤٥ ب) ٤٨ ج) ٥٠ د) ٥٥

٨ القطار س يذهب إلى المحطة الرابعة في ٥ساعات و ٥دقائق، ويتوقف ١٥ دقيقة عند كل محطة ، و القطار ص يذهب إلى المحطة السادسة في ٦ساعات ويتوقف ٢٥دقيقة عند كل محطة ، إذا كانت المسافات بين المحطات متساوية قارن بين :
القيمة الأولى :سرعة القطار س القيمة الثانية : سرعة القطار ص

أ) القيمة الأولى أكبر ب) القيمة الثانية أكبر ج) القيمتان متساويتان د) المعطيات غير كافية

٩ الرسم البياني يوضح تأثير ساهر على مناطق مختلفة في المملكة العربية السعودية ، أي مدينة لم تتأثر بوجود ساهر؟

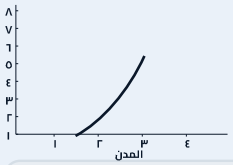

أ) ١ ب) ٢ ج) ٣ د) ٤

١٠ الشكل البياني يمثل أسعار عسل في أوقات مختلفة ،كم الصافي عند ١٤٠٠؟

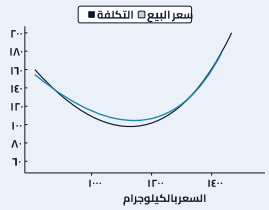

أ) ٢٠- ب) ٣٠- ج) ١٠ د) ٢٠

١١ الأشكال المجاورة تمثل مكونات الجسم البشري ، إذا كان وزن الشص ٥٠ كيلوجرام ،فكم كمية الماء في جسمه؟



أ) ٣٥ ب) ٤٠ ج) ٤٥ د) ٥٠

الجزء القادم

نلقاكم في القسم ستة وستون

ذاكر بذكاء ليس بجهد - أكاديمية بازيد

مفاتيح الاجوبة

١.ب	٢.ج	٣.ج	٤.ج	٥.د	٦.ج	٧.د	٨.ب	٩.أ	١٠.أ	١١.أ

- كتاب أقسام الكمي -

SECTION66

القسم ستة وستون

مسائل حسابية . هندسة . جبر . احصاء

11 سؤال

مع مفتاح الإجابات

ذاكر بذكاء ليس بجهد

BAZAID ACADEMY 2026

القسم ستة وستون

١ إذا كانت م نصف قطر الدائرة، أوجد قياس الضلع أ ب بالسنتمتراً

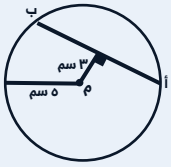

أ) ٢٠ ب) ٥٦
ج) ٧٢ د) ٧٠

٢ موقف سيارات يتسع ٤٣٢ سيارة مقسمة إلى ستة أجزاء كل جزء مكون من ٧٢ موقف ومرتبة حسب اللون (أحمر- أبيض-أخضر-أصفر-أسود-أزرق) على الترتيب ، ما لون السيارة في الموقف رقم

أ) أبيض ب) أسود
ج) ازرق د) أصفر

٣ إذا كان الشكل مربع أوجد مساحة الشكل المظلل

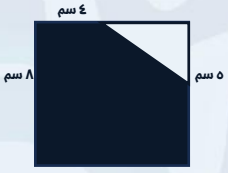

أ) ٥٨ ب) ٥٤
ج) ٤٦ د) ٥٠

٤ إذا كان ٢٠ل = ١٦ ، ١٠م = ٢٠ ، ٤ن = ١٠ ، فما قيمة ل x م x ن ؟

أ) ٢ ب) ٨
ج) ١٠ د) ٢٠

٥ أوجد قيمة : $\frac{٧٥ + ٨٥}{٧٥}$

أ) ١٠ ب) ١٢
ج) ٢٦ د) ٦

٦ الشكل المجاور يمثل جنسيات موظفين شركة عدد الموظفين بها ، ٤٢٠ إذا أرادت الشركة زيادة الموظفين السعوديين إلى ٥٠٪ عن طريق استبدال بعض موظفي الشركة من جنسيات الأخرى ، فكم سعودياً توظف؟



أ) ٧٠ ب) ٧٥
ج) ٨٠ د) ٨٥

٧ قارن بين :
القيمة الأولى : مساحة المربع
القيمة الثانية : مساحة المستطيل

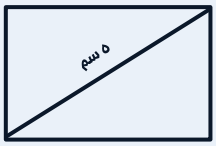

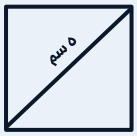

أ) ٤ ب) ٥
ج) ٦ د) ٨

٨ اذا كان الصفر أكبر عدد فأن باقي الاعداد ؟

أ) موجبة ب) سالبة
ج) سالبة وموجبة د) نصفها سالبة

٩ اذا كان الشكل مستطيل ومساحته ، ٤٨ أوجد احداثيات النقطة (ب)

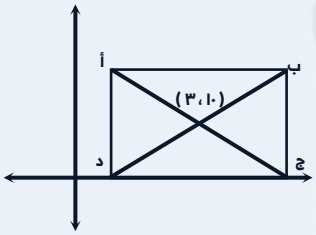

أ) (٤،١٢) ب) (٤،١٤)
ج) (٦،١٢) د) (٦،١٤)

١٠ ما الفرق بين أصغر عدد فردي مكون من ٣ أرقام وأكبر عدد زوجي مكون من رقمين؟

أ) ٦ ب) ٩
ج) ٢٠ د) ٣

١١ مدرب يتقاضى ٦٠٠ريال + جوال إذا عمل ٦ساعات و ١٠٠ ريال + جوال إذا عمل ٤ ساعات ، كم سعر الجوال ؟

أ) ٥٠٠ ب) ٧٠٠
ج) ٩٠٠ د) ١١٠٠

الجزء القادم
نلقاكم في القسم سبعة وستون
ذاكر بذكاء ليس بجهد - أكاديمية بازيد

مفاتيح الاجوبة

١. د	٢. ب	٣. أ	٤. أ	٥. د	٦. أ	٧. أ	٨. ب	٩. د	١٠. د	١١. ج

- كتاب أقسام الكمي -

SECTION67

القسم سبعة وستون

مسائل حسابية . هندسة . جبر . احصاء

11 سؤال

مع مفتاح الإجابات

ذاكر بذكاء ليس بجهد

BAZAID ACADEMY 2026

القسم سبعة وستون

١ محل عصائر لديه نوعين من العصير (مانجو-برتقال)، بكم طريقة يمكن لهند أن تملأ ٤ أكواب عصير؟

أ ٢ ب ٥
ج ٨ د ١٠

٢ أوجد قيمة : $\frac{٧^{٥} + ٨^{٥}}{٧^{٥}}$

أ ٤ ب ٥
ج ٨ د ٦

٣ الشكل التالي يمثل خماسي مجموع زواياه الداخلية = ٥٤٠° أوجد مجموع الزوايا (أ، ب، ج، ح، د)

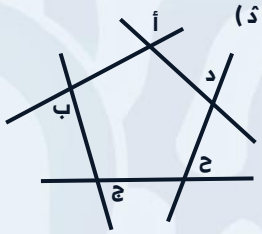

أ ١٨٠° ب ٢٧٠°
ج ٣٦٠° د ٥٤٠°

٤ إذا كان $أ = \frac{\sqrt{١٨٠ \times ٢}}{\sqrt{٢٠}}$

أ $\sqrt{٥}$ ب $\sqrt{٦}$
ج $٢\sqrt{٥}$ د $\sqrt{٣}$

٥ أوجد قيمة : $\frac{\sqrt{٤٥} + ٣}{\sqrt{٥} + ١}$

أ ٣ ب ٤
ج $٦\sqrt{٥}$ د ٥

٦

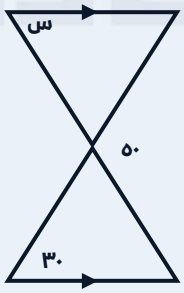

أ ٢٠ ب ٣٠
ج ٤٥ د ٦٠

٧ في الجدول البياني التالي، إذا كانت إنتاجية المصانع الشهرية ثابتة، كم ينتج المصنع ٤ خلال شهر ؟

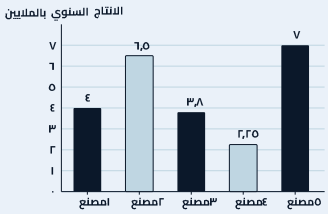

أ ١٨٧٥٠٠ ب ١٨٧٠٠٠
ج ١٨٠٠٠٠ د ١٦٠٠٠٠

٨ كم عدد يمكن تشكيله دون تكرار من الأرقام ١ ، ٣ ، ٤ يقبل القسمة على ٤ ؟

أ ٠ ب ١
ج ٢ د ٣

٩ إذا علمت أن قطر الدائرة يساوي ٤ ، قارن بين :
القيمة الأولى : مساحة الجزء المظلل
القيمة الثانية : ٣ط



أ القيمة الأولى أكبر ب القيمة الثانية أكبر
ج القيمتان متساويتان د المعطيات غير كافية

١٠ يمثل الشكل التالي الأوزان بالكيلوجرام مجموعة من الطلاب في فصلين من فصول الصف السادس في مدرسة ما، كم عدد الطلاب الذين أوزانهم أعداد زوجية؟

الأوراق / أ	الساق	الأوراق / ب
١٢٤٥٦	٠	٤٣٢١
١٢٣٥٥٦	١	٥٤٣٢١
١٣٤٥٦	٢	٥٤٣٢
..	٣	٤٣٢١٠
٣٨ = ٨ / ٣		٣٩ = ٣ / ٩

أ ١٥ ب ١٢
ج ٢٠ د ٢٤

١١ إذا كام ٢س = ١٥ ، ٥ص = ٣٢ ، قارن بين :
القيمة الأولى : ٦ القيمة الثانية : س ص

أ القيمة الأولى أكبر ب القيمة الثانية أكبر
ج القيمتان متساويتان د المعطيات غير كافية

الجزء القادم
نلقاكم في القسم ثمانية وستون
ذاكر بذكاء ليس بجهد - أكاديمية بازيد

مفاتيح الاجوبة

١.ب	٢.د	٣.ج	٤.ب	٥.أ	٦.أ	٧.أ	٨.ب	٩.ب	١٠.ج	١١.أ

- كتاب أقسام الكمي -

SECTION68

القسم ثمانية وستون

مسائل حسابية . هندسة . جبر . احصاء

11 سؤال

مع مفتاح الإجابات

ذاكر بذكاء ليس بجهد

BAZAID ACADEMY 2026

القسم ثمانية وستون

١ ماقيمة س ؟



أ ٣٠ ب ٤٥
ج ٦٠ د ٩٠

٢ أي مما يلي يمثل الحد السادس للنمط :



أ  ب 
ج  د 

٣ متتابعة حسابية فيها س= ١٣ ، وكل حد يزيد عن السابق ب ٣ ما مقدار مجموع س و الحدود الثلاثة السابقة له ؟

أ ٣٢ ب ٣٣
ج ٣٤ د ٣٥

٤ قارن بين :
القيمة الأولى : مساحة المظلل
القيمة الثانية : ٨ سم٢

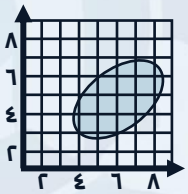

أ القيمة الأولى أكبر ب القيمة الثانية أكبر
ج القيمتان متساويتان د المعطيات غير كافية

٥ الشكل المجاور مستطيل
قارن بين :
القيمة الأولى : نسبة المظلل إلى الشكل
القيمة الثانية : $\frac{١}{٣}$



أ القيمة الأولى أكبر ب القيمة الثانية أكبر
ج القيمتان متساويتان د المعطيات غير كافية

٦ في الشكل التالي، إذا كانت مساحة الدائرة الكبيرة ٣٦ط
قارن بين :
القيمة الأولى : محيط الدوائر الصغيرة
القيمة الثانية : ٣٠ط

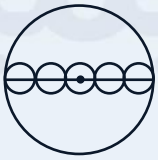

أ القيمة الأولى أكبر ب القيمة الثانية أكبر
ج القيمتان متساويتان د المعطيات غير كافية

٧ في الشكل المجاور أ ب ج د مربع مساحته ١٠٠اسم٢ ، يعلوه مثلث أهـ د مساحته ١٠اسم٢ ، أوجد طول الخط الأحمر ؟

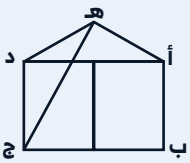

أ ١٣ ب ١٤
ج ١١ د ١٢

٨ في أي شهر تساوى أ مع ب ؟

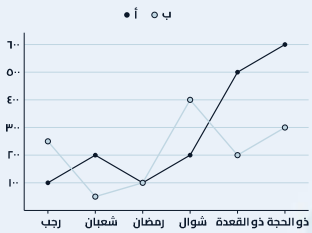

أ رجب ب شعبان
ج رمضان د ذو الحجة

٩ إذا علمت أن قطر الدائرة يساوي ٤ ، قارن بين :
القيمة الأولى : مساحة الجزء المظلل
القيمة الثانية : ٣ط



أ رجب ب شعبان
ج رمضان د ذو الحجة

١٠ قارن بين :

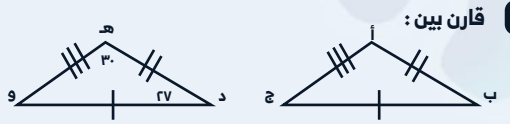

أ القيمة الأولى أكبر ب القيمة الثانية أكبر
ج القيمتان متساويتان د المعطيات غير كافية

١١ $\frac{س٧}{٣٠٧} = ٥٧$ أوجد قيمة س؟

أ ١ ب ٢
ج ٣ د ٤

الجزء القادم
نلقاكم في القسم تسعة وستون
ذاكر بذكاء ليس بجهد - أكاديمية بازيد

مفاتيح الاجوبة

١.ب	٢.ج	٣.ج	٤.أ	٥.ج	٦.ب	٧.أ	٨.ج	٩.د	١٠.أ	١١.ب

- كتاب أقسام الكمي -

SECTION69

القسم تسعة وستون

مسائل حسابية . هندسة . جبر . احصاء

11 سؤال

مع مفتاح الإجابات

ذاكر بذكاء ليس بجهد

BAZAID ACADEMY 2026

القسم تسعة وستون

١ احسب المتوسط الحسابي للأيام في المخطط البياني التالي

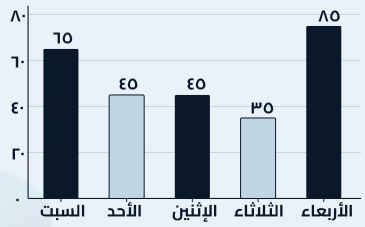

أ) ٢٤ ب) ٤٢
ج) ٦٠ د) ٥٥

٢ كم عدد الطلاب الحاصلين على جيد جداً وأقل ؟

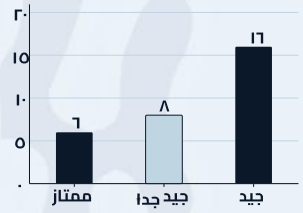

أ) ١٩ ب) ٢٤
ج) ١٦ د) ١٨

٣ بناء على الشكل المجاور ، قارن بين :
القيمة الأولى : ٧س-٣
القيمة الثانية : ٥س + ١٧



أ) القيمة الأولى أكبر ب) القيمة الثانية أكبر
ج) القيمتان متساويتان د) المعطيات غير كافية

٤ إذا كان $\sqrt{\frac{١}{٣س}}$ = ٣س ، أوجد قيمة س

أ) ٢٧ ب) $\frac{١}{٢٧}$
ج) ٣ د) $\frac{١}{٣}$

٥ في الشكل المجاور مستطيلات متطابقة ، إذا كان محيط المستطيل الكبير = ٣٤ أوجد مساحته؟

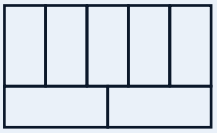

أ) ٤٩ ب) ٦٠
ج) ٧٠ د) ٨٠

٦ في الشكل التالي ، س بالسنتمتر تساوي :

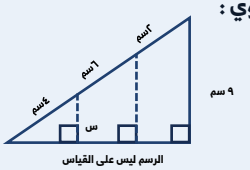

أ) ٦ ب) ٥
ج) ٤ د) ٣

٧ قطعة خشب طولها ٢٤ متر ، يُراد تقطيعها إلى ٢٤ قطعة صغيرة ، كم عدد مرات تقطيعها؟

أ) ٢٤ ب) ٢٥
ج) ٢٣ د) ٢٢

٨ ما العدد الذي ثلثه يساوي $\frac{١٦}{٣}$

أ) $\frac{١٦}{٣}$ ب) $\frac{٤}{٣}$
ج) $\frac{٣}{١٦}$ د) ١٦

٩ قارن بين :
القيمة الاولى : ٨٦ القيمة الثانية : ٦٨

أ) القيمة الأولى أكبر ب) القيمة الثانية أكبر
ج) القيمتان متساويتان د) المعطيات غير كافية

١٠ حصل أحمد على ١٨٠٠ من المجموع الكلي للدرجات إذا كان مجموع الكلي للدرجات ٢٤٠٠ ، فما النسبة المئوية لدرجات أحمد

أ) %٢٠ ب) %٢٥
ج) %٥٠ د) %٧٥

١١ ٣٨٠٠ تم تخفيضها الى ٢٨٥٠ ، ما نسبة التخفيض ؟

أ) %٢٠ ب) %٣٠
ج) %٢٥ د) %٤٠

الجزء القادم
نلقاكم في القسم السبعون
ذاكر بذكاء ليس بجهد - أكاديمية بازيد

مفاتيح الاجوبة

١. د	٢. ب	٣. ج	٤. د	٥. د	٦. د	٧. ج	٨. د	٩. أ	١٠. د	١١. ج

- كتاب أقسام الكمي -

SECTION70

القسم السبعون

مسائل حسابية . هندسة . جبر . احصاء

11 سؤال

مع مفتاح الإجابات

ذاكر بذكاء ليس بجهد

BAZAID ACADEMY 2026

القسم السبعون

١ مثلث قائم الزاوية ومتطابق الضلعين فيه الوتر = ١٠ احسب مساحة المثلث

أ) ٢٠ ب) ٢٥ ج) ٥٠ د) ١٠٠

٢ إذا كان $\sqrt{١٢ + س^{٢}}$ = ٧ ، أوجد قيمة س

أ) $\sqrt{٦}$ ب) $\sqrt{٣٢}$ ج) $\sqrt{٣٧}$ د) ٧

٣ من المخطط البياني التالي، أوجد كم تساوي ٨٠ بوصة بالسنتمتر تقريباً



أ) ٣٢ ب) ١٦٠ ج) ٢٠٠ د) ٢٣٢

٤ يمثل الرسم البياني عدد المراجعين بالنسبة لأعمارهم خلال أربع أشهر، أوجد متوسط المراجعات البالغات

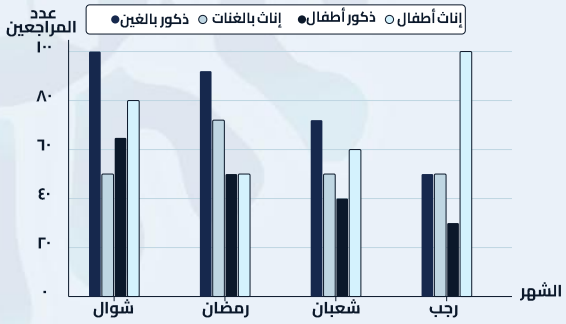

أ) ٤٠ ب) ٥٥ ج) ٦٠ د) ٦٥

٥ إذا كان قياس القوس يساوي قياس الزاوية المقابلة لها
قارن بين :
القيمة الأولى : نسبة قياس القوس أ ج إلى قياس القوس ج هـ
القيمة الثانية : $\frac{١}{٥}$

أ) القيمة الأولى أكبر ب) القيمة الثانية أكبر ج) القيمتان متساويتان د) المعطيات غير كافية

٦ عجلة نصف قطرها س تدور ٣٠ دورة، وتقطع مسافة معينة، وعجلة أخرى نصف قطرها ص تدور ١٥ دورة، وتقطع نفس المسافة بالضبط، ما العلاقة بين س و ص ؟

أ) س = ص ب) ٢س = ص ج) ٢ص = س د) ٣س = ص

٧ قارن بين :
القيمة الأولى : $(١ - \frac{٩}{٥})^{٣}$
القيمة الثانية : $(١ - \frac{٩}{٥})^{٣}$

أ) القيمة الأولى أكبر ب) القيمة الثانية أكبر ج) القيمتان متساويتان د) المعطيات غير كافية

٨ ثلاث عمال يعملون ساعتين لإنجاز جدار طوله ١٢٠ متر فكم ساعة يعمل ٤ عمال لإنجاز جدار طوله ١٦٠ متر ؟

أ) ١ ب) ٢ ج) ٣ د) ٤

٩ خزان يحوي ثمنه من الماء إذا أضفنا له ٦٣ لتراً امتلأ كله، فكم سعة هذا الخزان ؟

أ) ٧٢ لتر ب) ٨٢ لتر ج) ٨٣ لتر د) ٦٥ لتر

١٠ اشترى شخص بنصف ما معه ثم اشترى بثلث المتبقي، ما نسبة ما تبقى معه ؟

أ) $\frac{١}{٣}$ ب) $\frac{١}{٤}$ ج) $\frac{١}{٥}$ د) $\frac{١}{٦}$

١١ مستطيل طولُ أحد ضلعيه س، ومساحته ٣س^{٢} ،إذا كان قطر هذا المستطيل يساوي طول ضلع مربع ، فما مساحة هذا المربع؟

أ) ٢س^{٢} ب) ٣س^{٢} ج) ٤س^{٢} د) ٥س^{٢}

الجزء القادم
نلقاكم في القسم واحد وسبعون
ذاكر بذكاء ليس بجهد - أكاديمية بازيد

مفاتيح الاجوبة

١. ب	٢. ج	٣. ج	٤. ب	٥. ج	٦. ب	٧. ب	٨. ب	٩. أ	١٠. أ	١١. د

- كتاب أقسام الكمي -

SECTION 71

القسم واحد وسبعون

مسائل حسابية . هندسة . جبر . احصاء

11 سؤال

مع مفتاح الإجابات

ذاكر بذكاء ليس بجهد

BAZAID ACADEMY 2026

القسم واحد وسبعون

١ $(\sqrt{٥١}\sqrt{٢})^{٢} - (\sqrt{٤٩}\sqrt{٢})^{٢} =$ .....

أ ٢٠٠ ب ٤٠٠

ج ٦٠٠ د ٨٠٠

٢ ما العام الذي قل عدد الخريجين عن أجمالي الاحتياج في المهن بـ ٣٪

العام	المهن الزراعية	المهن الصناعية	المهن الهندسية	إجمالي الأحتياج في هذه المهن	أعداد المتخرجين
٢٠١٠	٦٧٨	٢٨٢٥	٣١٥٧	٦٦٦٠	٦٦٦
٢٠١١	٥٠٠	٣٠٠٠	٣٥٠٠	٧٠٠٠	٣٥٠
٢٠١٢	١٠٠٠	٥٠٠٠	٤٠٠٠	١٠٠٠٠	٥٠٠
٢٠١٣	٩٠٠	٣١٠٠	٤٥٠٠	٨٥٠٠	١٧٠
٢٠١٤	١٠٤٣	٣٢٧٩	٨١٧٨	٩٥٠٠	١٩٠٠

أ ٢٠١١ ب ٢٠١٢

ج ٢٠١٣ د ٢٠١٤

٣ إذا كانت أ ب ٠ وكانت أ و ب أعداد صحيحة طبيعية متتالية ، فأي الآتي يساوي ناتج أ + ب ؟

أ $أ^{٢} + ب^{٢}$ ب $ب^{٢} - أ^{٢}$

ج $أ^{٢} - ب^{٢}$ د $ب^{٢} + أ$

٤ في الشكل المجاور ، أوجد قياس الزاوية س



أ ١٨ ب ٣٦

ج ٢٠ د ٣٢

٥ إذا كانت النسبة الطبيعية للسكر في التمر من ٥٠٪ إلى ٦٩٪ ما النوع الذي نسبته مرتفعة عن النسبة الطبيعية ؟

نوع التمر	نسبة السكر
بنبان	٤٥٪
مكتومي	٧٠٪
صقعي	٥٠٪
خلاص	٦٨٪
دقل	٢٥٪

أ بنبان ب مكتومي

ج خلاص د صقعي

٦ أي مما يلي يساوي نسبة السكر في حبة تمر مكتومي ؟

نوع التمر	نسبة السكر
بنبان	٤٥٪
مكتومي	٧٠٪
صقعي	٥٠٪
خلاص	٦٨٪
دقل	٢٥٪

أ نصف حبة صقعي وحبة بنبان ب نصف حبة بنبان وحبة صقعي

ج حبة خلاص ونصف حبة صقعي د نصف حبة خلاص وحبة دقل

٧ قارن بين :
القيمة الأولى : $(\frac{٤}{٥})^{١٠}$ القيمة الثانية : $(\frac{٤}{٥})^{٥} \times (\frac{٤}{٥})^{٢}$

أ القيمة الأولى أكبر ب القيمة الثانية أكبر

ج القيمتان متساويتان د المعطيات غير كافية

٨ لدينا المستطيل التالي بداخله مربعات منهم إثنان معلوم مساحتهما أوجد محيط المستطيل أ ب ج د

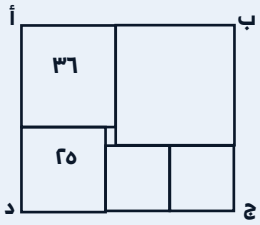

أ ٢٤ ب ٣٠

ج ٤٠ د ٤٨

٩ سيارتان تسيران بعكس الاتجاه من نفس النقطه ، الأولى بسرعه س كم/س والثانيه بسرعة ص كم/س ، ما العلاقه التي تمثل المسافه بينهما بعد ساعه؟

أ ص × س ب $\frac{ص}{س}$

ج ص - س د ص + س

١٠ قارن بين :
القيمة الأولى : $\sqrt{٤٩ + ٢٥}$

القيمة الثانية : $\sqrt{٤٩} + \sqrt{٢٥}$

أ القيمة الأولى أكبر ب القيمة الثانية أكبر

ج القيمتان متساويتان د المعطيات غير كافية

١١ قارن بين :
القيمة الأولى : محيط خماسي منتظم طول ضلعه اسم .
القيمة الثانية : محيط دائرة طول نصف قطرها اسم .

أ القيمة الأولى أكبر ب القيمة الثانية أكبر

ج القيمتان متساويتان د المعطيات غير كافية

الجزء القادم

نلقاكم في القسم اثنان وسبعون

ذاكر بذكاء ليس بجهد - أكاديمية بازيد

مفاتيح الاجوبة

١	٢	٣	٤	٥	٦	٧	٨	٩	١٠	١١
ب	ج	ج	أ	ب	أ	ب	د	د	ب	ب

- كتاب أقسام الكمي -

SECTION72

القسم اثنان وسبعون

مسائل حسابية . هندسة . جبر . احصاء

11 سؤال

مع مفتاح الإجابات

ذاكر بذكاء ليس بجهد

BAZAID ACADEMY 2026

القسم اثنان وسبعون

١ أوجد قيمة : $\frac{٧٥ + ٨٥}{٧٥}$

أ) ١٠ ب) ١٢

ج) ٢٦ د) ٦

٢ متوسط خمس أعداد يساوي ٨٥ ، إذا كان مجموع أول أربع أعداد منها ٣٢٠ فكم قيمة العدد الخامس؟

أ) ١٠٥ ب) ١١٥

ج) ٩٥ د) ١٢٥

٣ ما عدد المئات في العدد : ٧٩٦٣٥؟

أ) ٧٩٦ ب) ٩٦

ج) ٦٣ د) ٦

٤ اذا كان ٨ اشخاص يجلسون على ٣ طاولات كما هو مبين بالشكل، كم شخص يمكنهم الجلوس على ١٣ طاولة؟



أ) ٣٠ ب) ٣٩

ج) ٢٨ د) ٢٥

٥ مجموع الحوادث في عام ١٤٣٠ هـ بلغت ١٨٠٠٠ ، أوجد الحوادث بسبب السرعة ؟



أ) ٦٣٠٠٠ ب) ٦٠٠٠

ج) ٦٥٠٠٠ د) ٦٨٠٠٠

٦ ١٠ مضروبة في نفسها ٢٠ مره = ...

أ) ١٠ x ٢٠ ب) ١٠^٢٠

ج) ١٠ + ٢٠ د) ١٠^٢٠

٧ عندما تصل سرعة المحرك أ إلى ٣٠كلم / ساعة ، فإن معدل استهلاك الوقود باللتر يساوي :

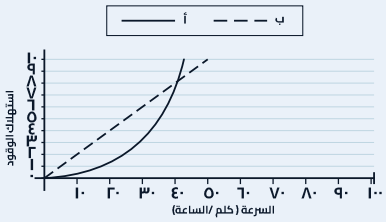

أ) ١ ب) ٢

ج) ٣ د) ٤

٨ إذا كان لدينا ثلاثة مربعات، و كان المثلث متطابق الأضلاع أوجد قيمة الزاوية س

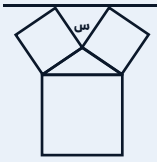

أ) ١٤٠ ب) ١٢٠

ج) ١٥٠ د) ١٨٠

٩ قارن بين :
القيمة الأولى : عدد الدقائق من ٩:١٢ مساء الى ٩:٠٢ مساء اليوم التالي.
القيمة الثانية: ١٤٩٠ دقيقة

أ) القيمة الأولى أكبر ب) القيمة الثانية أكبر

ج) القيمتان متساويتان د) المعلومات غير كافية

١٠ اذا كان س عدد زوجي ، فاي التالي عدد فردي ؟

أ) ٣ (س + ١) ب) ٢ (س + ٢)

ج) ٣ (س - ٤) د) ٢ (س - ٥)

١١ إذا كانت جميع المربعات متساوية ،أوجد فرق المساحة بين المثلثين ١ و ٢

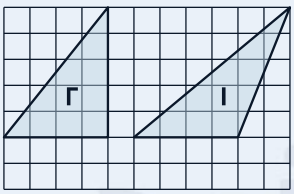

أ) صفر ب) ٤

ج) ٦ د) ٨

الجزء القادم

نلقاكم في القسم ثلاثة وسبعون

ذاكر بذكاء ليس بجهد - أكاديمية بازيد

مفاتيح الاجوبة

١. د	٢. أ	٣. أ	٤. ج	٥. أ	٦. ب	٧. د	٨. ب	٩. ب	١٠. أ	١١. أ

- كتاب أقسام الكمي -

SECTION73

القسم ثلاثة وسبعون

مسائل حسابية . هندسة . جبر . احصاء

11 سؤال

مع مفتاح الإجابات

ذاكر بذكاء ليس بجهد

BAZAID ACADEMY 2026

القسم ثلاثة وسبعون

١ متوسط خمس أعداد يساوي ، ٨٥و إذا كان مجموع أول أربع أعداد منها ٣٢٠ ، فكم قيمة العدد الخامس؟

أ ١٠٥ ب ١١٥
ج ٩٥ د ١٢٥

٢ ما عدد المئات في العدد : ٧٩٦٣٥؟

أ ٧٩٦ ب ٩٦
ج ٦٣ د ٦

٣ اذا كان ٨ اشخاص يجلسون على ٣ طاولات كما هو مبين بالشكل، كم شخص يمكنهم الجلوس على ١٣ طاولة؟



أ ٣٠ ب ٣٩
ج ٢٨ د ٢٥

٤ مجموع الحوادث في عام ١٤٣٠ هـ بلغت ١٨٠٠٠٠ ، أوجد الحوادث بسبب السرعة ؟



أ ٦٣٠٠٠ ب ٦٠٠٠٠
ج ٦٥٠٠٠ د ٦٨٠٠٠

٥ ١٠ مضروبة في نفسها ٢٠ مره = ...

أ ١٠ x ٢٠ ب ١٠^٢٠
ج ١٠ + ٢٠ د ١٠^٢٠

٦ إذا كان لدينا ثلاثة مربعات، و كان المثلث متطابق الأضلاع أوجد قيمة الزاوية س



أ ١٤٠ ب ١٢٠
ج ١٥٠ د ١٨٠

٧ قارن بين :
القيمة الأولى : عدد الدقائق من ٩:١٢ مساء الى ٩:٠٢ مساء اليوم التالي.
القيمة الثانية: ١٤٩٠ دقيقة

أ القيمة الأولى أكبر ب القيمة الثانية أكبر
ج القيمتان متساويتان د المعلومات غير كافية

٨ اذا كان س عدد زوجي ، فاي التالي عدد فردي ؟

أ ٣ (س + ١) ب ٢ (س + ٢)
ج ٣ (س - ٤) د ٢ (س - ٥)

٩ إذا كانت جميع المربعات متساوية ،أوجد فرق المساحة بين المثلثين ١ و ٢

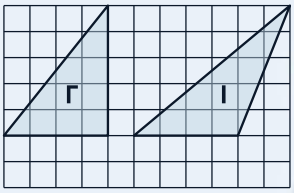

أ صفر ب ٤
ج ٦ د ٨

١٠ في الشكل المجاور، أوجد قيمة س

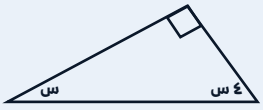

أ ١٦ ب ١٨
ج ٣٢ د ٣٦

١١ الرسم البياني يمثل كميات الوقود باللترات التي صرفتها سيارتين، كلّما زادت سرعة السيارة (أ) فإن صرف الوقود؟

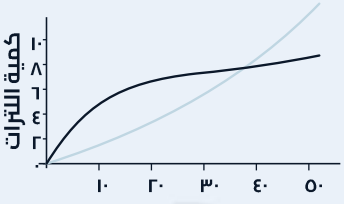

أ متذبذب ب يزيد
ج ينقص د ثابت

الجزء القادم

نلقاكم في القسم أربعة وسبعون

ذاكر بذكاء ليس بجهد - أكاديمية بازيد

مفاتيح الاجوبة

١. د	٢. أ	٣. ج	٤. أ	٥. ب	٦. ب	٧. ب	٨. أ	٩. أ	١٠. ب	١١. ب

- كتاب أقسام الكمي -

SECTION74

القسم أربعة وسبعون

مسائل حسابية . هندسة . جبر . احصاء

11 سؤال

مع مفتاح الإجابات

ذاكر بذكاء ليس بجهد

BAZAID ACADEMY 2026

القسم أربعة وسبعون

١ نصف عدد + ، ٢٣ = ١٣ فما هو هذا العدد؟

أ ١٠ ب ٢٠

ج ٢٦ د ٣٠

٢ أعطى رجل لعاملين مبلغين من المال بنسب ٥ : ٦ وكان الفرق بينهما ٢٠٠ ريال فكم المبلغ الكلي ؟

أ ١٢٠٠ ب ١٦٠٠

ج ٢٢٠٠ د ٢٤٠٠

٣ قارن بين

القيمة الأولى : حجم المكعب

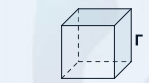

القيمة الثانية : ثلث حجم متوازي المستطيلات

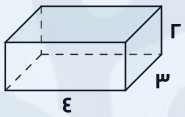

أ القيمة الأولى أكبر ب القيمة الثانية أكبر

ج القيمتان متساويتان د المعطيات غير كافية

٤ إذا كان $\frac{٧^{س}}{٧^{-٣}} = ٧^{٥}$ أوجد قيمة س ؟

أ ١ ب ٢

ج ٣ د ٤

٥ أوجد عدد الموظفين غير السعوديين في الشركات الثلاثة

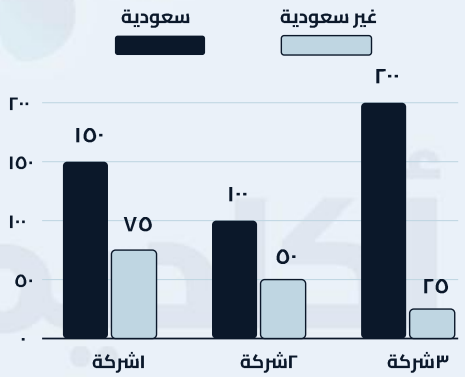

أ ٧٥ ب ١٥٠

ج ٢٢٠ د ٢٠٠

٦ في الشكل التالي ، س بالسنتمتر تساوي :

العدد الكلي للأسلحة	١٢٠ رشاش
الأسلحة التالفة جزئياً	٣٥ رشاش
الأسلحة التالفة كلياً	٤٥ رشاش

أ ٣٠% ب ٣٣%

ج ٤٠% د ٦٧%

٧ أسطوانة مساحة قاعدتها ١٥م٢ ، و ارتفاعها ١٥م ، كم نحتاج من الماء لملئ ثلث الأسطوانة ؟

أ ٦٠ ب ٧٥

ج ١٢٠ د ١٥٠

٨ ما الفرق بين أكبر عدد و أصغر عدد مكون من الأرقام (١ ، ٢ ، ٣ ، ٤) بحيث يكون أكبر من ١٠٠٠ بدون تكرار الرقم ؟

أ ٢٣٨٧ ب ٣٢٨٧

ج ٣١٧٨ د ٣٠٨٧

٩ قارن بين :

القيمة الأولى : $|\frac{٢٥٧٣}{٤٣٢١}|$ القيمة الثانية : $|\frac{٢٥٧٣}{٤٣٢١}|$

أ القيمة الأولى أكبر ب القيمة الثانية أكبر

ج القيمتان متساويتان د المعطيات غير كافية

١٠ قارن بين :

القيمة الأولى : طول أ ب

القيمة الثانية : طول ب ج

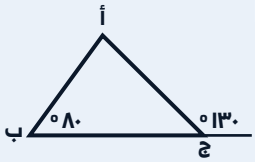

أ القيمة الأولى أكبر ب القيمة الثانية أكبر

ج القيمتان متساويتان د المعطيات غير كافية

١١ اوجد المتوسط الحسابي بين اكبر عدد زوجي مكون من رقمين واصغر عدد اولي

أ ٥٠ ب ٥١

ج ١٠٢ د ٩٦

الجزء القادم

نلقاكم في القسم خمسة وسبعون

ذاكر بذكاء ليس بجهد - أكاديمية بازيد

مفاتيح الاجوبة

١.ب	٢.ج	٣.ج	٤.ب	٥.ب	٦.ب	٧.ب	٨.د	٩.ب	١٠.ج	١١.أ

- كتاب أقسام الكمي -

SECTION75

القسم خمسة وسبعون

مسائل حسابية . هندسة . جبر . احصاء

11 سؤال

مع مفتاح الإجابات

ذاكر بذكاء ليس بجهد

BAZAID ACADEMY 2026

القسم خمسة وسبعون

١ إذا كان $\frac{\text{أ}}{\text{ب}} + \frac{٧}{٥} = \frac{٨}{١٥}$ ما قيمة أ x ب ؟

أ) ٢٠ ب) ٢٤
ج) ١٦ د) ١٨

٢ قارن بين
القيمة الأولى : طول أب
القيمة الثانية : طول ب ج

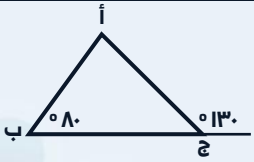

أ) القيمة الأولى أكبر ب) القيمة الثانية أكبر
ج) القيمتان متساويتان د) المعطيات غير كافية

٣ قارن بين :
القيمة الأولى : $|\frac{٢٥٧٣}{٤٣٢١}|$ القيمة الثانية : $|\frac{-١}{١٧٣٥}|$

أ) القيمة الأولى أكبر ب) القيمة الثانية أكبر
ج) القيمتان متساويتان د) المعطيات غير كافية

٤ ما الفرق بين أكبر عدد و أصغر عدد مكون من الأرقام (١، ٢، ٣، ٤) بحيث يكون أكبر من ١٠٠٠ بدون تكرار الرقم ؟

أ) ٢٣٨٧ ب) ٣٢٨٧
ج) ٣١٧٨ د) ٣٠٨٧

٥ أسطوانة مساحة قاعدتها ١٥م ، و ارتفاعها ١٥ م ، كم نحتاج من الماء لملئ ثلث الأسطوانة ؟

أ) ٦٠ ب) ٧٥
ج) ١٢٠ د) ١٥٠

٦ ما نسبة الأسلحة الغير تالفة؟

العدد الكلي للأسلحة	١٢٠ رشاش
الأسلحة التالفة جزئياً	٣٥ رشاش
الأسلحة التالفة كلياً	٤٥ رشاش

أ) ٣٠% ب) ٣٣%
ج) ٤٠% د) ٦٧%

٧ اشترت هند فستان بخصم ٣٠% فكانت قيمته ٢١٠٠ ريال كم سعر الفستان قبل الخصم ؟

أ) ٢٤٠٠ ب) ٢٦٠٠
ج) ٣٠٠٠ د) ٣٢٠٠

٨ قارن بين
القيمة الأولى : حجم المكعب

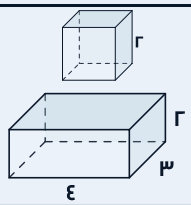

القيمة الثانية : ثلث حجم متوازي المستطيلات

أ) القيمة الأولى أكبر ب) القيمة الثانية أكبر
ج) القيمتان متساويتان د) المعطيات غير كافية

٩ $\frac{٧^{\text{س}}}{٧^{-٣}} = ٧^{٥}$ أوجد قيمة س ؟

أ) ١ ب) ٢
ج) ٣ د) ٤

١٠ أوجد عدد الموظفين غير السعوديين في الشركات الثلاثة

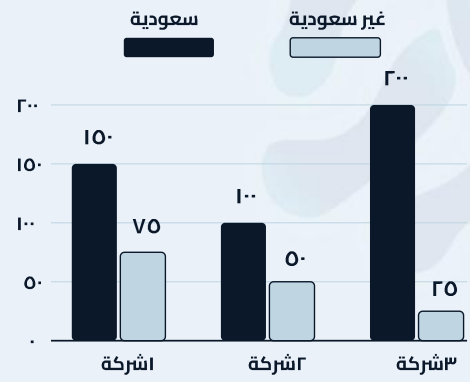

أ) ٧٥ ب) ١٥٠
ج) ٢٢٠ د) ٢٠٠

١١ نصف عدد + ١٣ = ٢٣ ، فما هو هذا العدد؟

أ) ١٠ ب) ٢٠
ج) ٢٦ د) ٣٠

الجزء القادم
نلقاكم في القسم ستة وسبعون
ذاكر بذكاء ليس بجهد - أكاديمية بازيد

مفاتيح الاجوبة

١.ب	٢.ج	٣.ب	٤.د	٥.ب	٦.ب	٧.ج	٨.ج	٩.ب	١٠.ب	١١.ب

- كتاب أقسام الكمي -

SECTION76

القسم ستة وسبعون

مسائل حسابية . هندسة . جبر . احصاء

11 سؤال

مع مفتاح الإجابات

ذاكر بذكاء ليس بجهد

BAZAID ACADEMY 2026

القسم ستة وسبعون

١ إذا كان ٨ ≤ جيد < ١١ ، كم عدد الطلاب الحاصلين على جيد ؟



أ ٤ ب ٦
ج ٨ د ١٢

٢ يمثل الرسم البياني سرعة متسابقين في سباق للخيل، من المتسابقان اللذان لهما نفس الزمن ؟

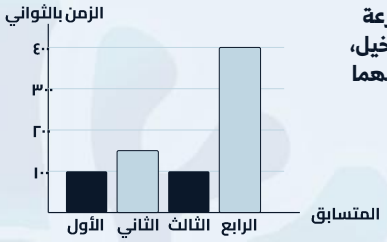

أ الأول والثاني ب الأول والثالث
ج الأول والرابع د الثاني والرابع

٣ في الرسم البياني التالي ، أوجد متوسط الثلاث أعوام



أ ٢٨٠ ب ٢٧٩
ج ٢٧٦ د ٢٧٧

٤ قارن بين :
القيمة الأولى : مساحة المظلل
القيمة الثانية : ط



أ القيمة الأولى أكبر ب القيمة الثانية أكبر
ج القيمتان متساويتان د المعطيات غير كافية

٥ مكعب طول حرفه ٢س، ما مساحة أوجهه ؟

أ ١٢س٢ ب ٢٠س٢
ج ٢٤س٢ د ٤٢س٢

٦ قارن بين :
القيمة الأولى : ٢٠.٢٥ - ٣٠.٢٥ القيمة الثانية : ٣٠.٢٥ - ٢٠.٢٥

أ القيمة الأولى أكبر ب القيمة الثانية أكبر
ج القيمتان متساويتان د المعطيات غير كافية

٧ أوجد قيمة : $\sqrt{٠.٠٠١٦}$

أ ٠,٢ ب ٠,٤
ج ٠,٠٢ د ٠,٠٤

٨ يتقدم شخص لاختبار مكون من ٤٠درجة، إذا اختبر الشخص ١٤اختبارات وكان متوسط درجاته ٤٠ فكم عدد الاختبارات التي لا يمكن أن يحصل فيها على درجة ٤٠؟

أ ٠ ب ١
ج ٢ د ٣

٩ الجدول البياني التالي يبين نتائج خمسة متسابقين في سباق الخيل، كم الفرق بالدقائق بين المتسابق الرابع والأول ؟

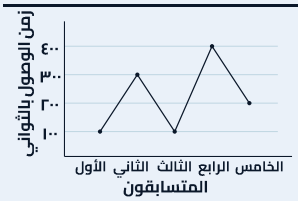

أ ٢ ب ٣
ج ٤ د ٥

١٠ في الشكل التالي، احسب مساحة المربع

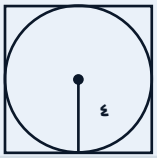

أ القيمة الأولى أكبر ب القيمة الثانية أكبر
ج القيمتان متساويتان د المعطيات غير كافية

١١ كتال سعره ١٠٠ ريال، زاد سعره ١٠٪ ثم نقص ١٠٪ ، ما الفرق بين سعرة الحالي والسعر القديم

أ ٠ ب ١
ج ٢ د ١٠

الجزء القادم
نلقاكم في القسم سبعة وسبعون
ذاكر بذكاء ليس بجهد - أكاديمية بازيد

مفاتيح الاجوبة

١.ب	٢.ب	٣.ب	٤.ب	٥.ج	٦.أ	٧.د	٨.أ	٩.ج	١٠.د	١١.ب

- كتاب أقسام الكمي -

SECTION77

القسم سبعة وسبعون

مسائل حسابية . هندسة . جبر . احصاء

11 سؤال

مع مفتاح الإجابات

ذاكر بذكاء ليس بجهد

BAZAID ACADEMY 2026

القسم سبعة وسبعون

١ ، في الشكل المجاور ، إذا كانت مساحة المثلث ب ج د = ٢٤ أوجد مساحة الشكل المظلل

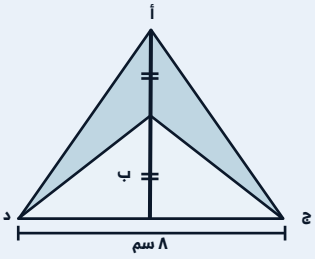

أ ٤ ب ٦
ج ٨ د ١٢

٢ إذا كانت ٧ > أ > ٣ ، ٦ > ب > ٢
أ ، ب أعداد صحيحة فاي التالي غير ممكن؟

أ أ ÷ ب = ٢ ب الأول أ x ب = ٣٢
ج أ - ب = صفر د أ + ب = ١٠

٣ ما أعلى دولة في مجموع القروض الشخصيه؟

الدولة	القروض الاستهلاكية	القروض العقارية
السعودية	٣٠	٦
قطر	٤	٢٠
الإمارات	١٧	٣٠
البحرين	١٩	١٣

أ السعودية ب قطر
ج الإمارات د البحرين

٤ ما الدولة التي قروضها العقارية أكبر من قروضها الاستهلاكية ؟

الدولة	القروض الاستهلاكية	القروض العقارية
السعودية	٣٠	٦
قطر	٤	٢٠
الإمارات	١٧	٣٠
البحرين	١٩	١٣

أ السعودية ب قطر
ج الإمارات د البحرين

٥ أوجد الحد التالي في النمط : ١ ، ٢ ، ٥ ، ١٠ ، .....

أ ١٦ ب ١٨
ج ١٧ د ٢٠

٦ في الشكل المجاور قارن بين :
القيمة الأولى : ٣س+٢ص
القيمة الثانية : ١٨٠°

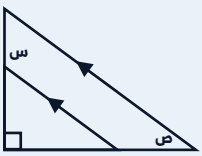

أ القيمة الأولى أكبر ب القيمة الثانية أكبر
ج القيمتان متساويتان د المعطيات غير كافية

٧ اذا كان ٢٠٪ من ربع س + ١ = ٢ فقارن بين :
القيمة الأولى : س القيمة الثانية : ١٤

أ القيمة الأولى أكبر ب القيمة الثانية أكبر
ج القيمتان متساويتان د المعطيات غير كافية

٨ إذا كانت س < الصفر ، فما النسبة المئوية للعدد $\frac{٣س}{٥٠}$ من س

أ ١٥٪ ب ١٠٪
ج ٦٪ د ٥٪

٩ أوجد قيمة : ١١^٢ - ١٠^٢

أ ١٢ ب ٢٤
ج ٢١ د ١٨

١٠ تاجر اشترى ١٨٠ برتقالة بـ ١٥٠ ريال ، وكانت عدد البرتقالات الفاسدة ٢٠ برتقالة ، وباع الغير فاسدة بـ ٨,٥ ريال لكل ٨ برتقالات ، فكم ربح التاجر؟

أ ٢٠ ب ٢٥
ج ٣٠ د ٣٢

١١ عند ضرب العدد ١٢٣٤٥ في العدد ٥٤٣٢١ ما هو العدد الذي سيكون في خانة العشرات في ناتج العملية؟

أ ٢ ب ٣
ج ٤ د ٦

الجزء القادم
نلقاكم في القسم ثمانية وسبعون
ذاكر بذكاء ليس بجهد - أكاديمية بازيد

مفاتيح الاجوبة

١. أ	٢. ب	٣. ج	٤. ب	٥. ج	٦. أ	٧. أ	٨. ج	٩. ج	١٠. أ	١١. ج

- كتاب أقسام الكمي -

SECTION78

القسم ثمانية وسبعون

مسائل حسابية . هندسة . جبر . احصاء

II سؤال

مع مفتاح الإجابات

ذاكر بذكاء ليس بجهد

BAZAID ACADEMY 2026

القسم ثمانية وسبعون

١ أوجد قيمة $\sqrt{\frac{٤^{٥}+٤^{٢}}{٤^{٢}+٤}}$

أ) $٤\sqrt{٢}$ ب) ٢٦

ج) ٢٦ د) $٢\sqrt{١٣}$

٢ ما قيمة س

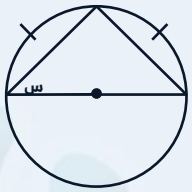

أ) ٣٠ ب) ٤٥

ج) ٦٠ د) ٩٠

٣ اذا كانت م منتصف الدائرة ونصف قطر الدائرة ٥ ، فقارن بين :
القيمة الأولى : محيط المثلث
القيمة الثانية : ٢٠



أ) القيمة الأولى أكبر ب) القيمة الثانية أكبر

ج) القيمتان متساويتان د) المعطيات غير كافية

٤ إذا كان -ا ≤ س ≤ ص ≤ ا ، ما أكبر قيمة ممكنة لـ |س - ص|

أ) ٠ ب) -ا

ج) ا د) ٢

٥ قارن بين :
القيمة الأولى : ١٥٠٠ جرام القيمة الثانية : ١,٥ كيلو جرام

أ) القيمة الأولى أكبر ب) القيمة الثانية أكبر

ج) القيمتان متساويتان د) المعطيات غير كافية

٦ إذا كان عُمر محمد أكبر من عُمر وليد ، وعُمر وليد اصغر من عُمر علي
قارن بين :
القيمة الأولى : عمر محمد القيمة الثانية : عمر علي

أ) القيمة الأولى أكبر ب) القيمة الثانية أكبر

ج) القيمتان متساويتان د) المعطيات غير كافية

٧ إذا علمت أن قطر الدائرة يساوي ٤ ، قارن بين :
القيمة الأولى : مساحة الجزء المظلل
القيمة الثانية : ٣ط



أ) القيمة الأولى أكبر ب) القيمة الثانية أكبر

ج) القيمتان متساويتان د) المعطيات غير كافية

٨ في الشكل المجاور أوجد قيمة :
١٨٠ - س - ص

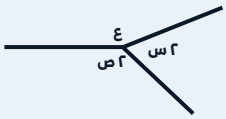

أ) $\frac{ع}{٢}$ ب) $\frac{ع}{٣}$

ج) ٣ ع د) ع

٩ في الشكل المجاور :
أوجد قيمة هـ

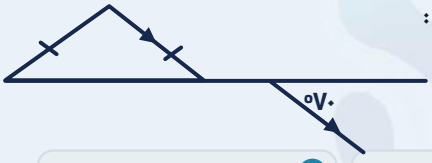

أ) ٧٠ ب) ١١٠

ج) ٤٠ د) ٦٠

١٠ الشكل المجاور مربع أوجد قيمة س

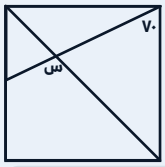

أ) ٧٠ ب) ٦٥

ج) ١١٥ د) ١٢٠

١١ في الشكل المجاور ، ما نسبة مساحة المظلل ؟

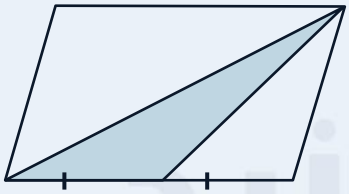

أ) $\frac{ا}{٢}$ ب) $\frac{ا}{٣}$

ج) $\frac{ا}{٤}$ د) $\frac{ا}{٨}$

الجزء القادم
نلقاكم في القسم تسعة وسبعون
ذاكر بذكاء ليس بجهد - أكاديمية بازيد

مفاتيح الاجوبة

١. د	٢. ب	٣. أ	٤. د	٥. ج	٦. د	٧. ب	٨. أ	٩. ج	١٠. ج	١١. ج

- كتاب أقسام الكمي -

SECTION79

القسم تسعة وسبعون

مسائل حسابية . هندسة . جبر . احصاء

11 سؤال

مع مفتاح الإجابات

ذاكر بذكاء ليس بجهد

BAZAID ACADEMY 2026

القسم تسعة وسبعون

١ عائلة بها ٣ أبناء يعيشون بعيدين عن منزل العائلة ، الأول يزور العائلة كل ٣ أيام ، و الثاني يزور العائلة كل ٥ أيام ، و الثالث يزور العائلة كل ٦ أيام ، فكم مرة سيتلاقون من بداية العام خلال ٦٠ يوم ؟

أ) ١ ب) ٢
ج) ٣ د) ٤

٢ ما هو الوسيط لعدد الأطفال ؟

عدد الأطفال في ٢٠ أسرة

١	٢	٢	٣	٤
٢	٤	١	٥	٣
٥	٣	٣	٥	٢
٣	٤	٣	١	٦

أ) ٣ ب) ٥
ج) ٦ د) ٨

٣ أوجد قيمة الضلع المجهول :

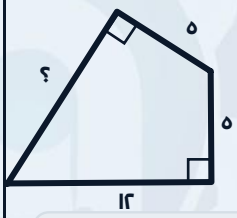

أ) ١٠ ب) ١١
ج) ١٢ د) ١٣

٤ من الجدول التالي ، في أي عام كانت الجزائر أعلى من السعودية ؟

الدول	٢٠٠٠	٢٠٠١	٢٠٠٢	٢٠٠٣
السعودية	٢،٧	٤،٢	٦،٣	٦،٥
ليبيا	١،٢	٣،١	٣،٩	٤،٤
قطر	١،٧	٤،٧	٤،٩	٥،٦
الجزائر	١،٥	٢،٠	٢،٧	٧
الكويت	١،٩	٢،٥	٣،٤	٤،١
العراق	٢،٤	٢،١	٢،٦	٣،٠
عمان	١،٣	٢،٠	٢،٨	٣،٧

أ) ٢٠٠٠ ب) ٢٠٠١
ج) ٢٠٠٢ د) ٢٠٠٣

٥ أوجد قيمة : $\frac{١٤٣٧^{٢} - ٢٠١٥^{٢}}{١٤٣٧ + ٢٠١٥} \cdot \frac{١٤٣٧^{٢} - ٢٠١٥^{٢}}{١٤٣٧ + ٢٠١٥}$

أ) ٠ ب) ٢
ج) -٢ د) -٢٢٩٢

٦ ثلاث عطور سعر الثاني نصف الاول والثالث ربع الثاني وكان مجموع الاسعار ، ١٣٠٠ أوجد قيمة العطر الأول

أ) ٢٤٠ ب) ٤٠٠
ج) ٨٠٠ د) ٣٦٠

٧ أوجد الحد السابع : ٣٥ ، ٣٨ ، ٤١ ، .....

أ) ٥١ ب) ٥٣
ج) ٥٥ د) ٥٧

٨ مربع طول قطره $٢\sqrt{٢}$ ، ودائرة تمر برؤوسه
قارن بين :
القيمة الأولى : محيط الدائرة القيمة الثانية : $١٠\sqrt{٢}$

أ) القيمة الأولى أكبر ب) القيمة الثانية أكبر
ج) القيمتان متساويتان د) المعطيات غير كافية

٩ إذا كان $٢^{س} = ٣$ فإن $٢^{٢س}$ = ...

أ) ٤ ب) ٦
ج) ٨ د) ٩

١٠ ما الزاوية التي يتحرك بها عقرب الساعات من الساعة ٢ الى الساعة ٨؟

أ) ٩٠ ب) ١٢٠
ج) ١٥٠ د) ١٨٠

١١ قارن بين :
القيمة الأولى : $(٣^{٢} \times ٢^{-١})$ دقيقة
القيمة الثانية : ثلث ساعة

أ) القيمة الأولى أكبر ب) القيمة الثانية أكبر
ج) القيمتان متساويتان د) المعطيات غير كافية

الجزء القادم
نلقاكم في القسم ثمانون
ذاكر بذكاء ليس بجهد - أكاديمية بازيد

مفاتيح الاجوبة

١.ب	٢.أ	٣.ج	٤.د	٥.أ	٦.ج	٧.ب	٨.ب	٩.د	١٠.د	١١.ب

- كتاب أقسام الكمي -

SECTION80

القسم ثمانون

مسائل حسابية . هندسة . جبر . احصاء

11 سؤال

مع مفتاح الإجابات

ذاكر بذكاء ليس بجهد

BAZAID ACADEMY 2026

القسم ثمانون

١ اوجد قيمة : ١^١ + ٢^١ + ٣^١ + ٤^١ + ... + ١٤٣٣^١

أ) ١٤٣٢ ب) ١٤٣٣ ج) ١٤٣٥ د) ١٤٣٥

٢ نقاط في المستوى الأحداثي م ، ن ، ج ، ل ، ف ، تمثل قرى إذا كانت ل تقع شرق م وغرب ن ، و ج تقع جنوب شرق ن ، و م تقع جنوب شرق ف ، فأي حرف يقع في أقصى الغرب؟

أ) ف ب) ج ج) ن د) ل

٣ قارن بين :
القيمة الاولى : المظلل بالشكل (١)
القيمة الثانية : المظلل بالشكل (٢)

الشكل (١) الشكل (٢)



أ) القيمة الأولى أكبر ب) القيمة الثانية أكبر
ج) القيمتان متساويتان د) المعطيات غير كافية

٤ قارن بين :
القيمة الأولى : عدد الدقائق من ٩:١٢ مساء الى ٩:٠٢ مساء اليوم التالي.
القيمة الثانية: ١٤٩٠ دقيقة

أ) القيمة الاولى أكبر ب) القيمة الثانية أكبر
ج) القيمتان متساويتان د) المعلومات غير كافية

٥ أ ب جـ د متوازي اضلاع ، المثلث أ ب ج متطابق الزوايا ، فأوجد محيط أ جـ ب د

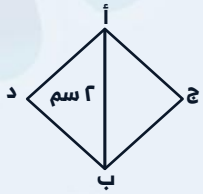

أ) ٣√٣ ب) ٨
ج) ١٢ د) ٣√٩

٦ أوجد قيمة : ١٠٠٠ - ٠.٠٠١^-٣√

أ) صفر ب) ١
ج) ١٠٠ د) ١٠٠٠

٧ اذا كانت س = ص (٣/٥)^س-ص ، س ، ص أعداد صحيحة موجبة أي القيم التالية صحيحة ؟

أ) س ص = صفر ب) س ص = ١
ج) س ص = -١ د) س ص = ٢

٨ في الشكل المجاور : مستطيل مقسم إلى مربعين متطابقين
قارن بين :
القيمة الأولى : س
القيمة الثانية : ص

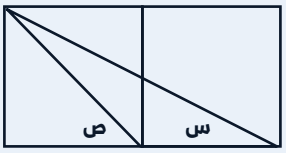

أ) القيمة الأولى أكبر ب) القيمة الثانية أكبر
ج) القيمتان متساويتان د) المعطيات غير كافية

٩ إذا كان (أ + ب + جـ + د)/٤ = ٨ ، أ + ب = ١٠
أوجد قيمة (جـ + د)/٢

أ) ٩ ب) ٧
ج) ١١ د) ٣

١٠ رسم مهندس المستطيل الصغير بمقياس رسم ١:١٩ أوجد مساحة المستطيل الكبير ؟

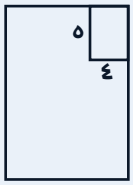

أ) ٣٨٠ ب) ٧٢٠٠
ج) ٧٢٢٠ د) ٧٣٢٠

١١ قارن من حيث المساحة
القيمة الأولى : ١
القيمة الثانية : ٢



أ) القيمة الأولى أكبر ب) القيمة الثانية أكبر
ج) القيمتان متساويتان د) المعطيات غير كافية

الجزء القادم
نلقاكم في القسم واحد وثمانون
ذاكر بذكاء ليس بجهد - أكاديمية بازيد

مفاتيح الاجوبة

١. ب	٢. أ	٣. د	٤. ب	٥. ب	٦. أ	٧. ب	٨. ب	٩. ج	١٠. ج	١١. د

- كتاب أقسام الكمي -

SECTION81

القسم واحد وثمانون

مسائل حسابية . هندسة . جبر . احصاء

11 سؤال

مع مفتاح الإجابات

ذاكر بذكاء ليس بجهد

BAZAID ACADEMY 2026

القسم واحد وثمانون

١ ما العدد الذي سدسة يساوي $\frac{٢٥}{٣}$

أ ٣٠ ب ٤٠

ج ٥٠ د ٦٠

٢ في الشكل التالي ، س بالسنتمتر تساوي :

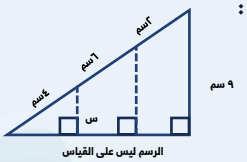

أ ٦ ب ٥

ج ٤ د ٣

٣ ماقيمة س ؟



أ القيمة الأولى أكبر ب القيمة الثانية أكبر

ج القيمتان متساويتان د المعطيات غير كافية

٤ المتوسط الحسابي لـ أ ، ١ ، ٣ ، ٢ يساوي منواله فما هي قيمة أ؟

أ ١ ب ٢

ج -١ د -٢

٥ قارن بين :
القيمة الاولى : ٨٦
القيمة الثانية : ٦٨

أ القيمة الأولى أكبر ب القيمة الثانية أكبر

ج القيمتان متساويتان د المعطيات غير كافية

٦ قطعة خشب طولها ٢٤ متر، يُراد تقطيعها إلى ٢٤ قطعة صغيرة ، كم عدد مرات تقطيعها؟

أ ٢٤ ب ٢٥

ج ٢٣ د ٢٢

٧ عدد الطلاب الحاصلين على مقبول يساوي عدد الطلاب الحاصلين على .....

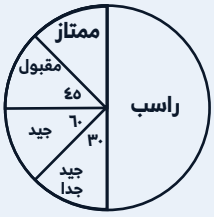

أ ممتاز ب جيد

ج جيد جدا د راسب

٨ ١٠ صناديق يوجد بها أقلام حبر و رصاص ، ٤ منهم حبر و ٥ رصاص و ٢ حبر ورصاص ، كم عدد الصناديق الفارغة ؟

أ ٢ ب ٣

ج ٤ د ٥

٩ إذا كان أ + ب = ٨ ، أ + ج = ٥ ، ب + ج = ٣ ، أوجد قيمة ج.

أ ٠ ب ١

ج ٢ د ٣

١٠ إذا تم تقسيم الشكل المجاور إلى قطع متساوية ، ما نسبة مساحة المظلل إلى الشكل؟

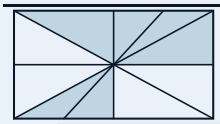

أ %٢٥ ب %٤٠

ج %٥٠ د %٦٠

١١ أي المدن في زيادة مطردة ؟

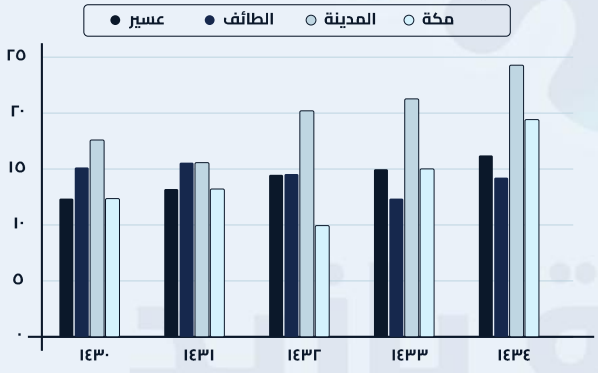

أ مكة ب المدينة

ج الطائف د عسير

الجزء القادم

نلقاكم في القسم اثنان وثمانون

ذاكر بذكاء ليس بجهد - أكاديمية بازيد

مفاتيح الاجوبة

١. ج	٢. د	٣. ب	٤. ب	٥. أ	٦. ج	٧. أ	٨. ب	٩. أ	١٠. ج	١١. د

- كتاب أقسام الكمي -

SECTION82

القسم اثنان وثمانون

مسائل حسابية . هندسة . جبر . احصاء

11 سؤال

مع مفتاح الإجابات

ذاكر بذكاء ليس بجهد

BAZAID ACADEMY 2026

القسم اثنان وثمانون

١ أربع مرايات بشكل سداسي محيط الصغرى ٦٠ سم وكل مرآة يزيد طولها عن التي قبلها بـ ٢سم، أوجد محيط المرآة الكبرى بالسنتمتر

أ) ٩٦ ب) ٨٤
ج) ١١٨ د) ٥٥

٢ حافلتان الأولى تتوقف كل ٧دقائق والثانية تتوقف كل ٤ دقائق فكم مرة ستلتقيان خلال ثلاث ساعات؟

أ) ٤ ب) ٥
ج) ٦ د) ١٠

٣ ما ترتيب المغرب العربي من حيث عدد السكان؟

المنطقة	عدد السكان (بالمليون)	المساحة (ألف كم²)	المياه المتوفرة (م³/فرد/سنة)	كمية الأمطار (مم سنويا)	المياه المتوفرة (لتر/فرد/سنة)
المشرق العربي	٢٥٦,٧	٢٨٠٠	٣٠٠	١٢٠٠	١٢٠٠٠٠
المغرب العربي	٧١,٣	٥٢٠٠	١٥٠	٩٠٠	٩٠٠٠٠
الشرق الأوسط	٢٥٠	٢٣٤٠	٢٥٠	١٥٠٠	١٥٠٠٠٠
الخليج العربي	٦٩,٦	٢٢٣٨	١٠٠	٣٠٠	٣٠٠٠٠
بقية العالم	٣١٨	١٤٨٠٠٠	٨٠٠	٧٠٠	٧٠٠٠٠٠

أ) الأول ب) الثاني
ج) الثالث د) الرابع

٤ ما هو الترتيب الثالث من حيث عدد السكان؟

المنطقة	عدد السكان (بالمليون)	المساحة (ألف كم²)	المياه المتوفرة (م³/فرد/سنة)	كمية الأمطار (مم سنويا)	المياه المتوفرة (لتر/فرد/سنة)
المشرق العربي	٢٥٦,٧	٢٨٠٠	٣٠٠	١٢٠٠	١٢٠٠٠٠
المغرب العربي	٧١,٣	٥٢٠٠	١٥٠	٩٠٠	٩٠٠٠٠
الشرق الأوسط	٢٥٠	٢٣٤٠	٢٥٠	١٥٠٠	١٥٠٠٠٠
الخليج العربي	٦٩,٦	٢٢٣٨	١٠٠	٣٠٠	٣٠٠٠٠
بقية العالم	٣١٨	١٤٨٠٠٠	٨٠٠	٧٠٠	٧٠٠٠٠٠

أ) المشرق العربي ب) المغرب العربي
ج) الشرق الأوسط د) الخليج العربي

٥ إذا كانت س^{٣} - ٨ = ٠ ، ص^{٢} -٤ = ٠ ، ع = ٨ ، أوجد قيمة س x ص x ع

أ) ٣٠ ب) ٣٢
ج) ٣٤ د) ٣٦

٦ قارن بين :

القيمة الأولى : $\sqrt{٤٣ \times ٤٣ \times ٤٣ \times ٤٣ \times ٤٣}$

القيمة الثانية : $\sqrt{٣٤ \times ٣٤ \times ٣٤ \times ٣٤ \times ٣٤}$

أ) القيمة الأولى أكبر ب) القيمة الثانية أكبر
ج) القيمتان متساويتان د) المعطيات غير كافية

٧ من الشكل المجاور ، أوجد قيمة س

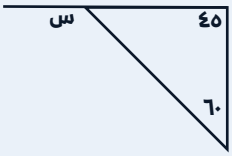

أ) ٩٠ ب) ٩٥
ج) ١٠٠ د) ١٠٥

٨ إذا كانت ن = ١٠ ، فقارن بين :
القيمة الأولى : ١٠٦ ن - ٥٠
القيمة الثانية : ١٠٠ ن - ٦

أ) القيمة الأولى أكبر ب) القيمة الثانية أكبر
ج) القيمتان متساويتان د) المعطيات غير كافية

٩ الرسم البياني يمثل كميات الوقود باللترات التي صرفتها سيارتين، كلما زادت سرعة السيارة (أ) فإن صرف الوقود؟

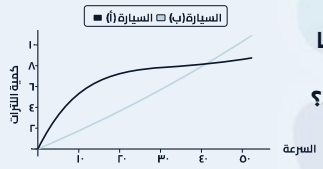

أ) متذبذب ب) يزيد
ج) ينقص د) ثابت

١٠ أوجد قيمة : $\frac{\sqrt{٣} \times \sqrt{٩} - ١٠}{\sqrt{٢} \times \sqrt{٢}}$

أ) $\sqrt{٢}$ ٢ ب) ٢
ج) $\sqrt{٤}$ ٢ د) ٨

١١ في متوازي الأضلاع المجاور ، أوجد قيمة ص

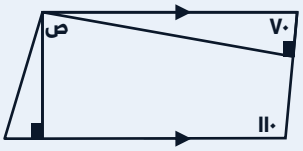

أ) ٨٠ ب) ٩٠
ج) ١١٠ د) ٧٠

الجزء القادم
نلقاكم في القسم ثلاثة وثمانون
ذاكر بذكاء ليس بجهد - أكاديمية بازيد

مفاتيح الاجوبة

١. أ	٢. ج	٣. د	٤. ج	٥. ب	٦. أ	٧. د	٨. أ	٩. ب	١٠. أ	١١. د

- كتاب أقسام الكمي -

SECTION83

القسم ثلاثة وثمانون

مسائل حسابية . هندسة . جبر . احصاء

11 سؤال

مع مفتاح الإجابات

ذاكر بذكاء ليس بجهد

BAZAID ACADEMY 2026

القسم ثلاثة وثمانون

١ مساحة الشكل = ...

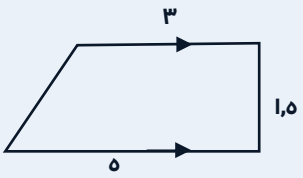

أ) ٦ ب) ٦,٥
ج) ٤ د) ٤,٥

٢ يعمل خالد الساعة مقابل ٢٠ ريال وعمل في اليوم الاول ساعتين وفي اليوم الثاني ساعتين وفي اليوم الثالث ١٥ دقيقة وفي اليوم الرابع ٢٧ دقيقة وفي اليوم الخامس من الساعة ٠٠ : ٨ إلى ١٨ : ٨ فكم ريال يأخذ خلال الخمسة أيام ؟

أ) ٨٠ ب) ١٠٠
ج) ١٢٠ د) ١٥٠

٣ المثلث أ ب جـ مثلث قائم الزاوية في أ ، فقارن بين :
القيمة الأولى أ ب + ب جـ
القيمة الثانية أ ب + أ جـ

أ) القيمة الأولى أكبر ب) القيمة الثانية أكبر
ج) القيمتان متساويتان د) المعطيات غير كافية

٤ ٩٢ ورقة نقدية من فئة ١٠٠ ، ٢٠٠ ، ٥٠٠ قسمت بنسبة على الترتيب ١١ : ٣ : ٩ ، كم مبلغ فئة ال٥٠٠ ريال؟

أ) ١٨٠٠٠ ب) ٣٠٠٠٠
ج) ٦٠٠٠٠ د) ٩٠٠٠٠

٥ نادي به ٥٠ مشترك ، ٣٠ منهم مشتركين في كرة القدم و ٣٦ مشتركين في السباحة و ٦ غير مشتركين في كرة القدم ولا السباحة ، كم عدد المشتركين في كرة القدم والسباحة؟

أ) ٠ ب) ٦
ج) ١٢ د) ٤

٦ إذا كان ، ٣س - ٤ = ٢ ، $\frac{س}{ص}$ = ٤ ، قارن بين :
القيمة الأولى : س القيمة الثانية : ص٢

أ) القيمة الأولى أكبر ب) القيمة الثانية أكبر
ج) القيمتان متساويتان د) المعطيات غير كافية

٧ شخص يكتب على الكمبيوتر الاعداد من ٥ الى ٢٠٠ ، كم مرة يضغط على ازرار الكمبيوتر ؟

أ) ٤٨٠ ب) ٤٨٨
ج) ٤٩٠ د) ٤٩٢

٨ في الشكل التالي دائرة مركزها أ ، المثلث أ ب جـ متطابق الأضلاع طول ضلعه ٦سم ، النقطتان م ، ن تنصفان ضلعيالمثلث، طول القوس م ن بالسنتمتر يساوي

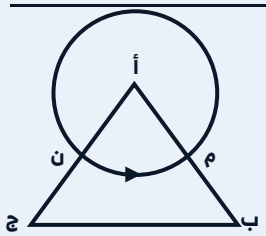

أ) ط ب) ٣ط
ج) ٦ط د) ٩ط

٩ الرسم البياني يمثل أعداد التصويت في انتخابات مجلس النواب ، ما متوسط عدد المصوتين لأقرب ألف؟

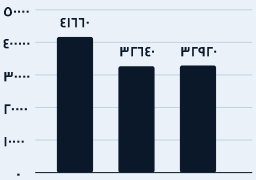

أ) ٣٣٠٠٠ ب) ٣٤٠٠٠
ج) ٣٦٠٠٠ د) ٣٧٠٠٠

١٠ ما متوسط الإنتاج في آخر ٣سنوات ؟

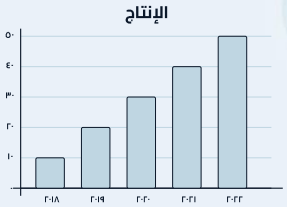

أ) ٤٠ ب) ٦٠
ج) ٨٠ د) ١٠٠

١١ ٢٨ - ١٦ ÷ (٤ x ٢) =

أ) ٨ ب) ٣٢
ج) ٦٢ د) ٩٦

الجزء القادم
نلقاكم في القسم أربعة وثمانون
ذاكر بذكاء ليس بجهد - أكاديمية بازيد

مفاتيح الاجوبة

١. أ	٢. ب	٣. أ	٤. أ	٥. ج	٦. أ	٧. ب	٨. أ	٩. ج	١٠. أ	١١. ج

- كتاب أقسام الكمي -

SECTION84

القسم أربعة وثمانون

مسائل حسابية . هندسة . جبر . احصاء

11 سؤال

مع مفتاح الإجابات

ذاكر بذكاء ليس بجهد

BAZAID ACADEMY 2026

القسم أربعة وثمانون

١ إذا اشترت سارة ١٠قطع حلوى وكانت القطعة بريالين ثم خصم لها البائع ٥٪ فكم الذي دفعته ؟

أ ١٨ ب ١٩
ج ١٧ د ١٦

٢ ما ناتج ضرب مكعبي عددين متتاليين ؟

أ ٢ ب صفر
ج ١ د ٤

٣ ثلاث اعداد متتاليه مجموعها ١٨ ما العدد الاصغر منها ؟

أ ٥ ب ٩
ج ٢ د ١

٤ حي فيه ثلاث فئات من الأشخاص، يخططون دائما، يخططون أحيانا، لا يخططون، إذا كان نسبة الأشخاص الذين يخططون دائما ٤٠٪ والذين يخططون أحيانا ٢٥٪ أوجد نسبة الذين يخططون دائما إلى الذين يخططون أحياناً

أ ٨ : ٥ ب ٥ : ٨
ج ٣ : ٢ د ٥ : ٢

٥ ما العام الذي قل عدد الخريجين عن أجمالي الاحتياج في المهن بـ ٣٪

العام	المهن الزراعية	المهن الصناعية	المهن الهندسية	إجمالي الأحتياج في هذه المهن	اعداد المتخرجين
٢٠١٠	٦٧٨	٢٨٢٥	٣١٥٧	٦٦٦٠	٦٦٦
٢٠١١	٥٠٠	٣٠٠٠	٣٥٠٠	٧٠٠٠	٣٥٠
٢٠١٢	١٠٠٠	٥٠٠٠	٤٠٠٠	١٠٠٠٠	٥٠٠
٢٠١٣	٩٠٠	٣١٠٠	٤٥٠٠	٨٥٠٠	١٧٠
٢٠١٤	١٠٤٣	٣٢٧٩	٥١٧٨	٩٥٠٠	١٩٠

أ ٢٠١١ ب ٢٠١٢
ج ٢٠١٣ د ٢٠١٤

٦ قارن بين :
القيمة الأولى : محيط خماسي منتظم طول ضلعه اسم .
القيمة الثانية : محيط دائرة طول نصف قطرها اسم .

أ القيمة الأولى أكبر ب القيمة الثانية أكبر
ج القيمتان متساويتان د المعطيات غير كافية

٧ حديقة مستطيلة الشكل، محيطها ١٨م ، فإذا كان طول الحديقة ٥م فكم مترا يبلغ عرضها ؟

أ ٤ ب ٥
ج ٨ د ١٠

٨ إذا كانت : ٣س^{٢} - ٢٣ - ٤س = س - ٢٩ + ٣س^{٢} ، أوجد قيمة س

أ ٦ ب ٥
ج ٤ د ٣

٩ قارن بين :
القيمة الأولى : ٤١ القيمة الثانية : ٧^{٢} - (٢ - ٤^{٣})

أ القيمة الأولى أكبر ب القيمة الثانية أكبر
ج القيمتان متساويتان د المعطيات غير كافية

١٠ شخص يدفع ريالين لكل ساعة او جزء منها في موقف السيارات ، اذا وقف من ٨:٠٥ وتحرك الساعة ١١:٤٥ فكم ريال سيدفع؟

أ ٧ ب ٥
ج ٩ د ٨

١١ أوجد مساحة المضلل :

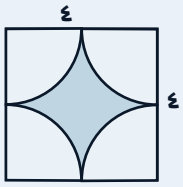

أ ١٦ - ٩ط ب ١٦ - ٤ط
ج ٣٦ - ٩ط د ١٨ - ٣ط

الجزء القادم
نلقاكم في القسم خمسة وثمانون
ذاكر بذكاء ليس بجهد - أكاديمية بازيد

مفاتيح الاجوبة

١.ب	٢.ب	٣.أ	٤.ب	٥.ج	٦.ب	٧.أ	٨.د	٩.ب	١٠.د	١١.ب

- كتاب أقسام الكمي -

SECTION85

القسم خمسة وثمانون

مسائل حسابية . هندسة . جبر . احصاء

11 سؤال

مع مفتاح الإجابات

ذاكر بذكاء ليس بجهد

BAZAID ACADEMY 2026

القسم خمسة وثمانون

١ مدرب يتقاضى ٦٠٠ريال + جوال إذا عمل ٦ساعات و ١٠٠ ريال + جوال إذا عمل ٤ ساعات ، كم سعر الجوال ؟

أ ٢٠٠ ب ٤٠٠

ج ٦٠٠ د ٨٠٠

٢ سأل يوسف صديقه إبراهيم كم نصيبك من أسهم شركتنا أجاب ابراهيم : نصيبي يقبل القسمة على ٩ ، ١١ ، ١٣ بدون باقي ، ما نصيب إبراهيم إذا كان مجموع أسهم الشركة ٢٠٠٠٠ ؟

أ ١٢٨٧ ب ٧١٣

ج ١٥٣٢١ د ١٤٥٧

٣ أوجد الحد التالي في المتتابعة $\frac{١}{٥}$ ، $\frac{٣}{٥}$ ، ١ ، $\frac{٧}{٥}$ .....

أ $١\frac{٤}{٥}$ ب $١\frac{٣}{٥}$

ج $١\frac{٢}{٥}$ د $١\frac{١}{٥}$

٤ $\frac{٤٣ \times ٢٩}{٢٣}$ = ...

أ ٢٢٣ ب ٢٤٣

ج ٢٦٣ د ٢٨٣

٥ إذا كانت م < ن < صفر ، قارن بين :
القيمة الأولى : م + ن القيمة الثانية : م ن

أ القيمة الأولى أكبر ب القيمة الثانية أكبر

ج القيمتان متساويتان د المعطيات غير كافية

٦ أوجد س + ص

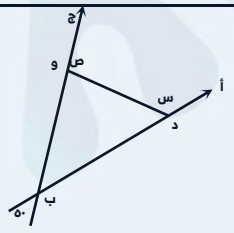

أ ٢٢٠ ب ٢٣٠

ج ١٨٠ د ٢٧٠

٧ اذا كان الشكل مستطيل ومساحته ٤٨ أوجد احداثيات النقطة (ب)

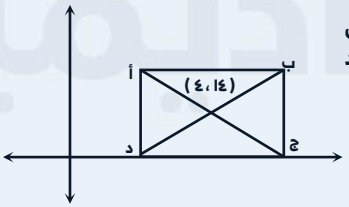

أ (٤،١٢) ب (٤،١٤)

ج (٦،١٢) د (٦،١٤)

٨ قارن بين :
-القيمة الاولى : مساحه المثلث التي بداخل المربع
-القيمة الثانية : مساحة المثلث التي بداخل المستطيل

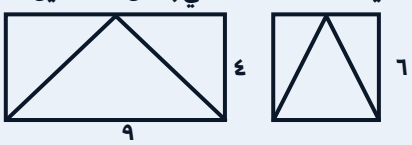

أ القيمة الأولى أكبر ب القيمة الثانية أكبر

ج القيمتان متساويتان د المعطيات غير كافية

٩ ما السنة التي تقل بـ ٩ملايين عن سنة ١٤٣٠هـ؟

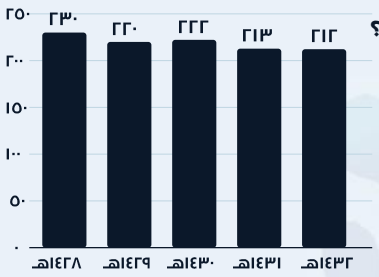

أ ١٤٢٩ هـ ب ١٤٣١ هـ

ج ١٤٣٢ هـ د ١٤٢٨ هـ

١٠ ما العام الذي فيه أكبر فرق بين الحجاج الداخل و الخارج ؟

العام	حجاج الداخل	حجاج الخارج
١٤٣٠	٦٠٠٠٠٠	١٢٠٠٠٠٠
١٤٣١	٧٠٠٠٠٠	١١٠٠٠٠٠
١٤٣٢	٦٠٠٠٠٠	١٠٠٠٠٠٠
١٤٣٣	٧٠٠٠٠٠	١٠٠٠٠٠٠
١٤٣٤	٩٠٠٠٠٠	١٣٠٠٠٠٠

أ ١٤٣٠ ب ١٤٣١

ج ١٤٣٢ د ١٤٣٣

١١ إذا كانت ن = -٢ ، ن > صفر ، أي القيم التالية أكبر ؟

أ ن ب ن٢

ج ن٢ د ن٣

الجزء القادم

نلقاكم في القسم ستة وثمانون

ذاكر بذكاء ليس بجهد - أكاديمية بازيد

مفاتيح الاجوبة

١.ج	٢.أ	٣.أ	٤.ج	٥.د	٦.ب	٧.د	٨.ج	٩.ب	١٠.أ	١١.ج

- كتاب أقسام الكمي -

SECTION86

القسم ستة وثمانون

مسائل حسابية . هندسة . جبر . احصاء

11 سؤال

مع مفتاح الإجابات

ذاكر بذكاء ليس بجهد

BAZAID ACADEMY 2026

القسم ستة وثمانون

١ اي مما يلي ليس عدد أولي ؟

أ ٧٧ ب ٨٩

ج ٣٧ د ٥٣

٢ ١٥ قلم كل قلم سعره ريالين إذا خصم ١٠٪ من سعر الأقلام ، كم سيكون السعر النهائي الأقلام؟

أ ٤١ ب ٣٨

ج ٢٧ د ٣٥

٣ $\frac{٦٦٦}{٣٣٣} \left(\frac{٤٤٤}{٥٥٥} \div \frac{٤٤٤}{٥٥٥} \right)$

أ ٢ ب -٢

ج ٦٦٦ د ٣٣٣

٤ فستان اذا اضفنا اليه ٥٠٠ ريال اصبح يساوي ٥ امثال قيمه الفستان مطروح منه ٩٠٠ ريال فكم قيمة الفستان ؟

أ ٣٠٠ ب ٣٥٠

ج ٤٠٠ د ٤٥٠

٥ رسوم مدرسة زادت ٢٠% وكان سعرها قبل الزيادة ١٠٠٠٠ ، ويوجد تخفيض للأخوة ٥% ، فكم الرسوم للأخوين؟

أ ٢٤٠٠٠ ب ٢١٤٠٠

ج ٢٢٨٠٠ د ١١٤٠٠

٦ قارن بين :
القيمة الأولى : $\frac{١}{٥}$ القيمة الثانية : $\frac{١}{٢٥}$

أ القيمة الأولى أكبر ب القيمة الثانية أكبر

ج القيمتان متساويتان د المعطيات غير كافية

٧ إذا كانت الزاويتان ٦س ، ٤س - ٢٠ متكاملتان، أوجد قيمة س

أ ١٢ ب ١٦

ج ١٨ د ٢٠

٨ ما نسبة مساحة المثلث أ هـ ج إلى مساحة الشكل :

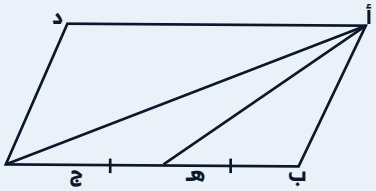

أ $\frac{١}{٢}$ ب $\frac{١}{٣}$

ج $\frac{١}{٤}$ د $\frac{١}{٨}$

٩ قارن بين :
القيمة الأولى : الزاوية الداخلية للسداسي المنتظم
القيمة الثانية : ١٢٠

أ القيمة الأولى أكبر ب القيمة الثانية أكبر

ج القيمتان متساويتان د المعطيات غير كافية

١٠ ما المنطقة التي تمتلك أعلى نسبة مياه متوفرة لكل فرد؟

الدول	عدد السكان	المياه المتوفرة
المشرق العربي	٢٥٦,٧	٢٦٣
المغرب العربي	٧١,٣	٢٥٢
الشرق الأوسط	٦٢,٤	٣٢٤
الخليج العربي	٦٩,٨	٢٢٨

أ المشرق العربي ب المغرب العربي

ج الشرق الأوسط د الخليج العربي

١١ ما ترتيب المغرب العربي من حيث عدد السكان؟

المنطقة	عدد السكان (بالمليون)	المساحة (ألف كم²)	المياه المتوفرة (م³/فرد/سنة)	كمية الأمطار (مم سنويا)	المياه المتوفرة (لتر/فرد/سنة)
المشرق العربي	٢٥٦,٧	٢٨٠٠	300	١٢٠٠	١٢٠٠٠٠٠
المغرب العربي	٧١,٣	٥٢٠٠	١٥٠	٩٠٠	٩٠٠٠٠٠
الشرق الأوسط	٢٥٠	٢٣٤٠	٢٥٠	١٥٠٠	١٥٠٠٠٠٠
الخليج العربي	٦٩,٦	٢٢٣٨	١٠٠	٣٠٠	٣٠٠٠٠٠
بقية العالم	٣١٨	١٤٨٠٠٠	٨٠٠	٧٠٠	٧٠٠٠٠٠٠

أ الأول ب الثاني

ج الثالث د الرابع

الجزء القادم

نلقاكم في القسم سبعة وثمانون

ذاكر بذكاء ليس بجهد - أكاديمية بازيد

مفاتيح الاجوبة

١. أ	٢. ج	٣. أ	٤. ب	٥. ج	٦. أ	٧. د	٨. ج	٩. ج	١٠. ج	١١. د

- كتاب أقسام الكمي -

SECTION87

القسم سبعة وثمانون

مسائل حسابية . هندسة . جبر . احصاء

11 سؤال

مع مفتاح الإجابات

ذاكر بذكاء ليس بجهد

BAZAID ACADEMY 2026

القسم سبعة وثمانون

١ الشكل التالي يمثل دائرتان متحدتا المركز، ما الفرق بين محيط الدائرتين؟

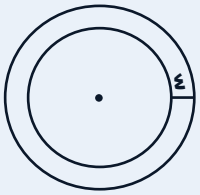

أ) ٢ط
ب) ٤ط
ج) ٦ط
د) ٨ط

٢ إذا كان $\sqrt{٢٠} \times \sqrt{٥} = ٢ \times ٥$ أوجد قيمة $\sqrt{٣٢} + \sqrt{٥}$

أ) $٢\sqrt{٥}$
ب) $٤\sqrt{٥}$
ج) $٣\sqrt{٥}$
د) $٥\sqrt{٥}$

٣ $\frac{١}{٣}$

أ) ٣٣%
ب) $\frac{١}{٣}$ ٣٣%
ج) $\frac{١}{٣}$
د) ٣٣,٣%

٤ قارن بين :
القيمة الأولى : $٤^{٥}$
القيمة الثانية : $٤ \times ٤ \times ٤ \times ٤ \times ٤$

أ) القيمة الأولى أكبر
ب) القيمة الثانية أكبر
ج) القيمتان متساويتان
د) المعطيات غير كافية

٥ إذا كان ن عدد طبيعي ، أوجد متوسط :
ن ، ن + ٢ ، ن + ١٠

أ) ٣ن +٤
ب) ٣ن +١٢
ج) ن + ٥
د) ن + ٤

٦ إذا كان المسافة من س إلى ص = ١٢ والمسافات بينهما متساوية ، قارن بين :
القيمة الأولي : ٣
القيمة الثانية : س ل



أ) القيمة الأولى أكبر
ب) القيمة الثانية أكبر
ج) القيمتان متساويتان
د) المعطيات غير كافية

٧ قارن بين :
القيمة الأولى : ٤٠% من ٦٠
القيمة الثانية : ٦٠% من ٤٠

أ) ١٢
ب) ١٦
ج) ١٨
د) ٢٠

٨ هناك نقطتان أ ، ج قطع خالد نصف المسافة بين أ ، ج في دقيقة و قطع ثلثي المتبقي في دقيقتين وتبقى له ٤٠متر ، ما المسافة بين النقطتين أ ، ج ؟

أ) ٢٤٠
ب) ١٦٠
ج) ٢٠٠
د) ٨٠

٩ س + ٢ص = ٢٢ ، س = ٢
قارن بين :
القيمة الأولى : ١٢
القيمة الثانية : $\frac{س+ص}{١٢}$

أ) القيمة الأولى أكبر
ب) القيمة الثانية أكبر
ج) القيمتان متساويتان
د) المعطيات غير كافية

١٠ ما الفئة العمرية التي تمثل مع فئة مع (من ١١ الى ١٥) ٣٤٪ من الاجمالي تقريبا ؟

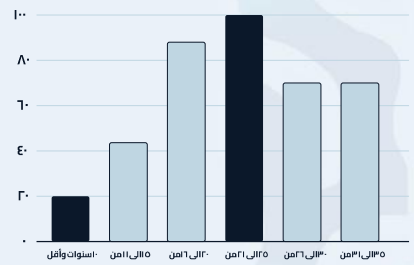

أ) ١٠ سنوات و أقل
ب) من ١٦ الى ٢٠
ج) من ٢١ الى ٢٥
د) من ٣١ الى ٣٥

١١ يمثل الرسم البياني أعمار مجموعة من الأشخاص، ما النسبة المئوية للأعمار من ١٠ إلى ٢٥ ؟

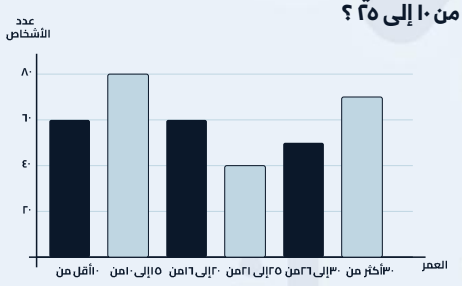

أ) ٤٠%
ب) ٥٠%
ج) ٦٠%
د) ٧٠%

الجزء القادم
نلقاكم في القسم ثمانية وثمانون
ذاكر بذكاء ليس بجهد - أكاديمية بازيد

مفاتيح الاجوبة

١. د	٢. ج	٣. ب	٤. ب	٥. د	٦. ب	٧. ج	٨. أ	٩. أ	١٠. ب	١١. ب

- كتاب أقسام الكمي -

SECTION88

القسم ثمانية وثمانون

مسائل حسابية . هندسة . جبر . احصاء

11 سؤال

مع مفتاح الإجابات

ذاكر بذكاء ليس بجهد

BAZAID ACADEMY 2026

القسم ثمانية وثمانون

١ إذا كان ٢ن + ٢ن + ٢ن +٢ن = ٢^٨ ما قيمة ن؟

أ ٢ | ب ٤
ج ٦ | د ٨

٢ حي فيه ثلاث فئات من الأشخاص، يخططون دائما، يخططون أحيانا، لايخططون، إذا كان نسبة الأشخاص الذين يخططون دائما ٤٠٪ والذين يخططون أحيانا ٢٥٪ أوجد نسبة الذين يخططون دائما إلى الذين يخططون أحياناً

أ ٨ : ٥ | ب ٥ : ٨
ج ٣ : ٢ | د ٥ : ٢

٣ ما العام الذي قل عدد الخريجين عن أجمالي الاحتياج في المهن بـ ٣٪

العام	المهن الزراعية	المهن الصناعية	المهن الهندسية	إجمالي الاحتياج في هذه المهن	أعداد المتخرجين
٢٠١٠	٦٧٨	٢٨٢٥	٣١٥٧	٦٦٦٠	٦٦٦
٢٠١١	٥٠٠	٣٠٠٠	٣٥٠٠	٧٠٠٠	٣٥٠
٢٠١٢	١٠٠٠	٥٠٠٠	٤٠٠٠	١٠٠٠٠	٥٠٠
٢٠١٣	٩٠٠	٣١٠٠	٤٥٠٠	٨٥٠٠	١٧٠
٢٠١٤	١٠٤٣	٣٢٧٩	٨١٧٨	٩٥٠٠	١٩٠٠

أ ٢٠١١ | ب ٢٠١٢
ج ٢٠١٣ | د ٢٠١٤

٤ حديقة مستطيلة الشكل ، محيطها ١٨م ، فإذا كان طول الحديقة ٥م فكم مترا يبلغ عرضها ؟

أ ٤ | ب ٥
ج ٨ | د ١٠

٥ قارن بين :
القيمة الأولى : محيط خماسي منتظم طول ضلعه ١ سم .
القيمة الثانية : محيط دائرة طول نصف قطرها ١ سم .

أ القيمة الأولى أكبر | ب القيمة الثانية أكبر
ج القيمتان متساويتان | د المعطيات غير كافية

٦ إذا كانت : ٣س^٢ -٢٣ -٤س = س - ٢٩ + ٢س^٢ ،
اوجد قيمة س

أ ٦ | ب ٥
ج ٤ | د ٣

٧ قارن بين :
القيمة الأولى : ٤١ | القيمة الثانية : ٢٧ - (٢ - ٣٤)

أ القيمة الأولى أكبر | ب القيمة الثانية أكبر
ج القيمتان متساويتان | د المعطيات غير كافية

٨ شخص يدفع ريالين لكل ساعة او جزء منها في موقف السيارات، اذا وقف من ٨:٠٥ وتحرك الساعة ١١:٤٥ فكم ريال سيدفع؟

أ ٧ | ب ٥
ج ٩ | د ٨

٩ أوجد مساحة المظلل :

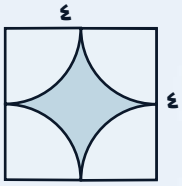

أ ١٦ - ٩ط | ب ١٦ - ٤ط
ج ٣٦ - ٩ط | د ١٨ - ٣ط

١٠ مكعب طول حرفه ٢س، ما مساحة أوجهه ؟

أ ١٢س^٢ | ب ٢٠س^٢
ج ٢٤س^٢ | د ٤٢س^٢

١١ ما مجموع الأعداد الصحيحة من ١ إلى ٢٠ ؟

أ ١٨٠ | ب ٢٠٠
ج ٢١٠ | د ٢٤٠

الجزء القادم
نلقاكم في القسم تسعة وثمانون
ذاكر بذكاء ليس بجهد - أكاديمية بازيد

مفاتيح الاجوبة

١. ج	٢. ب	٣. ج	٤. أ	٥. ب	٦. د	٧. ب	٨. د	٩. ب	١٠. ج	١١. ج

- كتاب أقسام الكمي -

SECTION89

القسم تسعة وثمانون

مسائل حسابية . هندسة . جبر . احصاء

11 سؤال

مع مفتاح الإجابات

ذاكر بذكاء ليس بجهد

BAZAID ACADEMY 2026

القسم تسعة وثمانون

١ في الشكل المجاور إسطوانة مملوءة بعصير، قارن بين :
القيمة الأولى : كمية العصير
القيمة الثانية : ٧٥٠

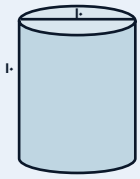

أ القيمة الأولى أكبر
ب القيمة الثانية أكبر
ج القيمتان متساويتان
د المعطيات غير كافية

٢ قارن بين :
القيمة الأولى : ١٥٠٠جرام
القيمة الثانية : ١,٥كيلو جرام

أ القيمة الأولى أكبر
ب القيمة الأولى أكبر
ج القيمتان متساويتان
د المعطيات غير كافية

٣ في الشكل المجاور: مستطيل محيطه = ٢٠ ، ومساحته = ٢٤ وجميع الدوائر متطابقة أوجد طول قطر الدائرة

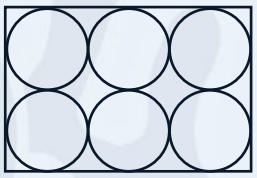

أ ١٠
ب ٢
ج ١٢
د ٤

٤ سيارتان انطلقوا في نفس الوقت ، الاولى انطلقت من المدينة أ الى المدينة ب بسرعة ١٢٠كلم/س ، و الثانية أنطلقت من المدينة ب الى المدنية أ بسرعة ٩٠كلم/س ، بعد كم دقيقة تلتقي السيارتان علما أن المسافة بين المدينتين ٤٢٠كلم؟

أ ٦٠
ب ٩٠
ج ١٠٥
د ١٢٠

٥ إذا كان $س^{٢} - ص^{٢} = ل$ ، س + ص = م أوجد قيمة س - ص

أ ل م
ب ل + م
ج $\frac{ل}{م}$
د $\frac{م}{ل}$

٦ ما عدد المئات في العدد : ٧٩٦٣٥؟

أ ٧٩٦
ب ٩٦
ج ٦٣
د ٦

٧ قارن بين :
القيمة الأولى : $\frac{٤}{٥} + \frac{٤}{٥}$
القيمة الثانية : ١٠٢

أ القيمة الأولى أكبر
ب القيمة الثانية أكبر
ج القيمتان متساويتان
د المعطيات غير كافية

٨ قارن بين :
القيمة الأولى : ١٢٠% من ٣٥
القيمة الثانية : ٣٥% من ١٢٠

أ القيمة الأولي أكبر
ب القيمة الثانية اكبر
ج القيمتان متساويتان
د المعطيات غير كافية

٩ من الشكل المجاور ما نسبة مساحة الدائرة الصغرى الى نسبة مساحة الدائرة الكبرى

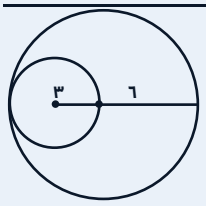

أ ٦:٤
ب ٤:١
ج ٨:٣
د ٣:٢

١٠ ما الدرجة التي حصل عليها أكبر عدد من الطلاب ؟



أ ٣
ب ٤
ج ٥
د ٦

١١ أعطى رجل لعاملين مبلغين من المال بنسب ٥ : ٦وكان الفرق بينهما ٢٠٠ ريال فكم المبلغ الكلي ؟

أ ١٢٠٠
ب ١٦٠٠
ج ٢٢٠٠
د ٢٤٠٠

الجزء القادم
نلقاكم في القسم تسعون
ذاكر بذكاء ليس بجهد - أكاديمية بازيد

مفاتيح الاجوبة

١. أ	٢. ج	٣. ب	٤. د	٥. ج	٦. أ	٧. ب	٨. ج	٩. ب	١٠. د	١١. ج

- كتاب أقسام الكمي -

SECTION90

القسم تسعون

مسائل حسابية . هندسة . جبر . احصاء

11 سؤال

مع مفتاح الإجابات

ذاكر بذكاء ليس بجهد

BAZAID ACADEMY 2026

القسم تسعون

١ في الشكل المجاور حجر حائط، إذا كانت تكلفة الحجر ١٠ ريال لكل سم٢ ، فكم تكلفة الحجر المجاور بالريالات؟



أ ١٥ ب ٢٢
ج ٣٣ د ٦٦

٢ أوجد قيمة المقدار : (١١)٢ - (١٠)٢

أ ٢٠ ب ٢١
ج ٢٢ د ٢٤

٣ في الشكل المجاور قارن بين :
القيمة الأولى : ٣س+٢ص
القيمة الثانية : ١٨٠



أ القيمة الأولى أكبر ب القيمة الثانية أكبر
ج القيمتان متساويتان د المعطيات غير كافية

٤ عند ضرب العدد ١٢٣٤٥ في العدد ٥٤٣٢١ ما هو العدد الذي سيكون في خانة العشرات في ناتج العملية؟

أ ٢ ب ٣
ج ٤ د ٦

٥ إذا كان س٢ - ص٢ = ل ، س + ص = م أوجد قيمة س - ص

الحافلة	المسافة	اجرة السائق	التكلفة
الأولى	١٠٠٠	٦٠٠	١١٠٠
الثانية	١٨٠٠	٤٠٠	١١٥٠
الثالثة	١٥٠٠	٥٠٠	١٢٥٠
الرابعة	١٢٠٠	٥٠٠	١٥٠٠

أ الأولى ب الثانية
ج الثالثة د الرابعة

٦ ما الدولة التي بها أعلى القروض؟

الدولة	القروض الاستهلاكية	القروض العقارية
السعودية	٢٧٦	٨٦
قطر	٢٥٠	١٨٥
الإمارات	٢٧٢	٢٥٦
البحرين	٢٤٢	١٧٥

أ السعودية ب قطر
ج الإمارات د البحرين

٧ تاجر اشترى ١٨٠ برتقالة بـ ١٥٠ ريال ، وكانت عدد البرتقالات الفاسدة ٢٠ برتقالة ، وباع الغير فاسدة بـ ٨,٥ ريال لكل ٨ برتقالات ، فكم ربح التاجر ؟

أ ٢٠ ب ٢٥
ج ٣٠ د ٣٢

٨ اذا كان ٢٠٪ من ربع (س + ١) = ٢ فقارن بين :
القيمة الأولى : س
القيمة الثانية : ١٤

أ القيمة الأولي أكبر ب القيمة الثانية اكبر
ج القيمتان متساويتان د المعطيات غير كافية

٩ أي دولة فيها القروض العقارية أكبر من الاستهلاكية؟

الدولة	القروض الاستهلاكية	القروض العقارية
السعودية	٢٧٦	٨٦
قطر	٢٤	٣٦
الإمارات	٢٧٢	٢٥٦
البحرين	١٧	٧

أ السعودية ب قطر
ج الإمارات د البحرين

١٠ إذا كان ٣ < أ < ٧ ، ٢ < ب < ٦ حيث أ و ب أعداد صحيحة ، أي الآتي خاطئ ؟

أ أ + ب > ١٣ ب أ x ب = ٣٢
ج أ + ب > ٥ د أ x ب > ٤٢

١١ إذا كانت س < الصفر ، فما النسبة المئوية للعدد $\frac{٣س}{٥٠}$ من س

أ ١٥٪ ب ١٠٪
ج ٦٪ د ٥٪

الجزء القادم
نلقاكم في القسم واحد وتسعون
ذاكر بذكاء ليس بجهد - أكاديمية بازيد

مفاتيح الاجوبة

١	٢	٣	٤	٥	٦	٧	٨	٩	١٠	١١
ج	ب	أ	ج	ب	ج	أ	أ	ب	ب	ج

- كتاب أقسام الكمي -

SECTION91

القسم واحد وتسعون

مسائل حسابية . هندسة . جبر . احصاء

11 سؤال

مع مفتاح الإجابات

ذاكر بذكاء ليس بجهد

BAZAID ACADEMY 2026

القسم واحد وتسعون

١ أكمل النمط التالي : ٢ ، ٣ ، ٥ ، ٨ ، ١٢ ، .....

أ) ١٢ ب) ١٧
ج) ١٩ د) ٢٠

٢ أحمد وخالد مجموع كتبهم ٨٥٠و خالد يزيد عن أحمد بمقدار ١٥٠كم عدد الكتب التي مع احمد ؟

أ) ١٠٠ ب) ٢٥٠
ج) ٣٥٠ د) ٤٠٠

٣ ما الفرق بين أصغر عدد فردي مكون من ٣ أرقام وأكبر عدد زوجي مكون من رقمين؟

أ) ٦ ب) ٩
ج) ٢٠ د) ٣

٤ في الشكل التالي، أوجد قيمة س



أ) ٣٠ ب) ٤٠
ج) ٥٠ د) ٦٠

٥ سيارتان انطلقوا في نفس الوقت ، الأولى انطلقت من المدينة أ إلى المدينة ب بسرعة ١٢٠كلم/س ، و الثانية انطلقت من المدينة ب إلى المدنية أ بسرعة ٩٠كلم/س ، بعد كم دقيقة تلتقي السيارتان علماً أن المسافة بين المدينتين ٤٢٠كلم؟

أ) ٦٠ ب) ٩٠
ج) ١٠٥ د) ١٢٠

٦ إذا أجاب طالب على ٣٠سؤال في الاختبار وهي تمثل ٦٠٪ كم عدد الأسئلة التي لم يجب عنها ؟

أ) ١٠ ب) ١٥
ج) ٢٠ د) ٣٠

٧ أوجد قيمة س :

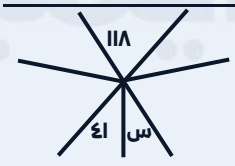

أ) ٦٢ ب) ٨٢
ج) ٤٨ د) ٧٧

٨ قارن بين :
القيمة الأولى: طول أب
القيمة الثانية: طول ب ج

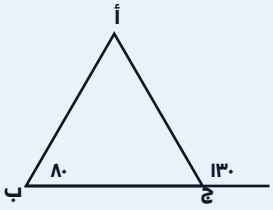

أ) القيمة الأولى أكبر ب) القيمة الثانية أكبر
ج) القيمتان متساويتان د) المعطيات غير كافية

٩ في أي عام كان معدل التضخم في دول اليورو أكبر من دول مجلس التعاون ؟

	٢٠٠٣	٢٠٠٤	٢٠٠٥	٢٠٠٦	٢٠٠٧
البحرين	٠,٧	٢,٤	٢,٨	٢,٩	٢,٩
السعودية	١,١	٢,١	٢,٢	١,٤	١,٣
قطر	١,٢	١	٢,١	٢,٤	١,٦
الكويت	١,١	١,٢	١,١	١,٥	١,٧
الامارات	٢,٧	٢,٣	٢,٥	١,٨	١,٩
مجلس التعاون	١,٦	٢,٤	٢,٦	٢,٨	٢,٩
دول اليورو	٢,٢	٢,٣	٢,١	٢,٣	٢,٥

أ) السعودية ب) البحرين
ج) الامارات د) قطر

١٠ في الجدول السابق ما الدولة التي ثبت فيها معدل التضخم في عامين متتالين؟

	٢٠٠٣	٢٠٠٤	٢٠٠٥	٢٠٠٦	٢٠٠٧
البحرين	٠,٧	٢,٤	٢,٨	٢,٩	٢,٩
السعودية	١,١	٢,١	٢,٢	١,٤	١,٣
قطر	١,٢	١	٢,١	٢,٤	١,٦
الكويت	١,١	١,٢	١,١	١,٥	١,٧
الامارات	٢,٧	٢,٣	٢,٥	١,٨	١,٩
مجلس التعاون	١,٦	٢,٤	٢,٦	٢,٨	٢,٩
دول اليورو	٢,٢	٢,٣	٢,١	٢,٣	٢,٥

أ) السعودية ب) البحرين
ج) الامارات د) قطر

١١ في الشكل المجاور، ما اجمالي الاستهلاك يوم الثلاثاء ؟



أ) ١٠ ب) ٢٥
ج) ١٥ د) ٣٠

الجزء القادم
نلقاكم في القسم اثنان وتسعون
ذاكر بذكاء ليس بجهد - أكاديمية بازيد

مفاتيح الاجوبة

١.ب	٢.ج	٣.د	٤.أ	٥.د	٦.ج	٧.د	٨.ج	٩.أ	١٠.ب	١١.ب

- كتاب أقسام الكمي -

SECTION92

القسم اثنان وتسعون

مسائل حسابية . هندسة . جبر . احصاء

11 سؤال

مع مفتاح الإجابات

ذاكر بذكاء ليس بجهد

BAZAID ACADEMY 2026

القسم اثنان وتسعون

١ يخطط أحمد لإحاطة حديقة مستطيلة الشكل باستعمال سياج طوله $٤٥\frac{٣}{٤}$ متر فإذا كان عرض الحديقة $١٠\frac{١}{٢}$م فما طولها؟

أ) $١٢\frac{٣}{١٨}$ ب) $١٢\frac{١}{٤}$

ج) $١٧\frac{١}{٢}$ د) $١٢\frac{٣}{٨}$

٢ أوجد قيمة : $\frac{٣}{٢} + (\frac{٧}{٤} \times \frac{١}{٧}) - (\frac{٥}{٤} \times \frac{٢}{٥}) - \frac{٧}{٤}$

أ) $-\frac{١}{٢}$ ب) $\frac{١}{٢}$

ج) ١ د) صفر

٣ أوجد نسبة الزيادة بين عامي ١٤٣٠ الى عام ١٤٣٣؟

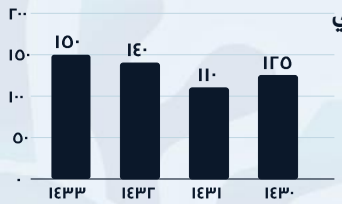

أ) ٢٠% ب) ٢٥%

ج) ١٠% د) ١٥%

٤ أوجد قيمة : $|٤ + ٢ - |-٦||$

أ) ٨- ب) صفر

ج) ٤ د) ٨

٥ عمر محمد بعد ١٠سنوات يساوي مثلي عمره قبل عشرين سنة فما عمره الآن ؟

أ) ٥٠ ب) ٤٠

ج) ٣٥ د) ٦٠

٦ أوجد قيمة : ١٦٠ x ٦٢.٥%

أ) ١١٠ ب) ١٠٠

ج) ٩٠ د) ٨٠

٧ إذا كان هناك إناءان الأول أكبر حجماً من الثاني
قارن بين :
القيمة الأولى : مساحة سطح الأول
القيمة الثانية : مساحة سطح الثاني

أ) القيمة الأولى أكبر ب) القيمة الثانية أكبر

ج) القيمتان متساويتان د) المعطيات غير كافية

٨ في الشكل المجاور دائرتين متحدتين بالمركز ، مساحة الدائرة الصغرى ٣٦ط ، أوجد مساحة الدائرة الكبرى

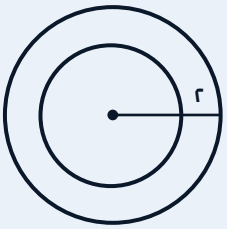

أ) ٤ط ب) ٣٢ط

ج) ٦٤ط د) المعطيات غير كافية

٩ رجل لديه ٨٨ ألف ريال ، لديه ٤ بنات و ٩ أولاد وزوجة ، والزوجة لها الثمن ، والولد مثليي البنت ، فكم نصيب البنت الواحدة؟

أ) ٣٥٠٠ ب) ٣٨٠٠

ج) ٤٤٠٠ د) ٥٢٠٠

١٠ إذا كان سعر ٤ حبات خبز بـ ٦ريال ، أوجد مبيعات الخبز في شهر شوال

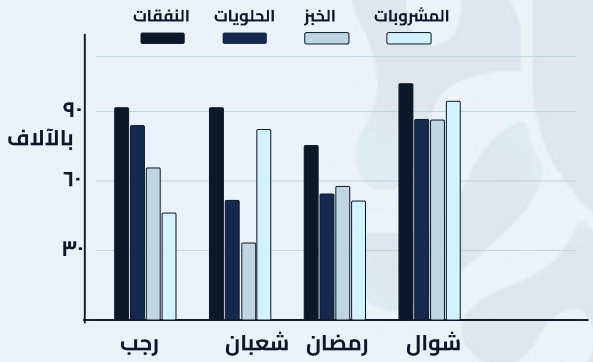

أ) ٨٠٠٠ ب) ٩٠٠٠

ج) ١٠٠٠٠ د) ١٢٠٠٠

١١ إذا كان يوجد اشتراك جوال أول عشر دقائق الدقيقة بـ ٠,٤ريال ، و بعد عشر دقائق الدقيقة بـ ٠,٢ريال فكم ريالاً في الساعة ؟

أ) ١٠ ب) ١٢

ج) ١٤ د) ٢٠

الجزء القادم

نلقاكم في القسم ثلاثة وتسعون

ذاكر بذكاء ليس بجهد - أكاديمية بازيد

مفاتيح الاجوبة

١.د	٢.أ	٣.أ	٤.د	٥.أ	٦.ب	٧.د	٨.ج	٩.أ	١٠.د	١١.ج

- كتاب أقسام الكمي -

SECTION93

القسم ثلاثة وتسعون

مسائل حسابية . هندسة . جبر . احصاء

11 سؤال

مع مفتاح الإجابات

ذاكر بذكاء ليس بجهد

BAZAID ACADEMY 2026

القسم ثلاثة وتسعون

١ إذا كان أ : ب = ٥ : ٨ ، أ = ٢٠ ص ، أوجد قيمة (أ + ب) بدلالة ص

أ) ٣٢ص
ب) ٢٦ص
ج) ٤٠ص
د) ٥٢ص

٢ ما متوسط أول ثلاث سنوات ؟

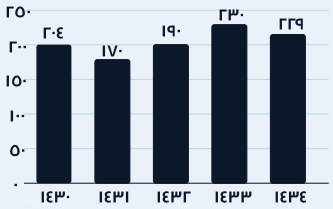

أ) ١٨٠
ب) ١٨٥
ج) ١٨٨
د) ٢٠٠

٣ قارن بين :
القيمة الأولى : ٣صفر
القيمة الثانية : (-٢)١ + (١)٢

أ) القيمة الأولى أكبر
ب) القيمة الثانية أكبر
ج) القيمتان متساويتان
د) المعطيات غير كافية

٤ ما العدد الذي إذا ضرب في ٦ ثم طرح من ناتج الضرب ٩ أصبح الناتج ٣٩؟

أ) ٦
ب) ٨
ج) ١٠
د) ١٦

٥ في الشكل المجاور مساحة المربع = ٤ ، أوجد مساحة الدائرة ؟

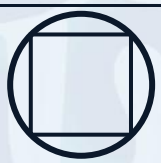

أ) ٢ط
ب) ٣ط
ج) ٤ط
د) ٥ط

٦ في الشكل المجاور أوجد طول أ ب؟

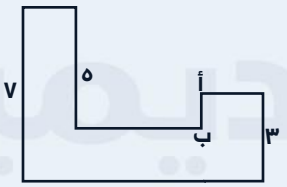

أ) ٤
ب) ٣
ج) ٢
د) ١

٧ يكفي نصف كيلوجرام من البن لإعداد القهوة لـ ٢٠شخص فإذا كان لدينا ٢كيلو جرام من البن، فكم شخصاً يمكن إعداد القهوة لهم ؟

أ) ٢٠
ب) ٤٠
ج) ٦٠
د) ٨٠

٨ قارن بين :
القيمة الاولى : ٨٦
القيمة الثانية : ٦٨

أ) القيمة الأولى أكبر
ب) القيمة الثانية أكبر
ج) القيمتان متساويتان
د) المعطيات غير كافية

٩ ما عدد المئات في العدد : ٧٩٦٣٥؟

أ) ٧٩٦
ب) ٩٦
ج) ٦٣
د) ٦

١٠ ما أكثر حرف يوجد فيه أخطاء؟

صحيح / خطأ	B	M	N	W	R	A
B		٢,١	٢,٢	١,٤	١,٣	١,٣
M	١,٢		٢,١	٢,٤	١,٦	١,٦
N	١,١	١,٢		١,٥	١,٧	١,٧
W	٢,٧	٢,٣	٢,٥		١,٩	١,٩
R	١,٦	٢,٤	٢,٦	٢,٨		٢,٩
A	٢,٢	٢,٣	٢,١	٢,٣	٢,٥	

أ) B
ب) N
ج) W
د) R

١١ شخص يكتب على الكمبيوتر الأعداد من ٥ إلى ٢٠٠ ، كم مرة يضغط على أزرار الكمبيوتر ؟

أ) ٤٨٠
ب) ٤٨٨
ج) ٤٩٠
د) ٤٩٢

الجزء القادم
نلقاكم في القسم أربعة وتسعون
ذاكر بذكاء ليس بجهد - أكاديمية بازيد

مفاتيح الاجوبة

١. د	٢. ج	٣. أ	٤. ب	٥. أ	٦. د	٧. د	٨. أ	٩. أ	١٠. ج	١١. ب

- كتاب أقسام الكمي -

SECTION94

القسم أربعة وتسعون

مسائل حسابية . هندسة . جبر . احصاء

11 سؤال

مع مفتاح الإجابات

ذاكر بذكاء ليس بجهد

BAZAID ACADEMY 2026

القسم أربعة وتسعون

١ ما الدولة الأكثر استهلاكاً ؟

الدولة	القروض الاستهلاكية	القروض العقارية
١,٤	١,٣	١,٣
٢,٤	١,٦	١,٦
١,٥	١,٧	١,٧
١,٥	١,٧	١,٧

أ السعودية　ب قطر
ج الإمارات　د البحرين

٢ أكمل النمط التالي : ٢ ، ٣ ، ٥ ، ٨ ، ١٢ ، .....

أ ١٢　ب ١٧
ج ١٩　د ٢٠

٣ أوجد قيمة الضلع المجهول :

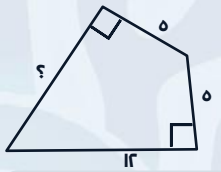

أ ١٠　ب ١١
ج ١٢　د ١٣

٤ أوجد قيمة س



أ ١٢　ب ١١
ج ١٥　د ١٣

٥ إذا تم تقسيم الشكل المجاور إلى قطع متساوية ، ما نسبة مساحة المظلل إلى الشكل؟



أ ٢٥%　ب ٤٠%
ج ٥٠%　د ٦٠%

٦ في الشكل المجاور ، أوجد طول الضلع أ هـ

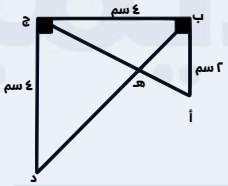

أ $\frac{\sqrt{٥}\times٢}{٤}$　ب $\frac{\sqrt{٥}\times٢}{٣}$
ج $\sqrt{٥}\times٢$　د $\frac{\sqrt{٥}\times٥}{٣}$

٧ قارن بين :
القيمة الأولى : ٩ - ٠,٠٠٤　القيمة الثانية : ٩ - ٠,٠٠٤٤

أ القيمة الأولى أكبر　ب القيمة الثانية أكبر
ج القيمتان متساويتان　د المعطيات غير كافية

٨ عمر هند بعد ٩سنوات = مثلي عمر هند قبل ٣سنوات ، فكم عمر هند الآن ؟

أ ١٥　ب ١٢
ج ٩　د ٣

٩ قارن بين :
القيمة الأولى : $\frac{١١}{١١١}$　القيمة الثانية : ١ ، ٠

أ القيمة الأولى أكبر　ب القيمة الثانية أكبر
ج القيمتان متساويتان　د المعطيات غير كافية

١٠ قارن بين :
القيمة الأولى : مساحة المربع　القيمة الثانية : مساحة المستطيل



أ القيمة الأولى أكبر　ب القيمة الثانية أكبر
ج القيمتان متساويتان　د المعطيات غير كافية

١١ قارن بين :

القيمة الأولى	القيمة الثانية
٤٥	٤ × ٤ × ٤ × ٤

أ القيمة الأولى أكبر　ب القيمة الثانية أكبر
ج القيمتان متساويتان　د المعطيات غير كافية

الجزء القادم
نلقاكم في القسم خمسة وتسعون
ذاكر بذكاء ليس بجهد - أكاديمية بازيد

مفاتيح الاجوبة

١. أ	٢. ب	٣. ج	٤. أ	٥. ج	٦. ب	٧. أ	٨. أ	٩. ب	١٠. أ	١١. ب

- كتاب أقسام الكمي -

SECTION95

القسم خمسة وتسعون

مسائل حسابية . هندسة . جبر . احصاء

11 سؤال

مع مفتاح الإجابات

ذاكر بذكاء ليس بجهد

BAZAID ACADEMY 2026

القسم خمسة وتسعون

١ الشكل التالي مستطيل داخل دائرة، ما المعطي الذي لا يفيد في حساب مساحة الدائرة ؟

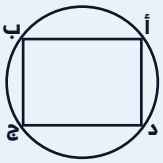

أ) أ ب = ٨سم، أ د = ٦سم
ب) محيط الدائرة = ١٠ط
ج) مساحة المستطيل = ٤٨سم
د) مجموع قطري المستطيل = ٢٠سم

٢ قارن بين :
القيمة الأولى : س
القيمة الثانية : ٦٠°



أ) القيمة الأولى أكبر
ب) القيمة الثانية أكبر
ج) القيمتان متساويتان
د) المعطيات غير كافية

٣ إذا كانت نسبة عدد الأطفال إلى عدد الرجال إلى عدد النساء هي ١ : ٣ : ٥ على التوالي، بعد أن تم إضافة ٢٠ طفلاً جديداً إلى القرية، أصبحت نسبة عدد الأطفال إلى عدد الرجال ١ : ٢ ، فكم عددهم الكلي ؟

أ) ٣٨٠
ب) ٣٦٠
ج) ٢٨٠
د) ٢٤٠

٤ في الشكل التالي أوجد قياس الزاوية س

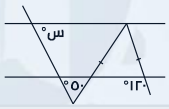

أ) ٣٠°
ب) ٦٠°
ج) ٧٠°
د) ٨٠°

٥ إذا كان يوم السبت الموافق ١/٢٤ عدد المصابين ١٨٠ ، كم يوم فيه عدد المصابين أقل من اليوم السابق ؟

اليوم	عدد الإصابات	عدد الوفيات
الأحد ٢٥ / ١	١٨٦	١
الإثنين ٢٦ / ١	٢١٣	٢
الثلاثاء ٢٧ / ١	٢٢٣	٣
الأربعاء ٢٨ / ١	٢١٦	٤
الخميس ٢٩ / ١	٢٥٢	٥
الجمعة ٣٠ / ١	٢٨٦	٦

أ) ٥%
ب) ٧%
ج) ١٠%
د) ١٥%

٦ الجدول التالي يمثل عدد إصابات ووفيات فيروس كورونا، ما النسبة المئوية للزيادة في عدد الإصابات من يوم الإثنين إلى يوم الثلاثاء تقريباً ؟

اليوم	عدد الإصابات	عدد الوفيات
الأحد ٢٥ / ١	١٨٦	١
الإثنين ٢٦ / ١	٢١٣	٢
الثلاثاء ٢٧ / ١	٢٢٣	٣
الأربعاء ٢٨ / ١	٢١٦	٤
الخميس ٢٩ / ١	٢٥٢	٥
الجمعة ٣٠ / ١	٢٨٦	٦

أ) ٥%
ب) ٧%
ج) ١٠%
د) ١٥%

٧ إذا كان ٨ اشخاص يجلسون على ٣ طاولات كما هو مبين بالشكل ، كم شخص يمكنهم الجلوس على ١٣ طاولة؟

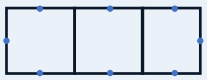

أ) ٣٠
ب) ٣٩
ج) ٢٨
د) ٢٥

٨ يوضح المخطط نسب الطلاب التي تفضل أنواع معينة من الشوكولاتة، ما القطاع الذي يمثل ربع عدد الطلاب ؟



أ) لا يأكلون الشوكولاتة
ب) شوكولاتة داكنة
ج) شوكولاتة بيضاء
د) شوكولاتة بالحليب

٩ في أي شهر كان الفرق بين معدل صرف بنزين ٩٥ وبنزين ٩٤ هو الأكبر؟

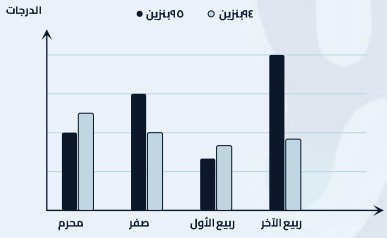

أ) محرم
ب) صفر
ج) ربيع الأول
د) ربيع الآخر

١٠ إذا كان خالد يحمّل ويعرض ٤٨ صورة في الموقع الخاص به خلال ٤٥ دقيقة، فإذا استمر بنفس المعدل فكم صورة سيحمل ويعرض بعد ساعة ؟

أ) ٦٠
ب) ٦٢
ج) ٦٤
د) ٦٨

١١ أسطوانه سدسها داخل الماء ويوجد عمود ارتفاعه ١ متر خارج الاسطوانه ، فكم ارتفاع الاسطوانه بالـ سم ؟

أ) ١١٠
ب) ١٠٥
ج) ١٠٠
د) ١٢٠

الجزء القادم
نلقاكم في القسم ستة وتسعون
ذاكر بذكاء ليس بجهد - أكاديمية بازيد

مفاتيح الاجوبة

١. ج	٢. ج	٣. أ	٤. ج	٥. أ	٦. أ	٧. ج	٨. ب	٩. د	١٠. ج	١١. د

- كتاب أقسام الكمي -

SECTION96

القسم ستة وتسعون

مسائل حسابية . هندسة . جبر . احصاء

II سؤال

مع مفتاح الإجابات

ذاكر بذكاء ليس بجهد

BAZAID ACADEMY 2026

القسم ستة وتسعون

١ ما نسبة الأسلحة غير التالفة؟

العدد الكلي للأسلحة	١٢٠ رشاش
الأسلحة التالفة جزئياً	٣٥ رشاش
الأسلحة التالفة كلياً	٤٥ رشاش

أ) ٣٠٪ ب) ٣٣٪
ج) ٤٠٪ د) ٦٧٪

٢ قارن بين :
القيمة الأولى : حجم المكعب
القيمة الثانية : ثلث حجم متوازي المستطيلات

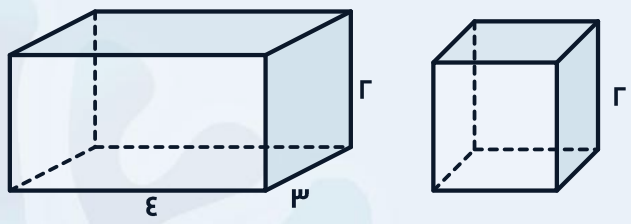

أ) القيمة الأولى أكبر ب) القيمة الثانية أكبر
ج) القيمتان متساويتان د) المعطيات غير كافية

٣ أعطى رجل لعاملين مبلغين من المال بنسب ٥ : ٦ وكان الفرق بينهما ٢٠٠ ريال فكم المبلغ الكلي ؟

أ) ١٢٠٠ ب) ١٦٠٠
ج) ٢٢٠٠ د) ٢٤٠٠

٤ قارن بين :
القيمة الأولى : $|\frac{٢٥٧}{٣}|$ القيمة الثانية : $|\frac{٦٧٣٥-}{٣٤٥٦}|$

أ) القيمة الأولى أكبر ب) القيمة الثانية أكبر
ج) القيمتان متساويتان د) المعطيات غير كافية

٥ $\frac{٧^{س}}{٣٠٧} = ٥^{٧}$ أوجد قيمة س ؟

أ) ١ ب) ٢
ج) ٣ د) ٤

٦ عدد أضفنا على نصفه ١٣ فأصبح ٢٣

أ) ١٥ ب) ٢٠
ج) ١٨ د) ٣٠

٧ أسطوانة مساحة قاعدتها ١٥ م^{٢} ، وإرتفاعها ١٥ م ، كم نحتاج من الماء لملئ ثلث الأسطوانة ؟

أ) ٦٠ ب) ٧٥
ج) ١٢٠ د) ١٥٠

٨ ما أكبر عدد مكون من الأرقام (١ ، ٢ ، ٣ ، ٥) بحيث يكون أكبر من ١٠٠٠ بدون تكرار الرقم ؟

أ) ٥٢١٣ ب) ٣٥٢١
ج) ٥٣٢١ د) ٢٣٥١

٩ إذا كان $\frac{أ\ ٧}{ب\ ٥ + ١\ ٥\ ٨}$ ما قيمة أ x ب ؟

أ) ٢٠ ب) ٢٤
ج) ١٦ د) ١٨

١٠ أوجد عدد الموظفين غير السعوديين في الشركات الثلاثة

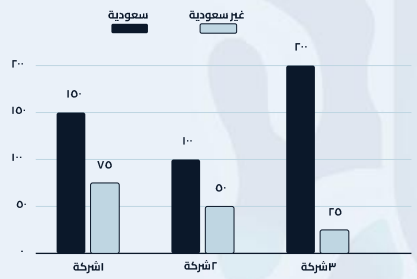

أ) ٧٥ ب) ١٥٠
ج) ٢٢٠ د) ٢٠٠

١١ قارن بين :
القيمة الأولى: طول أب
القيمة الثانية: طول ب ج

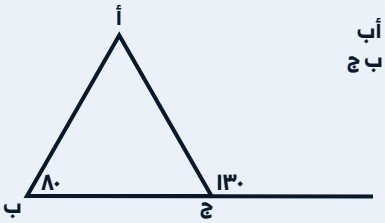

أ) القيمة الأولى أكبر ب) القيمة الثانية أكبر
ج) القيمتان متساويتان د) المعطيات غير كافية

الجزء القادم
نلقاكم في القسم سبعة وتسعون
ذاكر بذكاء ليس بجهد - أكاديمية بازيد

مفاتيح الاجوبة

١.ب	٢.ج	٣.ج	٤.ب	٥.ب	٦.ب	٧.ب	٨.ج	٩.ب	١٠.ب	١١.ج

- كتاب أقسام الكمي -

SECTION97

القسم سبعة وتسعون

مسائل حسابية . هندسة . جبر . احصاء

11 سؤال

مع مفتاح الإجابات

ذاكر بذكاء ليس بجهد

BAZAID ACADEMY 2026

القسم سبعة وتسعون

١ إذا كانت سرعة الرياح ٤,٥ قبل الساعة ٩ صباحاً وبعدها زادت بمقدار ٢.٥ وكل ثلاث ساعات تزيد بنفس المقدار كم ستكون السرعة الساعة ثلاثة عصراً في نفس اليوم؟

أ) ١٢ ب) ١٤
ج) ٩,٥ د) ١٥

٢ في مجلس النواب كان عدد المؤيدين ٥٠٠شخص ويزيد عن عدد المعارضين بـ ٢٥٠شخص، ما نسبة المؤيدين تقريباً ؟

أ) ٤٠% ب) ٥٠%
ج) ٦٠% د) ٧٠%

٣ إذا أردت أن تشتري ٢٨ قلم ما أقل سعر شراء ممكن ؟

عدد الأقلام	١	٣	٥
السعر	٢	٥	٨

أ) ٤٥ ب) ٤٦
ج) ٤٧ د) ٤٨

٤ إذا كانت النقطة الأولى (٢ ، ب) تقع في الربع الرابع ، والنقطة الثانية (أ ، ٢) تقع في الربع الثاني ، إذاً النقطة (أ ، ب) تقع في أي

أ) الاول ب) الثاني
ج) الثالث د) الرابع

٥ إذا كانت الزاوية س ص ع = ٦٠ نصفتها القطعة المستقيمة ص م و الزاوية م ص ع تنصفها القطعة ص ن ، فكم قياس الزاوية س ص ن؟

أ) ٤٥ ب) ٥٠
ج) ٥٥ د) ٦٠

٦ صف واحد به ١٠ أصدقاء وترتيب خالد الخامس من اليمين و صديقه ترتيبه الثامن من اليسار فكم عدد الأشخاص بينهما؟

أ) ١ ب) ٢
ج) ٣ د) ٤

٧ قارن بين :
القيمة الأولى : $\frac{٢}{٧} \div \frac{٤}{٦} \times \frac{٥}{٣}$

القيمة الثانية : $\frac{٢}{٧} \times \frac{٤}{٦} \div \frac{٥}{٣}$

أ) القيمة الأولى أكبر ب) القيمة الثانية أكبر
ج) القيمتان متساويتان د) المعطيات غير كافية

٨ إذا كانت : س ⊗ ص = $\frac{٥ \text{س ص} + \text{ص}}{٥ \text{ س ص}}$ ، قارن بين :

القيمة الأولي : ١ ⊗ ٢ القيمة الثانية : ٢ ⊗ ١

أ) القيمة الأولى أكبر ب) القيمة الثانية أكبر
ج) القيمتان متساويتان د) المعطيات غير كافية

٩ الشكل التالي يمثل الكمية المضافة باللتر كل ساعة، في كم ساعة تم إضافة ٣٠٠ لتر ؟



أ) ١ ب) ٢
ج) ٣ د) ٤

١٠ الشكل التالي يمثل الكمية المضافة باللتر كل ساعة، ما المدة التي كان مقدار الزيادة فيها صفر ؟



أ) ١ - ٣ ب) ٤ - ٦
ج) ٧ - ٩ د) ١٠ - ١٢

١١ إذا كان س^{٢} + ص^{٢} = ٢٠ ،
أوجد قيمة ٣ (س + ص)^{٢} - ٦س x ص

أ) ١٠٠ ب) ٢٠
ج) ٦٠ د) ٨٠

الجزء القادم

نلقاكم في القسم ثمانية وتسعون

ذاكر بذكاء ليس بجهد - أكاديمية بازيد

مفاتيح الاجوبة

١.أ	٢.د	٣.أ	٤.ج	٥.أ	٦.أ	٧.ج	٨.أ	٩.ب	١٠.ب	١١.ج

- كتاب أقسام الكمي -

SECTION98

القسم ثمانية وتسعون

مسائل حسابية . هندسة . جبر . احصاء

11 سؤال

مع مفتاح الإجابات

ذاكر بذكاء ليس بجهد

BAZAID ACADEMY 2026

القسم ثمانية وتسعون

١ أوجد قيمة $\sqrt{\frac{٤^{٣} + ٤^{٦}}{٤ + ٤^{٤}}}$

أ) ٢ ب) ٤
ج) ٨ د) ١٦

٢ إذا كان -١ ≤ س ≤ ص ≤ ١ ، ما اكبر قيمة ممكنة لـ | س - ص |

أ) ٠ ب) -١
ج) ١ د) ٢

٣ إذا كان احتمال نجاح الأسد في الصيد هو مرة واحدة كل ٧محاولات، فكم مرة يصيد في ٦٣محاولة؟

أ) ٧ ب) ٨
ج) ٩ د) ١٠

٤ إذا كان ١٥% من سعر حقيبة = ٣٠ ريال ، ما سعر الحقيبة ؟

أ) ١٠٠ ب) ١٢٠
ج) ١٥٠ د) ٢٠٠

٥ إذا كان س عدد صحيح سالب قارن بين :

القيمة الأولى : $\frac{س + ١}{٢}$
القيمة الثانية : ١

أ) القيمة الأولى أكبر ب) القيمة الثانية أكبر
ج) القيمتان متساويتان د) المعطيات غير كافية

٦ في الشكل التالي، دائرة مركزها م، قارن بين:
القيمة الأولى : محيط الدائرة
القيمة الثانية : ٥ط

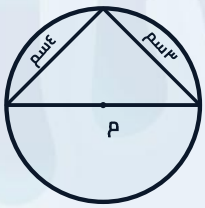

أ) القيمة الأولى أكبر ب) القيمة الثانية أكبر
ج) القيمتان متساويتان د) المعطيات غير كافية

٧ في الشكل التالي احسب مساحة الشكل المظلل

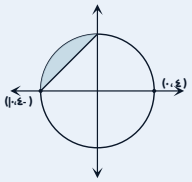

أ) ٤ط - ٨ ب) ٤ط - ١٦
ج) ٨ط - ٨ د) ١٦ط - ٨

٨ مستطيلان متساويان في المساحة مساحة الأول = ١٢٠ سم٢
وطول الثاني ١٢ سم ، فما محيط المستطيل الثاني ؟

أ) ٣٦ ب) ٤٠
ج) ٤٤ د) ٥٢

٩ أوجد مجموع شهري شوال ومحرم

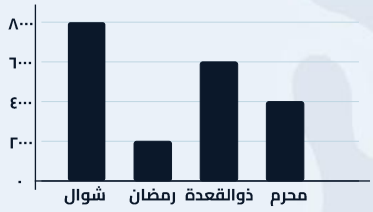

أ) ٦٠٠٠ ب) ٨٠٠٠
ج) ١٢٠٠٠ د) ٢٠٠٠٠

١٠ ما الفرق بين ذو القعدة و رمضان ؟

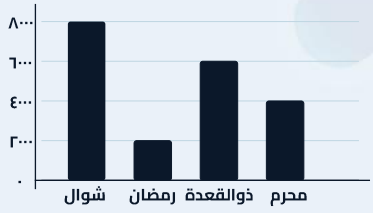

أ) ٢٠٠٠ ب) ٤٠٠٠
ج) ٦٠٠٠ د) ٨٠٠٠

١١ أوجد قيمة س : $٥^{٢س} = ٢٥$

أ) ٠ ب) ١
ج) ٢ د) ٣

الجزء القادم
نلقاكم في القسم تسعة وتسعون
ذاكر بذكاء ليس بجهد - أكاديمية بازيد

مفاتيح الاجوبة

١.ب	٢.د	٣.ج	٤.د	٥.ب	٦.ج	٧.أ	٨.ج	٩.ج	١٠.ب	١١.ب

- كتاب أقسام الكمي -

SECTION99

القسم تسعة وتسعون

مسائل حسابية . هندسة . جبر . احصاء

11 سؤال

مع مفتاح الإجابات

ذاكر بذكاء ليس بجهد

BAZAID ACADEMY 2026

القسم تسعة وتسعون

١ في الشكل التالي دائرة مركزها أ ، المثلث أ ب جـ متطابق الأضلاع طول ضلعه ٦ سم ، النقطتان م ، ن تنصفان ضلعي المثلث ، طول القوس م ن بالسنتمتر يساوي

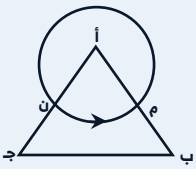

أ) ط
ب) ٣ط
ج) ٦ط
د) ٩ط

٢ إذا كانت : ٣س - ٤ = ٢ ، $\frac{س}{ص} = ٤$
القيمة الأولى : س
القيمة الثانية : ص٢

أ) القيمة الأولى أكبر
ب) القيمة الثانية أكبر
ج) القيمتان متساويتان
د) المعطيات غير كافية

٣ المثلث أ ب جـ مثلث قائم الزاوية في أ ، فقارن بين :
القيمة الأولى : أ ب + ب جـ
القيمة الثانية : أ ب + أ ج

أ) القيمة الأولى أكبر
ب) القيمة الثانية أكبر
ج) القيمتان متساويتان
د) المعطيات غير كافية

٤ كم يبلغ متوسط الأرباح في السنوات الثلاث الأولى بملايين الريالات؟

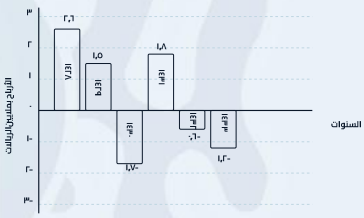

أ) -٠,٤
ب) -٠,٨
ج) ٠,٨
د) ٢,٤

٥ يعمل خالد الساعة مقابل ٢٠ ريال وعمل في اليوم الأول ساعتين وفي اليوم الثاني ساعتين وفي اليوم الثالث ١٥ دقيقة وفي اليوم الرابع ٢٧ دقيقة وفي اليوم الخامس من الساعة ٨ : ٠٠ إلى ٨ : ١٨ فكم ريال يأخذ خلال الخمسة أيام ؟

أ) ٨٠
ب) ١٠٠
ج) ١٢٠
د) ١٥٠

٦ شخص يكتب على الكمبيوتر الاعداد من ١ الى ٢٠٠ كم مرة يضغط على ازرار الكمبيوتر ؟

أ) ٤٨٠
ب) ٤٨٨
ج) ٤٩٠
د) ٤٩٢

٧ ٨٢ - ١٦ ÷ (٤ x ٢) =

أ) ٨
ب) ٣٢
ج) ٦٢
د) ٩٦

٨ ٩٢ ورقة نقدية من فئة ١٠٠ ، ٢٠٠ ، ٥٠٠ قسمت بنسبة على الترتيب ١١ : ٣ : ٩ ، كم مبلغ فئة ال ٥٠٠ ريال؟

أ) ١٨٠٠٠
ب) ٣٠٠٠٠
ج) ٦٠٠٠٠
د) ٩٠٠٠٠

٩ أوجد مساحة الشكل التالي :

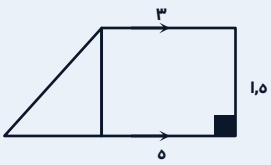

أ) ٤,٥
ب) ٥,٥
ج) ٦
د) ٧

١٠ نادي به ٥٠ مشترك ، ٣٠ منهم مشتركين في كرة القدم و ٢٦ مشتركين في السباحة و ٦ غير مشتركين في كرة القدم ولا السباحة ،كم عدد المشتركين في كرة القدم والسباحة؟

أ) ٠
ب) ٦
ج) ١٢
د) ٤

١١ الرسم البياني يمثل أعداد التصويت في انتخابات مجلس النواب ، ما متوسط عدد المصوتين لأقرب ألف؟

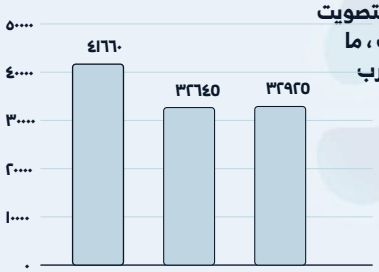

أ) ٣٣٠٠٠
ب) ٣٤٠٠٠
ج) ٣٦٠٠٠
د) ٣٧٠٠٠

الجزء القادم

نلقاكم في القسم مئة

ذاكر بذكاء ليس بجهد - أكاديمية بازيد

مفاتيح الاجوبة

١. أ	٢. أ	٣. أ	٤. ج	٥. ب	٦. ب	٧. ج	٨. أ	٩. ج	١٠. ج	١١. ج

- كتاب أقسام الكمي -

SECTION100

القسم مئة

مسائل حسابية . هندسة . جبر . احصاء

II سؤال

مع مفتاح الإجابات

ذاكر بذكاء ليس بجهد

BAZAID ACADEMY 2026

القسم مئة

١ عدد مكون من رقمين ، آحاده مضروب في ١٠ أمثاله زائد مربع عشراته يساوي عشراته مضروب في ١٠ أمثاله زائد مربع آحاده

أ) ١١ ب) ١٢
ج) ١٣ د) ١٤

٢ قارن بين :
القيمة الأولى : $١٠^{٨}$ القيمة الثانية : $(٤٣)^{٥}$

أ) القيمة الأولى أكبر ب) القيمة الثانية أكبر
ج) القيمتان متساويتان د) المعطيات غير كافية

٣ $٤٥٣٢ \times ٣٧٥٧٦٥ \times ٥٩٩٨٧٨$ ، ما هو الرقم في خانه الآحاد

أ) صفر ب) ١
ج) ٢ د) ٣

٤ أوجد قيمة : $\frac{٠,٠١ \times ٠,٠١ + ٠,٠٢ \times ٠,٠٢}{٠,٠٢ \times ٠,٠٣ + ٠,٠٤ \times ٠,٠٤}$

أ) $\frac{١}{٢}$ ب) $\frac{١}{٤}$
ج) $\frac{١}{٦}$ د) $\frac{١}{٥}$

٥ في الشكل المجاور ، أوجد قيمة س :

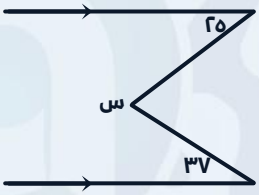

أ) ٦٢ ب) ٢٩٨
ج) ٢٦٢ د) ٢٦٨

٦ $(\frac{أ}{ب})^{٢} \times (\frac{ب}{أ})^{٣} \times (\frac{أ}{ب})^{٤} \times (\frac{ب}{أ})^{٥}$

أ) $(\frac{أ}{ب})^{٣}$ ب) $(\frac{ب}{أ})^{٢}$
ج) $(\frac{أ}{ب})^{٢}$ د) $(\frac{ب}{أ})^{٣}$

٧ في الرسم البياني التالي، أوجد الفرق بين أقل وأعلى قيمة للملابس المستعملة

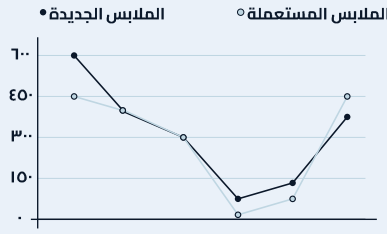

أ) ١٥٠ ب) ٢٦٠
ج) ٣٢٠ د) ٤٠٠

٨ قارن بين :
القيمة الأولى : حجم ٦٠ مكعب طول حرف الواحد $\frac{١}{٢}$ سم
القيمة الثانية : حجم مكعب طول حرفه ٢سم

أ) القيمة الأولى أكبر ب) القيمة الثانية أكبر
ج) القيمتان متساويتان د) المعطيات غير كافية

٩ ما مجموع ارقام العدد $٩٩٩^{٢}$ ؟

أ) ٢٧ ب) ٣٦
ج) ٤٥ د) ٥٤

١٠ ما النسبة المئوية للعدد $\frac{١}{٣}$ ؟

أ) ٣٣% ب) $\frac{١}{٣}$ ٣٣%
ج) $\frac{١}{٣}$ د) ٣٣,٣%

١١ غرفة أبعادها ٦م ، ٩م وضع فيه سجاد دائري الشكل نصف قطر السجادة ١,٥ ، ما اكبر عدد من السجاد يمكن فرشة داخل الغرفة ؟

أ) ٢ ب) ٤
ج) ٦ د) ٨

الجزء القادم
نلقاكم في القسم مئة وواحد
ذاكر بذكاء ليس بجهد - أكاديمية بازيد

مفاتيح الاجوبة

١.أ	٢.ب	٣.أ	٤.ب	٥.ب	٦.ب	٧.د	٨.ب	٩.أ	١٠.ب	١١.ج

- كتاب أقسام الكمي -

SECTION101

القسم مئة وواحد

مسائل حسابية . هندسة . جبر . احصاء

II سؤال

مع مفتاح الإجابات

ذاكر بذكاء ليس بجهد

BAZAID ACADEMY 2026

القسم مئة وواحد

١ إذا كانت $\frac{أ}{٦} = ٠.٥$ ، فأوجد قيمة $\frac{٦}{أ}$

أ) ١ ب) ٢
ج) ٣ د) ٤

٢ أوجد أقل مادة في الدرجات :

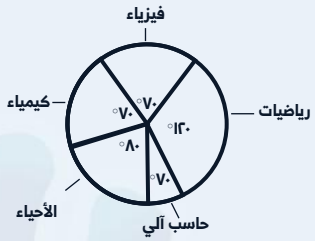

أ) رياضيات ب) حاسب آلي
ج) الأحياء د) فيزياء

٣ في أي السنوات التالية كانت نسبة الواردات الى الصادرات أكبر ما يمكن ؟

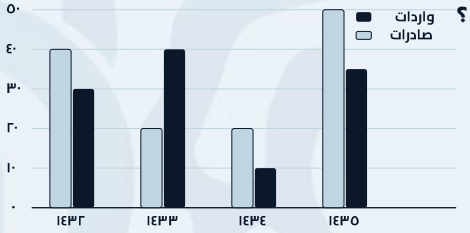

أ) ١٤٣٢ ب) ١٤٣٣
ج) ١٤٣٤ د) ١٤٣٥

٤ أوجد قيمة : $\frac{\frac{١}{٣}}{١ \quad \frac{١}{٣} + ١} + \frac{٣}{٤} =$

أ) $\frac{٣}{٤}$ ب) $\frac{٧}{١٢}$
ج) ٥ د) ١

٥ إذا كان : $\sqrt[٣]{٠.٠٣٦ \times س} = ٠.٠٣٦$ ، فأوجد قيمة س

أ) ٠.٠٣٦ ب) ٠.٣٦
ج) ٣٦ د) ٠.٠٠٣٦

٦ اذا كان س = ١٠ قارن بين :

القيمة الأولى	القيمة الثانية
س x ٠.٠٠٠١	٠.٠٠١

أ) القيمة الأولى أكبر ب) القيمة الثانية أكبر
ج) القيمتان متساويتان د) المعطيات غير كافية

٧ عددين آحاد الأول = عشرات الثاني و عشرات الثاني = آحاد الأول ، و الفرق بين العددين ١٨ ، أحد العددين هو؟

أ) ٦٤ ب) ٥٤
ج) ٤٧ د) ٤١

٨ أوجد نسبة الزيادة بين عامي ١٤٣٠ الى عام ١٤٣٣؟

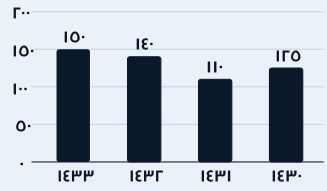

أ) ٢٠% ب) ٢٥%
ج) ١٠% د) ١٥%

٩ $\frac{٢}{١ - \sqrt[٣]{٣}} =$ .....

أ) $١ + \sqrt[٣]{٣}$ ب) $١ - \sqrt[٣]{٣}$
ج) $٢ - \sqrt[٣]{٣}$ د) $٢ + \sqrt[٣]{٣}$

١٠ ٨ ☐ ٤ = ٢

أ) x ب) ÷
ج) + د) -

١١ يمثل الشكل المجاور أسطوانة مساحة قاعدتها ١٢ سم^{٢} ارتفاعها ٥ سم ، أوجد حجم الأسطوانة

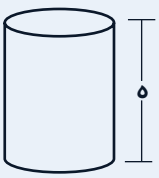

أ) ٤٠ ب) ٥٠
ج) ٦٠ د) ٨٠

الجزء القادم

نلقاكم في القسم مئة واثنان

ذاكر بذكاء ليس بجهد - أكاديمية بازيد

مفاتيح الاجوبة

١. ب	٢. ب	٣. ب	٤. د	٥. أ	٦. ج	٧. أ	٨. أ	٩. أ	١٠. ب	١١. ج

- كتاب أقسام الكمي -

SECTION102

القسم مئة واثنان

مسائل حسابية . هندسة . جبر . احصاء

11 سؤال

مع مفتاح الإجابات

ذاكر بذكاء ليس بجهد

BAZAID ACADEMY 2026

القسم مئة واثنان

١ اذا كان متوسط درجات طلاب فصل ٨٥ وهناك طالب غائب وعند اعادة اختباره حصل على ٣٠ درجة واصبح متوسط درجات طلاب الفصل ٨٠ ، ما عدد طلاب الفصل؟

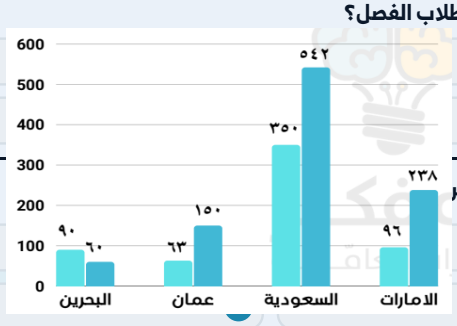

أ ٩
ج ١١

٢ عدد مضـ

أ ٤٢
ج ٤٨

٣ اذا حصل الطالب على ٤٥ درجه من ٥٠ كم تكون درجته من ٦٠؟

أ ٥٠
ب ٥٢
ج ٥٤
د ٥٥

٤ اذا كانت السيارة تمشي ٤٠كلم في نفس المدة الي يمشيها القطار في ٥٠كلم ، اذا اصبحت سرعة السيارة ٦٠ كلم تصبح سرعة القطار؟

أ ٦٥
ب ٧٠
ج ٧٥
د ٨٠

٥ قارن بين :
القيمة الأولى : $\frac{١}{٣} \times ٢٧$
القيمة الثانية : $٩ \times \frac{١}{٢٣}$

أ القيمة الأولى أكبر
ب القيمة الثانية أكبر
ج القيمتان متساويتان
د المعطيات غير كافية

٦ قارن بين :
القيمة الأولى : قياس الزاوية (ا)
القيمة الثانية : ٤٢

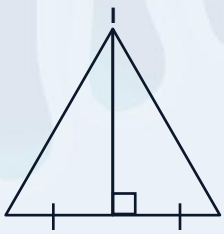

أ القيمة الأولى أكبر
ب القيمة الثانية أكبر
ج القيمتان متساويتان
د المعطيات غير كافية

٧ أذا كانت جميع الدوائر متطابقة و مساحة الدائرة ٩ط ، أوجد مساحة المستطيل

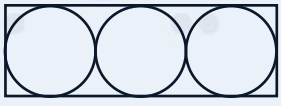

أ ١٠٨
ب ٩٠
ج ١٢٠
د ٦٠

٨ في الرسم البياني المجاور ، ما الدولة التي لها أعلى نسبة زيادة ؟

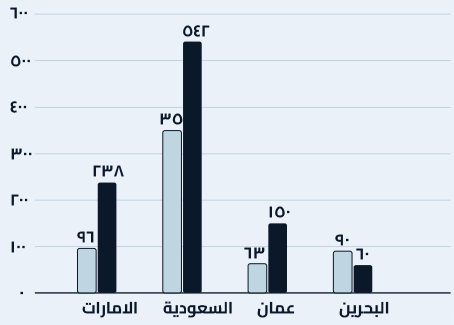

أ الامارات
ب عمان
ج السعودية
د البحرين

٩ وضعت اوراق بجانب بعضها فكونت مستطيلاً ابعاده ٣٠٠ ، ١٠٠ سم فإذا كان بعد الورقة ٣٠ ، ٢٠٠ سم فكم عدد الاوراق ؟

أ ٥٠
ب ٧٥
ج ١٠٠
د ١٥٠

١٠ اذا كان $\sqrt{س} = \sqrt[٣]{٦٤}$ ، فإن س = ؟

أ ٣٤
ب ٢٤
ج ٢٨
د ٥٢

١١ أوجد نسبة الزيادة بين عامي ١٤٣٠ الى عام ١٤٣٣؟

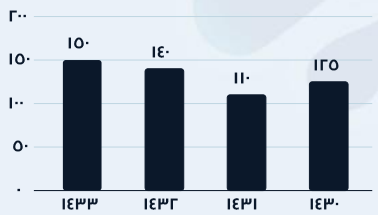

أ ٢٠%
ب ٢٥%
ج ١٠%
د ١٥%

الجزء القادم
نلقاكم في القسم مئة وثلاثة
ذاكر بذكاء ليس بجهد - أكاديمية بازيد

مفاتيح الاجوبة

١.ج	٢.أ	٣.ج	٤.ج	٥.أ	٦.د	٧.أ	٨.أ	٩.أ	١٠.ب	١١.أ

- كتاب أقسام الكمي -

SECTION103

القسم مئة وثلاثة

مسائل حسابية . هندسة . جبر . احصاء

11 سؤال

مع مفتاح الإجابات

ذاكر بذكاء ليس بجهد

BAZAID ACADEMY 2026

القسم مئة وثلاثة

١ في الشكل التالي، أوجد قيمة س

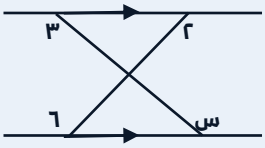

أ) ٤ ب) ٧
ج) ٨ د) ٩

٢ إذا كان $\sqrt{س + ٣٢} = ٩$ ، أوجد قيمة س

أ) ٤٨ ب) ٤٩
ج) ٥٠ د) ٥١

٣ في الشكل المجاور: مستطيل محيطه = ٢٠ ، ومساحته = ٢٤ وجميع الدوائر متطابقة أوجد طول قطر الدائرة



أ) ١٠ ب) ٢
ج) ١٢ د) ٤

٤ $٩^{ص} = ٨١^{٢}$ قارن بين :

القيمة الأولى	القيمة الثانية
ص	٦

أ) القيمة الأولى أكبر ب) القيمة الثانية أكبر
ج) القيمتان متساويتان د) المعطيات غير كافية

٥ إذا كان متوسط قطاعات المدارس والتعليم والجامعات يساوي ١٩٪ ما نسبة قطاع التعليم ؟



أ) ٩٪ ب) ١٠٪
ج) ١١٪ د) ١٢٪

٦ متجر يوجد فيه ٥ علب أقلام وكل علبه فيها ١٢ قلم وهناك ٥ أقلام أخرى ، إذا قام ببيع ١٧ قلم فكم علبة تبقت؟

أ) ٣ ب) ٣,٥
ج) ٤ د) ٤,٥

٧ مستطيلين متلاصقين ببعضهما متطابقين طول ضلعيهما ٢ ، ٤ ، كم محيط الشكل ؟

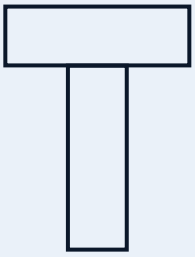

أ) ٨ ب) ١٢
ج) ٢٠ د) ٢٤

٨ أوجد طول نصف القطر اذا كانت أ ب قطر الدائرة :

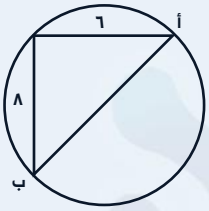

أ) ١٠ ب) ٥
ج) ٨ د) ٦

٩ اوجد قيمة : $\frac{١}{٥^{٣}} + \frac{١}{٥^{٣}} + \frac{١}{٥^{٣}}$

أ) $\frac{١}{٣^{٣}}$ ب) $\frac{١}{٤^{٣}}$
ج) $\frac{١}{٦^{٣}}$ د) $\frac{١}{٩^{٣}}$

١٠ إذا كان ب = $(س-ص)^{٢} - ٢س ص$ ، $= (س+ص)^{٢} + ٢س ص$
أوجد ب+٢

أ) ٢ $(س^{٢} + ص^{٢})$ ب) $س^{٢} + ص^{٢}$
ج) ٢ $(س^{٢} - ص^{٢})$ د) $س^{٢} - ص^{٢}$

١١ وعاء تم ملئ $\frac{١}{٢}$ وعند إضافة ١٠ لتر أصبح مملوء إلى $\frac{١}{٢}$ فكم حجم العبوة باللترات؟

أ) ٢٠ ب) ٤٠
ج) ٦٠ د) ٧٠

الجزء القادم

نلقاكم في القسم مئة وأربعة

ذاكر بذكاء ليس بجهد - أكاديمية بازيد

مفاتيح الاجوبة

١. د	٢. ب	٣. ب	٤. ب	٥. ج	٦. ج	٧. ج	٨. ب	٩. ب	١٠. أ	١١. ج

- كتاب أقسام الكمي -

SECTION104

القسم مئة وأربعة

مسائل حسابية . هندسة . جبر . احصاء

11 سؤال

مع مفتاح الإجابات

ذاكر بذكاء ليس بجهد

BAZAID ACADEMY 2026

القسم مئة وأربعة

١ اشترى خالد ثلاث ألواح شوكولاته سعر الواحد ١٢ ريال، واشترى كيس حلوى بسعر ٥٠ ريال فما مجموع ما دفعه؟

أ) ٦٠ ب) ٨٦
ج) ٦٢ د) ١١٢

٢ يزرع شخص ٢٥ نبتة يومياً كم يزرع خلال ٣ أشهر إذا كان الشهر يساوي ٣٠ يوم

أ) ١٨٠٠ ب) ٢٠٠٠
ج) ٢١٠٠ د) ٢٢٥٠

٣ اشترت فتاة فستان بـ ٧٠٠ ريال بخصم ٣٠٪ كم كان سعر الفستان قبل الخصم ؟

أ) ٧٣٠ ب) ١٠٠٠
ج) ١٠٣٠ د) ١٣٠٠

٤ من خلال الرسم البياني التالي : كم عدد الطلاب الذين حصلوا على ٩٠ فاكثر؟

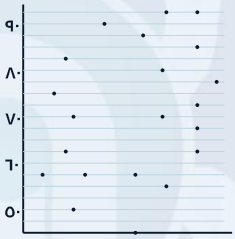

أ) ٥ ب) ٦
ج) ٧ د) ٨

٥ موظف في شركة الاتصالات يتلقى ٣٠ مكالمة كل ساعة، فكم مكالمة يتلقى خلال ٢٤ ساعة ؟

أ) ٤٦٠ ب) ٦٠٠
ج) ٧٢٠ د) ٨٤٠

٦ يحفظ محمد س كلمة إنجليزية في الأسبوع، إذا حفظ ١٠٠ كلمة خلال ٥ أسابيع، أوجد قيمة س

أ) ١٥ ب) ٢٠
ج) ٢٥ د) ٣٠

٧ قارن بين :
القيمة الأولى: مجموع قياسات زوايا المثلث
القيمة الثانية: مجموع قياسات زوايا المربع

أ) القيمة الأولى أكبر ب) القيمة الثانية أكبر
ج) القيمتان متساويتان د) المعطيات غير كافية

٨ قارن بين :
القيمة الأولى: مجموع قياسات زوايا مثلث قائم الزاوية
القيمة الثانية: مجموع قياسات زوايا مثلث منفرج الزاوية

أ) القيمة الأولى أكبر ب) القيمة الثانية أكبر
ج) القيمتان متساويتان د) المعطيات غير كافية

٩ في الرسم البياني التالي، كم عدد الدجاج الذي وزنه ١٣٠٠ جرام؟

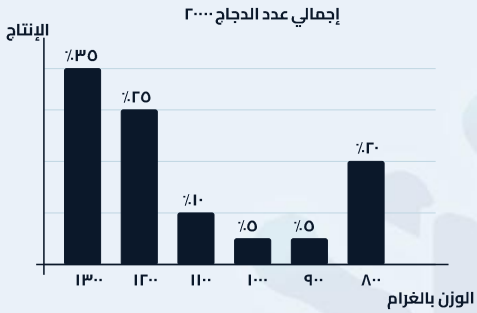

أ) ١٠٠ ب) ٥٠٠٠
ج) ٦٠٠٠ د) ٧٠٠٠

١٠ في الرسم البياني التالي، كم الفرق بين عدد الدجاج الذي وزنة ١١٠٠ جرام والدجاج الذي وزنة ١٠٠٠ جرام ؟

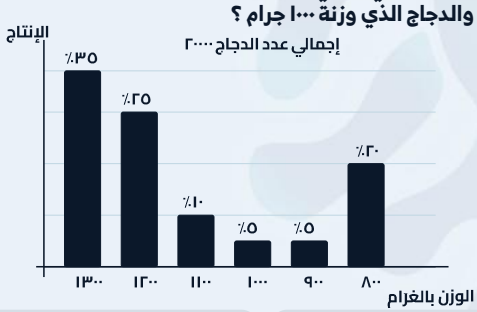

أ) ١٠٠ ب) ٨٠٠
ج) ١٠٠٠ د) ١١٠٠

١١ إذا كانت مساحة الجزء المظلل تساوي ٩٠ط قارن بين :
القيمة الأولى : ٩ط
القيمة الثانية : مساحة الجزء غير المظلل

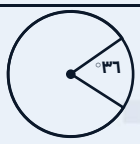

أ) القيمة الأولى أكبر ب) القيمة الثانية أكبر
ج) القيمتان متساويتان د) المعطيات غير كافية

الجزء القادم
نلقاكم في القسم مئة وخمسة
ذاكر بذكاء ليس بجهد - أكاديمية بازيد

مفاتيح الاجوبة

١.ب	٢.د	٣.ب	٤.ج	٥.ج	٦.ب	٧.د	٨.ج	٩.د	١٠.ج	١١.ب

- كتاب أقسام الكمي -

SECTION105

القسم مئة وخمسة

مسائل حسابية . هندسة . جبر . احصاء

11 سؤال

مع مفتاح الإجابات

ذاكر بذكاء ليس بجهد

BAZAID ACADEMY 2026

القسم مئة وخمسة

١ إذا كان المتوسط الحسابي يساوي نصف المدى للقيم التالية المرتبة تصاعدياً (١١ ، س ، ص ، ع ، ٧٣) ، أوجد المتوسط الحسابي للقيم

أ ٢٥ ب ٣١

ج ٤٢ د ٦٢

٢ $٣^{٢٣} - ٣^{١٣} = س \times ٣^{١٣}$ ، أوجد قيمة س

أ ١ ب ٢

ج ٣ د ٤

٣ تحرك شخص ٦٠م شرقاً ثم ٢٠م جنوباً ثم ٣٠ متر شرقاً ما المسافة بين نقطة البداية و نقطة النهاية ؟

أ ١٠٠م ب ٢٠م

ج ١٥٠م د ١٨٠م

٤ قارن بين :
القيمة الأولى : ٢-٢-٢-٢-٢
القيمة الثانية : $(-٢)^{٥}$

أ القيمة الأولى أكبر ب القيمة الثانية أكبر

ج القيمتان متساويتان د المعطيات غير كافية

٥ إذا كان حجم الهرم يساوي ثلث مساحة القاعدة بالارتفاع
قارن بين:
القيمة الأولى : حجم مكعب طول حرفه ٥
القيمة الثانية :حجم هرم مساحة قاعدته ١٠ و ارتفاعه ٧

أ القيمة الأولى أكبر ب القيمة الثانية أكبر

ج القيمتان متساويتان د المعطيات غير كافية

٦ قارن بين :
القيمة الأولى : محيط معين طولا قطريه ٨م ، ١٠م
القيمة الثانية : محيط مربع مساحته ٢٥م ٢

أ القيمة الأولى أكبر ب القيمة الثانية أكبر

ج القيمتان متساويتان د المعطيات غير كافية

٧ الشكل التالي يمثل دائرتان متحدتان بالمركز، ما الفرق بين محيط الدائرتين؟

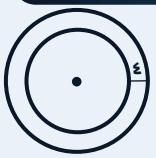

أ ٢ط ب ٤ط

ج ٦ط د ٨ط

٨ أوجد قيمة $\frac{٦س^{٥}}{٢س^{-٣}}$

أ $س^{٥}$ ب $٤س^{٨}$

ج $٣س^{٨}$ د ١٢س

٩ ما نسبة عدد القوارب التي أبحرت أقل من ٢٠٠دقيقة ؟

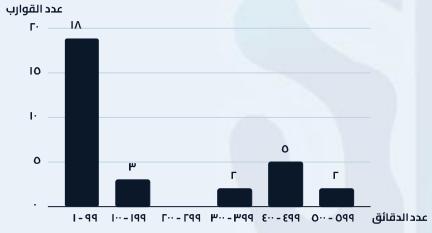

أ ٧٠% ب ٦٠%

ج ٥٠% د ٤٠%

١٠ ما عدد القوارب التي أبحرت ٤٠٠دقيقة على الأقل ؟

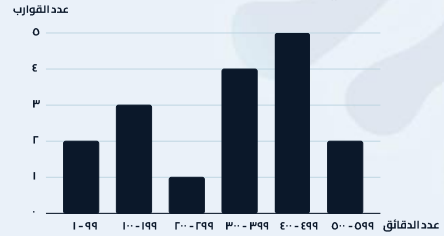

أ ٥ ب ٧

ج ٩ د ١٥

١١ إذا كان أ + ٢ب = ١٣ ، ٥ أ - ٢ ب = ٥ ، أوجد قيمة ب

أ ٢ ب ٥

ج ٦ د ٧

الجزء القادم

نلقاكم في القسم مئة وستة

ذاكر بذكاء ليس بجهد - أكاديمية بازيد

مفاتيح الاجوبة

١.ب	٢.ب	٣.ج	٤.أ	٥.أ	٦.أ	٧.د	٨.ج	٩.أ	١٠.ب	١١.ب

- كتاب أقسام الكمي -

SECTION106

القسم مئة وستة

مسائل حسابية . هندسة . جبر . احصاء

11 سؤال

مع مفتاح الإجابات

ذاكر بذكاء ليس بجهد

BAZAID ACADEMY 2026

القسم مئة وستة

١ أوجد قيمة $\frac{٣٥}{١٠٠}$

أ) ٠,٠٠٣٥ ب) ٠,٠٣٥
ج) ٠,٣٥ د) ٣,٥

٢ أوجد الحد الخامس : ١٢ ، ٢٣ ، ٣٥ ، ٤٨ ، .....

أ) ٦٠ ب) ٦٢
ج) ٦٥ د) ٦٩

٣ شخص اشترى مزرعه وباعها بقيمة ٤٨٠٠٠ بربح ٢٠٪ ، كم سعر المزرعة الاساسي ؟

أ) ٢٥٠٠٠ ب) ٣٠٠٠٠
ج) ٣٥٠٠٠ د) ٤٠٠٠٠

٤ قطار يسير بسرعة ٣٠٠كلم/س فإذا استمر بنفس السرعة بدون توقف فكم ساعة يحتاج ليقطع مسافة ١٢٠٠ كلم ؟

أ) ١ ب) ٢
ج) ٣ د) ٤

٥ قارن بين :
القيمة الأولى : ٣ أيام
القيمة الثانية : ٤٨ ساعة

أ) القيمة الأولى أكبر ب) القيمة الأولى أكبر
ج) القيمتان متساويتان د) المعطيات غير كافية

٦ أوجد قيمة س في الشكل المجاور :

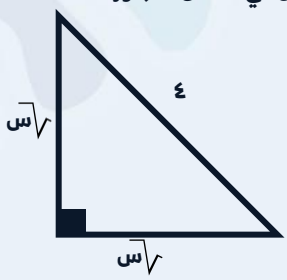

أ) ٤ ب) ١٦
ج) ٨ د) ٣٢

٧ مثلث قائم الزاوية قاعدته تساوي مثلي ارتفاعه، ومساحته تساوي ١٦ ، أوجد طول قاعدتة

أ) ٤ ب) ٦
ج) ٨ د) ١٦

٨ قارن بين :
القيمة الأولى : مجموع زوايا المثلث
القيمة الثانية : مجموع زوايا المربع

أ) القيمة الأولى أكبر ب) القيمة الثانية أكبر
ج) القيمتان متساويتان د) المعطيات غير كافية

٩ من الجدول التالي، الأرقام تمثل كمية التوفير للوقود ما السيارة التي لها أكبر توفير؟

السيارة	وافرة
١	٧
٢	١٠,١
٣	١٢,٥
٤	٩,٤
٥	٨,٢

أ) الاولى ب) الثانية
ج) الثالثة د) الخامسة

١٠ من الجدول التالي، الأرقام تمثل كمية التوفير للوقود ما السيارة التي لها أكبر صرف؟

السيارة	وافرة
١	٧
٢	١٠,١
٣	١٢,٥
٤	٩,٤
٥	٨,٢

أ) الاولى ب) الثانية
ج) الثالثة د) الخامسة

١١ إذا كانت س تساوي -١١ أوجد قيمة |٤ + س| + ٥

أ) ١٩ ب) ١٦
ج) ١٢ د) ١٠

الجزء القادم
نلقاكم في القسم مئة وسبعة
ذاكر بذكاء ليس بجهد - أكاديمية بازيد

مفاتيح الاجوبة

١. ج	٢. ب	٣. د	٤. د	٥. أ	٦. ج	٧. ج	٨. د	٩. ج	١٠. أ	١١. ج

- كتاب أقسام الكمي -

SECTION107

القسم مئة وسبعة

مسائل حسابية . هندسة . جبر . احصاء

11 سؤال

مع مفتاح الإجابات

ذاكر بذكاء ليس بجهد

BAZAID ACADEMY 2026

القسم مئة وسبعة

١ أوجد قيمة : ا + ٦ x (-٢)

أ -١٤ ب -١١
ج ١٤ د ١١

٢ $٤^{٣} + ٤^{٤}$ = ...

أ ٣×٤^{٤} ب ٣×٤^{٣}
ج $٤^{٤}$ د ٥×٤^{٣}

٣ إذا زادت س بنسبة ٢٠٪ ونقصت ص بنسبة ٢٠٪ ، فأصبحت س ، ص متساويتان ، أوجد نسبة س الى ص؟

أ ١ : ٢ ب ١ : ٣
ج ٢ : ٣ د ١ : ٤

٤ اذا كانت : ٥ × ٥ × ٥ × ٥س = ١٠ × ١٠ x ص
قارن بين :
القيمة الأولى : س القيمة الثانية : ص

أ القيمة الأولى أكبر ب القيمة الثانية أكبر
ج القيمتان متساويتان د المعطيات غير كافية

٥ إذا كان محيط المربع = محيط المستطيل ، فقارن بين :
القيمة الأولى : مساحة المربع
القيمة الثانية : مساحة المستطيل

أ القيمة الأولى أكبر ب القيمة الأولى أكبر
ج القيمتان متساويتان د المعطيات غير كافية

٦ إذا كانت العبارة $٢س^{٢} + ١١س + ١٥$ تعبر عن مساحة مستطيل عرضه س + ٣ ، فما طوله؟

أ ٢س + ٣ ب س + ٣
ج ٢س + ٥ د س + ٥

٧ المثلثان متشابهان ، أوجد قيمة س

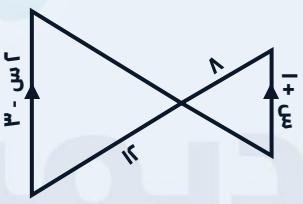

أ ٦ ب ٧
ج ٨ د ٩

٨ إذا كان الشكل مربع أوجد مساحة الشكل المظلل

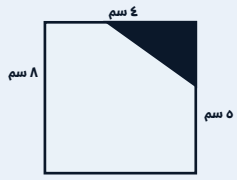

أ ٥٨ ب ٥٤
ج ٥٠ د ٤٦

٩ ما متوسط الإرادات للأعوام الأربعة بملايين الريالات؟

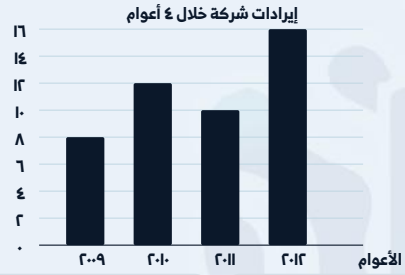

أ ٤٦ ب ٤٠
ج ١٢,٥ د ١١,٥

١٠ أوجد عدد السيارات التي تقطع ٢٥كم أو أكثر بالغالون الواحد

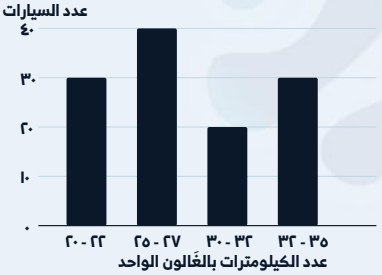

أ ٣٠ ب ٤٠
ج ٧٠ د ٩٠

١١ $\left(\frac{\sqrt{٣٦}}{٢ \times ٣}\right) \times \frac{س}{٢} \times \frac{س}{٣} = \frac{س}{٦}$

أ $\frac{س}{٦}$ ب $\frac{س}{٢}$
ج $\frac{س}{٣}$ د س

الجزء القادم
نلقاكم في القسم مئة وثمانية
ذاكر بذكاء ليس بجهد - أكاديمية بازيد

مفاتيح الاجوبة

١. ب	٢. د	٣. ج	٤. د	٥. أ	٦. ج	٧. د	٨. أ	٩. د	١٠. د	١١. د

- كتاب أقسام الكمي -

SECTION108

القسم مئة وثمانية

مسائل حسابية . هندسة . جبر . احصاء

11 سؤال

مع مفتاح الإجابات

ذاكر بذكاء ليس بجهد

BAZAID ACADEMY 2026

القسم مئة وثمانية

١ في الجدول البياني التالي، إذا كانت إنتاجية المصانع الشهرية ثابتة، كم ينتج المصنع ٤ خلال شهر ؟

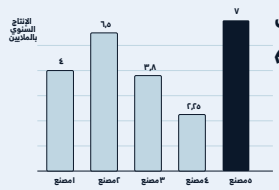

أ) ١٨٧٥٠٠ ب) ١٨٧٠٠٠
ج) ١٨٠٠٠٠ د) ١٦٠٠٠٠

٢ إذا كان متوسط مشاهدة شخص للتلفاز عام ٢٠١١ هو ١٤٧٠ دقيقه وعام ٢٠١٢ زادت بنسبه ٧٪ كم أصبح متوسط مشاهدته تقريباً؟

أ) ١٥٧٣ ب) ١٥٧٠
ج) ١٥٥٥ د) ١٥٦٧

٣ ما اكثر حرف يوجد فيه اخطاء

صحيح / خطأ	B	M	N	W	R	A
B		٣	١	١	٧	٥
M	٢		٢	١	٠	٦
N	٠	٢		١٠	١	٢
W	١	٥	٤		٣	٠
R	٢	٠	٦	٨		٣
A	٣	٤	٠	٦	٢	

أ) B ب) N
ج) W د) R

٤ من الشكل المجاور، قارن بين :
القيمة الأولى : $\frac{ا}{٢}$ س القيمة الثانية : ص



أ) القيمة الأولى أكبر ب) القيمة الثانية أكبر
ج) القيمتان متساويتان د) المعطيات غير كافية

٥ قارن بين :
القيمة الأولى : ٣ أيام القيمة الثانية : ٤٨ ساعة

أ) القيمة الأولى أكبر ب) القيمة الأولى أكبر
ج) القيمتان متساويتان د) المعطيات غير كافية

٦ إذا كان طول ضلع المربع (٤) وبداخله نصف دائرة مظللة، فما مساحة الجزء غير المظلل؟



أ) ١٦ + ٢ط ب) ١٦
ج) ٨ - ٢ط د) ١٦ - ٢ط

٧ في الشكل المجاور :
ما اجمالي الاستهلاك يوم الثلاثاء ؟

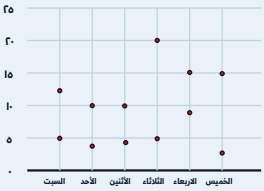

أ) ١٠ ب) ٢٥
ج) ١٥ د) ٣٠

٨ نسبة النساء الى الرجال في ملجأ ٥ : ٢ وكان عدد النساء ٣٠ ، وكانت نسبة الرجال الى الأطفال ٣ : ٧ في نفس الملجأ فقارن بين :
القيمة الأولى : عدد الأطفال القيمة الثانية : ٢٤طفل

أ) القيمة الأولى أكبر ب) القيمة الثانية أكبر
ج) القيمتان متساويتان د) المعطيات غير كافية

٩ اذا كان سعر ٤حبات خبز بـ ٦ريال ، أوجد مبيعات الخبز في شهر شوال

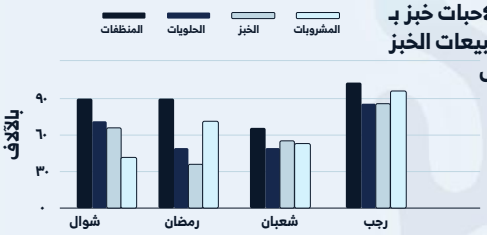

أ) ٨٠٠٠٠ ب) ٩٠٠٠٠
ج) ١٠٠٠٠٠ د) ١٢٠٠٠٠

١٠ في الشكل المجاور :
أوجد قيمة هـ

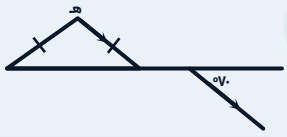

أ) ٧٠ ب) ١١٠
ج) ٤٠ د) ٦٠

١١ في الشكل التالي، دائرة مركزها م، ونصف قطرها ٤سم، كم سنتيمتراً مربعاً مساحة الجزء المظلل ؟



أ) ١٢ ط ب) ١٠ ط
ج) ٦ ط د) ٤ ط

الجزء القادم
نلقاكم في القسم مئة وتسعة
ذاكر بذكاء ليس بجهد - أكاديمية بازيد

مفاتيح الاجوبة

١. أ	٢. أ	٣. ج	٤. ج	٥. أ	٦. د	٧. ب	٨. أ	٩. د	١٠. ج	١١. د

- كتاب أقسام الكمي -

SECTION109

القسم مئة وتسعة

مسائل حسابية . هندسة . جبر . احصاء

11 سؤال

مع مفتاح الإجابات

ذاكر بذكاء ليس بجهد

BAZAID ACADEMY 2026

القسم مئة وتسعة

١ يعمل خالد الساعة مقابل ٢٠ ريال وعمل في اليوم الاول ساعتين وفي اليوم الثاني ساعتين وفي اليوم الثالث ١٥ دقيقة وفي اليوم الرابع ٢٧ دقيقة وفي اليوم الخامس من الساعة ٨:٠٠ إلى ٨:١٨ فكم ريال ياخذ خلال الخمسة أيام ؟

أ) ٨٠ ب) ١٠٠
ج) ١٢٠ د) ١٥٠

٢ شخص يكتب على الكمبيوتر الاعداد من ٥ الى ، ٢٠٠ كم مرة يضغط على ازرار الكمبيوتر ؟

أ) ٤٨٠ ب) ٤٨٨
ج) ٤٩٠ د) ٤٩٢

٣ نادي به ٥٠ مشترك ، ٣٠ منهم مشتركين في كرة القدم و ٢٦ مشتركين في السباحة و ٦ غير مشتركين في كرة القدم ولا السباحة ،كم عدد المشتركين في كرة القدم والسباحة؟

أ) ٠ ب) ٦
ج) ١٢ د) ٤

٤ ٩٢ ورقة نقدية من فئة ١٠٠ ، ٢٠٠ ، ٥٠٠ قسمت بنسبة على الترتيب ١١ : ٩ : ٣ ، كم مبلغ فئة ال ٥٠٠ ريال ؟

أ) ١٨٠٠ ب) ٣٠٠٠
ج) ٦٠٠٠ د) ٩٠٠٠

٥ $٨^{٢} - ١٦ \div (٤ \times ٢) =$

أ) ٨ ب) ٣٢
ج) ٦٢ د) ٩٦

٦ إذا كانت : ٣س - ٤ = ٢ ، $\frac{س}{ص} = ٤$
القيمة الأولى: س

أ) القيمة الأولى أكبر ب) القيمة الثانية أكبر
ج) القيمتان متساويتان د) المعطيات غير كافية

٧ المثلث أ ب جـ مثلث قائم الزاوية في أ ، فقارن بين :

القيمة الأولى	القيمة الثانية
أ ب + ب جـ	أ ب + أ جـ

أ) القيمة الأولى أكبر ب) القيمة الثانية أكبر
ج) القيمتان متساويتان د) المعطيات غير كافية

٨ مساحة الشكل = ...

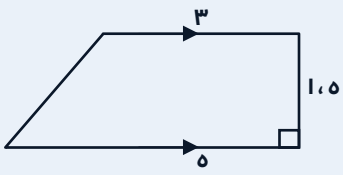

أ) ٦ ب) ٦،٥
ج) ٤ د) ٤،٥

٩ في الشكل التالي دائرة مركزها أ ، المثلث أ ب جـ متطابق الأضلاع طول ضلعه ٦سم ، النقطتان م ، ن تنصفان ضلعي المثلث، طول القوس م ن بالسنتمتر يساوي

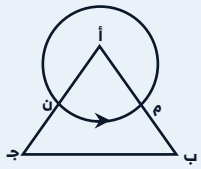

أ) ط ب) ٣ط
ج) ٦ط د) ٩ط

١٠ كم يبلغ متوسط الأرباح في السنوات الثلاث الأولى بملايين الريالات؟

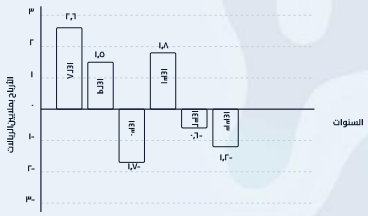

أ) -٠،٤ ب) -٠،٨
ج) ٠،٨ د) ٢،٤

١١ الرسم البياني يمثل أعداد التصويت في انتخابات مجلس النواب ، ما متوسط عدد المصوتين لأقرب ألف؟

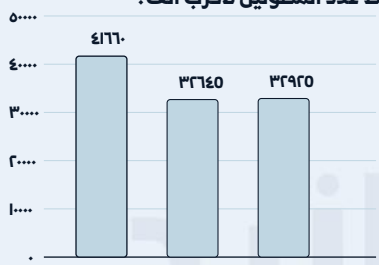

أ) ٣٣٠٠٠ ب) ٣٤٠٠٠
ج) ٣٦٠٠٠ د) ٣٧٠٠٠

الجزء القادم
نلقاكم في القسم مئة وعشرة
ذاكر بذكاء ليس بجهد - أكاديمية بازيد

مفاتيح الاجوبة

١. ب	٢. ب	٣. ج	٤. ج	٥. ج	٦. أ	٧. أ	٨. أ	٩. أ	١٠. ج	١١. ج

- كتاب أقسام الكمي -

SECTION110

القسم مئة وعشرة

مسائل حسابية . هندسة . جبر . احصاء

II سؤال

مع مفتاح الإجابات

ذاكر بذكاء ليس بجهد

BAZAID ACADEMY 2026

القسم مئة وعشرة

١ إذا كان ص تتناسب عكسياً مع س ، ص= ٤ عندما س= ٦
أوجد قيمة ص عندما س = ١٢

أ ٢ ب ٤
ج ٦ د ٨

٢ طريق طوله ٨كلم ، كم طوله بالأمتار تقريباً؟

أ ٨٨٨٠ ب ٧٨٥٠
ج ٩٠٠ د ٧٢٠٠

٣ $\frac{٠,٠٩ \times ٣,٣٣٣}{٧٥,٠ \times ٩٤,٣} =$ .....

أ ٠,٣٩ ب $\frac{١}{٣}$
ج $\frac{١}{٥}$ د ٠,٤٩

٤ أي الاعداد الآتية يمكن كتابته على صورة ٣ن ، حيث ن عدد صحيح

أ ٥٦ ب ٥٧
ج ٥٨ د ٥٩

٥ اذا كانت ن = ٢ فقارن بين:
القيمة الأولى : $\frac{ن}{ن(ن-١)^{٢} \times ٤}$ القيمة الثانية : $\frac{١}{ن}$

أ القيمة الأولى أكبر ب القيمة الثانية أكبر
ج القيمتان متساويتان د المعطيات غير كافية

٦ قارن بين :
القيمة الأولى : محيط دائرة نصف قطرها ٤ سم
القيمة الثانية : محيط مستطيل عرضه ٢سم ، وطوله ٢

أ القيمة الأولى أكبر ب القيمة الثانية أكبر
ج القيمتان متساويتان د المعطيات غير كافية

٧ ماقيمة س ؟



أ ٣٠ ب ٤٥
ج ٦٠ د ٩٠

٨ في الشكل المجاور أوجد قيمة :
١٨٠ - س - ص

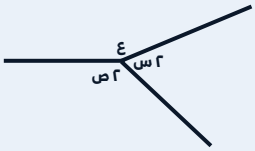

أ $\frac{ع}{٢}$ ب $\frac{ع}{٣}$
ج ٣ع د ع

٩ متجر أرباحه ٣٦٠٠٠ ريال في الشهر، ما أكبر قطاع مبيعاً في المتجر ؟



أ الكتب ب الجوالات
ج الالعاب د الكمبيوتر

١٠ في الجدول البياني التالي، ما مجموع أهداف ما سجله كل من عمر وخالد وعدنان ومجد ؟



أ ٩ ب ١٠
ج ٢٠ د ٣٤

١١ $\frac{س^{٥}}{٣٦} = \frac{٤}{٩ \times \frac{١}{٢}}$

أ ٢ ب ٤
ج ٦ د ٨

الجزء القادم
نلقاكم في القسم مئة واحدي عشر
ذاكر بذكاء ليس بجهد - أكاديمية بازيد

مفاتيح الاجوبة

١.أ	٢.ب	٣.ب	٤.ب	٥.ب	٦.أ	٧.ب	٨.أ	٩.ج	١٠.د	١١.أ

- كتاب أقسام الكمي -

SECTION111

القسم مئة واحدى عشر

مسائل حسابية . هندسة . جبر . احصاء

11 سؤال

مع مفتاح الإجابات

ذاكر بذكاء ليس بجهد

BAZAID ACADEMY 2026

القسم مئة واحدى عشر

١ ربع دائرة نصف قطر دائرتها ٨ ، أوجد محيط الشكل المجاور.

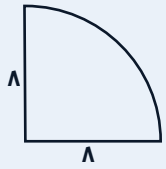

أ) ١٦ ط + ١٦ ب) ٤ ط + ١٦
ج) ٨ ط + ١٦ د) ٦ ط + ١٦

٢ إذا كان ص تتناسب عكسياً مع س ، ص= ٤ عندما س=٦
أوجد قيمة ص عندما س=١٢

أ) ٢ ب) ٤
ج) ٦ د) ٨

٣ $\frac{٢}{أ}$ $\frac{٣}{ل}$ $\frac{٥}{١٢}$

أ) ٥ ب) ١٠
ج) ١٢ د) ٢٠

٤ قارن بين :
القيمة الأولى : محيط دائرة نصف قطرها ٢ سم
القيمة الثانية : محيط مستطيل عرضه ٢سم ، وطوله ٢

أ) القيمة الأولى أكبر ب) القيمة الثانية أكبر
ج) القيمتان متساويتان د) المعطيات غير كافية

٥ إذا كان ب = (س - ص)^{٢} - ٢ س ص ، ٢ = (س + ص)^{٢} + ٢ س ص
أوجد ب + ٢

أ) ٢ (س^{٢} + ص^{٢}) ب) س^{٢} + ص^{٢}
ج) ٢ (س^{٢} - ص^{٢}) د) س^{٢} - ص^{٢}

٦ قارن بين :
القيمة الأولى : $(\frac{١}{٢})^{-٣}$
القيمة الثانية : $٣^{٧} \times ٣^{-٢} \times \frac{١}{٣٧}$

أ) القيمة الأولى أكبر ب) القيمة الثانية أكبر
ج) القيمتان متساويتان د) المعطيات غير كافية

٧ قارن بين :
القيمة الأولى : ٩ - ٠،٠٤٤ القيمة الثانية : ٩ - ٠،٠٤

أ) القيمة الأولى أكبر ب) القيمة الثانية أكبر
ج) القيمتان متساويتان د) المعطيات غير كافية

٨ في الشكل التالي
أحسب أ ب + ج د

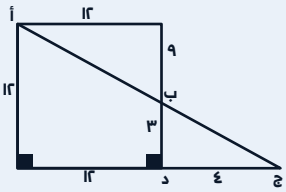

أ) ١٩ ب) ١٥
ج) ١٢ د) ١٠

٩ اذا كان محيط المثلث = ٢٨ قارن بين :
القيمة الأولى : ا + $\frac{س}{٢}$
القيمة الثانية : $\frac{\sqrt{س + ا}}{٢}$

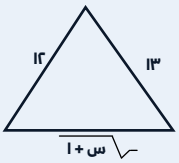

أ) القيمة الأولى أكبر ب) القيمة الثانية أكبر
ج) القيمتان متساويتان د) المعطيات غير كافية

١٠ $\frac{٠،٠٩ \times ٣}{٣،٩٤ \times ٠،٧٥} = \frac{٠،٣٣٣}{.....}$

أ) $\frac{١}{٤}$ ب) $\frac{١}{٣}$
ج) $\frac{١}{٥}$ د) $\frac{١}{٢}$

١١ لدينا غرفة طولها ١٠م ، وعرضها ٦م ، وتحتاج ٣ طن لتبريدها ، ما ارتفاع الغرفة بالمتر ؟

	وحدة حرارية
١ م^{٣}	٣٠٠
١ طن	١٢٠٠٠

أ) ١،٥ ب) ٢
ج) ٣ د) ٤

الجزء القادم
نلقاكم في القسم مئة واثنا عشر
ذاكر بذكاء ليس بجهد - أكاديمية بازيد

مفاتيح الاجوبة

١. ب	٢. أ	٣. د	٤. أ	٥. أ	٦. أ	٧. ب	٨. أ	٩. أ	١٠. ب	١١. ب

- كتاب أقسام الكمي -

SECTION112

القسم مئة واثنا عشر

مسائل حسابية . هندسة . جبر . احصاء

II سؤال

مع مفتاح الإجابات

ذاكر بذكاء ليس بجهد

BAZAID ACADEMY 2026

القسم مئة واثنا عشر

١ أوجد قيمة : $\frac{٧^{٥} + ٨^{٥}}{٧^{٥}}$

أ) ١٠ ب) ١٢
ج) ٢٦ د) ٦

٢ أربع اعداد متوسطهم ١٠ وعند أضافه عدد يصبح ٩ ، فما هذا العدد

أ) ٩ ب) ٥
ج) ٤ د) ٣

٣ قارن بين :
القيمة الأولى : $(\frac{١}{٢})^{-٣}$
القيمة الثانية : $٧^{٣} \times ٣^{-٢} \times \frac{١}{٣٧}$

أ) القيمة الأولى أكبر ب) القيمة الثانية أكبر
ج) القيمتان متساويتان د) المعطيات غير كافية

٤ ما احداثيات النقطة أ

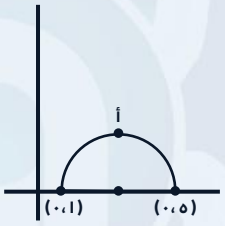

أ) (٢،٣) ب) (٢،١)
ج) (٢،٢) د) (٣،٢)

٥ أي الشركات اكثر ربحاً ؟

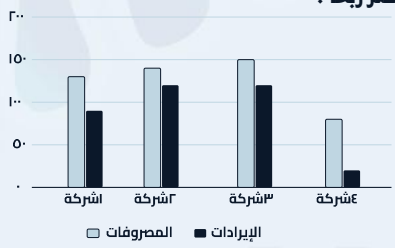

أ) شركة ١ ب) شركة ٢
ج) شركة ٣ د) شركة ٤

٦ أوجد قيمة : $\frac{\frac{١}{٣}}{\frac{١}{٣}+١} + \frac{١}{٣} =$

أ) $\frac{٣}{٤}$ ب) $\frac{٧}{١٢}$
ج) ٥ د) ١٢

٧ يدفع شخص في موقف السيارات ريالين لكل ساعة أو جزء منها ، فإذا وقف الساعة ٠٥ : ٢ مساءً وخرج الساعة ٤٥ : ٨ مساءً ، فكم المبلغ الذي سيدفعه ؟

أ) ١٠ ب) ١٢
ج) ١٤ د) ١٦

٨ إذا كان إنتاج المصنع الشهري ٤٠٠٠ قطعة ، كم عدد قطع الدانتيل المنتجة في الشهر ؟

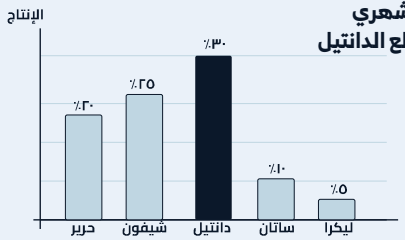

أ) ١٠٠٠ ب) ١١٠٠
ج) ١٢٠٠ د) ١٣٠٠

٩ إذا كان إنتاج المصنع الشهري ٤٠٠٠ قطعة ، كم عدد قطع الدانتيل الزائدة عن الشيفون؟

نوع القطعة	نسبة الإنتاج الشهري
حرير خام	٢٠%
الشيفون	٢٥%
الدانتيل	٣٠%
الساتان	١٠%
الليكرا	٥%

أ) ١٠٠ ب) ١٢٠
ج) ١٥٠ د) ٢٠٠

١٠ متجر أرباحه ٣٦٠٠ ريال في الشهر، ما أكبر قطاع مبيعاً في المتجر ؟



أ) الكتب ب) الجوالات
ج) الالعاب د) الكمبيوتر

١١ خمسة اعداد متتالية ، مجموع اول عددين٢ ، فما هو العدد الرابع ؟

أ) ١٦ ب) ١٣
ج) ١٢ د) ١٥

الجزء القادم

نلقاكم في القسم مئة وثلاثة عشر

ذاكر بذكاء ليس بجهد - أكاديمية بازيد

مفاتيح الاجوبة

١.د	٢.ب	٣.أ	٤.أ	٥.ب	٦.ب	٧.ج	٨.ج	٩.د	١٠.ج	١١.أ

- كتاب أقسام الكمي -

SECTION113

القسم مئة وثلاثة عشر

مسائل حسابية . هندسة . جبر . احصاء

11 سؤال

مع مفتاح الإجابات

ذاكر بذكاء ليس بجهد

BAZAID ACADEMY 2026

القسم مئة وثلاثة عشر

١ اي مما يلي ليس عدد أولي ؟

أ) ٧٧ ب) ٨٩
ج) ٣٧ د) ٥٣

٢ إذا كانت الزاويتان ٦س ، ٤س - ٢٠ متكاملتان، أوجد قيمة س

أ) ١٢ ب) ١٦
ج) ١٨ د) ٢٠

٣ إذا كانت العبارة ٢س^{٢} + ١١س + ١٥ تعبر عن مساحة مستطيل عرضه س + ٣ ، فما طوله؟

أ) ٢ س + ٣ ب) س + ٣
ج) ٢ س + ٥ د) س + ٥

٤ $\frac{\sqrt{٣٦}}{٣ \times ٢} = (\frac{س}{٦} + \frac{س}{٣} + \frac{س}{٢})$

أ) $\frac{س}{٦}$ ب) $\frac{س}{٢}$
ج) $\frac{س}{٣}$ د) س

٥ إذا كان للدائرة والمربع نفس المحيط ، قارن بين :
القيمة الأولى : مساحة الدائرة القيمة الثانية : مساحة

أ) القيمة الأولى أكبر ب) القيمة الثانية أكبر
ج) القيمتان متساويتان د) المعطيات غير كافية

٦ المثلثان متشابهان ،
أوجد قيمة س

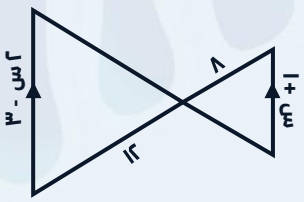

أ) ٦ ب) ٧
ج) ٨ د) ٩

٧ $(\frac{٦٦٦}{٣٣٣} \times (\frac{٤٤٤}{٥٥٥} \div \frac{٤٤٤٤}{٥٥٥٥})$

أ) ٢ ب) -٢
ج) ٦٦٦ د) ٣٣٣

٨ أوجد مساحة المظلل :

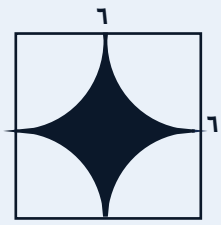

أ) ٣٠ - ٣ ط ب) ٢٤ - ٩ ط
ج) ٣٦ - ٩ ط د) ٣٦ + ٩ ط

٩ في الشكل المجاور ، مربع أقتطع أحد أركانه، كم متراً مربعاً مساحة الجزء المتبقي ؟

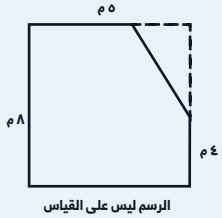

الرسم ليس على القياس

أ) ٦٤ ب) ٥٨
ج) ٤٤ د) ٤٠

١٠ ولد أحمد عام ١٤٢٠ هجري وتوفي عام ١٤٤٣ هجري
قارن بين :
القيمة الأولى : عمره بالهجري
القيمة الثانية : عمره بالميلادي

أ) القيمة الأولى أكبر ب) القيمة الثانية أكبر
ج) القيمتان متساويتان د) المعطيات غير كافية

١١ قارن بين :
القيمة الأولى : $\sqrt{٠,٠٠٠٠١}$
القيمة الثانية : ١٠$^{-٦}$

أ) القيمة الأولى أكبر ب) القيمة الثانية أكبر
ج) القيمتان متساويتان د) المعطيات غير كافية

الجزء القادم
نلقاكم في القسم مئة وأربعة عشر
ذاكر بذكاء ليس بجهد - أكاديمية بازيد

مفاتيح الاجوبة

١	٢	٣	٤	٥	٦	٧	٨	٩	١٠	١١
أ	د	ج	د	أ	د	أ	ج	ب	أ	أ

- كتاب أقسام الكمي -

SECTION114

القسم مئة وأربعة عشر

مسائل حسابية . هندسة . جبر . احصاء

11 سؤال

مع مفتاح الإجابات

ذاكر بذكاء ليس بجهد

BAZAID ACADEMY 2026

القسم مئة وأربعة عشر

١ في الشكل المجاور : أوجد قيمة هـ

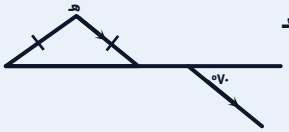

أ ٧٠ ب ١١٠
ج ٤٠ د ٦٠

٢ طابعة تطبع كتاب من صفحة اوطبعت ٢٥٨ رقم في ترقيم صفحات الكتاب ، كم عدد صفحات الكتاب ؟

أ ١٢١ ب ١٢٢
ج ١٢٣ د ١٢٤

٣ مدرب يتقاضى ٦٠٠ريال + جوال إذا عمل ٦ساعات و ١٠٠ ريال + جوال إذا عمل ٤ ساعات ، كم سعر الجوال ؟

أ ٥٠٠ ب ٧٠٠
ج ٩٠٠ د ١١٠٠

٤ ماقيمة س ؟

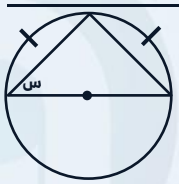

أ ٣٠ ب ٤٥
ج ٦٠ د ٩٠

٥ قارن بين :
-القيمة الاولى : مساحه المثلث التي بداخل المربع
-القيمة الثانية : مساحة المثلث التي بداخل المستطيل

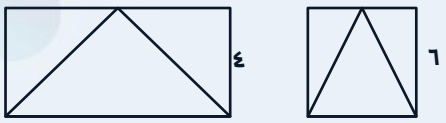

أ القيمة الأولى أكبر ب القيمة الثانية أكبر
ج القيمتان متساويتان د المعطيات غير كافية

٦ في الشكل التالي ، س بالسنتمتر تساوي :

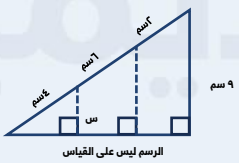

أ ٦ ب ٥
ج ٤ د ٣

٧ مساحة الشكل = ...

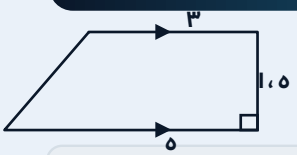

أ ٦ ب ٦،٥
ج ٤ د ٤،٥

٨ قارن بين :
القيمة الأولى : $(٠,١)^{٢٢}$ القيمة الثانية : $(٠,١)^{٣٣}$

أ القيمة الأولى أكبر ب القيمة الثانية أكبر
ج القيمتان متساويتان د المعطيات غير كافية

٩ يمثل الرسم البياني عدد السكان في عدة مناطق مختلفة، أي منطقة سجلت أكبر نسبة زيادة في عدد السكان بين عامي ١٤١١ هـ و١٤٢٠ هـ والفترة التي قبلها ؟

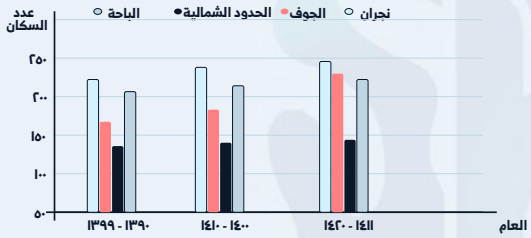

أ نجران ب الجوف
ج الحدود الشمالية د الباحة

١٠ أي الشركات اكثر ربحاً ؟

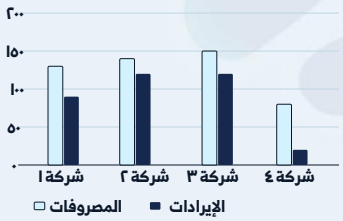

أ شركة ١ ب شركة ٢
ج شركة ٣ د شركة ٤

١١ إذا كانت ن > ٠ ، ما هي أكبر قيمة لـ ن؟

أ $ن^{٢}$ ب $ن^{٣}$
ج ن د $ن^{٢}$

الجزء القادم
نلقاكم في القسم مئة وخمسة عشر
ذاكر بذكاء ليس بجهد - أكاديمية بازيد

مفاتيح الاجوبة

١.ج	٢.ب	٣.ج	٤.ب	٥.ج	٦.د	٧.أ	٨.أ	٩.ب	١٠.ب	١١.أ

- كتاب أقسام الكمي -

SECTION115

القسم مئة وخمسة عشر

مسائل حسابية . هندسة . جبر . احصاء

II سؤال

مع مفتاح الإجابات

ذاكر بذكاء ليس بجهد

BAZAID ACADEMY 2026

القسم مئة وخمسة عشر

١ في الرسم البياني المجاور، إذا كان إجمالي مبيعات مخبز في شهر رمضان ٢٠٠٠ريال،كم تبلغ مبيعات الكنافة والخبز؟

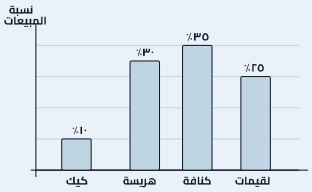

أ) ٣٢٥ ب) ٦٥٠
ج) ٩٧٥ د) ١٣٠٠

٢ في الرسم البياني المجاور، إذا كان إجمالي مبيعات مخبز في شهر رمضان ٢٠٠٠ ريال، ما الفرق بين مبيعات اللقيمات والكيك ؟



أ) ١٥٠ ب) ٢٠٠
ج) ٢٥٠ د) ٣٠٠

٣ قارن بين:
القيمة الأولى : ٤٨° القيمة الثانية : س

أ) القيمة الأولى أكبر ب) القيمة الثانية أكبر
ج) القيمتان متساويتان د) المعطيات غير كافية

٤ أوجد قيمة : ن٢ + (٥ x ل) ÷ ٣ حيث ن = ٤ ، ل = ٣

أ) ١٨ ب) ٢٠
ج) ٢١ د) ٢٨

٥ أوجد مساحة الشكل التالي :

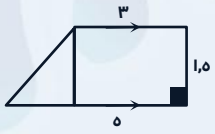

أ) ٤,٥ ب) ٥,٥
ج) ٦ د) ٧

٦ إذا كان المسافة من س إلى ص = ١٢
والمسافات بينهما متساوية قارن بين :
-القيمة الأولى : - ٣ القيمة الثانية : س ل



أ) القيمة الأولى أكبر ب) القيمة الثانية أكبر
ج) القيمتان متساويتان د) المعطيات غير كافية

٧ قارن بين :
القيمة الأولى : (المصروفات - الرواتب)٢
القيمة الثانية : (الرواتب - المصروفات)٢

أ) القيمة الأولى أكبر ب) القيمة الثانية أكبر
ج) القيمتان متساويتان د) المعطيات غير كافية

٨ موقف سيارات يتسع ٤٣٢ سيارة مقسمة إلى ستة أجزاء كل جزء مكون من ٧٢ موقف ومرتبة حسب اللون (أحمر - أبيض - أخضر - أصفر - أسود - أزرق) على الترتيب ، ما لون السيارة في الموقف رقم ٣٦٠؟

أ) أبيض ب) أسود
ج) أزرق د) أصفر

٩ اذا كان المثلث متطابق الاضلاع و محيط المثلث = ٢٤ ، أوجد مساحة الشكل

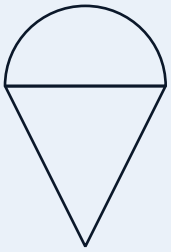

أ) ٨ (٢√٣ + ط) ب) ٢ (٤√٢ + ٣ط)
ج) ١٦ (٢√٣ + ٢ط) د) ٢ (٩√٦ + ٢ط)

١٠ ولد أحمد عام ١٤٢٠ هجري وتوفي عام ١٤٤٣ هجري
قارن بين :
القيمة الأولى : عمره بالهجري
القيمة الثانية : عمره بالميلادي

أ) القيمة الأولى أكبر ب) القيمة الثانية أكبر
ج) القيمتان متساويتان د) المعطيات غير كافية

١١ حبل طوله ١١,٥ سم قسم إلى عدة قطع كل قطعة ٠,٥٥ متر فكم عدد القطع ؟

أ) ٣ ب) ٥
ج) ٧ د) ٩

الجزء القادم
نلقاكم في القسم مئة وستة عشر
ذاكر بذكاء ليس بجهد - أكاديمية بازيد

مفاتيح الاجوبة

١. د	٢. د	٣. ج	٤. ج	٥. ج	٦. ب	٧. ج	٨. ب	٩. أ	١٠. أ	١١. د

- كتاب أقسام الكمي -

SECTION116

القسم مئة وستة عشر

مسائل حسابية . هندسة . جبر . احصاء

II سؤال

مع مفتاح الإجابات

ذاكر بذكاء ليس بجهد

BAZAID ACADEMY 2026

القسم مئة وستة عشر

١ أوجد ناتج : $٩٢٥ + ٩٢٥ + ٩٢٥ + ٩٢٥ + ٩٢٥ =$

أ) $٩^{١٩٥}$ ب) $٩^{٢٠٥}$
ج) $٩^{٨٢٥}$ د) $٩^{٩٢٥}$

٢ إذا كانت المسافة من الرياض إلى مدينة أخرى تساوي ١٦ سم على الخريطة ، وكان مقياس الخريطة ٥٠٠٠٠٠٠ : ١ فكم المسافة الحقيقية بالكيلو متر ؟

أ) ٨٠٠ ب) ٩٠٠
ج) ١٦٠ د) ٥٠٠

٣ بدأت هند بقراءة كتاب من الصفحة ٣٠وانتهت من القراءة في الصفحة ٧٥، كم عدد الصفحات التي قرأتها ؟

أ) ٣٥ ب) ٤٠
ج) ٤٦ د) ٥٠

٤ أوجد الناتج الموجب إذا علمت أن س = -١

أ) $(س)^{-١}$ ب) $-(س)^{-١}$
ج) $-(-س)^{-١}$ د) ٢٠ x س

٥ قارن بين :
القيمة الأولى : $٠,٠٠٠٠١$
القيمة الثانية : $١٠^{-٦}$

أ) القيمة الأولى أكبر ب) القيمة الثانية أكبر
ج) القيمتان متساويتان د) المعطيات غير كافية

٦ قارن بين :
القيمة الأولى : حجم غرفة أبعادها ٣م، ٤م، ٥م
القيمة الثانية : حجم غرفة أبعادها $\frac{١}{٢}$ ٣م، ٤م، $\frac{١}{٢}$ ٤م

أ) القيمة الأولى أكبر ب) القيمة الثانية أكبر
ج) القيمتان متساويتان د) المعطيات غير كافية

٧ إذا كانت مساحة الشكل المجاور = ٢١ ، أحسب محيط الشكل

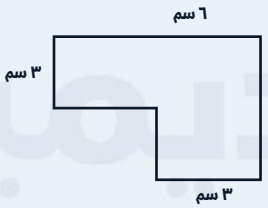

أ) ١٨ ب) ٢٠
ج) ٢٢ د) ٢٤

٨ في الشكل التالي، أوجد قيمة س

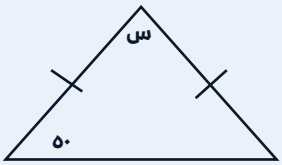

أ) ٨٠ ب) ٧٥
ج) ١٠٠ د) ٩٠

٩ اذا كانت : $٢^{س} = ٣$ فإن $٨^{س}$

أ) ٩ ب) ١٦
ج) ٢٧ د) ٨١

١٠ أوجد الفرق بين أعلى درجة وأقل درجة بين درجات الطالبات



أ) ٢٠ ب) ٢٥
ج) ٤٠ د) ٥٠

١١ أي الشركات اكثر ربحاً؟

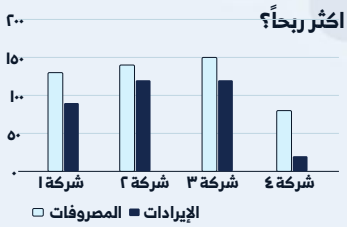

أ) شركة ١ ب) شركة ٢
ج) شركة ٣ د) شركة ٤

الجزء القادم
نلقاكم في القسم مئة وسبعة عشر
ذاكر بذكاء ليس بجهد - أكاديمية بازيد

مفاتيح الاجوبة

١. أ	٢. أ	٣. ج	٤. ب	٥. أ	٦. ب	٧. ب	٨. أ	٩. ج	١٠. د	١١. ب

- كتاب أقسام الكمي -

SECTION 117

القسم مئة وسبعة عشر

مسائل حسابية . هندسة . جبر . احصاء

II سؤال

مع مفتاح الإجابات

ذاكر بذكاء ليس بجهد

BAZAID ACADEMY 2026

القسم مئة وسبعة عشر

١ إذا كانت س^{٣} = ٣٤٣ ، أوجد قيمة س

أ) ٦ ب) ٧
ج) ٨ د) ٩

٢ يسير قطار بسرعة ١ كيلومتر كل دقيقة و ٢٠ ثانية، فكم يقطع من الكيلومترات في ساعة واحدة؟

أ) ١٣ ب) ١٥
ج) ٤٥ د) ٥٠

٣ رجل يوفر ١٥٪ من مرتبه كل شهر ، وراتبه ٧٠٠٠ كم سيوفر بنهاية السنه؟

أ) ١٢٦٠٠ ب) ١٢٨٤٠
ج) ١٢٨٠٠ د) ١٣٠٠٠

٤ عائلة اشترت سياره بـ ٣٨٠٠٠ريال و باعتها بـ زياده ١٠٪ ، بكم باعتها بالريالات؟

أ) ٤٠٠٠٠ ب) ٤١٨٠٠
ج) ٣٩٨٠٠ د) ٦٥٧٠٠

٥ قارن بين :
القيمة الأولى : $\frac{١١}{١١١}$ القيمة الثانية : ١ ، ٠

أ) القيمة الأولى أكبر ب) القيمة الثانية أكبر
ج) القيمتان متساويتان د) المعطيات غير كافية

٦ من الشكل المجاور ، قارن بين :
القيمة الأولى : $\frac{١}{٢}$
القيمة الثانية : ص

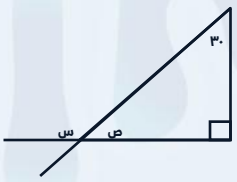

أ) القيمة الأولى أكبر ب) القيمة الثانية أكبر
ج) القيمتان متساويتان د) المعطيات غير كافية

٧ في الشكل المجاور أ ب ج د مربع مساحته ١٠٠سم ، يعلوه مثلث أهـ د مساحته ١٠٠سم ، أوجد طول الخط الأحمر ؟

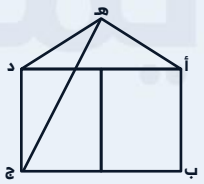

أ) ١٣ ب) ١٤
ج) ١١ د) ١٢

٨ أوجد قيمة س في الشكل المجاور :

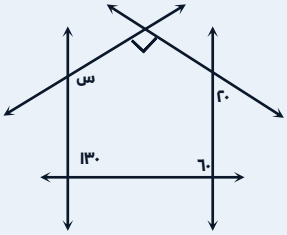

أ) ٦٠ ب) ٩٠
ج) ١٠٠ د) ١٢٠

٩ إذا كان هناك ٣ مجالات و ٤ متقدمين ، وكل إجابة سؤال صحيحة بنقطتين ، وكل خطأ بنقطة واحدة ، فمن أفضل المتقدمين في مجال الحاسب؟

	لغة انقليزية	حاسب	فرنساوي
الأول	٣	٤	٢
الثاني	٢	٤	٤
الثالث	٥	٤	٣
الرابع	٣	٥	٦

أ) الأول ب) الثاني
ج) الثالث د) الرابع

١٠ الشكل البياني يمثل عدد لوحات رسامين لعام ١٤٢٧ - ١٤٢٨ أوجد متوسط عدد لوحات هشام في العامين

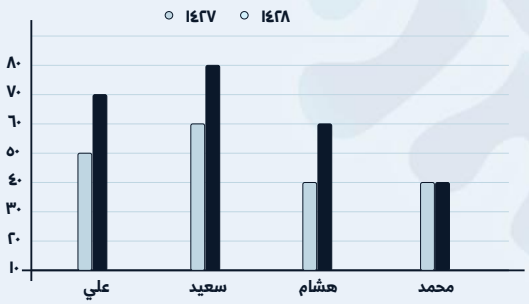

أ) ٤٠ ب) ٥٠
ج) ٦٠ د) ٧٠

١١ إذا كان أ - ب = ٥ ، ب - ج = ٣ ، ج + د = ١
أوجد قيمة أ + د

أ) ٢ ب) ٤
ج) ٦ د) ٩

الجزء القادم
نلقاكم في القسم مئة وثمانية عشر
ذاكر بذكاء ليس بجهد - أكاديمية بازيد

مفاتيح الاجوبة

١. ب	٢. ج	٣. أ	٤. ب	٥. ب	٦. ج	٧. أ	٨. ج	٩. د	١٠. ب	١١. د

- كتاب أقسام الكمي -

SECTION118

القسم مئة وثمانية عشر

مسائل حسابية . هندسة . جبر . احصاء

11 سؤال

مع مفتاح الإجابات

ذاكر بذكاء ليس بجهد

BAZAID ACADEMY 2026

القسم مئة وثمانية عشر

١ جلست ٣ طالبات حول طاولة، إذا انضم لهن مثليهن وغادرت طالبتان، ما عدد الطالبات المتبقي؟

أ) ٣ ب) ٤
ج) ٥ د) ٧

٢ إذا كان ٣أمثال عُمّر محمد أقل من عُمّر والده بثلاث سنوات، فكم سنة عُمّر والده إذا كان عُمّره الأن ١٥ سنة ؟

أ) ٤٥ ب) ٤٦
ج) ٤٨ د) ٤٩

٣ إذا كانت الطاولة الواحدة لها رجل واحدة، والكرسي له ثلاثة أرجل، وكل طاولة يحيط بها ٤ كراسي فقط، فكم عدد الكراسي إذا كان عدد الأرجل ٦٥؟

أ) ٢٠ ب) ١٨
ج) ١٦ د) ١٢

٤ ١ + ٢ + ٣ + ٤ + ٥ + ٦ + ٥ + ٤ + ٣ + ٢ + ١

أ) ٩ x ٧ ب) ٥ x ٧
ج) ٦ x ٧ د) ٤ x ٧

٥ باع تاجر سلعة ب ٢٤٠٠ ريال بربح ٢٠٪، كم يكون سعرها إذا باعها بربح ٥٪ ؟

أ) ٢٠٠٠ ب) ٢١٠٠
ج) ٢٢٠٠ د) ٢٣٠٠

٦ قيمة ١٠ قطع فضية وقطعة واحدة ذهبية تساوي قيمة ٣ قطع ذهبية، قارن بين :

القيمة الأولى	القيمة الثانية
قيمة قطعة واحدة ذهبية	قيمة ٥ قطع فضية

أ) القيمة الأولى أكبر ب) القيمة الثانية أكبر
ج) القيمتان متساويتان د) المعطيات غير كافية

٧ مثلث أطوال أضلاعه ٩، ٨، ٧ ومحيطه يساوي محيط مربع، قارن بين :
القيمة الأولى : محيط المربع القيمة الثانية : ٨ سم

أ) القيمة الأولى أكبر ب) القيمة الثانية أكبر
ج) القيمتان متساويتان د) المعطيات غير كافية

٨ في الشكل التالي، دائرة مركزها م، ونصف قطرها ٤سم، كم سنتيمتراً مربعاً مساحة الجزء المظلل ؟



الرسم ليس على القياس

أ) ١٢ ط ب) ١٠ ط
ج) ٦ ط د) ٤ ط

٩ في الشكل المجاور، أوجد قيمة س بالسنتمتر:

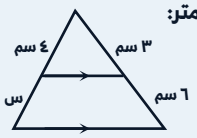

أ) ٢ ب) ٤
ج) ٦ د) ٨

١٠ ما نسبة زيادة ميزانية المعهد من عام ١٤٢٨ إلى عام ١٤٢٩؟

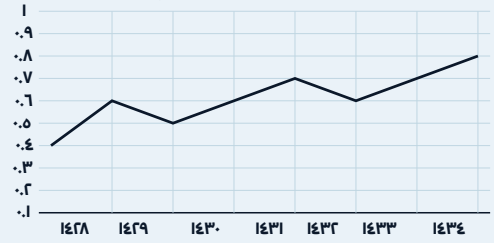

أ) ٧٥٪ ب) ٥٠٪
ج) ٣٣٪ د) ٢٠٪

١١ إذا كان متوسط لتر البنزين في العالم لعام ٢٠١٥م هو ١,١٠ دولار فإن نسبة سعر لتر البنزين في السعودية إلى متوسط سعر لتر البنزين في العالم يساوي:

الدولة	سعر لتر البنزين بالدولار - ٢٠١٥
الكويت	٠,٢١
نيجيريا	٠,٤٦
السعودية	٠,١٥
كندا	١,٠١
إندونيسيا	٠,٧٣
فنزويلا	٠,٠٢

أ) ٣ : ٨ ب) ٢ : ٧
ج) ١ : ١٥ د) ٣ : ٢٢

الجزء القادم
نلقاكم في القسم مئة وتسعة عشر
ذاكر بذكاء ليس بجهد - أكاديمية بازيد

مفاتيح الاجوبة

١. د	٢. ج	٣. أ	٤. ج	٥. ب	٦. ج	٧. ب	٨. د	٩. د	١٠. ب	١١. د

- كتاب أقسام الكمي -

SECTION119

القسم مئة وتسعة عشر

مسائل حسابية . هندسة . جبر . احصاء

11 سؤال

مع مفتاح الإجابات

ذاكر بذكاء ليس بجهد

BAZAID ACADEMY 2026

القسم مئة وتسعة عشر

١ يوم الثلاثاء حدث نزول بالأسهم بنسبة ٣٠٪ وخفض سعر السهم ٠,٣ ريال ، فقارن بين :
القيمة الأولى : ٣٠ ريال القيمة الثانية : سعر السهم قبل الخصم

أ القيمة الأولى أكبر
ب القيمة الثانية أكبر
ج القيمتان متساويتان
د المعطيات غير كافية

٢ $\frac{٢}{١ - \sqrt{٣}}$ = ...

أ $١ + \sqrt{٣}$
ب $١ - \sqrt{٣}$
ج $\sqrt{٣} - ٢$
د $\sqrt{٣} + ٢$

٣ إذا كان س ع + س ص = ١٠٠ ، فما قيمة $\frac{س}{٥}$ (٣ص + ٣ع) + ١٠ ؟

أ ٦٠ + ٣س
ب ٦٢
ج ١٣٠ + ٣س
د ٧٠

٤ في عام ١٤٣٧ هـ عُمْر خالد سنة واحدة عُمْر محمد أربع سنوات ، في أي عام يكون عُمْر خالد ثلاثة أرباع عُمْر محمد ؟

أ ١٤٤٤ هـ
ب ١٤٤٥ هـ
ج ١٤٤٦ هـ
د ١٤٤٧ هـ

٥ ما العام الذي يوجد فيه أكبر احتياج للمهن الصناعية؟

العام	المهن الزراعية	المهن الصناعية	المهن الهندسية	إجمالي الأحتياج في هذه المهن	أعداد المتخرجين
٢٠١٠	٦٧٨	٢٨٢٥	٣١٥٧	٦٦٦٠	٦٦٦
٢٠١١	٥٠٠	٣٠٠٠	٣٥٠٠	٧٠٠٠	٣٥٠
٢٠١٢	١٠٠٠	٥٠٠٠	٤٠٠٠	١٠٠٠٠	٥٠٠
٢٠١٣	٩٠٠	٣١٠٠	٤٥٠٠	٨٥٠٠	١٧٠
٢٠١٤	١٠٤٣	٣٢٧٩	٥١٧٨	٩٥٠٠	١٩٠٠

أ ٢٠١١
ب ٢٠١٢
ج ٢٠١٣
د ٢٠١٤

٦ إذا كان وسيط العداد التالية : ص ، ٤ ، ٥ ، ٢ ، ١١ ، ١٦ هو ٦ ، فإن ص يمكن أن تكون :

أ ٢
ب ٣
ج ٥
د ٧

٧ اذا كانت ب ج = ٢٥٪ أ ب ، أوجد طول الضلع أ ج



أ ٢
ب ٦
ج ٨
د ٥

٨ أوجد الحد التالي في النمط : ١٢ ، ١٣ ، ١١ ، ١٢

أ ٩
ب ١٠
ج ١٣
د ١٤

٩ ق (ج أ ب) = ق (ب د هـ) = ٦٠°
قارن بين :
القيمة الأولى : ج ب القيمة الثانية : ب د

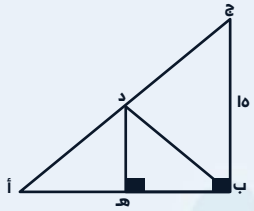

(الرسم ليس على القياس)

أ القيمة الأولى أكبر
ب القيمة الثانية أكبر
ج القيمتان متساويتان
د المعطيات غير كافية

١٠ ما العام الذي زادت فيه نسبة المتفوقين من الطلاب التعليم العام على نسبة المتفوقين من طلاب تحفيظ القران الكريم في العينات المختارة؟

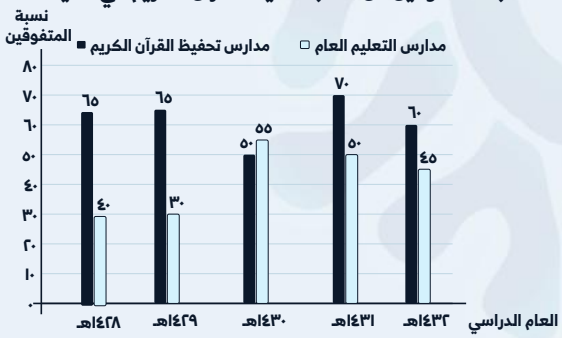

أ ١٤٣٢ هـ
ب ١٤٣١ هـ
ج ١٤٣٠ هـ
د ١٤٢٩ هـ

١١ مستطيل محيطه = ٤٨ إذا نقص طوله ٢ وزاد عرضه ٢ أصبح مربعاً ، ما مساحة المربع ؟

أ ٩٦
ب ١١٨
ج ١٤٤
د ١٨٦

الجزء القادم
نلقاكم في القسم مئة وعشرون
ذاكر بذكاء ليس بجهد - أكاديمية بازيد

مفاتيح الاجوبة

١. أ	٢. أ	٣. د	٤. ب	٥. ب	٦. د	٧. د	٨. ب	٩. أ	١٠. ج	١١. ب

- كتاب أقسام الكمي -

SECTION120

القسم مئة وعشرون

مسائل حسابية . هندسة . جبر . احصاء

11 سؤال

مع مفتاح الإجابات

ذاكر بذكاء ليس بجهد

BAZAID ACADEMY 2026

القسم مئة وعشرون

١ إذا كان متوسط أربعة أعداد فردية متتالية = ١٠ ، فما متوسط آخر عددين ؟

أ) ١٠ ب) ١٢ ج) ٢٤ د) ٣٢

٢ إذا كان متوسط الأعداد (٥ ، ٦ ، ٩ ، س) يساوي فما قيمة س ؟

أ) ١٢ ب) ١٤ ج) ١٦ د) ١٨

٣ أوجد قيمة ما يلي : $\frac{٤\sqrt{١٨} - \sqrt{٨}}{٢\sqrt{٥}}$

أ) ٥ ب) ٤ ج) ٢ د) ١٠

٤ إذا كان احد المصانع يستغرق ٤٠ يوم لانتاج احد منتجاته ، إذا زاد عدد ساعات للعمل إلى ١٠ بدلا من ٨ يوميا فإن التغير في عدد الأيام سيكون ؟

أ) ١٠ ب) ٨ ج) ١٢ د) ١١

٥ قارن بين :

القيمة الأولى : $\frac{\frac{٦}{٥}}{\frac{٥}{٦}}$ القيمة الثانية : $\frac{\frac{٥}{٦}}{\frac{٦}{٥}}$

أ) القيمة الأولى أكبر ب) القيمة الثانية أكبر ج) القيمتان متساويتان د) المعطيات غير كافية

٦ قارن بين :

القيمة الأولى: محيط معين طول قطريه ٨م ، ١٠م

القيمة الثانية : محيط مربع مساحته ٢٥م^{٢}

أ) القيمة الأولى أكبر ب) القيمة الثانية أكبر ج) القيمتان متساويتان د) المعطيات غير كافية

٧ مستطيل طوله $\frac{١}{٣}$ ٥ وعرضة $\frac{٥}{٤}$ ١ ، فكم مساحته ؟

أ) ١٢ ب) ١٥ ج) ١٦ د) ١٨

٨ سلك طوله ٢٠سم ، صُنع منه مربع ما مساحة المربع ؟

أ) ١٥ سم ب) ٢٠ سم ج) ٢٥ سم د) ٣٠ سم

٩ الرسم البياني يمثل كميات وقود بالترات اللتي صرفتها سياره لخزانين (أ) و (ب) ، عندما صرف الخزانين نفس من اللترات كم كانت السرعة لكليهما؟

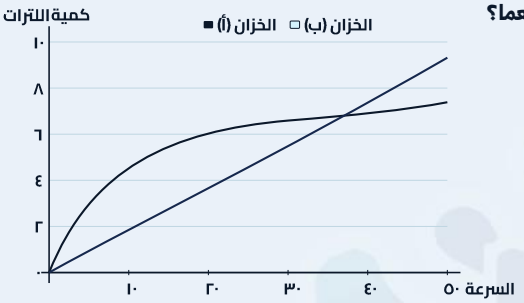

أ) ٢٠ ب) ٣٠ ج) ٤٠ د) ٥٠

١٠ الرسم البياني يمثل كميات وقود بالترات اللتي صرفتها سياره لخزانين (أ) و (ب) ، كم صرف الخزان (ب) من اللترات عندما كانت سرعته ٣٠ ؟

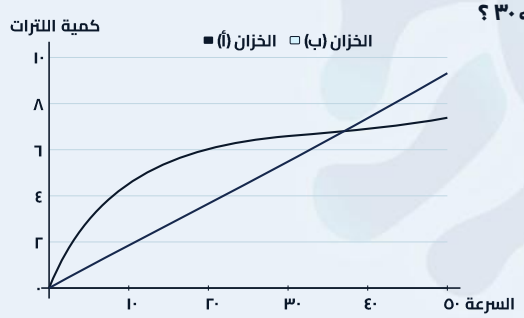

أ) ٤ ب) ٦ ج) ٨ د) ١٠

١١ أود قيمة : $\frac{\text{س} (\text{س}^{٢} - \text{ص}^{٢})}{\text{س} + \text{ص}}$

أ) س^{٢} - س ص ب) س^{٢} - ص^{٢} ج) س + ص د) س - ص

الجزء القادم

نلقاكم في القسم مئة وواحد وعشرون

ذاكر بذكاء ليس بجهد - أكاديمية بازيد

مفاتيح الاجوبة

١. ب	٢. ج	٣. ج	٤. ب	٥. أ	٦. أ	٧. أ	٨. ج	٩. ج	١٠. ب	١١. أ